Subject: Date:

سكشن (1):

• بتقييس الحاجات الى أقل من ملي.

• أجهزة القياس الدقيقة:

← الوحدات الاساسية: الكتلة - الطول - الزمن.

= كميات ↓ M ↓ l ↓ T

• الكميات أو الوحدات الاساسية هي التي تكون الكميات المشتقة.

بمعنى أخر أن الكميات المشتقة تُشتق من الكميات الاساسية.

• الكميات المشتقة تتكون من 2 فأكثر من الكميات القياسية.

• الكميات لابد من ترتيبها: (M l T).

1- الكتلة M. 2- الطول: l 3- الزمن T.

← ما الفرق بين الكتلة و الوزن؟ = القوة

كمية اساسية. كمية مشتقة. $(F = m \cdot g)$

← القدمة ذات الورنية:

دقتها: 0.05mm ← أقل قراءة يمكن الحصول عليها. قراءة أخرى: 0.1mm.

← أكثر دقة.

$A = \pi r^2 \cdot h$ ← حجم الاسطوانة.

← مساحة القاعدة. ← الارتفاع

• بنشوف صفر الورنية جه عند رقم (إيه من القدمة)؟



← قراءة صفر الورانية مثلاً عند 5 سم

• لو الصفر بين رقمين من القدمة نأخد القراءة الاقرب مثال:

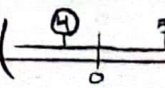

ناخد القراءة أنها 4 سم لأن الشوية دول محصلوش 4.1 لذلك نترك الصفر وندور على الرقم تحت الصفر وناخد بيه.

Alaziz

Subject : Date :

• دقة الميكرومتر (0.01mm).

القراءة هنا لكها بالملل

← في تدريج أفقي وتدريج دائري بقرأهم ونجمعهم مع بعض.

• التدريج الأفقي كل شرطة منه يعطي واحد (1mm).

← في التدريج لما ألاقي رقم (5) يبقى قبلها (1) مش ($\frac{1}{2}$).

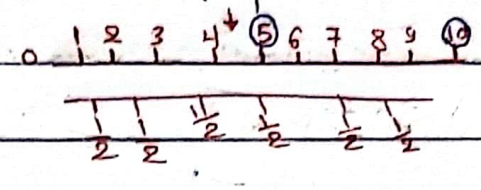

• في التدريج الدائري (0.01) نحوله (0.01×10).

سكشن (2):

البندول البسيط

هناك نوعان من العجلة (عجلة خطية - عجلة الجاذبية الأرضية) (g)

← العجلة الخطية: سرعة ($l \div T$) / زمن (T) $= \frac{lT^{-1}}{T} = lT^{-2}$ ← سم/ث² / م/ث²

← عجلة الجاذبية الأرضية: سرعة الجسم أثناء سقوطه سقوط حر.

9.8 ← 980 cm/s² ← 9,8 m/s²

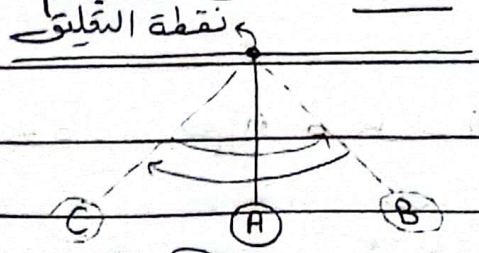

• الذبذبة الكاملة راحت من B لـ C ورجعت من C ← B

← الزمن الدوري (T) ← هو زمن حدوث الذبذبة الكاملة.

$$t = 2\pi\sqrt{\frac{l}{g}} \qquad t^2 = 4\pi^2 \frac{l}{g} \rightarrow t^2 = \text{constant} \cdot l$$

طول الخيط

ثوابت

عجلة الجاذبية

$$\frac{t_1^2}{t_2^2} = \frac{l_1}{l_2}$$

Subject : Date :

• وزن الكرة لا يؤثر في الزمن الدوري ابداً.

$t^2 \cdot g = 4\pi^2 l$. $\frac{t^2}{l} = \frac{4\pi^2}{g}$

• الازاحة X سعة الاهتزازة :- هي أقصى مسافة تبعدها الكرة عن موضع الاستقرار.

يمكن تقريب الرقم هنا . بنعملها مرتين للتأكد

l ← طول خيط البندول	زمن 20 ذبذبة 1	زمن 20 ذبذبة 2	متوسط	زمن الذبذبة الواحدة (t)	t^2
40	25.3	25.5		$\frac{\text{المتوسط}}{20}$	نربعها
60	ده زمن 20 ذبذبة في 40 l				
80					
100					
120					

• الميل :- خط يمر بجميع النقاط.

• نقطة الصفر ← مفيش طول - مفيش زمن.

شروط الخط الصحيح:

1- يمر الخط بجميع النقط. لو نقطتين فوق او تحت X.

2- لما يكون فوق واحدة وتحت واحدة ← حتى لو مش قريبين من بعض.

المسافة تكون متساوية

3- مينفعش يكون واحدة قريبة من الخط وواحدة بعيدة عن الخط.

4- ~~Excel~~ Excel ← مش علينا

• بنحط المسطرة عند الصفر ونقعد نحرك المسطرة بحيث تمر بأكبر عدد من النقط

الحل إما نعيدها أو ناخد نقطة موازية



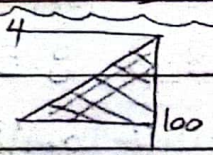

أو مثلاً $\left(\frac{t^2}{l} = \frac{4}{100}\right)$

في المثلث الكبير ده بناخد أي ارقام بس مش معانا (يعني الـ 4 والـ 100 دول مش بيكونوا في جدولنا).

$g = \frac{4\pi^2}{\text{الميل}} = \frac{4\pi^2}{\left(\frac{t^2}{l}\right)}$

• بنحسب في الطول معانا نص الكورة.

Subject : Date :

سكشن (3) :-

تحقيق قانون بويل عمليًا واستنتاج قيمة الضغط الجوي

عكسي

$P \cdot V = \cancel{\text{const}}$ constant (1)

• ضغط كتلة من الغاز يتناسب عكسي مع حجمه .

الضغط = $\frac{\text{القوة}}{\text{المساحة } l^2}$

• الضغط هو القوة المؤثرة على وحدة من المساحات

$M l^{-1} T^{-2}$ ← (مم سم$^{-1}$ ث$^{-2}$) ← (كجم م$^{-1}$ ث$^{-2}$)

القوة = كتلة × عجلة

$\boxed{l T^{-2}}$ ← M

وحدة الضغط = $\frac{\text{نيوتن}}{\text{م}^2}$ ← $\frac{\text{داين}}{\text{سم}^2}$

من داين ← (10^{-5}) نيوتن

• من $\frac{\text{داين}}{\text{سم}^2}$ ← (10^{-1}) × $\frac{\text{نيوتن}}{\text{م}^2}$

• الضغط الواقع على الجهاز ← P ، 2) $P = Pa + H$ ← في الجهاز إلى جهاز الأنبوبتين

الفرق بين سطحي الزئبق في كلا الفرعين .

3) $V = A \cdot l$ ← طول عمود الهواء المحبوس

4) $(Pa + H) \cdot (A \cdot l) = \text{Constant}$

ثابت ← Pa ، ثابت ← A

$(H \cdot l) \rightarrow \text{Constant}$

• العلاقة بين (H) و (l) عكسي .

• العلاقة بين (H) و $(\frac{1}{l})$ طردي .

	−	−	−	Zero	+	+	+
H		9.4	4.9	Zero	10.1	15.3	18.5
l		9.6	8.8	8.5	7.5	6.3	5.1
$\frac{1}{l}$		يزيد 0.109	0.114	0.118	يقل 0.133	0.159	0.196

أول الزئبق وآخر الأنبوبة

Subject : _____ Date : _____

1) أساوي سطح الزيبق.

2) h ← (zero) يبقى مفيش قياس.

• سالب قيمة الضغط الجوي (-76).

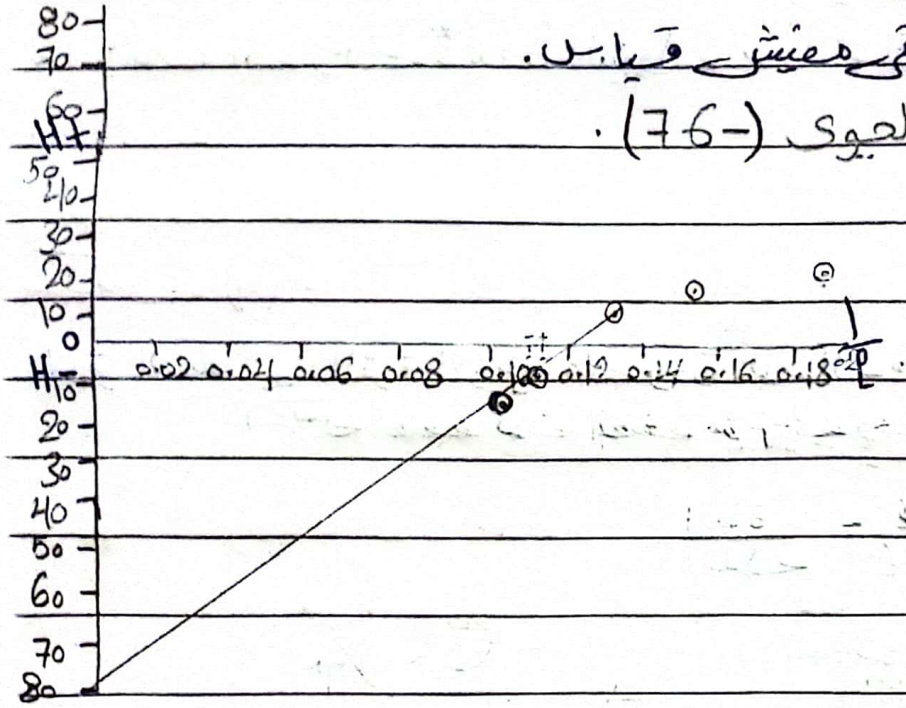

1. بندول بسيط طول خيطه 100 سم ما هو الزمن الدوري لبندول آخر موضوع في نفس المكان اذا علمت أن طول خيط البندول الثاني هو (20سم و 60 سم) ؟

2. أحسب طول خيط البندول اذا علمت أن عجلة الجاذبية 9.8 م/ث² والزمن الدوري 10.0 دقيقة ؟

3. أحسب عجلة الجاذبية اذا علمت أن طول خيط البندول 40 سم والزمن الدوري 7 ثواني ؟

4. أحسب النسبة بين زمنين لبندولين بسيطين موجدين في نفس المكان اذا علمت ان النسبة بين طولي البندولين (1:3) ؟

Subject : Date :

5- أحسب النسبة بين طولي بندولين بسيطين موجودين في نفس المكان اذا علمت ان زمن ذبذبة البندول الأول 4 ثواني وذبذبة البندول الثاني 2 ثواني ؟

سكشن (4) :

التوتر السطحي : القوة المؤثرة على وحدة الأطوال من السائل .
← عكس الضغط لأن الضغط مؤثر على وحدة المساحات .

kg/s^2 & g/s^2 ← $M \cdot T^{-2} = \frac{mt}{T^2 t} = \frac{\text{القوة}}{\text{الطول}}$

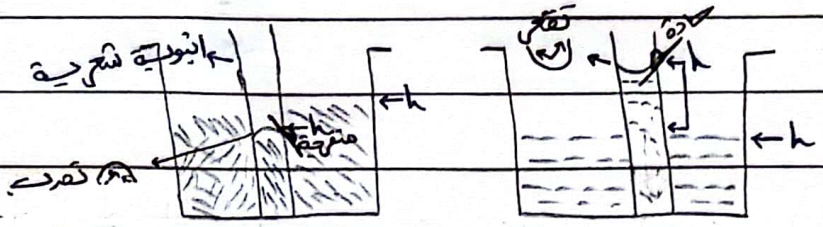

B
الزئبق (أكثر تماسك)

A
الماء (أكثر تلاصق)

• (الماء) لو حطيناه هينتشر ← هنا التلاصق أكبر .
• لكن (الزئبق) هيتكور بسبب ← قوى التماسك والتلاصق :
← هنا التماسك أكثر . ← بين الاناء والسائل الذي يحويه .

• الزاوية الحادة في حالة السوائل الى بترتفع .
• الزاوية منفرجة في حالة السوائل الى بتنخفض .
• يتزن ~~عمود~~ عمود السائل (h) تحت تأثير قوتين (وزن عمود السائل) $f = mg$ والمركبة الرأسية للتوتر السطحي ← لأعلى

$h \propto \frac{1}{r}$

$F_2 = 2\pi r T \cos\theta$

$\pi r^2 h \rho g = 2\pi r T \cos\theta$ → زاوية التلامس

$\cos(\theta) = 1°$ ← الزاوية الحادة التي تكاد تكون منعدمة في الكأس .

$T = \frac{r h \rho g}{2\cos\theta}$ → 980 ، ρ كثافة الماء الملون ، $\cos\theta = 1$

يعني كأن المقام = 2 .

Alaziz

Subject : Date :

$m = V\rho$ $\quad r = \sqrt{\frac{m}{h\ell P}}$

$M = \pi r^2 \ell \rho$

(قيمتها بتطلع اقم من مائة)

ثابتة.

• كثافة الزئبق ⇐ لـ 1 جرام = 13.6.

• كثافة الماء ⇐ $\rho_w = 0.9978$.

إن هنعينها في الزئبق.

$$T = \frac{r h \rho g}{2\cos\theta} = \frac{r h \rho g}{2}$$

الماء → 980

$\cos\theta$ → 1

سكشن (5):

تعريف اللزوجة: هي مقاومة طبقات السائل للانزلاق فوق بعضها البعض.

• مقاومة السائل لاختراق الاجسام داخلة أو حركة الاجسام داخله.

معامل اللزوجة → $\eta = \frac{2}{9}\left(\frac{r^2}{V}\right) g (\rho_s - \rho_l)$ (ρ_s → 7,8، ρ_l → 0,8)

$\eta = \frac{\text{قوة}}{\text{مساحة}} \times \text{زمن}$ → بواز = $\frac{\text{داين}}{\text{سم}^2} \cdot \text{ث}$ = $\frac{\text{نيوتن}}{\text{سم}^2} \cdot \text{ث}$

• معامل اللزوجة: هو قوة الاحتكاك بين طبقتين من السائل وكل طبقة مساحتها وحدة المساحات والفرق (المسافة) ما بينهم والبعد العمودي وحدة الأطول ومعدل التغير في سرعتيهما بالنسبة للبعد العمودي هو الواحد.

- معادلة الابعاد: $\frac{M\ell}{T^2\ell^2} \cdot T \rightarrow M\ell^{-1}T^{-1}$ ← $gm \cdot cm^{-1} s^{-1}$ ، $Kg \cdot m^{-1} \cdot s^{-1}$.

• من $\frac{\text{داين}}{\text{سم}^2} \times \text{ثانية}$ $\xrightarrow{\times 10^{-1}}$ $\frac{\text{نيوتن}}{\text{م}^2} \times \text{ثانية}$.

← تعيين معامل اللزوجة بإستخدام قانون أستوك أو الكرة الساقطة:

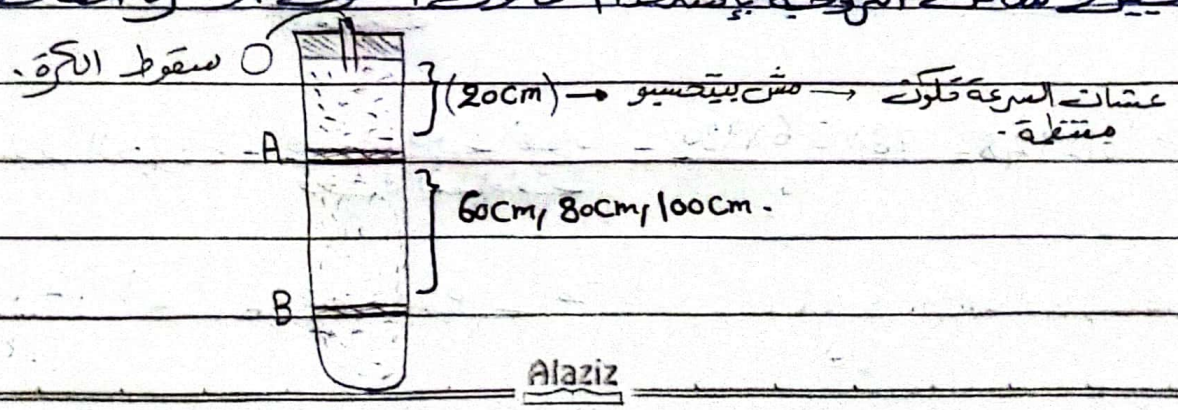

Alaziz

CamScanner

Subject : Date :

الكرة ← نصف القطر ← r
ρ_s ← كثافة
ℓ ← طول
t ← زمن
V ← سرعة سقوط مستقلة

السائل ← ρ_l ← كثافة سائل
η ← معامل لزوجة

1) وزن الكرة لأسفل :-

$$F_1 = mg = V\rho g = \frac{4}{3}\pi r^3 \rho_s g.$$

2) قوة دفع السائل للكرة لأعلى :-

$$f_2 = mg = V\rho_l g = \frac{4}{3}\pi r^3 \rho_l g.$$

3) قوة اللزوجة لأعلى :-

$$F_3 = 6\pi r h V.$$

- $f_1 = f_3 + f_2$.

- $F_1 = f_2 + f_3$

$$\frac{4}{3}\pi r^3 \rho_s g = \frac{4}{3}\pi r^3 \rho_l g + 6\pi r h V$$

$$\frac{4}{3}\pi r^3 g(\rho_s - \rho_l) = 6\pi r h V$$

$$\frac{4}{3} r^2 g(\rho_s - \rho_l) = 6 h V$$

$$\eta = \frac{2 r^2 g(\rho_s - \rho_l)}{9 V}.$$

V ← حجم
V ← سرعة

$$P = \frac{f}{A} = \frac{V\rho g}{A} = \frac{hA\rho g}{A}$$

$$P = h\rho g.$$

- الضغط العادي = قوة / مساحة

- الضغط الجوي = وزن عمود من الهواء / وحدة المساحات $= \frac{76 \times 13.6 \times 980}{10} = 101292.8$ داين/سم²

$= \frac{101292.8}{9.8} = 10336$ نيوتن/م² ← الرقم ده يساوي الكتلة = وزن عمود الهواء.

$P = -76\,cm$ ← زئبق.

Alaziz

Subject : Date :

• يوجد 3 أنواع من الكرات

$(r_1 \to 0{,}16)$ $(r_2 \to 0{,}20)$ $(r_3 \to 0{,}24)$

l	r_1 صغيرة	r_2 متوسطة	r_3 كبيرة
60cm			
80cm			
100cm			

كل ما قطر الكرة يبقى أكبر الزمن يقل

زمن يزيد

• كل ما قطر الكرة يبقى أكبر الزمن يقل. (علاقة عكسية)

• بعد ما نجيب بيانات الجدول اعمل رسم بياني الصادي ← l. السيني ← r. ونجيب الميل لكل r. $(slope = V)$.

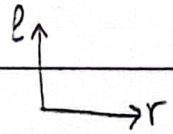

r ← ثابتين	r^2	V ← من الميل لكل (r)
0,16	0,025	أقل
0,20	0,04	متوسط
0,24	0,057	أكبر

• نعمل رسم بياني تاني بعد ما جبنا البيانات في الجدول ونجيب الميل.

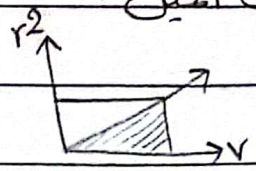

$\left(slope = \frac{r^2}{V}\right)$

• بعد كده نعوض في قانون معامل اللزوجة وكده خلاص.

← مسألة:

• كرة معدنية قطرها (4 ميكرون) وكثافة مادتها (7,8 مم/سم³) تسقط في سائل ما كثافته (0,8 مم/سم²) بسرعة مقدرها (10 سم/ساعة) فإذا علمت أن عجلة الجاذبية الأرضية 981 سم/ثانية².

• أحسب معامل اللزوجة بوحدات (SI) الدولي.

(من فرنسي $\xrightarrow{\div 10}$ دولي.) بواز = $d.sec/cm^2$. → فرنسي.

$N.sec/m^2$. → دولي.

(من ميكرون $\xrightarrow{\times 10^{-4}}$ سم.) ($cm/hr \xrightarrow{\div 3600} cm/s$.)