**Nota**

## PB DE GEOGRAFIA



UNIDADE:_____ PROFESSOR:_____**3º BIMESTRE/2010**

ALUNO(A): _____ Nº _____

TURMA:_____**1º ano Ensino Fundamental DATA: _____/_____/_____**

**Total: 100 pontos**

**A T E N Ç Ã O**

- **Preencha o cabeçalho de todas as páginas de sua prova.**
- **Não utilize corretor líquido e máquina de calcular.**
- **Evite pedir material emprestado durante a prova.**
- **Evite falar ou fazer barulho durante a prova, pois poderá atrapalhar seus amigos.**
- **Tenha capricho com sua letra.**

**Faça a prova com calma, pensando bem antes de responder as questões. Não se esqueça de revê-las, antes de entregá-la.**

***As mudanças de tempo acontecem durante todo o ano e temos que estar preparados com roupas adequadas de acordo com cada clima.***

## Questão 01: (15 pontos / 5 cada)

Ir a praia é muito bom! Observe bem as imagens abaixo e risque o clima mais apropriado para ir à praia:





Chuva



Frio

Calor

***E para que possamos acompanhar as mudanças climáticas com saúde, é necessário o uso de roupas adequadas a cada clima.***

**Questão 02:** **(15 pontos / 3 cada)**

 Das opções abaixo envolva as que você usaria num dia bem frio:



Casaco



Biquíni



Luvas



Short



Cachecol

***Existem atividades que são mais gostosas de serem realizadas de acordo com cada clima!***

**Questão 03:** **(10 pontos / 5 cada)**

- Agora com muita atenção ligue corretamente:



Picolé



Sopa

- Frio
- Calor

***A chuva é muito boa para a natureza e para refrescar os dias de sol forte, mas precisamos nos preocupar mais com as enchentes provocadas pelo lixo jogado nas ruas.***

**Questão 04:** **(15 pontos)**

 Para que nossa cidade não sofra com as enchentes marque um ( X ) na atitude certa:



Lixo na lixeira




Lixo no rio

***Já reparou como o céu é escuro e as estrelas são tão brilhantes?***

**Questão 05:** **(15 pontos / 5 cada)**

 Pinte o que você vê no céu durante o dia:



Estrelas



Sol



Lua

**Questão 06:** **(20 pontos)**

 Observe com muita atenção as imagens abaixo e escreva no quadro ao lado o nome do astro que não tem luz própria:



Lua



Sol

**Questão 07:** **(10 pontos)**

 Agora com muita atenção desenhe no espaço abaixo um astro que possui luz própria: