مسابقات رياضيات

ثالث ثانوي 2022

جزيل الشكر لموجهينا

الأفاضل لإرسالهم

المسابقات

تجميع:

أسماء موفقه

أحلام العبسى

مطهر الزندانى

الممسوحة ضوئيا بـ CamScanner

الجمهورية اليمنية
وزارة التربية والتعليم
مكتب التربية والتعليم بأمانة العاصمة
فرع مكتب التربية والتعليم بمديرية بني الحارث
قسم التوجيه التربوي

الدرجة	
	50

أسئلة المسابقة المنهجية في مادة رياضيات - الصف ثالث ثانوي علمي - للعام الدراسي ٢٠٢١ - ٢٠٢٢م

رقم النموذج : الاول | **أجب مستعيناً بالله تعالى على جميع الأسئلة التالية:** | **المدرسة : .....**

س1 : ظلل في ورقة الإجابة الدائرة التي تحتوي على الحرف (ص) للإجابة الصحيحة والحرف (خ)للإجابة الخطأ بحسب رقم الفقرة لكل مما يأتي : (درجتان لكل فقرة)

١) ( ) سعة العدد (- ع × ع $^{-١}$) يساوي π

٢) ( ) $\frac{١}{ت}$ ع = ٣ + ٢ ت^{٥} فإن ع$'$ = -٢ – ٣ ت

٣) ( ) إذا كان عدد حدود المفكوك (٢ س + ٣) $^{٢ن + ١}$ يساوي ٣٢ فإن قيمة ن = ١٤

٤) ( ) إذا كان $\lfloor$٩ ^{ن}ل ٧ = $\lfloor$٧ ^{ن}ل ٨ فإن قيمة ن + ١ = ١٦

٥) ( ) الناظم لـ د (س) = (س – ١)^{٢} يوازي محور الصادات عند س = ١

٦) ( ) إذا كان د (س) = لوس هـ ، فإن د$'$ (هـ) = $\frac{١}{هـ}$

٧) ( ) عدد طرق ترتيب جلوس (٥) طلاب و (٥) معلمين حول طاولة مستديرة مرقمة الكراسي بين كل معلمين طالب هي $\lfloor$٢ ($\lfloor$٥)^{٢}

٨) ( ) إذا كان ع$_{١}$ ، ع$_{٢}$ عددين مركبين مترافقان وكان | $\frac{ع_{١}}{٣}$ | - | $\frac{ع_{٢}}{٥}$ | = ٢ ، فإن قيمة $\sqrt{-}$ | ع$_{١}$ | | ع$_{٢}$ | = ١٥ ت

٩) ( ) نهـــا$_{س \leftarrow -\infty}$ ظا $\frac{٢ - \pi س}{٣ س + ٧}$ × جتا ($\frac{٣}{٢}$)^{س} = $\sqrt{٣}$

١٠) ( ) إذا كان (ت o د)$'$ (٤) = - ٣ ، (ت$'$ o د) (٤) = ٦ ، فإن د$'$ (٤) = - ١٨

س2 : اختر الإجابة الصحيحة ثم ظلل في ورقة الإجابة الدائرة بحسب الاختيار ورقم الفقرة لكل مما يأتي : (ثلاث درجات لكل فقرة)

١١) إذا كانت نهـــا$_{س \leftarrow -\infty}$ س ظا ($\frac{أ + ١}{٢ - س}$) = نهـــا$_{س \leftarrow \pi}$ $\frac{جاس}{\pi - س}$ فإن أ =

1	١	2	١-	3	٢	4	٢ -

١٢) قيمة -٣ × [٢ ، $\frac{\pi}{٣}$] =

1	[π ، ٦]	2	[$\frac{\pi}{٣}$ - ، ٦]	3	[$\frac{\pi}{٣}$ ، ٦]	4	[$\frac{\pi ٤}{٣}$ ، ٦]

١٣) اذا كانت ص = س $^{(٢ + \frac{١}{لوس})}$ ، فإن ص$'$ =

1	٢ لوس	2	٢ هـ س	3	٢ س لوس	4	٢ س

١٤) إذا كان $^{ن+١}$ق$_{ر+١}$ + $^{ن+١}$ق$_{ر}$ = ٣٥ ، $^{ن+١}$ل$_{ر+١}$: $^{ن+١}$ل$_{ر}$ = ٣ ، فإن ٢ ن – ر =

1	٩	2	٧	3	٥	4	٣

١٥) من أرقام المجموعة { ٠ ، ٢ ، ٣ ، ٦ ، ٧ } عدد الاعداد الزوجية التي يمكن تكوينها من ثلاثة أرقام مختلفة بحيث تكون عشرتها من مضاعفات ٣ و أكبر من ٣٠٠ هي

1	١٤	2	٩	3	٨	4	١٠

١٦) في مفكوك (ص + ٢)^{٥} إذا كان أربعة أمثال الحد الثالث يساوي نصف الحد الخامس فإن قيمة ص =

1	٢ ±	2	$\frac{١}{٢}$ ±	3	$\frac{١}{٤}$ ±	4	١ ±

١٧) إذا كانت د (٠) = أ فإن د (س) = $\frac{جا ٢ س + ٣ س}{ظا س}$ دالة متصلة عند س = ٠ إذا كانت قيمة أ =

1	٢	2	٣	3	٤	4	٥

١٨) إذا كان حاصل جمع جذري المعادلة (٢ + ت) ع^{٢} + ك ع + ٣ = ٠ يساوي (٢ – ت) فإن قيمة ك =

1	٥	2	٤	3	٥ -	4	٤ -

١٩) إذا كان $\frac{\lfloor ن + ٥}{\lfloor ن + ٣ + \lfloor ن + ٤}$ = ١٠ – ن ، فإن [$\sqrt{٢}$ ، $\frac{\pi}{٢}$]^{ن} =

1	٢ ت	2	$\sqrt{٢}$ ت	3	- $\sqrt{٨}$ ت	4	$\sqrt{٨}$ ت

٢٠) إذا كانت د (س) قابلة للاشتقاق عند س = ١ وكانت د (١) = ٢ وكانت د (س) + د^{٣} (س) = ٣٩ س ، فإن د$'$ (١) =

1	صفر	2	١	3	٢	4	٣

* انتهت الأسئلة * بالتوفيق والنجاح؛؛؛

الممسوحة ضوئيا بـ CamScanner

الجمهورية اليمنية
وزارة التربية والتعليم
مكتب التربية والتعليم بأمانة العاصمة
فرع مكتب التربية والتعليم بمديرية بني الحارث
قسم التوجيه التربوي

الدرجة
50

أسئلة المسابقة المنهجية في مادة رياضيات - الصف ثالث ثانوي علمي - للعام الدراسي ٢٠٢١ - ٢٠٢٢م

رقم النموذج : **الثاني** | **أجب مستعيناً بالله تعالى على جميع الأسئلة التالية:** | المدرسة : .....

س1 : ظلل في ورقة الإجابة الدائرة التي تحتوي على الحرف (ص) للإجابة الصحيحة والحرف (خ)للإجابة الخطأ بحسب رقم الفقرة لكل مما يأتي : (درجتان لكل فقرة)

١) ( ) إذا كان $ع_{١} = ٢ + ٥ت$ ، $ع_{١} + \overline{ع_{٢}} = ٣ - ٢ ت^{٨ن + ١٩}$ ، فإن $ع_{٢} = ١ + ٧ت$

٢) ( ) $ق_{س}^{٢س} = ٧٠$ فإن $ل_{س}^{٢س - ٣} = ٥$

٣) ( ) إذا كان الحدان الاوسطان في مفكوك $(س^{٢} + \frac{١}{س})^{٢ن + ١}$ متساويان فإن قيمة س = ٢

٤) ( ) إذا كان $\frac{|٩}{|٧} ل_{٧}^{ن} = ٩$ فإن قيمة $ل_{٨}^{ن} = ١٦$

٥) ( ) إذا كان المماس للمنحنى $٣ ص^{٢} - ٢ أ ص = س$ موازياً لمحور الصادات عند ص = ١ ، فإن قيمة أ = ٣

٦) ( ) إذا كان لو (س + ص) = س $هـ^{ص}$ ، فإن $\frac{ع ص}{ع س} | _{(١،١)} = -١$

٧) ( ) عدد طرق ترتيب أرقام ٣٨٥٧٤٦١ بحيث تترتب الارقام الفردية في الاماكن الفردية وتترتب الارقام الزوجية في الاماكن الزوجية هو ٧٢ طريقة

٨) ( ) ليكن ع Ǝ م ، $ع'$ مرافق ع ، $(١ - ت ع) (١ + ت ع') = ١٠٠$ ، فإن $\frac{١}{٥} | ت ع - ١ | = ٢٠$

٩) ( ) $نهـــا_{س \leftarrow \infty} \frac{(٣ س^{٣} - ٢ س^{٢} - جا س }{س^{٢} + س} + أ س) = ب$ ، ب Ǝ ح فإن ب = -٣

١٠) ( ) إذا كانت $س ص^{٢} + ٢ص = ٢ س + ١$ ، فإن $١٢ \times \frac{ع ص}{ع س} | _{(١،١)} - ١٦ = -١٣$

س2 : اختر الإجابة الصحيحة ثم ظلل في ورقة الإجابة الدائرة بحسب الاختيار ورقم الفقرة لكل مما يأتي : (ثلاث درجات لكل فقرة)

١١) $نهـــا_{س \leftarrow ٠} \frac{١ + جتا (\pi - ٢ س)}{س^{٢}} =$

1	١	2	٢	3	٣	4	٤

١٢) إذا كان ع = [$\sqrt{٢}$ ، $\frac{\pi}{٤}$] هو أحد جذري المعادلة $ع^{٢} + ب ع + ٢ = ٠$ فأن قيمة ب =

1	٢	2	٢-	3	١-	4	١

١٣) عدد طرق ترتيب جلوس ٦ طلاب حول طاولة المسابقة المنهجية بحيث لا يجلس طالبان معينان معاً يساوي

1	٢٤٠	2	١٤٤	3	٣٦	4	٧٢

١٤) إذا كان ٣ | ع | + ٤ | $ع'$ | = ١٤ ، فإن | ت ع + ع | =

1	٢	2	$٤\sqrt{٢}$	3	$٢\sqrt{٢}$	4	٤

١٥) إذا كانت هـ (س) = $س^{٢}$ د $(\frac{١}{س})$ ، د (٢) = ٢ ، $د'$ (٢) = ١ ، فإن $هـ'$ ($\frac{١}{٢}$) =

1	١	2	٢ -	3	٤	4	صفر

١٦) إذا كان رتبة الحد الخالي من س هي ٦ في مفكوك $(س^{٢} + \frac{٤}{س^{٢}} - ٤)^{ن} (س - \frac{٢}{س})^{٤}$ فإن قيمة ن =

1	٦	2	٥	3	٤	4	٣

١٧) إذا كان $ل_{س^{٢}}^{٢ س + ٩} = \frac{|٢ س + ٩}{|}$ ، فإن مجموع قيم س الممكنة هي

1	٦	2	٢ -	3	٢	4	٤

١٨) إذا كانت د (س) = ٦ $س^{٢}$ قتاس ظتا س ، د (٠) = أ فإن قيمة أ التي تجعل الدالة د متصلة عند س = ٠ تساوي

1	٦	2	٦ -	3	٣	4	٣ -

١٩) إذا كان $ع_{١} = ١ - ت$ ، $ع_{٢} = [٢ ، -\frac{\pi}{٢}]$ ، $ع_{٣} = ٢ ع_{٢}^{-١}$ ، فإن $((ع_{١})^{ع_{٢}})^{ع_{٣}} =$

1	ت	2	٢ ت -	3	٢ ت	4	ت -

٢٠) إذا كان ع = س + ت ص ، س ، ص Ǝ ح و كان (ص + ٣ ت) جذراً تربيعياً للعدد (٥ س - ١٢ ت) ، فإن | $ع^{٤}$ | =

1	٩	2	١٦	3	٣٦	4	٢٥

* انتهت الأسئلة * بالتوفيق والنجاح؛؛؛

الممسوحة ضوئيا بـ CamScanner

الجمهورية اليمنية
وزارة التربية والتعليم
مكتب التربية والتعليم بأمانة العاصمة
فرع مكتب التربية والتعليم بمديرية بني الحارث
قسم التوجيه التربوي

الدرجة	
	50

أسئلة المسابقة المنهجية في مادة رياضيات - الصف ثالث ثانوي علمي - للعام الدراسي ٢٠٢١ - ٢٠٢٢م

رقم النموذج : الثالث | **أجب مستعيناً بالله تعالى على جميع الأسئلة التالية:** | **المدرسة : .....**

س1 : ظلل في ورقة الإجابة الدائرة التي تحتوي على الحرف (ص) للإجابة الصحيحة والحرف (خ)للإجابة الخطأ بحسب رقم الفقرة لكل مما يأتي : (درجتان لكل فقرة)

١) ( ) إذا كان ع = $\frac{٢ + ٦ ت}{٣ - ت}$ فإن ع' تخيلي صرف

٢) ( ) إذا كان ^{م}ل ٦ = م (م – ١) × .... × ٦ × ٥ ، فإن ^{م} ق ٢ = ٩٠

٣) ( ) في مفكوك (٥ س + ٣)^{ك} ، إذا كان الحد الخالي من س = ٧٢٩ ، فإن ك + ١ = ٧

٤) ( ) إذا كان $\frac{|ن + ١}{|٧}$ × $^{٢ن + ١}$ ل ن = فإن قيمة ن = ٤

٥) ( ) إذا كانت معادلة الناظم للمنحنى ص = د (س) عند النقطة (١ ، ١) هي س + ٤ ص = ٥ فإن د/ (١) = ٤

٦) ( ) إذا كانت $\frac{س}{ص} + \frac{ص}{س}$ = ٢ فإن $\frac{ع ص}{ع س}$ = ١

٧) ( ) عدد طرق ترتيب جلوس (٥) طلاب و (٤) معلمين في صف مستقيم بالتناوب يساوي ١٠ ($\frac{|٤}{}$)^{٢}

٨) ( ) إذا كان (٣ + ٤ ت) جذراً للمعادلة (ع^{٢} + جـ ع + د = ٠) ، حيث جـ ، د ∋ ح فإن قيمة $\sqrt{جـ \times د}$ = ٥ $\sqrt{٦}$

٩) ( ) نهـــا $\frac{(س^{٢} - أ^{٢}) ظا (س - أ)}{س^{٢} - ٢ أ س + أ^{٢}}$ = ٦ ، فإن قيمة أ = ١٢
س ← أ

١٠) ( ) إذا كان (د o ق)/ (٢) = ٨ ، د/ (ق (٢)) = ٤ ، فإن ق/ (٢) = ٦

س2 : اختر الإجابة الصحيحة ثم ظلل في ورقة الإجابة الدائرة بحسب الاختيار ورقم الفقرة لكل مما يأتي : (ثلاث درجات لكل فقرة)

١١) إذا كان ^{٦} ق ن = ٢ ^{٥} ق ن ، فإن ^{ك}ل ن + ١ =

1	٣٦٠	2	١٢٠	3	٢٤	4	٦

١٢) ليصبح منحنى الدالة د (س) = $\frac{جتا س + جا س}{١ + ظا س}$ متصلاً عند س = $\frac{-\pi}{٤}$ نعيد التعريف بحيث د ($\frac{-\pi}{٤}$) =

1	١	2	١-	3	$\frac{\sqrt{٢}}{٢}$	4	$\frac{-\sqrt{٢}}{٢}$

١٣) عدد مركب | ع | = $\sqrt{٣}$ ، ع/ ع^{٢} = ٢ م – $\sqrt{٣}$ ت ، م ∋ ح ، فإن قيمة م^{٢} =

1	٨	2	٦	3	٧	4	٥

١٤) إذا كان مجموع رتبتي الحدين الاوسطين في مفكوك (س^{٢} + $\frac{١}{س^{٢}}$ – ٢)$^{ن + \frac{١}{٢}}$ يساوي ١١ ، فإن قيمة ن =

1	٢	2	٣	3	٤	4	٦

١٥) إذا كانت ص = ع^{٢} – ٥ ع ، ع = $\frac{١}{١ + س}$ ، فإن $\left|\frac{ع ص}{ع س}\right|_{س = .}$ =

1	٣-	2	٣	3	٢ -	4	٢

١٦) إذا كان ^{٢ن} ق ن + ١ + ٢ $^{٢ن - ١}$ ق ن =

1	$^{٢ن + ٢}$ ق ن + ١	2	^{٢ن} ق ن	3	$^{٢ن + ١}$ ق ن	4	$^{٢ن + ٢}$ ق ن

١٧) إذا كانت س^{٣} = ٣ ص^{٢} ، فإن ٤ ص ص// =

1	ص	2	٢ ص	3	س	4	٢ س

١٨) عدد طرق جلوس ٤ اشخاص في سيارة فيها مقعدان خلفيان ومقعدان اماميان إذا كان ثلاثة اشخاص من بينهم يستطيعون القيادة =

1	٢٤	2	٨	3	٣٦	4	١٨

١٩) إذا كان ع$_{١}$ = جتا ٧٠° + ت ، ع$_{٢}$ = ١ + جا ٢٠° ت ، فإن $\overline{ع_{١} + ع_{٢}}$ بالصورة [ر ، هـ] هي

1	[$\sqrt{٨}$ جا^{٢} ٣٥ ، $\frac{-\pi}{٤}$]	2	[$\sqrt{٨}$ جتا^{٢} ٣٥ ، $\frac{\pi}{٢}$]	3	[$\sqrt{٨}$ جا^{٢} ٥٥ ، $\frac{-\pi}{٤}$]	4	[٢ جا^{٢} ٥٥ ، $\frac{\pi}{٤}$]

٢٠) إذا كان ص + ت س = س^{٢} + ٥ (١ + ت) ، فإن قيمة $\frac{١}{٥}$ ص =

1	٣	2	٤	3	٥	4	٦

*** انتهت الأسئلة *** **بالتوفيق والنجاح؛؛؛**

الممسوحة ضوئيا بـ CamScanner

الجمهورية اليمنية
وزارة التربية والتعليم
مكتب التربية والتعليم بأمانة العاصمة
فرع مكتب التربية والتعليم بمديرية بني الحارث
قسم التوجيه التربوي

الدرجة	
	50

أسئلة المسابقة المنهجية في مادة رياضيات - الصف ثالث ثانوي علمي - للعام الدراسي ٢٠٢١ - ٢٠٢٢م

رقم النموذج : النهائية | أجب مستعيناً بالله تعالى على جميع الأسئلة التالية: | المدرسة : .....

س1 : ظلل في ورقة الإجابة الدائرة التي تحتوي على الحرف (ص) للإجابة الصحيحة والحرف (خ)للإجابة الخطأ بحسب رقم الفقرة لكل مما يأتي : (درجتان لكل فقرة)

١) ( ) إذا كان $\lfloor ٢^{س} = ٦$ ، فإن قيمة س = $\frac{لو ٣}{لو ٢}$

٢) ( ) عدد حدود المفكوك $(س + \frac{١}{س} - ٢)^{ن - ٢}$ ، يساوي ١٣ ، فإن ن = ٨

٣) ( ) إذا كانت $ع_١^٢ - ع_٢^٢ = ٣$ ، فإن $ع_١$ ، $ع_٢$ مترافقين حيث $ع_١$ ، $ع_٢ \in م$

٤) ( ) إذا كان ٥ س ص = ١ ، فإن $\frac{ء^٢ ص}{ء^٢ س} \times \frac{ء^٢ س}{ء^٢ ص} = ٢٠$

٥) ( ) إذا كان المماس لمنحنى الدالة د (س) = $لو_٣ (س^٢ - ٦ س + ١٨)$ يوازي محور السينات عند س = ب فإن د (ب) = ٢

٦) ( ) من الشكل المجاور إذا كان $|ع_١| = |ع_٢| = \sqrt{٣}$ ، فإن $|ع_١ + ع_٢| = ٦$

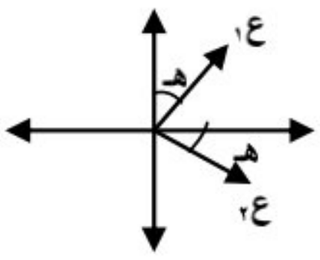

٧) ( ) $^{ن}ق_٥ - {}^{ن-١}ق_٥ = {}^{٦}ق_٢$ ، ع = ل (ن ، ٢) + (ن – ١) ت ، فإن $|ع| = ٣٠\sqrt{٢}$

٨) ( ) مجموع الجذرين للمعادلة $٢ ع^٢ = ٦ + ٤ ت - ٦ ت ع$ يساوي ٣ ت

٩) ( ) $\lim_{س \to \frac{\pi}{٢}} \frac{١ - جتا ٤ س}{١ - جا س} = {}^{م}ق_٢ + {}^{م}ق_١ + {}^{م}ق_٠$ ، فإن $\lfloor م - ١ = ١٢٠$

١٠) ( ) إذا كان ع = ظا ١٥° - ت ، فإن ع = [قا ١٥° ، - ٧٥]

س2 : اختر الإجابة الصحيحة ثم ظلل في ورقة الإجابة الدائرة بحسب الاختيار ورقم الفقرة لكل مما يأتي : (ثلاث درجات لكل فقرة)

١١) إذا كان د (س) = $س^٢$ + م (س) ، ق (س) = $\frac{١}{٢}$ د (س) + ٣ ، م/ (٣) = -٢ ، فإن ق/ (٣) =

1	٤	2	٢	3	-٤	4	$\frac{١}{٢}$

١٢) إذا كان لدينا (٣ ن) طبيباً و (٣ ن – ١) مهندساً و كان عدد طرق ترتيب جلوس الاطباء متجاورين والمهندسين متجاورين في صف مستقيم يساوي (٦ ن × ١٤٤٠٠) طريقة فإن عدد الاطباء يساوي

1	٥	2	٦	3	٤	4	٢

١٣) إذا كان مجموع المعاملات في مفكوك $\frac{٢}{س}(٣ + ل س)^٥ = ٦٤$ ، ل ≠ ٠ ، فإن قيمة ل =

1	٢	2	١	3	-١	4	-٢

١٤) إذا كان $\frac{ب}{٢} + {}^{٣}ل_{\frac{١}{٢}ب} = ١٢٠$ ، فإن قيمة $ب^٢ - ٣ ب + ٢ =$

1	٤٢	2	٣٠	3	٥٦	4	٢٠

١٥) عدد الاعداد الثلاثية مختلفة التي تقبل القسمة على ٣ من المجموعة { ٣ ، ٤ ، ٥ ، ٨ } هو

1	١٤	2	١٢	3	١٦	4	٢٢

١٦) إذا كانت د (س) = $\frac{ظا ٤ س}{ظا ٥ س}$ ، س ≠ π وكانت متصلة عند س = π ، د (π) = ٣ ك + ٢ ، فإن قيمة ك =

1	$\frac{٥}{٣}$	2	$-\frac{٥}{٣}$	3	$-\frac{١٤}{١٥}$	4	$-\frac{٢}{٥}$

١٧) إذا كان ع = س + ت ص ، س ، ص ∈ ح ، جا هـ – $\sqrt{٣}$ جتا هـ = ٠ حيث π < هـ < $\frac{٣\pi}{٢}$ ، ص = $-\sqrt{س + ٢}$ ، فإن ٣ع =

1	$-٢ - \sqrt{٣}$ ت	2	$-٢ - ٢\sqrt{٣}$ ت	3	$-\sqrt{٣} - ٢$ ت	4	$٢\sqrt{٣} - ٢$ ت

١٨) إذا كانت $س^٣ = ٣ ص^٢$ ، فإن ٨ ص ص// =

1	٢ ص	2	-٢ص	3	٢ س	4	-٢س

١٩) قيمة $^{ن}ق_٠ + {}^{ن+١}ق_١ + {}^{ن+٢}ق_٢ + {}^{ن+٣}ق_٣ + {}^{ن+٤}ق_٤ =$

1	$^{ن+٥}ق_٤$	2	$^{ن+٤}ق_٦$	3	$^{ن+٤}ق_٥$	4	$^{ن+٥}ق_٥$

٢٠) إذا كان ع = [١ ، $\frac{٥\pi}{٦}$] و $(ع + ع^{-١})^{٤ن + ٢} = ٢٧$ ، ن ∈ ص ، فإن قيمة ن =

1	١	2	٢	3	٣	4	٤

* انتهت الأسئلة * بالتوفيق والنجاح؛؛؛

الممسوحة ضوئيا بـ CamScanner

الجمهورية اليمنية
وزارة التربية والتعليم
مكتب التربية ــ صنعاء
مكتب التربية ــ سنحان
قســـم التوجيه

أسئلة المسابقة المنهجية
للمرحلة الثانوية
(٩)

الزمن :
اسم المدرسة :
الدرجة : ـــــ ١٠

١/ إذا كان (١ ، ١) ع = (-١ ، ٠) + (٠ ، -١) فإن $\overline{ع}$ = (-١ ، ٠) ( )

٢/ الحد الأخير في $ن^{-٢}ل_{ر-٢}$ = $ن ل_{ر}$: $ن ل_{ر-١}$ ( )

٣/ ع = $\frac{١}{٢}$ - ت ($\frac{١}{٢}$ س +١) وكانت سعة ع = $\frac{-\pi}{٤}$ فإن س = ...
[$\frac{١}{٢}$ ، $\frac{-١}{٢}$ ، ١ ، -١]

٤/ نـــــها جا (س -١)$^{-٢}$ (س٢ -٣س +٢) = ...
س← ١
[٠ ، ١ ، ٢ ، ٣]

٥/ سعة العدد ع = - ت جتاهـ + جاهـ = ...
[$\frac{\pi ٣}{٢}$ - هـ ، $\frac{\pi ٣}{٢}$ + هـ ، $\frac{\pi ٢}{٣}$ - هـ ، $\frac{\pi ٢}{٣}$ + هـ]

الممسوحة ضوئيا بـ CamScanner

الجمهورية اليمنية

وزارة التربية والتعليم

مكتب التربية – صنعاء

مكتب التربية – سنحان

قســـم التوجيه

الزمن :

اسم المدرسة :

الدرجة : $\frac{\quad}{١٠}$

أسئلة المسابقة المنهجية

للمرحلة الثانوية

(١٣)

١/ $^{ن}ق_{ر} = \frac{ن}{ن - ر}\ ^{ن-١}ق_{ر}$ ( )

٢/ إذا كانت -ع = $\sqrt{-١}$ +١ فإن $\overline{ع}$ = ت -١ ( )

٣/ وجود نهاية للدالة د(س) عندما س← أ لا يعني بالضرورة أن د(س) معرفة عند س= أ ( )

٤/ العدد المركب [٢ ، ٤٥°] هو احد الجذرين التربيعيين للعدد ع = ٤ت ( )

٥/ إذا كانت دَ(س) = ٢+ $\frac{س}{د(س)}$ ، د(س) ≠ ٠ ، د(٢) = ٢ فإن دً(٢) = ...

[١ ، -١ ، ٢ ، -٢ ، غير ذلك]

٦/ قيمة ن عندما ٢-٣ $لـ^{ن-١}$ (ن^{٢}+ ن) = -٧٠ هـي .....

[٢ ، ٣ ، ٤ ، ٢٤]

٧/ قيمة ك التي تجعل الحد السابع في مفكوك (س^{ك} + $\frac{١}{س}$)^{٨} حداً خالياً من س هو ...

[٢ ، ٣ ، ٦ ، ٧]

ملاحظة : أسئلة الصح والخطأ من درجه والخيارات من درجتين

الممسوحة ضوئيا بـ CamScanner

الجمهورية اليمنية
وزارة التربية والتعليم
مكتب التربية – صنعاء
مكتب التربية – سنحان
قســـم التوجيه

أسئلة المسابقة المنهجية
للمرحلة الثانوية
(١١)

الزمن :
اسم المدرسة :
الدرجة : ـــــ ١٠

١/ إذا كانت سعة ع١ = π ، سعة ع٢ = ٢π فإن $\overline{ع_1}$ = $\overline{ع_2}$ ( )

٢/ الدالة $\frac{\text{ظا}\frac{\pi}{٢}\sqrt{س}}{س^٢ - ٤س}$ ليست متصلة عند س = ٤ ويمكن إعادة تعريفها لتصبح متصلة عند س=٤ ( )

٣/ ع = س + ت ص وكانت سعة ع = $\frac{\pi ٣}{٤}$ فإن س + ص = ٠ ( )

٤/ ع١= (٢س١-٥)+ ت ، ع٢= (٣س٢-٨) – ت وكانت سعة ع١= $\frac{\pi}{٤}$ ، سعة ع٢= $\frac{\pi -}{٤}$ فإن س١ = س٢ ( )

٥/ ن-١ق ر: نق ر+١ = ...
[ر+١:ن ، ر-١:ن ، ن:ر+١ ، ن:ر-١]

٦/ خارج قسمة ح٣ في مفكوك (س+ ص)^٧ على ح٣ في مفكوك (ص – س)^٧هو ...
[س-٣ص-٣ ، س٣ص٣ ، س-٣ص٣ ، ص-٣س٣]

٧/ إذا كان $\sqrt[ت]{(-١)^{ع}}$ = ت^٨ فإن ع = ...
[٤ت ، -٤ ، ٧ت ، -٧ت]

ملاحظة :أسئلة الصح والخطأ من درحه والخيارات من درجتين

الممسوحة ضوئيا بـ CamScanner

الجمهورية اليمنية
وزارة التربية والتعليم
منطقة السبعين التعليمية بأمانة صنعاء

أسئلة المسابقة المنهجية لمادة الرياضيات للصف الثالث الثانوي

ظلل (ص) في ورقة الاجابة إن كانت الاجابة صحيحة و(خ) أن كانت الاجابة خاطئة فيما يلي : -

١	إذا كان ع = (٠ ، ١) ، فإن $(١ + ع)^{٤} = ٤$
٢	$^{م+ن}ق_{م} + {}^{م+ن}ق_{ن-١} = {}^{م+ن+١}ق_{م+١}$
٣	يوجد عدد مركب يحقق المعادلة $\bar{ع} + ع^{-١} = ٠$
٤	الدالة د(س) = $\sqrt{جتاس}$ متصلة عند س = $\frac{\pi}{٢}$
٥	إذا كانت $ص^{٣} = س + ٢$ ، فإن $\bar{ص} = \frac{ص}{٣س + ٦}$

اختر الاجابة الصحيحة وظلل رقم الاجابة في الورقة المخصصة بذلك :

١	$\underset{س \to \infty}{نهـا} (\frac{٣}{٢})^{س} \times جا(\frac{٢}{٣})^{س} = ...$							
	①	٠	②	١	③	$\frac{٤}{٩}$	④	$\frac{٩}{٤}$
٢	عدد طرق اختيار طالب واحد على الاقل من بين سبعة طلاب = ...							
	①	٧	②	٢١	③	٣٥	④	١٢٧
٣	إذا كان (١+ ٢ت) احد الجذور التربيعية للمعادلة $ع^{٢}$ + ب ع + جـ = ٠ (حيث ب،جـ ∈ ح)، فإن ب+ جـ =...							
	①	٢	②	٣	③	٥	④	٧
٤	إذا كان $د'(س) = \sqrt{س + ١}$ ، م (س) = $س^{٣}$ ، فإن $(د \bigcirc م)'(٢) = ...$							
	①	٢	②	٤	③	٢٤	④	٣٦
٥	في مفكوك $(س^{م} + \frac{١}{س^{٢}})^{١٠}$ إذا كان $ح_{٧}$ حد خالي من س ،فإن م = ...							
	①	١	②	٢	③	٣	④	٦

الممسوحة ضوئيا بـ CamScanner

الجمهورية اليمنية
وزارة التربية والتعليم
منطقة السبعين التعليمية بأمانة صنعاء

أسئلة المسابقة المنهجية لمادة الرياضيات للصف الثالث الثانوي

ظلل (ص) في ورقة الاجابة إن كانت الاجابة صحيحة و(خ) أن كانت الاجابة خاطئة فيما يلي : –

١	إذا كان ع = $\frac{٣}{ت}$ ، فإن ع^{٣} = ٩ ع
٢	إذا كان $\lfloor$س – ١ = ^{٩}ق$_{٣}$ + ^{٩}ق$_{٢}$ ، فإن س = $\lfloor$٣
٣	إذا كان ع = [٢ ، $\frac{\pi}{٢}$] ، فإن – ع = [٢ ، – $\frac{\pi}{٢}$]
٤	إذا كانت الدالة د(س) متصلة عند س = ١ ، وكان د(١) = ٦ م × $\underset{س \leftarrow ١}{نهـا}$ د(س) ، فإن م = $\frac{١}{٦}$
٥	إذا كانت ص^{٢} = ٢ $\sqrt{س}$ ، فإن $\bar{ص}$ = $\frac{١}{ص^{٣}}$

ر الاجابة الصحيحة وظلل رقم الاجابة في الورقة المخصصة بذلك :

	إذا كان ^{٢س}ق$_{٤}$ = ^{٢س}ق$_{٥-س}$ ، فإن س = ...							
	①	٤	②	٣	③	٢	④	١
٢	إذا كان ع = [ر ، هـ] ، ٠ < هـ < $\frac{\pi}{٢}$ ، وكان ع $\bar{ع}$ = ١٦ ، ر جتاهـ = $\sqrt{١٢}$ ، فإن ع^{٣} = ...							
	①	٦٤	②	–٦٤	③	٦٤ ت	④	–٦٤ ت
٣	إذا كانت د(س) = أس^{٢} + ٢س ، م (س) = $\sqrt{س}$ ، وكان (د ○ م)$'$(٤) = $\frac{٩}{٢}$ ، فإن أ = ...							
	①	٤	②	٥	③	٧	④	٩
٤	$\underset{س \leftarrow \pi}{نهـا}$ $\frac{جتا^{٢}س + ٦ جتاس + ٥}{جتا^{٢} \frac{١}{٢} س}$							
	①	٣	②	٦	③	٨	④	١٢
٥	في مفكوك ($^{٤}\sqrt{س}$ + $\frac{١}{^{٥}\sqrt{س}}$)^{٩} الحد الخالي من س هو....							
	①	ح$_{٥}$	②	ح$_{٦}$	③	ح$_{٧}$	④	ح$_{١٠}$

الممسوحة ضوئيا بـ CamScanner

الجمهورية اليمنية وزارة التربية والتعليم مكتب التربية والتعليم بالأمانة منطقة الوحدة التعليمية	المسابقة المنهجية للصف الثالث الثانوي (علمي) للعام الدراسي ٢٠٢١ / ٢٠٢٢م المدارس الحكومية	التاريخ : ٢٩ / ١ / ٢٠٢٢ م المادة : رياضيات الزمن : ١٥ دقيقة

اسم المدرسة :

ظلل في المكان المخصص للإجابة الدائرة التي تحوي الحرف (ص) للإجابة الصحيحة والحرف (خ) للإجابة الخطأ بحسب رقم الفقرة : (درجتان لكل فقرة)

1	(✓)	إذا كانت د(س) = (ظاس)$^{\text{جا٢س}}$ ، فإن دَ($\frac{\pi}{٤}$) = ٠
2	(✗)	إذا كان $^{\text{ن}+٣}\text{ل}_{٣} \times {}^{\text{ن}}\text{ل}_{\text{ر}-١} = (٧\text{ر} - ٨٣)\,{}^{\text{ن}+٣}\text{ل}_{\text{ر}+٢}$ ، فإن ر = ١٢

اختر الإجابة الصحيحة ثم ظلل في المكان المخصص للإجابة الدائرة بحسب الاختيار ورقم الفقرة لكل مما يأتي : (درجتان لكل فقرة)

إذا كان ن ت ، ت ^{ن}ق$_{٢}$ هما جذرا المعادلة ت ع^{٢} + $^{\text{ن}+١}$ق$_{٥}$ ع + ١٥ ت م = ٠ ، فإن ن + م = ...

1	٧	2	٨	3	صفر	4	١٥

عدد أرقام الهاتف لشركة يمن موبايل والتي يتكرر فيها الرقم ٧ ست مرات هو .....

1	٧٢٩	2	٦١٢٣٦	3	٣٥٠٠٠	4	٢٥٥١٥

إذا كان س^{٢} − ص^{٢} = أ^{٣} ، ص^{٣} صَ = ٨ ، فإن أ = ...

1	−١	2	−٢	3	١	4	٢

دعاؤنا لكم بالتوفيق والنجاح

موجه المادة : أ.عبدالملك الهلالي

الإجابة لأسئلة السابقة

الممسوحة ضوئيا بـ CamScanner

١: ضع علامة (✓) أمام العبارة الصحيحة وعلامة (×) أمام العبارة الخاطئة

١) $\lim_{س \to \infty}$ (٢س - ٣) جا $\frac{١}{س}$ جتا $\frac{١}{س}$ = ٢ (✓)

٢) إذا كانت د(س) = هـ$^{٣ لو قتاس}$ فإن د(س) = -٢ قتا^{٤}س جتاس (✗)

٣) إذا كان ع ∈ م^{٦} حيث ع$^{\frac{١}{٢}}$ - ع$^{\frac{-١}{٢}}$ = $\sqrt{٢}$ ت فإن ع^{١٠} = -١ (✓)

٤) $\frac{|ن + ١}{|ن - ٢}$ = $\sum_{ن=٢}^{٦}$ ق^{٣} (✓)

٥) الحد الخالي من س في مفكوك (س - $\frac{٣}{٢س^{٢}}$)^{١٢} هو ح$_{١}$ (✗)

٢: اختر الإجابة الصحيحة لما يلي

١) إذا كان ع = ($\frac{-١ - \sqrt{٣}ت}{٢}$)^{ن} حيث ن = ٣ك + ١ فإن ع = ...

(١) [١ ، $\frac{٤\pi}{٣}$] (٢) [١ ، ٢π] (٣) [١ ، $\frac{٢\pi}{٣}$] (٤) [١ ، π]

٢) إذا كان ع = [١ ، هـ] فإن $\frac{ع + ع^{-١}}{ع - ع^{-١}}$ = ...

(١) ظتاهـ (٢) - ظاهـ (٣) ت ظاهـ (٤) - ت ظتاهـ

٣) لكي تكون د(س) = $\frac{جا(\pi جاس)}{س^{٢} - س}$ متصلة عند س = ٠ فإن د(٠) = ...

(١) π (٢) - π (٣) $\frac{\pi}{٢}$ (٤) - $\frac{\pi}{٢}$

٤) عدد الأعداد الزوجية المكونة من ٣ أرقام مختلفة وعشراتها من مضاعفات العدد ٣ من المجموعة س={ ٢ ، ٣ ، ٤ ، ٥ ، ٦ } تساوي ....

(١) ٢١ (٢) ٢٤ (٣) ١٥ (٤) ٢٨

٥) إذا كان س^{٢} ص^{٣} = ٦ فإن ص = ...

(١) $\frac{-٢س}{٣ص}$ (٢) $\frac{٢ص}{٣س}$ (٣) $\frac{-٢ص}{٣س}$ (٤) $\frac{٢س}{٣ص}$

موجه المادة / الخضر بن قدير

الممسوحة ضوئيا بـ CamScanner

الجمهورية اليمنية
وزارة التربية والتعليم
مكتب التربية بأمانة العاصمة
التصفيات النهائية للمسابقة

بسم الله الرحمن الرحيم

المنطقة التعليمية :
اسم المدرسة:
الدرجة:

ثالث ثانوي علمي

١: ضع علامة (√) أمام العبارة الصحيحة وعلامة (×) أمام العبارة الخاطئة

١) $\underset{س \to \infty}{\text{نهـا}} \left(\frac{١}{س \text{ قتا } ٥ س} + \frac{س - ٤}{\text{قا}(س - ٤)} \right) = \text{صفر}$ ( )

٢) إذا كان ل (س+ ٧ ، س)= $\boxed{٦}$ ، ق (٣س ، ٨ – ص)= ق (٣س ، ٢ص - ٣)

فإن $^{ص}ل_{س} + {}^{ص}ق_{س} = ٢٤$ ( )

٣) إذا كانت ع = $\frac{-٢ + \sqrt{٣}ت + ت(٢\sqrt{٣} + ١)}{٢ - ت}$ فإن ع = [٢ ، ١٥٠] ( )

٤) مجموع معاملات المفكوك $(٢س + ٢ص)^{٣} (- س - ص)^{٣} = ٥١٢$ ( )

٥) إذا كانت ص = ظاس قاس فإن صَ = قاس(١+٢قا^{٢}س جا^{٢}س) ( )

٢: اختر الإجابة الصحيحة لما يلي

١) إذا كانت س^{٢}(ص^{٢}+١) = ٥ فإن س^{٣}ص صَ = ...

(١) $\frac{١}{٥}$ (٢) – ٥ (٣) ٥ (٤) - $\frac{١}{٥}$

٢) إذا كان ع = س+ ت ص ، س^{٢}+ ص^{٢} =٨ ، قا^{٢}هـ = $\frac{٤}{٣}$

حيث ٠ < هـ < $\frac{\pi}{٢}$ فإن $\left(\frac{-١}{ع}\right)$ = ...

(١) $\left[\frac{١}{٢\sqrt{٢}} ، \frac{٥\pi}{٦}\right]$ (٢) $\left[\frac{١}{٢\sqrt{٢}} ، \frac{-\pi}{٦}\right]$ (٣) $\left[\frac{١}{٢\sqrt{٢}} ، \frac{٧\pi}{٦}\right]$ (٤) $\left[\frac{١}{٢\sqrt{٢}} ، \frac{\pi}{٦}\right]$

٣) عدد طرق تشكيل لجنة خماسية من ٤ طلاب و ٤ مدرسين بحيث تحوي طالبين على الأقل = ...

(١) ٥٢ (٢) ٤٨ (٣) ٣٦ (٤) ٣٢

٤) إذا كان ع^{٢}= ٣+٤ت فإن ع + ٥ع$^{-١}$ = ...

(١) ± ٢ (٢) ± ٢ $\sqrt{٢}$ (٣) ± ٤ (٤) ± ٨

٥) الدالة المتصلة عند س = $\frac{\pi}{٢}$ هي د(س) = ...

(١) $\sqrt{س - \frac{\pi}{٢}}$ (٢) $\frac{\text{جتا س}}{\left|س - \frac{\pi}{٢}\right|}$ (٣) ظا٣س (٤) $\frac{س}{\text{جا س}}$

موجه المادة / الخضر بن قدير

الممسوحة ضوئيا بـ CamScanner

في ورقة الإجابة الدائرة التي تحوي الحرف (ص) للإجابة الصحيحة والحرف (خ) للإجابة الخطأ بحسب رقم الفقرة لكل مما يأتي (درجة لكل فقرة)

(أ) إذا كان ع$^{-1}$ = $\overline{ع}$ ظتا^{٢} $\frac{\pi}{٥}$٤ (حيث $\overline{ع}$ هو مرافق العدد المركب ع) فإن |ع| = ظا^{٤} $\frac{\pi}{٥}$

(ب) إذا كانت د(س) = (ظاس)^{جا٢س} ، فإن د$'$ ($\frac{\pi}{٤}$) = ٢

ختر الإجابة الصحيحة ثم ظلل في ورقة الإجابة الدائرة بحسب الاختيار ورقم الفقرة لكل مما يأتي : (درجة لكل فقرة)

3 إذا كانت سعة العدد ت ع +١ هي $\frac{\pi}{٣}$٣ ، |ع−٢| = $\sqrt{١٠}$ ، فإن سعة العدد ع هي .....

1	2	3	4
$\frac{\pi}{٦}$-	$\frac{\pi}{٣}$٢	$\frac{\pi}{٦}$٥	$\frac{\pi}{٤}$٣

4 عدد تباديل حروف كلمة (العربي) التي لا تبدأ بالحرف ب ولا تنتهي بالحرف ع يساوي .....

1	2	3	4
٦ل٤	٩ل٣	٢ أ ٦ل٤	٢ أ ٥ل٤

5 إذا كانت د(س) = س (٩ لو٣ ظتاس − ٤ لوم قتاس) ، فإن د$'$(س) = ...

1	2	3	4
١	س جتا ٢س	−١	س جا ٢س

دعاؤنا لكم بالتوفيق والنجـــاح

أ.عبدالملك الهـلالي

الممسوحة ضوئيا بـ CamScanner

المسابقة المنهجية للثانوية ... المادة / رياضيات .
منطقة معين التعليمية

س/ ضع علامة (✓) أمام العبارة الصحيحة وعلامة (✗) أمام العبارة الخاطئة :

١- ( ) إذا كانت ص = هـ^{٢} س فإن ص$'$ = ٢هـ^{٢} .

٢- ( ) إذا كان ع = ت ظا $\frac{٢\pi}{٣}$ فإن سعة ع = $\frac{٢\pi}{٣}$:

٣- ( ) إذا كانت د(س) = س^{٢} + م(س) وكانت ق(س) = $\frac{١}{٢}$ د(س) + ٧ ، م$'$(٣) = −٨ فإن ق$'$(٣) = ١

٤- ( ) إذا كان (∠أ − ٤)^{٥} = ٣٢ فإن أ = ٣

٥- ( ) $\lim_{س \to ٠} \frac{جا(\frac{\pi}{٢} - س)}{(س - \frac{\pi}{٢})}$ = −١

س٢/ أختار الإجابة الصحيحة من بين الأقواس .

١- ميل المماس لمنحنى الدالة س ص^{٢} = ٣ عند (٣، ١) يساوي ....

أ) $\frac{١}{٣}$ ب) $\frac{-١}{٦}$ جـ) −٣ د) −٦

٢- $^{ن}ق_{٤} - ^{ن-١}ق_{٣}$ = ...

أ) $^{ن}ق_{٤}$ ب) $^{ن}ق_{٣}$ ، جـ) $^{ن-١}ق_{٤}$ د) $^{ن-١}ق_{٣}$

٣- الحد الخالي من س في مفكوك ($\sqrt{س}$ + $\sqrt[٣]{س}$)^{١٥} هو .....

أ) الحد الثالث ب) الحد الخامس جـ) الحد التاسع د) غير موجود

٤- إذا كان $\frac{١}{ع_{١}} + \frac{١}{ع_{٢}}$ = صفر ، فإن $\frac{ت_{١}ع}{ت_{٢}ع}$ = ... ت^{٢}

وكانت $\frac{ت_{١}ع}{ع_{٢}}$ = ت

أ) ت^{٣} ب) ت^{٢} جـ) ت د) كل ما سبق خطأ .

٥- إذا كان ع = س + $\sqrt{٣}$ س ت س > ٠ |ع| = ٢$\sqrt{٢}$

فإن س = ...

أ) $\sqrt{٢}$ ب) ٢ جـ) ٢$\sqrt{٢}$ د) ٤ .

الممسوحة ضوئيا بـ CamScanner

النموذج الثاني

المسابقة المدرسية للثانوية العامة للعام الدراسي (٢٠٢١ - ٢٠٢٢م)

منطقة معين التعليمية — مادة الرياضيات

س١/ ضع علامة (✓) أمام العبارة الصحيحة وعلامة (X) أمام العبارة الخاطئة

١- مجموع جذري المعادلة (ت ع² + (١ - ت) ع + ٢ = ٠ ( )

يساوي (-١ - ت)

٢- إذا كان ن عدداً زوجياً فإن ت^ن - ت^-ن = صفر ( )

٣- إذا كان المماس يوازي محور الصادات عند النقطة (٢، -٣) ( )

فإن المعادلة المماس هي س = ٢

٤- مشتقة الدالة الضمنية (س + ٤ = س ص² - ص) هي ( )

$$\frac{\text{ءص}}{\text{ءس}} = \frac{\text{ص}^2 - 1}{2\text{س ص} - 1}$$

س٢/ أختار الإجابة الصحيحة من بين الأقواس :

١- إذا كان ع١ = ع٢ وكان ع١ = ٣أ + ٢ت ، ع٢ = ٢ + ٣ب ت

فإن :

أ) أ + ب = ١ ب) أ + ب = ٠ ج) أ - ب = ١ د) أ - ب = ٠

٢- قيمة ك التي تجعل الدالة د(س) = { س (جاس - ظتا ك س) ، س ≠ ٠ ؛ ك + ٢ ، س = ٠ }

متصلة عند س = ٠ هي .....

أ) ٠ ب) ١ ج) -١ د) ٢

٣- إذا كان حاصل ضرب جذري المعادلة :

(١ + ت) ع² - (٣ + ت) ع - هـ = ٠ هو $\frac{3}{2} + \frac{7}{2}$ ت فإن هـ = ...

أ) ٢ - ٥ت ب) -٢ + ٥ت ج) -٢ - ٥ت د) ٢ + ٥ت

٤- إذا كان $\frac{1}{2}$ ع + ع̄ = ٦ + ت فإن ع̄ = ...

أ) -٤ - ٢ت ب) ٤ + ٢ت ج) -٤ - ٢ت د) -٤ + ٢ت

الممسوحة ضوئيا بـ CamScanner

المسابقة المنهجية للثانوية العامة للعام الدراسي ٢٠٢١م/٢٠٢٢م

منطقة معين التعليمية — المادة / رياضيات .

س١ ضع علامة (✓) أمام العبارة الصحيحة وعلامة (✗) إمام العبارة الخاطئة :

١- د(س) = س^ن ، ن ∈ ص^+ ، د''(س) = ٤٢ س^(ن-٢) فإن ن = ٦ ( )

٢- إذا كانت د'(س) = س د(س) ، د(٣) = -٥ فإن د''(س) = ١٥ ( )

٣- إذا كانت ع ∈ م^* حيث |١+ع| = |١-ع| فإن ع تخيلي صرف ( )

٤- ق_ر^ن = ن ق_ر^(ن-١) ( )

٥- ل١٠ ≠ ل٧ ل٦ ( )

س٢ أختار الإجابة الصحيحة من بين الأقواس :

١- ص^٢ + س^٢ - ٣س ص = -١ فإن ءص/ءس عند (١،١) = ...

أ -١ ، ب ٠ ، جـ ١ ، د ٢/٣

٢- إذا كان نـ_(س ← π) (س - π)/(جا(أ جاس)) = -٢ فإن أ = ...

أ -٢ ، ب ٢ ، جـ -١/٢ ، د ١/٢

٣- إذا كان ل_٣^(ن+١) ÷ ل ن/(ن-٢) = ٧ فإن ن = ...

أ ٤ ، ب ٥ ، جـ ٦ ، د ٧

٤- إذا كانت ع + |ع| = ٩ - ٣ت فإن ع = ...

أ ٣ - ٤ت ، ب -٤ + ٣ت ، جـ ٤ - ٣ت ، د -٣ + ٤ت

٥- إذا كان ع + ت ع = -٦ت فإن ع بالصورة [ر ، هـ]

أ [٦/√٢ ، -π/٤] ، ب [٦/√٢ ، π/٤] ، جـ [٦/√٢ ، ٥π/٤] ، د [٦/√٢ ، -٥π/٤]

الممسوحة ضوئيا بـ CamScanner

صبر الموادم

"بسم الله الرحمن الرحيم"

نموذج "ب"

٢٠٢١ / ٢٠٢٢

السؤال	"أجب عن جميع الأسئلة التالية:- ١٠ درجات	الدرجة
س١	ضع علامة (✓) أمام العبارة الصحيحة وعلامة (✗) أمام العبارة الخاطئة في كل مما يلي:-	
	١- إذا كان ع = ٢ + ٣ت فإن |ع̄| = ١٣ ( )	١
	٢- العددان ت^٩ ، ت^١٥ مترافقان ( )	١
	٣- إذا كان ع = [١ ، π/٨] فإن ع^٤ = ت ( )	١
	٤- إذا كان ن ل٢ = ١٢ فإن ن:ن = ٣ ( )	١
	٥- عدد الطرق الممكنة لجلوس ٥ طلاب حول طاولة مستديرة يساوي ١٢٠ طريقة ( )	١
س٢	إختر الإجابة الصحيحة من بين الأقواس وذلك بوضع دائرة حول حرف الإجابة في كل مما يلي:-	
	١- إذا كانت ع̄ = ٤ + ٢ت فإن ع = ---- [أ* -٤+٢ت ب* -٤-٢ت ج* ٤-٢ت]	١
	٢- إذا كان ع عدداً مركباً سعته π/٤ والجزء الحقيقي هو √٢ فإن |ع| = ---- [أ* √٢ ب* -√٢ ج* ٢]	١
	٣- إذا كان ع = [٢ ، π/١٢] فإن سعة ع^٦ تساوي ---- [أ* π ب* π/٢ ج* ٢π]	١
	٤- إذا كان ل(ن+١) = ٥٠٤٠ فإن قيمة ن تساوي --- [أ* ٧ ب* ٨ ج* ٦]	١
	٥- عدد الطرق الممكنة لتشكيل لجنة مكونة من ٣ أعضاء من بين ١٠ أشخاص ، يساوي ---- [أ* ٧٢٠ ب* ٢٤٠ ج* ١٢٠]	١

الممسوحة ضوئيا بـ CamScanner

مكتب التربية والتعليم م/ رفح

بسم الله

المسابقة المنهجية لمادة الرياضيات

أسم المدرسة: ...

للصف ٣ ث ع للعام ٢٠٢١/٢٢

المديرية

الزمن ١٢ دقيقة

موضوع الدرس:

التاريخ: / /

أولاً ضع علامة "✓" أو "✗" المناسبة فيما يلي:

١) إذا كان ع = [٢ ، $\frac{\pi}{٣}$] فإن ع = [٢ ، $-\frac{\pi}{٣}$] ( )

٢) عدد طرق ترتيب ٧ أخوة في صف مستقيم بحيث يجلس الأكبر في بداية الصف والأصغر في نهاية الصف = ٥ ( )

٣) إذا كان ص = $هـ^{\pi}$ + $س^{-١}$ فإن ص = $\frac{+٢}{س^{٣}}$ ( )

٤) إذا كانت: $\frac{ص^{٢}}{س} = \frac{س^{٢}}{ص}$ فإن $\frac{دص}{دس} = \frac{س^{٢}}{ص^{٢}}$ ( )

من درجة ونصف

ثانياً أختر الإجابة الصحيحة من بين الأقواس

٥) إذا كانت د(س) = $هـ^{(لوس+١)}$ فإن ص = [ص − $\frac{هـ}{س}$ − هـ − هـ]

٦) إذا كان المماس يوازي محور السينات عند نقطة التماس (٤ ، ٦) فإن معادلة المماس هي = [أ) ص = ٤ ب) س = ٤ ج) ص = ٦ د) س = ٦]

٧) إذا كان ل س − س = س فإن س = [٢ − ٣ − ٤ − ٥]

٨) سعة العدد ع = جا هـ − ت جتا هـ هي

[أ) $\frac{\pi}{٢}$ − هـ ب) $\frac{\pi}{٢}$ − هـ ج) $\frac{٣\pi}{٢}$ − هـ د) $\frac{٣\pi}{٢}$ + هـ]

الواجب: .....

الممسوحة ضوئيا بـ CamScanner

الجمهورية اليمنية
وزارة التربية والتعليم
مكتب التربية بالأمانة
منطقة الثورة التعليمية

الشهادة الثانوية للعام ٢٠٢١/٢٠٢٢م
في مادة: الرياضيات

المدرسة:

الدرجة: ٥٠

أولاً: ضع علامة (✓) أو (X) أمام العبارات التالية:

١- العدد $\sqrt{11}-3$ تخيلي صرف ( )

٢- المعادلة التربيعية التي جذراها 1، $1-ت$ هي $ع^2-(1+ت)ع+2+2ت=0$ ( )

٣- $\lim_{س\to 0} \frac{جتا^2 س - جتا س}{س^2} = \frac{1}{2}$ ( )

٤- $\lim_{س\to \frac{\pi}{2}} \frac{ظا 2س}{جتا س} = 4$ ( )

٥- إذا كان $د(س) = ه^{س^2}$ فإن $د(0) = لو ه$ ( )

ثانياً: اختر الإجابة الصحيحة من بين الأقواس:

١- عدد طرق ترتيب ٧ أشخاص في صف بحيث يجلس ٣ أشخاص محددين بجانب بعضهم = (٤١٢٠ / ٤٢٢٠ / ٤٣٢٠ / ٤٤٢٠)

٢- إذا كانت $ق(ع) = \frac{35}{9}$ وكانت $ق(\frac{1}{ع}) = \frac{32}{9}$ فإن $ع$ تساوي $(\frac{1}{4}, ع)$ على الترتيب هما (٠,٦٠)(٠,٥٠)(٠,٧٠)(٠,٨٠)

٣- إذا كان $ت^2 + ت + ب = 0$ حيث $ت = س^{ب-2}$ فإن $س =$ (ت، ت^2، ت^3، ت^4)

٤- قيم الثابت م التي تجعل الدالة
$د(س) = \begin{cases} \frac{8 جاس + س جا\frac{1}{س}}{س} & ، س \neq 0 \\ 2س - 1 + م^2 & ، س = 0 \end{cases}$
متصلة عند $س = 0$ هي (±1 / ±2 / ±3 / ±4)

٥- إذا كان $ل_{ص} + ق_{س}^{ص} = 0$ حيث $ص = \sqrt{4 - س^2}$ فإن $ق =$ (6 / 7 / 8 / 9).

مع تمنياتي للجميع بالتوفيق

الممسوحة ضوئيا بـ CamScanner

جمهورية اليمنية — المسابقة النهائية للشهادة — الاسم:
وزارة التربية والتعليم — الثانوية للعام ٢٠٢١/٢٠٢٢م.
المكتب التربية بأمانة — في مادة: الرياضيات — الدرجة: ١٠
منطقة الثورة التعليمية

أولاً: ضع علامة (✓) أو (X) أمام العبارات التالية:

١- العدد $\sqrt{٣٧-١١٧}$ تخيلي صرف ( )

٢- عدد التطبيقات غير الثابتة $د_{م}$ حيث $م = \{١، ٢، ٣\}$
$د_{م} = \{(١، ٢)، (٢، ١)\}$ تساوي ٥٠ ( )

٣- في المفكوك $(س + \frac{١}{س})^{١٤}$ الحد الخالي من $س$ هو $\binom{١٤}{٨}$ ( )

٤- $\lim_{س \to ١} \frac{ظا^{٢} س}{س^{٢} - س} = ٢$ ( )

٥- إذا كان $ك(س) = لو_{٤} س$ ، $د(س) = \frac{١}{س}$ فإن $ك'(د(س)) = (\ln ٥ د)(\frac{١}{٢}) = ٦$ ( )

ثانياً: اختر الإجابة الصحيحة من بين الأقواس:-

١- إذا كانت $ص = جتا^{٣} س$ فإن $ص'' + (٢ص)^{٢} = ٠$ (١ / ٢ / ٣ / ٤)

٢- إذا كانت $د(س) = \begin{cases} \frac{جا^{٢} س}{س ظا^{٢} س} & س \neq ٠ \\ ٩ + جتا س & س = ٠ \end{cases}$
متصلة عند: $س = ٠$ فإن $ك =$ (٦ / ٧ / ٨ / ٩).

٣- إذا كان الحد الأوسط في مفكوك $(س^{٢} - ١٠س + ٢٥)^{\frac{ن}{٢} - ٣}$ هو $٢٥٦ س^{٨}$
فإن $ن =$ ... (٤ / ٦ / ٨ / ١٠).

٤- إذا كان $\frac{س + ص ت}{٢ - ٣ت}$ ، $٢ + ٤ت$ مترافقان فإن $ك =$
$س + ص =$ (٢٢ / -٢٢ / ٢٤ / -٢٤)

٥- $\int_{ل}^{م} ك(س) د س = ٢٥$ فإن $\int_{ل}^{م} ك(س) د س =$ (١ / ٣ / ٤ / ٦)

مع تمنياتي للجميع بالتوفيق

الممسوحة ضوئيا بـ CamScanner

الجمهورية اليمنية
وزارة التربية والتعليم
مكتب التربية بالأمانة
منطقة الثورة التعليمية

السابقة المنهجية للشهادة
الثانوية للعام ٢٠٢١/٢٠٢٢م
في مادة: الرياضيات

المدرسة:

الدرجة

١٠

أولاً: ضع علامة (✓) أو (✗) أمام العبارات التالية:

١- إذا كان ت^{٣}ع = ١ - ت فإن ع^{٦} = -٨ت ( )

٢- ق$^{ن}_{٤}$ - ق$^{ن-١}_{٣}$ = ق$^{ن-١}_{٤}$ ( )

٣- عدد طرق ترتيب ٧ أشخاص في صف بحيث شخصين محددين لا يجلسا متجاورين = ٣٦٠٠ ( )

٤- إذا كانت ص = $\frac{\text{جاع}}{\text{٢+لوع}}$ ، س = $\frac{\text{٢+لوع}}{\text{جاع}}$ فإن ص' = $\frac{١}{\text{س}^{٢}}$ ( )

٥- إذا كانت نهـا$_{\text{س}\to ٠}$ $\frac{\text{أ - ٣جتا ب س}}{\text{س}^{٢}}$ = ٦ فإن قيمة أ+ب = ٣ ( )

ثانياً: اختر الإجابة الصحيحة من بين الأقواس:

١- إذا كانت ص = $\frac{\text{جتاس}}{\text{قاس + ظاس}}$ فإن ص' = (جتاس / -جتاس / جاس / -جاس)

٢- إذا كان -ع = جا$\frac{٦٢}{٦}$ + ت جتا$\frac{٦٢}{٦}$ فإن سعة (ع) = (٦٠ / -٦٠ / ١٢٠ / -١٢٠)

١- من المجموعة {١ / ٢ / ٣ / ٤ / ٥ / ٦} عدد الأعداد الرباعية الزوجية التي أكبر من ٤٠٠٠ بدون تكرار = ... (٨٠ / ٨٤ / ٨٨ / ٩٢).

٢- إذا كان ٢ $\lfloor$أ-١ = ١٠٨٠ فإن $\lfloor$أ-٣ = (٦ / ٢٤ / ١٢٠ / ٧٢٠)

٣- مجموع معاملات (س+ص)^{٣} (س-ص)^{٣} يساوي (صفر / ٨ / -٨ / ٦٤).

مع تمنياتي للجميع بالتوفيق

الممسوحة ضوئيا بـ CamScanner

الصف: الثاني عشر العلمي — الفصل الدراسي الثاني — الامتحان النهائي — المادة: الرياضيات — الزمن: ساعتان — الدرجة: ١٠٠

أولاً: اختر الإجابة الصحيحة من بين الإجابات المعطاة لكل مما يلي: (٣٠ درجة)

١- إذا كان $ن(أ) = ٠,٤$ ، $ن(أ \cap ب) = ٠,١٦$ فإن $ن(ب|أ) =$ ( )

٢- إذا كان $ن(أ) = ٠,٤$ ، $ن(ب) = ٠,٥$ ، $ن(أ \cup ب) = ٠,٧$ فإن $ن(أ \cap ب) =$ ( )

٣- إذا كان $ن(أ) = ٠,٨$ ، $ن(ب|أ) = ٠,٢$ فإن $ن(أ \cap ب) =$ ( )

٤- في التجربة العشوائية: إلقاء قطعة نقد مرتين متتاليتين، فإن عدد عناصر فضاء العينة $ف$ هو ( )

٥- إذا كان $ن(أ) = ٠,٦$ ، $ن(ب) = ٠,٥$ ، $ن(أ \cap ب) = ٠,٣$ فإن $ن(أ \cup ب) =$ ( )

٦- إذا كان $ن(أ) = ٠,٤$ ، $ن(ب) = ٠,٥$ ، $ن(أ \cap ب) = ٠,١$ فإن $ن(أ|ب) =$ ( )

٧- إذا كان $ن(أ) = ٠,٨$ ، $ن(ب) = ٠,٥$ ، $ن(أ \cap ب) = ٠,٤$ فإن $ن(أ \cup ب) =$ ( )

٨- إذا كان $ن(أ) = ٠,٦$ ، $ن(ب) = ٠,٥$ ، $ن(أ \cap ب) = ٠,٣$ فإن $ن(أ|ب) =$ ( )

٩- إذا كان $ن(أ) = ٠,٤$ ، $ن(ب) = ٠,٥$ ، $ن(أ \cap ب) = ٠,١$ فإن $ن(ب|أ) =$ ( )

١٠- إذا كان $ن(أ) = ٠,٨$ ، $ن(ب|أ) = ٠,٢$ فإن $ن(أ \cap ب) =$ ( )

ثانياً: أجب عن الأسئلة الآتية: (٧٠ درجة)

١- إذا كان $ن(أ) = ٠,٤$ ، $ن(ب) = ٠,٥$ ، $ن(أ \cap ب) = ٠,١$ فأوجد: $ن(أ|ب)$ ، $ن(ب|أ)$ ، $ن(أ \cup ب)$.

٢- إذا كان $ن(أ) = ٠,٨$ ، $ن(ب|أ) = ٠,٢$ فأوجد: $ن(أ \cap ب)$.

٣- في تجربة إلقاء قطعة نقد مرتين متتاليتين، أوجد: فضاء العينة $ف$، ثم عدد عناصره $ن(ف)$.

٤- في التجربة السابقة، ليكن $س$ = عدد مرات ظهور الكتابة. أوجد: $ن(س = ١)$، $ن(س \geq ١)$.

٥- ليكن $س$ متغيراً عشوائياً منفصلاً قيمه $٠, ١, ٢$ وكان $ن(س = ٠) = ٠,٢$ ، $ن(س = ١) = ٠,٥$. أوجد: $ن(س = ٢)$، $ن(س \leq ١)$، $ن(س > ٠)$.

٦- إذا كان $ن(أ) = ٠,٦$ ، $ن(ب) = ٠,٥$ ، $ن(أ \cap ب) = ٠,٣$ فأوجد: $ن(أ|ب)$، $ن(ب|أ)$، $ن(أ \cup ب)$.

٧- إذا كان $ن(أ) = ٠,٤$ ، $ن(ب) = ٠,٥$ ، $ن(أ \cap ب) = ٠,١$ فأوجد: $ن(أ|ب)$، $ن(ب|أ)$، $ن(أ \cup ب)$.

٨- إذا كان $ن(أ) = ٠,٨$ ، $ن(ب|أ) = ٠,٢$ فأوجد: $ن(أ \cap ب)$.

٩- إذا كان $ن(أ) = ٠,٦$ ، $ن(ب) = ٠,٥$ ، $ن(أ \cap ب) = ٠,٣$ فأوجد: $ن(أ|ب)$، $ن(ب|أ)$، $ن(أ \cup ب)$.

١٠- إذا كان $ن(أ) = ٠,٤$ ، $ن(ب) = ٠,٥$ ، $ن(أ \cap ب) = ٠,١$ فأوجد: $ن(أ|ب)$، $ن(ب|أ)$، $ن(أ \cup ب)$.

مع تمنياتي للجميع بالتوفيق

الممسوحة ضوئيا بـ CamScanner

وزارة التربية والتعليم
مكتب التربية بالأمانة
منطقة الثورة التعليمية

المسابقة المنهجية للشهادة الثانوية (القسم الأدبي) للعام ٢٠٢١م/٢٠٢٢م
في مادة: الرياضيات

المدرسة:

الدرجة: ١٠

أولاً: ضع علامة (✓) أو (✗) أمام العبارات التالية:

- $\int_{ن}^{ن} = \int_{ن-١}^{ن-١}$ ( )
- عدد طرق اختيار ٦ أسئلة من بين ٨ أسئلة = ٥٦ طريقة ( )
- إذا كان ٢ ل ن = ١٤٤٠ فإن قيمة ن = ٦ ( )
- عدد الأعداد المؤلفة من ثلاثة أرقام مختلفة التي يمكن تكوينها من المجموعة س = {٢، ٥، ٧، ٩} = ل٤ ( )
- عدد طرق جلوس ٥ أشخاص حول مائدة مستديرة = ل٥ ( )

ثانياً: اختر الإجابة الصحيحة من بين الأقواس:

- إذا كان $ق_{ر-١}^{١١} = ق_{ر}^{١١}$ فإن قيمة ر = (٥، ٦، ٧، ٨).
- إذا كان $\int_{ر}^{١٠} = ١٠ \times ٩ \times ٨ \times ٧ \times ٦$ فإن قيمة ر = (٣، ٤، ٥، ٦).
- إذا كان $\int_{٢}^{ن} = ٣٠$ فإن قيمة ن = (٤، ٥، ٦، ٧).
- إذا كان $ق_{١٢}^{ن} = ق_{٨}^{ن}$ فإن قيمة ن = (١٨، ١٩، ٢٠، ٢١).
- $ق_{٤}^{٩} =$ (١١٦، ١٢٦، ١٣٦، ١٤٦).

مع تمنياتي للجميع بالتوفيق

الممسوحة ضوئيا بـ CamScanner

ظلل على الحرف (ص) للإجابة الصحيحة، الحرف (خ) للإجابة الخطأ، بحسب رقم الفقرة

١) ( ) .. العنصر المحايد الضربي للعدد المركب ع = س + ت ص هو (١، ١) .

٢) ( ) .. عدد طرق إختيار ٣ طلاب أو ٤ معلمات من بين ٤ معلمات، ٥ طلاب = ١١

٣) ( ) .. إذا كان $ع_1$ ، $ع_2$ ، $ع_3$ الجذور التكعيبية للعدد ع فإن $ع_1 \cdot ع_2 \cdot ع_3 = -ع$

٤) ( ) .. إذا كان ص = $هـ^{٣ لو \sqrt{س}}$ فإن $ص' = \frac{٣}{٢}\sqrt{س}$

اختر الإجابة الصحيحة ثم ظلل في ورقة الإجابة بحسب الاختيار لكل فقرة

١) عدد المصافحات بين ٦ أشخاص أثنان منهما متخاصمين لن يتصافحا يساوي .. [(أ) ١٤ (ب) ١٥ (جـ) ١٦ (د) ٣٠]

٢) إذا كان (هـ ∘ د)'(٤) = ١٢ ، (هـ' ∘ د)(٤) = ٦ فإن د'(٤) = ...

[(أ) ٢ (ب) −٢ (جـ) ١٨ (د) −١٨]

٣) إذا كان $^{م}ل_{٥} : {}^{م}ل_{٤} = ٧$ فإن قيمة م − ٣ = ...

[(أ) ٧ (ب) ٨ (جـ) ١١ (د) ١٤]

٤) إذا كان د(س) = { س ظتا $\frac{س}{٢}$ ، س ≠ ٠ ؛ $\frac{أ}{\pi} + ١$ ، س = ٠ } فإن قيمة أ التي تجعل الدالة متصلة عند س هي [(أ) $\frac{١}{\pi}$ (ب) π (جـ) $\frac{٢}{\pi}$ (د) صفر]

الممسوحة ضوئيا بـ CamScanner

وزارة التربية والتعليم
مكتب التربية والتعليم م/ تمز
إدارة التربية والتعليم والتعليم بالمنوفية
قسم التوجيه

نموذج (ج) (ب)

أسئلة المسابقة العلمية والثقافية في مادة الرياضيات
لطلاب الثانوية العامة ٢٠٢١/٢٠٢٢م

التربية
الزمن: ١٠ دقائق
التاريخ: / / ٢٠٢٢م
المفتاح: ١ أو جميع

ظلل (س) أو (ع)

١	(س)	●
٢	●	(ع)
٣	(س)	●
٤	●	(ع)

اختيار من متعدد ظلل الإجابة الصحيحة

١	(أ)	(ب)	(جـ)	●
٢	●	(ب)	(جـ)	(د)
٣	(أ)	(ب)	(جـ)	●
٤	(أ)	(ب)	●	(د)

ظلل على الحرف (ص) للإجابة الصحيحة. الحرف (خ) للإجابة الخطأ بحسب رقم الفقرة

١) (✗) .. الدالة د(س) = $\sqrt{أ - س}$ متصلة عند س = أ

٢) (✓) .. إذا كان د(س) = $ق^{٣}$س فإن د'(س) = ٣ ص ظا س

٣) (✓) .. نها $\underset{س \to \infty}{}$ ٢٢س جا $\frac{١}{س}$ = ٢٢

٤) (✓) .. إذا كان ع = ت(√-٩ + ت) فإن سعة ع = ٢٢

إختر الإجابة الصحيحة ثم ظلل في ورقة الإجابة بحسب الاختيار ورقم الفقرة

١) إذا كان د(س) = $هـ^{\sqrt{أ س}}$ ، وكان د'(٠) = ٢ فإن قيمة أ = ..

[(أ) صفر (ب) ٢ (جـ) ٣ ● ٤]

٢) في مفكوك $(س + ب)^{١٥}$ فإن النسبة بين $ح_{٨}$: $ح_{٧}$ هي ..

[● $\frac{٩}{س}$ (ب) $\frac{-٩}{س}$ (جـ) ٩ (د) -٩]

٣) إذا كان $ع_{١}$ = ١ + ت ، $ع_{٢}$ = ٤ - ٢ت فإن سعة $ع_{١}$ - $ع_{٢}$ = ..

[(أ) $\frac{\pi}{٤}$ (ب) $-\frac{\pi}{٤}$ (جـ) $\frac{٥\pi}{٤}$ ● $\frac{٣\pi}{٤}$]

٤) عدد طرق خروج ٣ أطفال من حديقة لها ٤ أبواب يساوي ..

[~~(أ)~~ ١٢ (ب) ١٨ ● ٦٤ (د) ٨١]

انتهت الأسئلة

م/ محمد صادق

الممسوحة ضوئيا بـ CamScanner

وزارة التربية والتعليم
مكتب التربية والتعليم بـ تعز
مدرة التربية والتعليم والتعليم والتدريب والتنمية

أسئلة المسابقة العلمية والثقافية في مادة الرياضيات
لطلاب الثانوية العامة ٢٠٢٣/٢٠٢٤م

الفصل
اليوم
التاريخ / ٢٠٢٤م
المادة الرياضيات

اختار من متعدد مثل الإجابة الصحيحة

	شكل (س)	أو (ع)
١	●	ع
٢	●	س
٣	●	ص
٤	●	ع

١	●	
٢	●	
٣	●	
٤	●	

١٠

ظلل على الحرف (ص) للإجابة الصحيحة، والحرف (خ) للإجابة الخطأ بحسب رقم الفقرة.

١) ( ) .. إذا كان دا(س) = هـ^(٢ لوس) فإن د(س) = ٢ هـ^(٢ لوس)

٢) ( ) .. يمكن إعادة إتصال الدالة دا(س) = |اجاس| / س عند س = ٠ لتصبح متصلة

٣) ( ) .. نها_{س→٥٥} هـ^س جتا هـ^س = ١

٤) ( ) .. عدد حدود المفكوك (٢ + ١)^{ن+٥} يساوي (٩٢) فإن قيمة ن = ٦

إختر الإجابة الصحيحة ثم ظلل في ورقة الإجابة بحسب الإختيار لكل فقرة.

١) إذا كان دا(س) = ظا(لوس) فإن د(١) = ـــ

[(أ) صفر ● (ب) ١ (ج) ٢ (د) -١/٢]

٢) إذا كان سعو ع = ٣ + (ع - ١) ن تساوي ٢ن فإن قيمة ع = ـــ

[● (أ) ٤ (ب) ٣ (ج) ٢ (د) ١]

٣) عدد طرق جلوس ٥ أشخاص بحيث يجلس شخصان متجاورين في صف مستقيم = ـــ

[(أ) ١٢ (ب) ٣٦ ● (ج) ٤٨ (د) ١٢٠]

٤) مجموع جذري المعادلة: ن^٢ - ٥ن + ٧ = ٠ هي ..

[(أ) ٥ (ب) -٥ (ج) ٥ن ● (د) -٥ن]

انتهت الأسئلة

ج٠ = ٢-/٢ = (-٥)/٥ = -٥/١ = -٥

٢/ مجموعها ٢٠

الممسوحة ضوئيا بـ CamScanner

جمهورية مصر العربية
وزارة التربية والتعليم
مكتب التربية والتعليم م/ نصر
إدارة التربية والتعليم بالشرقية والسويس والبحر الأحمر

نموذج (ج)

أسئلة المسابقة العلمية والثقافية في مادة الرياضيات
لطلاب الثانوية العامة ٢٠٢٠/٢٠٢١م

المدرسة
الزمن ١٠ دقائق
التاريخ / ٢٠٢١م
الدائرة أبو حمـــاده

الدرجة ١٠

إختار من متعدد على الإجابة الصحيحة

١	①	②	③	④
٢	①	②	③	④
٣	①	②	③	④
٤	①	②	③	④

١	(أ)	(ب)	(ج)	
٢	(أ)	(ب)	(ج)	
٣	(أ)	(ب)	(ج)	
٤	(أ)	(ب)	(ج)	

ظلل على الحرف (ص) للإجابة الصحيحة، والحرف (خ) للإجابة الخطأ، بحسب رقم العنصر

(١) ( ) .. إذا كان $\lim_{س \to ٢} د(س) = صفر$ فإن بعد ذلك نتأكد بالتعويض المباشر لنحسن إجابة $\lim_{س \to ٢} د(س) = د(٢)$

عند النقطة (٢، ٢) هل ص = ٣ .

(٢) ( ) .. إذا كان ص = $س^{-٣}$ فإن $ص^{٥} = \frac{٥}{-٣}$

(٣) ( ) .. إذا كان لدينا ٥ نقاط ليست على أستقامة واحدة فإن عدد المثلثات التي يمكن رسمها = ١٠ .

(٤) ( ) .. إذا كان ع، ع هما جذرا المعادلة التربيعية للمتغير ع فإن $(ع_١ ع_٢)^{ع} = ع$

إختر الإجابة الصحيحة ثم ظلل في ورقة الإجابة بحسب الأختيار، لكل فقرة

(١) إذا كان (ن ع) جذر المعادلة : $ع^{٢} - ك ن ع = ٣$ فإن قيمة ك = ..

[(أ) ٢ (ب) ٣ (ج) ٤ (د) ٥]

(٢) إذا كان د(٢) = ١ ، د'(٢) = -٢ ، هـ(٢) = ٤ ، هـ'(٢) = ٢ فإن

$(د \cdot هـ)'(٢) = ..$

[(أ) ٢ (ب) -٢ (ج) ٦ (د) -٦]

(٣) في مفكوك $(س + ص)^{١٥}$ إذا كان معامل $ح_{٧}$ = معامل $ح_{٩}$ فإن قيمة م = ..

[(أ) ١٠ (ب) ١١ (ج) ١٢ (د) ١٣]

(٤) تكون الدالة د(س) = $\frac{٣س^{٢} + ٥س}{٣س}$ متصلة عند س = ٠ فإن د(٠) = ..

[(أ) ١ (ب) ٢ (ج) ٣ (د) ٤]

أنتهت الأسئلة

م/ محمد هادي

الممسوحة ضوئيا بـ CamScanner

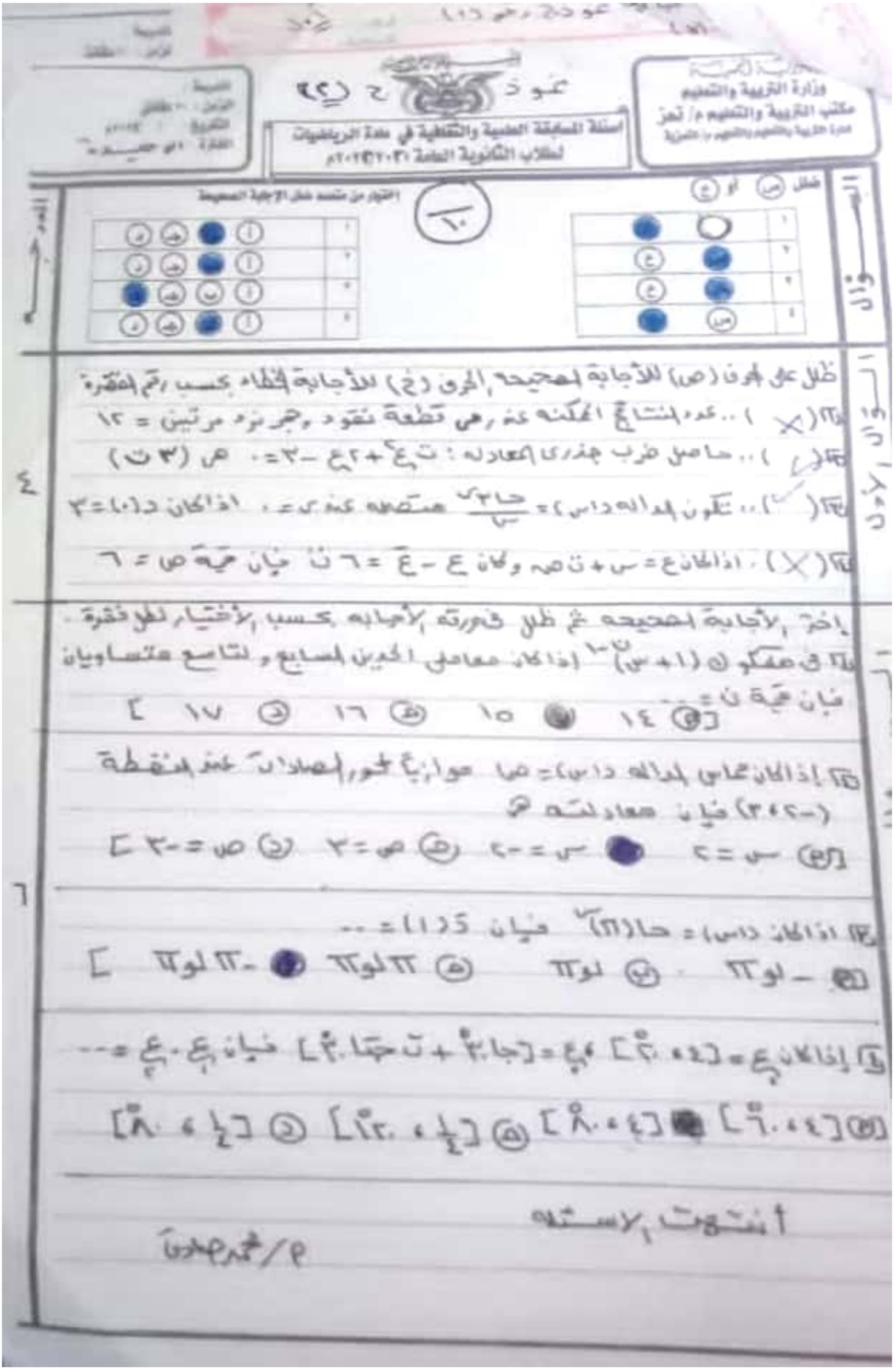

نموذج (٢)

وزارة التربية والتعليم
مكتب التربية والتعليم م/ تحز

أسئلة المسابقة العلمية والثقافية في مادة الرياضيات
لطلاب الثانوية العامة ٢٠٢٣/٢٠٢٤م

ظلل (ص) أو (ع)

اختيار من متعدد ظلل الإجابة الصحيحة

١	●	○
٢	●	ع
٣	●	ع
٤	ص	●

١	أ	●	جـ	د
٢	أ	●	جـ	د
٣	أ	ب	جـ	●
٤	أ	●	جـ	د

السؤال الأول

ظلل على الحرف (ص) للإجابة الصحيحة، الحرف (خ) للإجابة الخطأ بحسب رقم الفقرة

١) (✗) .. عدد النتائج الممكنة عند رمي قطعة نقود وحجر نرد مرتين = ١٢

٢) (✓) .. حاصل ضرب جذري المعادلة: ت ع^{٢} + ٢ع − ٣ = ٠ هي (٣ ت)

٣) (✓) .. تكون الدالة د(س) = $\frac{\text{جا}\,٣س}{س}$ متصلة عند س = ٠ إذا كان د(٠) = ٣

٤) (✗) .. إذا كان ع = س + ت ص وكان ع − ع̄ = ٦ ت فإن قيمة ص = ٦

٥) اختر الإجابة الصحيحة ثم ظلل في ورقة الإجابة بحسب الاختيار لكل فقرة.

١) في مفكوك (١ + س)$^{ن-١}$ إذا كان معاملي الحدين السابع والتاسع متساويان فإن قيمة ن = ...

[(أ) ١٤ ● ١٥ (جـ) ١٦ (د) ١٧]

٢) إذا كان مماس الدالة د(س) = ص موازياً لمحور الصادات عند النقطة (−٢، ٣) فإن معادلته هي

[(أ) س = ٢ ● س = −٢ (جـ) ص = ٣ (د) ص = −٣]

٣) إذا كان د(س) = جا(π)^{س} فإن د̄(١) = ...

[(أ) −لو π (ب) لو π (جـ) π لو π ● −π لو π]

٤) إذا كان ع$_{١}$ = [٤، ٢٠°] ، ع$_{٢}$ = [جا ٣٠° + ت جتا ٣٠°] فإن ع$_{١}$. ع$_{٢}$ = ...

[(أ) [٤، ٦٠°] ● [٤، ٨٠°] (جـ) [$\frac{١}{٤}$، ١٢٠°] (د) [$\frac{١}{٤}$، ٨٠°]]

أنتهت الأسئلة

م/ محمد صادق

الممسوحة ضوئيا بـ CamScanner

ظلل على الحرف (ص) للإجابة الصحيحة، الحرف (خ) للإجابة الخطأ بحسب رقم الفقرة

١) (✓) .. إذا كان ع = س + ت ص فإن $ع^{-1} = \frac{\bar{ع}}{|ع|^2}$.

٢) ( ) .. من المجموعة س = {٠، ١، ٢، ٥، ٦} عدد الأعداد الزوجية المختلفة التي يمكن تكوينها من المجموعة س = ٩ .

٣) ( ) .. $\lim_{س \to 0} \frac{جا(\pi + س)}{(\pi + س)} = ١$.

٤) ( ) .. إذا كان ص = $\sqrt{هـ}^{جتاس}$ فإن $\frac{ع ص}{ع س} = هـ^{قاس}$ قاس ظاس .

إختر الإجابة الصحيحة ثم ظلل في ورقة الإجابة بحسب الاختيار لكل فقرة.

١) حاصل ضرب الجذرين التربيعيين للعدد (١ - ٣ت) هو ..

[(أ) -١ + ٣ت (ب) ١ - ٣ت (جـ) -١ - ٣ت (د) ١ + ٣ت]

٢) عدد طرق إختيار ٣ كتب وأكثر من بين ٥ كتب هو ..

[(أ) ٢٦ (ب) ٢٠ (جـ) ١٨ (د) ١٦]

٣) تكون الدالة د(س) = (٢س - π) قاس متصلة عند س = $\frac{\pi}{2}$ إذا كان د($\frac{\pi}{2}$) = ..

[(أ) ٢ (ب) -٢ (جـ) ١ (د) -١]

٤) إذا كان د(س) = أ س^2 ، $هـ^{-1}(٢) = ١$ ، هـ(٢) = ٤ كان (د ∘ هـ)$^{-1}$(٢) = ٢٤ فإن قيمة أ = ..

[(أ) ٤ (ب) ٣ (جـ) ٢ (د) ١]

أ/ محمد صادق

الممسوحة ضوئيا بـ CamScanner

وزارة التربية والتعليم
مكتب التربية والتعليم والتعزز
إدارة التربية والتعليم والتعزز

نموذج (د)

أسئلة المسابقة العلمية والثقافية في مادة الرياضيات
لطلاب الثانوية العامة ٢٠٢١/٢٠٢٢م

المادة: الرياضيات
التاريخ: / ٢٠٢٢م
الفترة: ٢ ساعة

٢٠

اختار من متعدد فقط الإجابة الصحيحة

١	●	ب	ج
٢	●	ب	ج
٣	●	ب	ج
٤	●	ب	ج

١	أ	●	ج
٢	أ	ب	●
٣	●	ب	ج
٤	●	ب	ج

ظلل على الحرف (ص) الإجابة الصحيحة، لحون الخطاء (خ) الإجابة الخطاء حسب رأيك

[ ] (خ) ١. إذا كان ص = جتا ٢ع ، ٣س + ١ فإن $\frac{د ص}{د س}$ = -٢ جا (٣س + ١)

[ ] (ص) ٢. عدد طرق اختيار رئيس، ثلاثة أعضاء من بين (٥) أشخاص = ٣٠ طريقة

[ ] (خ) ٣. إذا كان $\frac{٣س^{٢}}{س^{٣} + ٥}$ جتا $\frac{س^{٣}}{٣س^{٣} + ٥}$ = ∞ غير معرفة

[ ] (ص) ٤. إذا كان ص = $\frac{ح}{ح_{٤}}$ (س + $\frac{١}{س}$)^٨ فإن $\frac{ح_{٥}}{ح_{٤}}$ = $\frac{٥}{٤س^{٤}}$

اختر الإجابة الصحيحة ثم ظلل في ورقة الإجابة حسب الاختيار، لكل فقرة درجة:

[٥] إذا كان ع(ع) = ٤ + ت جتاه فإن قيمة ه = ...

[ ] أ) صفر ● ب) $\frac{\pi}{٤}$ ج) π د) $\frac{٣\pi}{٢}$

[٦] إذا كان ع(ع) قابلاً للاشتقاق عند ع = ٢ ، كان ق(٢) = ٣ فإن ق(٢) = ...

[ ] أ) ٣٠° ب) -٣٠° ● ج) ١٢٠° د) ٦٠°

[٧] إذا كان د(س) = جتا س فإن $د^{(٩٢)}$(س) = ...

[●] أ) جتا س ب) - جتا س ج) جا س د) - جا س

[٨] إذا كان د(س) = $\frac{٩ - ٩ جتا ٢س}{س جا س}$ ، كان د(٠) = ٣ ٢ فإن قيمة ٩ التي تجعل الدالة متصلة عند س = ٠ هي

[●] أ) ٤ ب) ٣ ج) ٢ د) ١

أنتهت الأسئلة

م/ محمد [illegible]

وزارة التربية والتعليم
مكتب التربية والتعليم / أسوان
إدارة [illegible] والتعليم والتعليم / أسوان

عـــو ذج رقم (١)

أسئلة المسابقة العلمية والثقافية في مادة الرياضيات
لطلاب الثانوية العامة ٢٠٢١/٢٠٢٢م

المدرسة
الاسم : [illegible]
الفصل : [illegible]
التاريخ : / / ٢٠٢٢م

الدرجة

١٠

ظلل (س) لو (ص)

	س	ص
١	●	
٢		●
٣	●	
٤	●	

اختار من متعدد على الإجابة الصحيحة

	١	ب	ج	د
١				●
٢			●	
٣				●
٤				●

ظلل على الحرف (صح) للإجابة الصحيحة وحرف (خ) للإجابة الخطأ حسب رأيك في العبارة

١ (✓) .. إذا كان ص = ع^٢ ، ع = (س) فإن $\frac{ص}{س}$ = ١

٢ (✗) .. إذا كان ع = [٣ ، ٢٠] فإن ع في الصورة س + ص = ١ هي ٣ س + ص = ١

٣ (✓) .. $\lim_{س \to \frac{\pi}{2}} (\frac{\pi}{2} - س)^{جتا س}$ = صفر

٤ (✗) .. مجموع المعاملات في المفكوك (س - ٢ص)^٥ = ٢٤٣

اختر الإجابة الصحيحة ثم ظلل في ورقة الإجابة بحسب الاختيار لكل فقرة

١ في مفكوك (أ + ب)^ن إذا كان معامل ح_٥ = معامل ح_٧ فإن عدد الحدود = ...

[٩ ب ١٠ ج ١١ د ١٣]

٢ إذا كان ص = $\frac{جا س}{١ - جتا س}$ فإن ص' = ...

[ب $\frac{1}{2}$ قا^٢ س ب $-\frac{1}{2}$ قا^٢ س ج $\frac{1}{2}$ ظا^٢ س د $-\frac{1}{2}$ ظا^٢ س]

٣ قيمة المقدار (٣ - ٢ت)(٢ - ٢ت) يساوي ...

[أ - ٥ ب - ٥ت ج - ١٣ د - ١٢ت]

٤ ميل المماس لمنحنى الدالة د(س) = ٣س + ٢ جتا س عندما س = ١ يساوي

[أ ٤ ب - ٤ ج $-\frac{1}{4}$ د $\frac{1}{4}$]

أنتهت الأسئلة

م/ محمد حمادي

الممسوحة ضوئيا بـ CamScanner

ثالث ثانوي علمي

عن الأسئلة التالية:

س1: ظلل الدائرة التي تحتوي على الاجابة الصحيحة:-

(ا) = ظتاس غير قابلة للاشتقاق عند س = π

إذا كانة م = ٢-ن ، م$_{ن-1}$ + ك$_{ن-1}$ = ١ فإن ك$_{ن}$ = $\frac{م_{ن+1}}{م}$

∴ ك$_{ن}$ = ر × ر^{ن} ك$_{ن-1}$ = ك$_{ن-1}$

∴ عدد طرق اختيار ٣ صداره من بين ٥ صداره = ٦٠ طريقة

د(س) = س^{٣} ، هـ(س) = ٢س^{٢} + ١ فإن (د ○ هـ)(١) = ٢٧

س2: ظلل الدائرة التي تحتوي على الاجابة الصحيحة:-

١- إذا كان ع$_{١}$ = [١، ٢] ، ع$_{٢}$ = [١، ٣] فإنه ع$_{١}$ + ع$_{٢}$ = ---

أ) [٢جاه، ١٥] ب) [٢جتاه، ١٥] ج) [٢جتاه، ١٥] د) [٢جاه، ٣٠]

٢- إذا كان ع = $\frac{ك}{٣-ن}$ + $\frac{٥}{ك}$ فإنه ع$_{٧}$ = ---

أ) ± (١-٢ت) ب) ± (١+٢ت) ج) ± (٢+ت) د) ± (٢-ت)

٣- إذا كانت النسبة بينه معاملي $\frac{٥}{٢}$ ق$_{٢}$ ، $\frac{٣}{٢}$ ق في مفكوك $(\frac{٣}{٢}$ + $\frac{٢}{٣}$ ق$)^{ن}$ فإن ن = ---

أ) ٩ ب) ٨ ج) ٧ د) ١٠

٤- نهـا $\frac{س + ظاس}{٣س - ٢ ظاس}$ = ---

أ) $\frac{٢}{٥}$ ب) $\frac{-٢}{٥}$ ج) صفر د) $\frac{٥}{٢}$

٥- إذا كانت صا = لو $(\frac{ظاس}{س})$ فإن ق$_{اس}$ - (صا)^{٢} = ---

أ) -١ ب) ١ ج) صفر د) -٢

اجابة السؤال الأول

م	ص	ع
١	○	●
٢	●	○
٣	○	●
٤	●	○
٥	○	●

اجابة السؤال الثاني

م	ا	ب	ج	د
١	○	●	○	○
٢	○	○	●	○
٣	○	●	○	○
٤	○	○	○	●
٥	○	○	●	○

الدرجة	٥
المستحقة	١٠
اسم الموجه	التوقيع

أ/ الخضر بن قدير

الممسوحة ضوئيا بـ CamScanner

الاجابة النموذجية

الجمهورية اليمنية
وزارة التربية والتعليم
مكتب التربية والتعليم تعز
ادارة التربية والتعليم بمديرية المظفر
قسم التوجيه

الرقم :
التاريخ :

(٣)

اسئلة المسابقة الثقافية مديرية المظفر عام ٢٠٢١-٢٠٢٢م اسم المدرسة _____

ضع دائرة حول الاجابة الصحيحة فقط (الخطوات ليس عليها درجات)

م	السؤال	الاختيارات	الدرجة
١	$\lim_{س \to \frac{\pi}{2}} \frac{جا س}{س}$ تساوي	١ ، $\frac{\pi}{2}$ ، $\frac{2}{\pi}$	٢
٢	د(س) = $\sqrt{س}$ في مجموعة تعريفها	متزايدة ، متناقصة ، ثابتة	٢
٣	قيمة د التي تحقق نظرية القيمة الوسطى للدالة د(س) = $س^{\frac{1}{3}}$ على الفترة [٠ ، ٨] هي	$\frac{8}{3\sqrt{3}}$ ، $\frac{-8}{3\sqrt{3}}$ ، $\frac{3}{4}$	٢
٤	اذا كان $\overset{ن}{ق}_{ر} = \overset{ن}{ل}_{ر}$ فإن قيمة ر تساوي	ن ، ١ ، ٤	٢
٥	اذا كان ع = ٣ت + ١ فإن ٢ع − ٦ع تساوي	٢٤ت − ٤ ، −٢٤ت + ٤ ، ٣٢ت + ٤	٢
	مجموع الدرجات		١٠ عشرة

توقيع الموجه _____

الممسوحة ضوئيا بـ CamScanner

الاجابة النموذجية (١)

الجمهورية اليمنية
وزارة التربية والتعليم
مكتب التربية والتعليم تعز
ادارة التربية والتعليم بمديرية المظفر
قسم التوجيه

الرقم : /
التاريخ / / م



المادة: رياضيات

اسئلة المسابقة الثقافية مديرية المظفر عام ٢٠٢١-٢٠٢٢م اسم المدرسة .....

ضع دائرة حول الاجابة الصحيحة فقط (الخطوات ليس عليها درجات)

م	السؤال	الاختيارات	الدرجة
١	د(س) = √|س| مجموعة تعريفها	ح+ ، ح- ، ح	٢
٢	د(س) = هـ^٢س مشتقتها النونية	هـ^٢س ، ٢هـ^٢س ، ٢هـ^٢س	٢
٣	نها س ← ∞ جتاس/س تساوي	٠ ، ∞ ، ١	٢
٤	اذا كانت ل٣ن = ٦ فإن قيمة ن تساوي	١ ، ٣ ، ٦	٢
٥	الصورة الجبرية للعدد (٥ + √٣ت)/(√٣ + ٢ت) تساوي	٥ + √٣ت ، √٣ + ٢ت ، √٣ − ت	٢
	مجموع الدرجات		١٠

توقيع الموجه .....

الممسوحة ضوئيا بـ CamScanner

الجمهورية اليمنية
وزارة التربية والتعليم
مكتب التربية والتعليم تعز
إدارة التربية والتعليم المظفر
قسم التوجيه التربوي

بسم الله الرحمن الرحيم
أسئلة المسابقة المنهجية
للعام الدراسي ٢٠٢١/٢٠٢٢م
بمديرية المظفر

المادة: رياضيات

الزمن: عشر دقائق

ضع دائرة حول الإجابة الصحيحة فقط. (الخطوات ليس عليها درجات)	عشر درجات لكل سؤال درجتين

م	السؤال	الإختيارات	الدرجة
١	نها ظا٣س / س ← $\frac{\pi}{2}$ قاس = ...	٣ ، $\frac{1}{3}$ ، -٣ ، $-\frac{1}{3}$	
٢	يكتب العدد المركب [٢ ، $-\frac{\pi}{2}$] كزوج مرتب بالصورة ...	(٢ ، ٠) ، (٠ ، ٢) ، (-٢ ، ٠) ، (٠ ، -٢)	
٣	قيمة جـ التي تحقق مبرهنة رول للدالة د(س) = س - $\sqrt{س}$ على الفترة [٠ ، ١] هي ...	$\frac{1}{2}$ ، $\frac{1}{3}$ ، $\frac{1}{4}$ ، $\frac{1}{5}$	
٤	إذا كانت د(س) = لو($هـ^{س}$. ظاس) فإن د($\frac{\pi}{4}$) = ...	٣ ، ٢ ، ١ ، صفر	
٥	إذا كانت د(س) = $س^{50}$ فإن $ص^{(49)}$ = ...	ل٥٠ ، ل٤٩س ، ل٥٠س ، ٥٠س	
		مجموع الدرجات	

بالتوفيق والتفوق

عبد الباسط الشميري

التوقيع/ .....

الممسوحة ضوئيا بـ CamScanner

14 كم رقم هاتف يمن موبايل يمكن تخصيصه للمواطنين مكون من الارقام 0،3،7 فقط.

① 2186 ② 2100 ③ 19683 ④ 6561

15 إذا كان $ل_3^{م+ن} = 720$ ، $ل_2^{م-ن} = 12$ فإن قيمة م ، ن على الترتيب هما :

① (6، 4) ② (3،7) ③ (2،7) ④ (6، 2)

16 إذا كان $\frac{ن^2 - 3}{3} = 120$ فإن ن = _____

① 3 ② 2 ③ ± 2 ④ ± 3

17 مجموع معاملات الحد الخالي من ص في مفكوك $(س + ص + ع)^3$ هو :

① 8 ② 5 ③ 4 ④ 11

18 إذا كانت $(س + ص)^8 = 7$ ، فإن $\frac{ء^2 ص}{ء س^2}$ = ...

① صفر ② 1 ③ $56(س + ص)^8$ ④ -1

19 $نهـا_{س \to \infty} \frac{(س + جاس)}{س}$ = ...

① 1 ② ∞ ③ صفر ④ 2

20 في القطع المكافىء المرسوم جانباً الذي معادلته $12ص = س^2 - 26$ يكون ميل المماس عند النقطة (0 ، 3) =

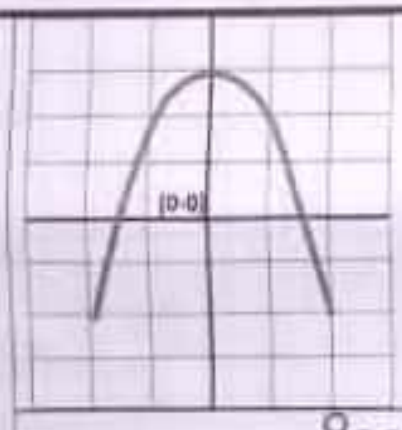

① 1 ② -1 ③ صفر ④ 90°

انتهت الاسئلة ، وفقكم الله جميعاً ، إجمالي الدرجات

الممسوحة ضوئيا بـ CamScanner

المسابقة العلمية لطلاب الصف الثالث الثاني للعام الدراسي 1443هـ الموافق 2021-2022م-مادة الرياضيات

الزمن 15 دقيقة - الدرجة : 20 درجة (درجة لكل سؤال) نموذج (1) صفحة 1

تعليمات : ينبه طلاب كل مجموعة قبل البدء بأن يتم توزع الأسئلة فيما بينهم

	ضع علامة ✓ امام العبارة الصحيحة وعلامة x امام العبارة الخاطئة : (تنبيه / أي تأشير مزدوج يلغي الإجابة)	✓ / x
1	زاوية العدد المركب (ع- $\bar{ع}$) ^{5} حيث س ، ص ∋ ص$^+$ هي : π	(X)
2	قيمة العدد : ت + $\sqrt{\text{ت}}$ $\sqrt{\text{ت}^{2022}}$ تساوي 2ت	(✓)
3	معامل الحد الذي يحوي ص^2 في العدد المركب ع = (س - ت ص) ^{10} هو : 45 ت	(X)
4	إذا كان 2022 س = 2020 + 2021 فإن س = 2021	(+)
5	إذا كانت د(س + هـ) – د(هـ)= 5س^2 + هـ^2 فإن قيمة $ص^{(3)}$ هي : 10هـ	(X)
6	نهـــا $\frac{\sqrt{\text{س} - 1}}{(\text{س}+1)}$ = صفر ، س → 1+	(X)
7	إذا كانت د(س)= 2س+1 ، هـ(س) =س^2 فإن قيمة د(هـ(3)) = 12	(✓)
8	إذا كانت $\text{س}^{\frac{2}{3}} + \text{ص}^{\frac{2}{3}} = 1$ ، فإن $\frac{\text{ع س}}{\text{ع ص}}$ عند(1 ، 27) تكون : -3	(✓)
9	قيمة $ص^{(3)}$ في المعادلة س^2+2س ص +ص^2 =أ^2 هي : -1	(✓)
10	استطاع نظام الاعداد المركبة ايجاد نواتج للمعادلات م النوع : س^2 +1=0	(✓)

	ظلل رقم الإجابة الصحيح في جميع الاسئلة التالية : (تنبيه / أي تظليل مزدوج يلغي الإجابة)
11	إذا كانت ع = 3(جتا $\frac{\pi}{2}$ + ت جتا $\frac{\pi}{2}$) فإن الصورة المثلثية للعدد ع^5 هي :
	① [3^5، $\frac{\pi 5}{2}$] ② [3^5، $\pi 5$] ③ [3^5، صفر] ④ [3^5، $\frac{\pi 15}{2}$]
12	إذا كان $\sqrt{\text{س} - 1}$ + 4 تر$_{\text{ص}}$ = 2 +2ت ، س>1 ، ص د ح فإن $\sqrt{2\text{ص} - \text{س}}$ =
	① 1 ② 2 ③ ت ④ 2 ت
13	إذا كانت ت ع = - 1 + ت فإن ع = ...
	① -(1+ت) ② (1+ت) ③ 1-ت ④ -(1-ت)

يتبع صفحة 2

الممسوحة ضوئيا بـ CamScanner

الجمهورية اليمنية
وزارة التربية والتعليم
مكتب التربية والتعليم بالأمانة

بسم الله الرحمن الرحيم
المسابقة العامة لمادة الرياضيات
للعام٢٠٢٢م

الصف : الثالث الثانوي علمي
اسم المدرسة .....
الزمن: ١٥دقيقة

النموذج الأول

الأول

ضع علامة (√) أمام العبارة الصحيحة وعلامة (x) أمام العبارة الخاطئة في كلا مما يأتي : ٤

١) $أ = ٤$ تحقق المعادلة $(ت)^{٢أ} \, ل_{٣}^{٧} = (ت)^{\frac{أ}{٦}} \, \underline{|٧}$ ( )

٢) أذا كان $\frac{\underline{|٥ن-١}}{\underline{|٢ن} \, \underline{|ن^{٢}-١}} = \frac{١}{١٠}$ فإن $ن^{٢}-١=١٥$ ( )

٣) $\frac{ن ل_{ر}}{ن ل_{ن}} = ن^{ن-١} \, ل_{ر}-١$ ( )

٤) إذا كان $د(س^{٣}-٢) = س^{٢}+١$ فإن $د(٦) = ٣$ ( )

الثاني

أختر الإجابة الصحيحة من بين الأقواس : ٦

١) **إذا كانت الدالة** $د(س) = \frac{جاس-جتاس}{جتا٢س}$ **متصلة عند** $س = \frac{\pi}{٤}$ ، $د(\frac{\pi}{٤}) = \sqrt{٧}$ **ب فإن قيمة** $ب+١ =$

(١) $-\frac{١}{٢}$ ٢) $-\frac{\sqrt{٢}}{٢}$ ٣) $\frac{١}{٢}$ ٤) $\frac{\sqrt{٢}}{٢}$

٢) $٢ \, ل_{٣}^{س} - ٦ \, ل_{٢}^{س-١} = ل_{٣}^{س} + ل_{٢}^{س-١}$ فأن س=

(١) ٥ ٢) ٦ ٣) ٨ ٤) ٧ ( )

٣) أذا كان عدد المباريات كرة القدم لفرق مدارس شعوب الثانوية ذهابا وإيابا ٤٢ مباراة فأن عدد المدارس الثانوية المشاركة=

(١) ٨ ٢) ٦ ٣) ٧ ٤) ٥ ( )

أ/ عادل المذحجي

الممسوحة ضوئيا بـ CamScanner

الجمهورية اليمنية
وزارة التربية والتعليم
مكتب التربية والتعليم بالأمانة
مديرية شعوب

بسم الله الرحمن الرحيم
المسابقة العامة لمادة الرياضيات
للعام٢٠٢٢م

الصف : الثالث الثانوي علمي
اسم المدرسة .....
الزمن: ١٥دقيقة

النموذج الثاني

الأول ٤

ضع علامة (√) أمام العبارة الصحيحة وعلامة (x) أمام العبارة الخاطئة في كلا مما يأتي :

١) إذا كان ع١ ، ع٢ عددان مركبان مترافقان فأن ع١ - ٢ ، ع٢ - ٢ مترافقان ( )

٢) إذا كانت $د_{١}(س) = -٥لـو(جتا^{٢}٢س + جا^{٢}٢س)$ و $د_{٢}(س) = ٧جتا٢س + ٢١جا^{٢}س$

فأن $\overline{د}_{٢}(٠) = \overline{د}_{١}(س)$ ( )

٣) $\lim_{س \to \infty} \frac{س^{٣} - جا^{٣}س}{س^{٣}} = \frac{١}{٢}$ ( )

٤) إذا كان $\Delta = ٠$ للمعادلة $ع^{٢} - ٢تع + ج = ٠$ وكان ج − ت أحدى الجذور التربيعية للعدد المركب ل

فإن سعة الجذر الأخر = $\frac{٥\pi}{٤}$ ( )

الثاني ٦

أختر الإجابة الصحيحة من بين الأقواس :

١) إذا كان المميز للمعادلة $ت ع^{٢} - ب ع + ١ = ٠$ يساوي ٤ فإن سعة العدد المركب $|أ ب|^{٢}$ = ..حيث ع عدد مركب

(١) $\frac{\pi}{٤}$ ٢) $\frac{٣\pi}{٤}$ ٣) $-\frac{\pi}{٤}$ ١) $\frac{٥\pi}{٤}$)

٢) $ن هـ_{٤} - ن-١ هـ_{٣} = ...$

(١) $ن هـ_{٤}$ ٢) $ن هـ_{٣}$ ٣) $ن-١ هـ_{٤}$ ٤) $ن-١ هـ_{٣}$)

١) أذا كان ع عدد مركب وسعته هـ ، $|ع| = ١ ، ٠ \prec هـ \prec ٩٠^{\circ}$ فإن سعة $\left(\frac{ع+١}{\overline{ع}+١}\right)$ تساوي ..

(١) هـ ٢) - هـ ٣) $\pi - هـ$ ٤) $\pi + هـ$)

أ/ عادل المذحجي

الممسوحة ضوئيا بـ CamScanner

الجمهورية اليمنية
وزارة التربية والتعليم
مكتب التربية والتعليم بالأمانة
مديرية شعوب

بسم الله الرحمن الرحيم
المسابقة العامة لمادة الرياضيات
للعام٢٠٢٢م

الصف : الثالث الثانوي علمي
اسم المدرسة .....
الزمن: ١٥ دقيقة

النموذج الثالث

الأول

ضع علامة (√) أمام العبارة الصحيحة وعلامة (x) أمام العبارة الخاطئة في كلا مما يأتي : ٤

١) $ق_{ب}^{٢} = ل_{ب}^{٢-١} + ب \times ل_{ب-١}^{٢-١}$ ( )

٢) إذا كان $ص = ر^{٢}(٣س)$ فإن $\overline{ص} = ٦ر(٣س)$ ( )

٣) عدد الأعداد الثلاثية المختلفة الأرقام والتي تقبل القسمة على ٥ وعشراتها من مضاعفات العدد ٣ من المجموعة {٠ ، ٢، ٣ ، ٤ ، ٥، ٨} يساوي ١١ ( )

٤) إذا كان $٢|ع| + ٣|\overline{ع}| = ٢٠$ فأن $|ت ع + ع| = ٢\sqrt{٤}$ ( )

الثاني

أختر الإجابة الصحيحة من بين الأقواس : ٦

١) $\lim_{س \to ١} \frac{٢\pi س^{٢} - ٢\pi س + جا\pi س}{س - ١} =$

٢) (١) ٢π ٢) ٤π ٣) π ٤) صفر)

٣) إذا كان عدد المجموعات الجزئية المكونة من عنصرين لمجموعة تحوي ن عنصر تساوي ٣ مجموعات فإن ن =

(١) ٥ ٢) ٤ ٣) ٣ ٤) ٢)

٢) إذا كان $ع = ١ + ت$ حلا للمعادلة $\frac{١}{٢} ا_{ت}^{٣} ع^{٢} = \frac{ت((١+ت)ع+ت)}{٢}$ فإن سعة $\overline{\Delta\sqrt{}} =$

(١) $\frac{\pi}{٤}$ ٢) $\frac{\pi ٣}{٤}$ ٣) $-\frac{\pi}{٤}$ ٤) $\frac{\pi ٥}{٤}$)

ا/ عادل المذحجي

الممسوحة ضوئيا بـ CamScanner

الجمهورية اليمنية
وزارة التربية والتعليم
مكتب التربية والتعليم بالأمانة
مديرية شعوب

بسم الله الرحمن الرحيم
المسابقة العامة لمادة الرياضيات
للعام٢٠٢٢م

الصف : الثالث الثانوي علمي
اسم المدرسة .....
الزمن: ١٥ دقيقة

النموذج الرابع

الأول

ضع علامة (√) أمام العبارة الصحيحة وعلامة (x) أمام العبارة الخاطئة في كلا مما يأتي : ٤

١) إذا كان د(س) = ظا٢س فإن قيمة ٢ $\overline{\text{د}}$(π) + ٦د(π) = ٢ ( )

٢) اذا كان ع = ت $\sqrt{\text{ظا}\frac{٢\pi}{٣}}$ فأن سعة (ع + ٣ $^{\frac{١}{٤}}$ ت) تساوي $\frac{٢\pi}{٣}$ ( )

٣) إذا كان ق(س) = س(٢س − ١)^{٣} ، هـ(س) = $\frac{\text{أ}}{\text{س}-٢}$ وكان $\overline{(\text{هـ} \circ \text{ق})}$(١) = ١٤ فإن أ = −٢ ( )

٤) إذا كان د(س^{٣} − ١) = ٨س^{٢} + ١ فإن $\overline{\overline{\text{د}}}$(٧) = $\frac{-١}{٩}$ ( )

الثاني

أختر الإجابة الصحيحة من بين الأقواس: ٦

١) إذا كان $\text{ل}_{\text{و}}^{\text{ك}+\frac{١}{\text{ت}^{٣٤}}} + \text{و} \times \text{ل}_{\text{و}+\text{ت}^{٢٢}}^{\text{ك}+\text{ت}^{١٤}} = \text{ل}_{-\text{و}\text{ت}^{١٨}}^{\text{ك}^{٢}-٢\text{ك}-٤}$

حيث و، ك ∈ ح و ت ∈ م فإن قيمة ٢ك − ٣ =

(١) ٢ ٢) ٣ ٣) ٤ ٤) ٥)

٢) ٢^{س}ق$_{٣}$ − ٦$^{\text{س}-١}$ق$_{٢}$ = ^{س}ق$_{٣}$ + $^{\text{س}-١}$ق$_{٢}$ فأن س=

(١) ٧ ٢) ١٤ ٣) ٢١ ٤) ٢٤)

٣) ٣ $\left(\text{نهـا}_{\text{س}\to -١} \frac{\text{جتا}\frac{\pi}{٢}\text{س} - \text{جتا}\frac{\pi}{٢\text{س}}}{(\text{س}+\frac{١}{\text{س}^{٢}})}\right)$ = π − ٨ + ^{ن}ق$_{١}$ + ^{ن}ق$_{٣}$ فأن قيمة ^{ن}ل$_{٢}$ = ...

(١) ٢٠ ٢) ٤٢ ٣) ٥٦ ٤) ١٢)

ا/ عادل المذحجي

الممسوحة ضوئيا بـ CamScanner