
دولة الكويت - وزارة التربية
نموذج إجابة
كنترول الفروانية
الإدارة العامة لمنطقة الفروانية التعليمية

وزارة التربية | امتحان الفترة الدراسية الأولى | المادة : الرياضيات

الإدارة العامة لمنطقة الفروانية التعليمية | الصف الخامس | الزمن : ٦٠ دقيقة

التوجيه الفني للرياضيات | العام الدراسي ٢٠١٨م - ٢٠١٩م | عدد الأوراق : ٥ أوراق

أسئلة المقال :أجب عن جميع أسئلة المقال موضحاً خطوات الحل في كل منها

٨

السؤال الأول:-

أ استخدم التمثيل البياني بالنقاط المجمعة لإيجاد ما يأتي:-

أسعار الألعاب بالدينار

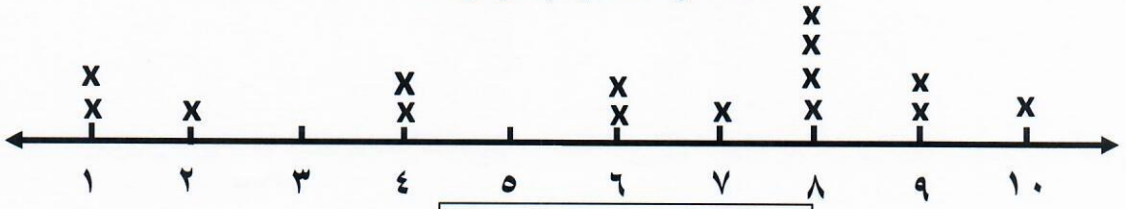

كل x تمثل لعبة واحدة

- الوسيط = ٧ (١)
- المدى = ١٠ — ١ = ٩ (٢)
- المنوال = ٨ (١)

٤

ب أوجد ناتج كلاً مما يأتي: -

ب $\boxed{١}$ (½)

٢٠٩ (١½)

٢ | ٤١٩

٤ -

٠١٩ (½)

١٨ -

١ (½)

٠ ÷ ٣٢٨ = ٠ (١)

٤

السؤال الثاني : -

٨

أ أوجد ناتج كلاَ مما يأتي: -

٢,٣	١,٢٩
× ٠,٧	+ ٠,٤٠
١,٦١	١,٦٩
½ ½ ½ ½	½ ½ ½ ½

٤

ب * استخدم المنقلة لترسم زاوية قياسها ١٢٠° واذكر نوعها



نوع الزاوية منفرجة ①

٢

جـ ارسم خط التناظر للشكل الموضح

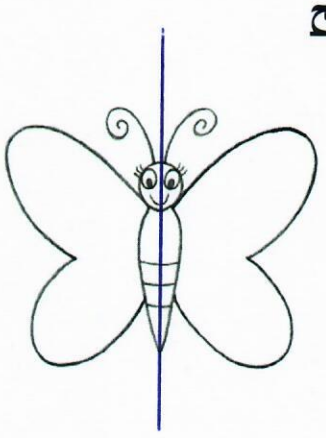

٢

السؤال الثالث : -

٨

أ أكمل كلاً مما يأتي : -

- العدد ٣,٠٢٩ مقرباً لأقرب منزلة تحتها خط يساوي ---٣--- ①
- ١ – ٠,٧٩ = ---٠,٢١--- ①
- ٠٨٢,٨٢ ÷ ١٠٠ = ---٠,٨٢٨٢--- ①
- إذا كانت ن = ٨ ، فإن ٧ × ن = ---٥٦--- ①
- ٣٢٠٠ ÷ ٤٠ = ---٨٠--- ①

٥

ب صنف المثلث حسب الآتي:-

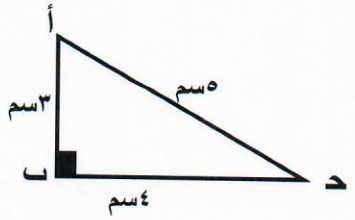

نوع المثلث حسب أطوال أضلاعه مختلف الأضلاع

نوع المثلث حسب قياسات زواياه قائم الزاوية

قياس الزاويه أ ب ج هو ---٩٠°---

٣

٨

السؤال الرابع :-

أ * أوجد القاعدة باستخدام المتغير : -

أ	١	٣	٦	٩
ب	٥	١٥	٣٠	٤٥

القاعدة ..... ن × ٥ .....

٢

ب أوجد عوامل العدد ٢٠

١ ، ٢ ، ٤ ، ٥ ، ١٠ ، ٢٠

(١/٢) (١/٢) (١/٢) (١/٢) (١/٢) (١/٢)

٣

ج حل المسألة:-

ذهب ٦٤٨ متعلم في رحلة استكشافية ، و كونوا ٣٦ مجموعة متساوية . من كم متعلم تألفت كل مجموعة ؟

في كل مجموعة: ٦٤٨ ÷ ٣٦ = ١٨ متعلم.

(١/٢) (١) (١) (١/٢)

٣

٨

السؤال الخامس :- **بنود موضوعية**

أولا : ظلل (أ) إذا كانت العبارة صحيحة ، وظلل (ب) إذا كانت العبارة غير صحيحة : ٤ درجات

١	٩- ٢,٣ = ٦,٧	أ	ب
٢	٩١٤ ÷ ١ = ١	أ	ب
٣	إذا كان المقسوم عليه ٦٣ فإن أكبر باقي ممكن نحصل عليه هو ٦٣ .	أ	ب
٤	الشكل ١ يطابق الشكل ٢ 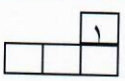	أ	ب

ثانيا: لكل بند فيما يلي أربع اختيارات واحد فقط منها صحيح ظلل الدائرة الدالة على الإجابة الصحيحة : ٤درجات

١ **٣,٥ + ٤,٥ =**

(أ) ٧,١٠ (ب) ٨

(جـ) ٤٣,٥ (د) ٧

٢ **العدد ٤٠ يقبل القسمة على**

(أ) ٣ (ب) ٦

(جـ) ١٤ (د) ٥

٣ **الحقيقة الأساسية التي تساعدنا لإيجاد ناتج ٤٠٠ ÷ ٨ هي**

(أ) ٤ ÷ ٨ (ب) ٤ × ٨

(جـ) ٤٠ ÷ ٨ (د) ٨ ÷ ٢

٤ **المتوسط الحسابي لمجموعة البيانات ١٠ ، ١٠ ، ٥ ، ٢٠ ، ٥ هو**

(أ) ١٠ (ب) ٥٠

(جـ) ٥ (د) ٢٠

انتهت الأسئلة مع تمنيات التوجيه الفني للرياضيات بالتوفيق