الوحدة 3 : RC / RL

في تحديد بيانات كل U_R و U_b
(الإرفاق - الإنساب)



في التعليل :

عند $t=0$ ← $i=0$ ← $U_R=0$

وبعدها تتزايد i فيتزايد U_R إلى قيمة أعظمية U_{Rmax}

عند $t=0$ ← $U_R=0$ فيكون

$\cancel{U_R}_{0} + \boxed{U_b = E}$

ثم يتزايد U_R فيتناقص U_b لقيمة دنيا (لأن U_R و U_b متعاكسين)

في سؤال :

- إيجاد الثوابت
- بين أن ... حل للم.ت ...
- بين أن م.ت تقبل حل ... $(0=0)$

نشتق ونعوض!

وين نلحق $\boxed{rI_0 = E}$

معناه :

$U_R + U_b = E$

عند $t=0$ ← $U_R=0$

$\cancel{U_R}_{0} + U_b = E$

$U_b = E \rightarrow I_0 r = E$

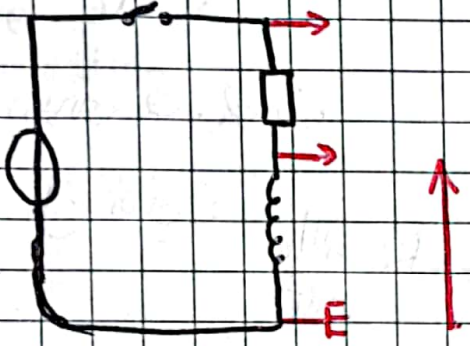

القطع 3 تكون من t إلى y

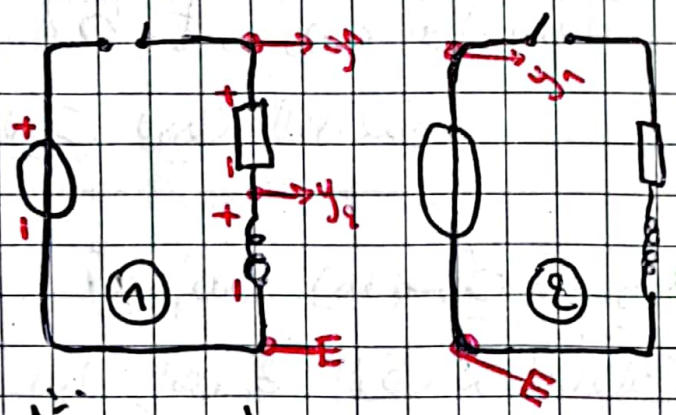

على y_1 نشاهد $\underbrace{U_R + U_b}_{E}$

على y_1 نشاهد $E_{(t)}$

1 نفسها 2

استعمالات الوشيعة
- للحماية
- لتوليد طاقة كهربائية
- " حقل مغناطيسي
- المحولات.

في سؤال إيجاد العلاقة بين U_R و U_C:

← مشي ق.ج.ت

← بل هي: $U_R = RC\frac{dU_C}{dt}$

أصغر قيمة للزمن لاعتبار المكثفة مشحونة كليا هي $t = 5\tau$ ← وهي أول نقطة يثبت فيها المنحنى.

أي زمن بمدهولي نشوف إذا راني في النظام الانتقالي أو الدائم!

القراءة تكون من ⏚ إلى y.

في ارفاق البيانات:

التعليل هو نقول عند $t=0$ تكون ... ثم تتزايد / تتناقص ... حتى تنعدم / تصل لقيمة أعظمية.

في النظام الدائم:

طرق تحديد I_0:

← $I_0 = \frac{E}{R+r}$

← $U_{b\,min} = rI_0$

← $U_{R\,max} = RI_0$

غياب المقاومة في الدارة:

$$U_{C_b} + \cancel{U_R}_{\to 0} = E$$

كي نحصل في استخراج L:

← $\tau = \frac{L}{R+r}$ ... (A)

$I_0 = \frac{E}{R+r}$ ... (B)

بقسمة (A) على (B) نجد:

$$\boxed{L = \frac{\tau E}{I_0}}$$

الوحدة 3 : RC - RL

مولد التيار الثابت

يعطي توتر متغير وتيار ثابت

- عند استعماله يؤدي لتغيير المكثفة.

$I_0 = i$ في كل اللحظات

شرح كيف تشحن المكثفة :

بانتظام خطيا.

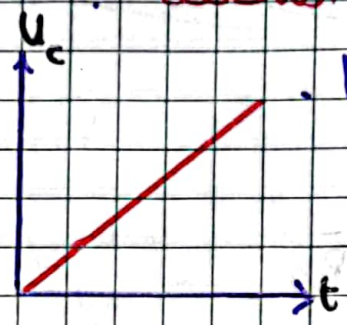

$i = \frac{q}{t}$

معادلة البيان :

$U_c = at$

$U_c = \frac{i}{C} \cdot t$ العلاقة النظرية

$a = \frac{i}{C}$

شرح كيف يتطور التوتر بين طرفي R (U_R) :

$U_R = R\,I$

بما أن ثابت و ثابت فإن ثابت

ومنه :

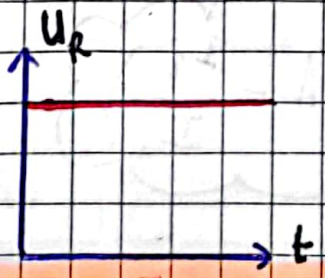

تدل الإشارة ⊖ على أن تيار التفريغ يكون في الإتجاه السالب (عكس تيار الشحن)

$C' = 2C$

$\tau' = RC'$

$\tau' = R\,2C$

$\tau' = 2RC$

$\tau' = 2\tau$

حاملات الشحن ← e'

إيجاد وحدة τ :

ط1 : التحليل البعدي

ط2 : من م.ت :

$\tau \frac{dU_c}{dt} + U_c = E$

$\tau \frac{dU_c}{dt} = E - U_c$

$[\tau] \cdot \frac{[U]}{[T]} = [U] - [U]$

$[\tau] \cdot \frac{\cancel{[U]}}{[T]} = \cancel{[U]}$

$[\tau] = [T] = S$

$\tau_2 = 2\tau_1$

نستنتج أن:

زمن التفريغ هو ضعف زمن الشحن.

تحديد τ في كل الوحدات:

ط1: إذا كان المنحنى ↑

0,63 × القيمة الأعظمية

إذا كان المنحنى ↓

0,37 × القيمة الابتدائية

ط2: رسم المماس عند $t=0$ وتقاطعه مع خط النظام الدائم هو τ (بعد الإسقاط)

ط3: أول نقطة يثبت فيها المنحنى هي 2τ

ومنه $\frac{\tau}{2} = \text{☺}$

الحساسية الأفقية 10 ms/div

" الشاقولية 1V/div

تدريجية

العناصر لي ميجوزش فيها التيار منكتبهاش في ق.ج.ت!

بيان أن

$$R_2 = \frac{E}{I_2}\left(1 - \frac{I_2}{I_1}\right)$$

$$I_1 = \frac{E}{R_1 + r} \quad \Big| \quad I_2 = \frac{E}{R_1 + R_2 + r}$$

$$\boxed{R_1 + r = \frac{E}{I_1}}$$

$$I_2 = \frac{E}{\frac{E}{I_1} + R_2}$$

$$E = I_2\left(\frac{E}{I_1} + R_2\right)$$

$$\boxed{\frac{E}{I_2} = \frac{E}{I_1} + R_2}$$

$$R_2 = \frac{E}{I_2} - \frac{E}{I_1}$$

$$= \frac{E}{I_2}\left(1 - \frac{E/I_1}{E/I_2}\right)$$

$$R_2 = \frac{E}{I_2}\left(1 - \frac{I_2}{I_1}\right)$$

كي يمثل 2 دارات في دارة واحدة :

(دارة شحن مع تفريغ) (دارة غلق مع فتح)

في كل جزء نرسم الدارة "مستقلة" وحدها.

عند t_1 يصل التوتر u_c إلى 10% من E :

$$u_{c(t)} = 10\% \cdot E = \frac{10}{100} \cdot 10$$

$$\boxed{u_{c(t)} = 1\,V}$$

بالإسقاط في البيان :

$$\boxed{t_1 = 1\,ms}$$

كيف يتم ربط مكثفة سعتها C' مع المكثفة السابقة حيث $2' = \frac{2}{4}$

$$C_{eq} \cdot R = \frac{C \cdot R}{4} \rightarrow \boxed{C_{eq} = \frac{C}{4}}$$

$$\boxed{C_{eq} = \frac{C}{n}} \rightarrow n = \frac{C}{C_{eq}}$$

بيان أن :

$$t_m = RC \ln 9$$

لدينا

$$\begin{cases} u_{c(t_1)} = E(1 - e^{-t_1/2}) \\ u_{c(t_1)} = E \cdot \frac{10}{100} \end{cases}$$

$$1 - e^{-t_1/2} = \frac{10}{100}$$

$$1 - e^{-t_1/2} = 0{,}1$$

$$0{,}9 = e^{-t_1/2}$$

$$\ln 0{,}9 = -\frac{t_1}{\tau}$$

$$\boxed{t_1 = -RC \ln 0{,}9}$$

نفس الخدمة بالنسبة لـ t_2 :

$$\boxed{t_2 = -RC \ln 0{,}1}$$

ولدينا : $t_m = t_2 - t_1$

ومنه (نعوض)

$$\boxed{t_m = RC \ln 9}$$

ومنه على التسلسل

حساب C'

$$\frac{1}{C_{eq}} = \frac{1}{C'} + \frac{1}{C}$$

$$\frac{1}{C'} = \frac{1}{C_{eq}} - \frac{1}{C}$$

لدينا $C_{eq} = \frac{C}{4}$

$$\frac{1}{C_{eq}} = \frac{4}{C}$$

$$\frac{1}{C'} = \frac{4}{C} - \frac{1}{C}$$

$$\frac{1}{C'} = \frac{3}{C}$$

$$C' = \frac{C}{3} = \frac{10^{-6}}{3}$$

$$\boxed{C' = 3{,}33.10^{-6}\ F}$$

عندنا منحنى $\frac{di}{dt}$ بدلالة i

وتعالى احسب I'_0

$$i_{(t)} = I'_0\left(1 - e^{-t/\tau_2}\right)$$

$$i_{(t)} = I'_0 - I'_0 e^{-t/\tau_2}$$

نشتق

$$\frac{di}{dt} = \frac{I'_0}{\tau_2} \cancel{e^{-t/\tau_2}}^{\,1}$$

عند $t=0$

$$\boxed{I'_0 = \tau_2 \left(\frac{di}{dt}\right)_{t=0}}$$

من البيان

(2b) لحساب L :

$$u_b = L\frac{di}{dt}$$

عند $t=0$

$$u_{b(0)} = L\left(\frac{di}{dt}\right)_{t=0}$$

$$\boxed{E = L\left(\frac{di}{dt}\right)_{t=0}}$$

من البيان

إيجاد r و R علما أن

في ن. الدائم $\frac{u_R}{u_b} = 9$

(1b) ن. دائم $i = I'_0$

$$\frac{Ri}{L\cancel{\frac{di}{dt}}_{0} + ri} = 9$$

$$\frac{R\cancel{i}}{r\cancel{i}} = 9$$

$$\boxed{R = 9r}$$

(2b) ق.ج.ت :

$$u_b + u_R = E$$

$$u_b + 9u_b = E$$

$$10u_b = E$$

$$u_b = \frac{E}{10}$$

$$u_{b\,min} = \frac{E}{10}$$

• بيان كيف يتم الحصول على بيان q اعتمادا على راسم الاهتزاز المهبطي :

بربط طرفي المكثفة براسم الاهتزاز فنشاهد $U_{C(t)}$ واعتمادا على العلاقة $q = U_C . C$ نستنتج q

بيان i

بربط طرفي المقاومة براسم الاهتزاز فنشاهد $U_{R(t)}$ واعتمادا على العلاقة $i = \frac{U_R}{R}$

طرح العلاقة بين U_R و U_C :

من ق.ج.ت :

$$U_R + U_C = E$$

$$\frac{dU_C}{dt} + \frac{U_C}{RC} = \frac{E}{RC}$$

$$\frac{dU_C}{dt} + \cancel{\frac{U_C}{RC}} = \cancel{\frac{U_C}{RC}} + \frac{U_R}{RC}$$

$$\frac{U_R}{RC} = \frac{dU_C}{dt}$$

$$U_R = RC\frac{dU_C}{dt}$$

U_R غلق U_B

U_B فتح

U_R غلق :

$$U_R + U_B = E$$

$$U_R + L\frac{di}{dt} + ri = E$$

$$U_R + L\frac{1}{R}\frac{dU_R}{dt} + r\frac{U_R}{R} = E$$

$$i = \frac{U_R}{R}$$

$$\frac{di}{dt} = \frac{1}{R}\frac{dU_R}{dt}$$

بسط :

$$\boxed{\frac{dU_R}{dt} + \left(\frac{r+R}{L}\right)U_R = \frac{ER}{L}}$$

U_B نفسها U_R برك $\frac{Er}{L}$

U_B غلق

$$U_B + U_R = E$$

$$U_R = E - U_B$$

$$Ri = E - U_B$$

$$i = \frac{E}{R} - \frac{U_B}{R}$$

$$\frac{di}{dt} = 0 - \frac{1}{R}\frac{dU_B}{dt}$$

نعوض في م.ت تع

U_b فتح :

ق.ج.ت :

$$U_b + U_R = 0$$

$$U_R = -U_B$$

$$\frac{dU_R}{dt} = -\frac{dU_B}{dt}$$

م.ت تع U_R فتح *

نعوض

تجميع (ربط) المقاومات :

- على التسلسل : $R_{eq} = R_1 + R_2$ ↑ لزيادة المقاومة نربطها على التسلسل
- على التفرع : $\frac{1}{R_{eq}} = \frac{1}{R_1} + \frac{1}{R_2}$ ↓



ربط المكثفات : ← عكس المقاومة

- على التسلسل : $\frac{1}{C_{eq}} = \frac{1}{C_1} + \frac{1}{C_2}$ ↓ لزيادة السعة نربطها على التفرع.
- على التفرع : $C_{eq} = C_1 + C_2$ ↑

ربط الوشائع : ← نفس المقاومة

- على التسلسل : $L_{eq} = L_1 + L_2$ ↑ لزيادة الذاتية نربطها على التسلسل.
- على التفرع : $\frac{1}{L_{eq}} = \frac{1}{L_1} + \frac{1}{L_2}$ ↓

على التسلسل	على التفرع
$I = I_1 = I_2 \dots$	$I = I_1 + I_2 \dots$
$U = U_1 + U_2 \dots$	$U = U_1 = U_2 \dots$
$q = q_1 = q_2 \dots$	
$C_{eq} < C$ الصغرى	$C_{eq} > C$ الصغرى

عدد المكثفات المربوطة :