**ESCOLA MUNICIPAL DO CAMPO JOÃO TEODORO DA SILVA – EIEF.**
**PATRIMONIO TRES CORAÇÕES**
**RIBEIRÃO CLARO/PR**

- PROFESSORA SILVANA DENOBI
- ALUNO(A) _____Nº____ 3º ANO

VALOR: 4,0 NOTA: ____

# AVALIAÇÃO DE MATEMÁTICA – 2º BIMESTRE

## Questão 1

Para enfeitar a escola, a diretora comprou bandeirinhas e lanterninhas.

A quantidade de enfeites comprados foi de

(A) 47 enfeites.

(B) 40 enfeites.

(C) 37 enfeites.

(D) 7 enfeites.



40 bandeirinhas



7 lanterninhas

## Questão 2

Carolina digitou seiscentos e nove em uma calculadora.

Qual número apareceu no visor dessa calculadora?

(A) 69 (B) 906 (C) 609 (D) 690



## Questão 3

Isabelly fez uma pesquisa de preços em quatro livrarias para comprar um livro literário.

Marque com x a alternativa que indica o valor do livro mais barato:

(A)  R$ 20,00

(B)  R$ 18,00

(C)  R$ 16,00

(D)  R$ 12,00

## Questão 4

Observe abaixo os potes de iogurte que quatro crianças compraram.

Qual foi a criança que comprou o maior pote de iogurte?

(A) Carla. (C) Marisa.

(B) José. (D) Paulo.



**ESCOLA MUNICIPAL DO CAMPO JOÃO TEODORO DA SILVA – EIEF.**
**PATRIMONIO TRES CORAÇÕES**
**RIBEIRÃO CLARO/PR**

## Questão 5

Na escola da Juliana tem 256 alunos.

No número **456**, o algarismo **5** ocupa a ordem das

(A) centenas. (B) dezenas. (C) unidades. (D) unidades de milhar.

## Questão 6

Magali gosta de beber muito refrigerante. Observe os recipientes que tem em cima da mesa.




Ajude Magali pegar a maior quantidade.

(A) 350 ml (B) 237 ml (C) 2 L (D) 200 ml

## Questão 7

A figura a seguir representa uma embalagem utilizada para acomodar três bolas de tênis.

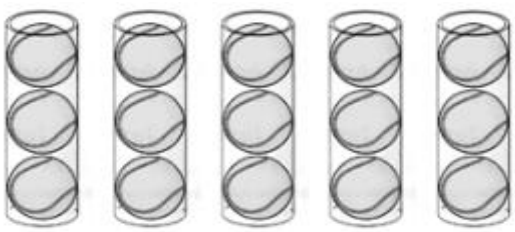

Qual o total de bolas nas cinco embalagens?

(A) 3. (B) 5. (C) 8. (D) 15.

## Questão 8

Rogério montou uma pipa, usando peças com figuras geométricas, como mostra o desenho ao lado.

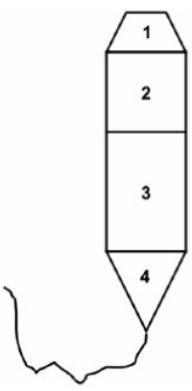


Nessa pipa, qual é a peça que tem a forma de retângulo?

(A) Peça 1. (C) Peça 2.

(B) Peça 3. (D) Peça 4.



**PROFª SILVANA DENOBI**

## Questão 9

A tabela a seguir mostra o resultado de uma votação das brincadeiras preferidas do 3º ano A.

| Brincadeiras preferidas 3º ano A | |
|---|---|
| Brincadeira | Número de votos |
| Pique pega | 9 |
| Jogar bola | 8 |
| Esconde-esconde | 6 |
| Dominó | 5 |

A brincadeira menos votada é

(A) pique pega. (B) dominó. (C) jogar bola. (D) esconde-esconde.

## Questão 10

Observe o gráfico abaixo.

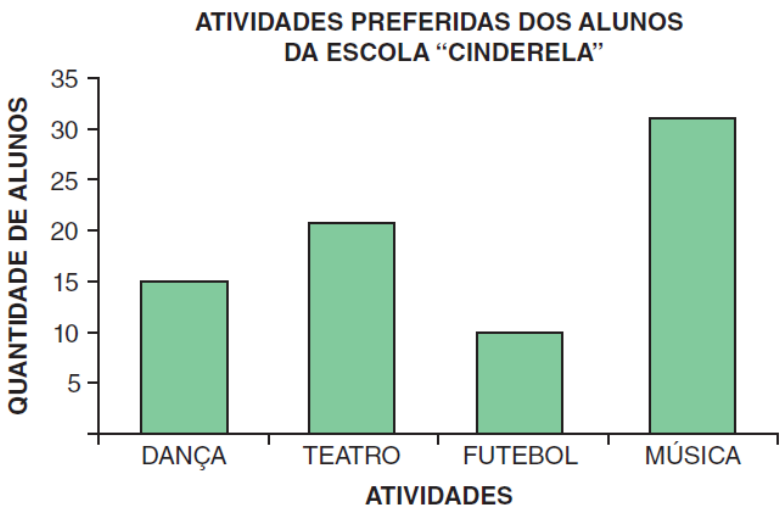


Qual foi a atividade que teve mais de trinta votos de preferência?

(A) Dança. (B) Teatro. (C) Futebol. (D) Música.