yargı yayınevi

2022
KAMU PERSONEL SEÇME SINAVI
(LİSANS)

GENEL YETENEK GENEL KÜLTÜR TESTİ

Deneme Sınavı • 4

KONU ANALİZİ SORU ÇÖZÜMLEME TEKNİĞİ KİTAPÇIĞI

© COPYRIGHT YARGI YAYINEVİ

Yayım Hakkı

Bu kitabın her türlü yayım hakkı Yargı Basın Yayın Dağıtım Ltd. Şti.'ye aittir.

Bu kitabın baskısından 5846 ve 2936 sayılı Fikir ve Sanat Eserleri Yasası hükümleri gereğince kaynak gösterilerek bile olsa alıntı yapılamaz, herhangi bir şekilde çoğaltılamaz, genel ağ ve diğer elektronik ortamlarda yayımlanamaz.

1. İlk boşluktan sonra geçen "sahip oluş" sözü buraya sahipse sözünün getirilmesi gerektiğini gösterir. Buna göre diğer boşluğa da "kıyaslayarak" sözcüğü getirilir.

CEVAP: A

2. Herkese hitap etme, tüm insanlara seslenmedir. Dünya bilgesi olma da bilgelik özellikleri taşıma demektir. Buna göre "Tüm insanlığa seslenebilen bilgelik vasfı taşıma" anlatılmak istenir.

CEVAP: C

3. Cümleler "Öykü ve romanlarda karakterlerin geçmiş ve bugüne dair duygu, düşünce ve anıların aktarımında kullanılan bir teknik olan bilinç akışı yönteminde yazar, okuma kendi duygularını anlayabilme fırsatı sunar." şeklinde birleşir.

CEVAP: E

4. Parçada geçen "Herkes sanat yapıtı üretebilir ve kendini sanatçı olarak gören herkes kendinde olduğuna inandığı cevherin fark edilmesi ve buna ilave olarak tasdiklenme beklentisi içindedir." ve "Sanat uğruna toplumu karşısına almış, uç noktada marjinal bir yaşam sürdüren ve üreten sanatçı... "sözleri, üzerinde durulan düşüncenin "Her sanatçı ya da sanatçı olma yolunda aday olan kişi bunu toplumla bir bağ kurarak gerçekleştirebilir." olduğunu gösterir.

CEVAP: D

5. I. virgül eş görevli sözcüklerin yani fiilimsilerin arasına, II. virgül cümleleri sıralama görevli olarak, III. virgül eş görevli sözcüklerin arasına, IV. virgül eş görevli sözcüklerin yani fiilimsilerin arasına, V. virgül eş görevli sözcüklerin yani sıfatların arasına getirilmiştir.

CEVAP: B

6. I. Antikçağın yazımı yanlıştır. Doğrusu "Antik Çağ'ın şeklinde olmalıydı. Diğer ifadelerde yazım yanlışı yoktur.

CEVAP: A

YARGI YAYINEVİ

7. olmuştur: olmuş - dur (ünsüz benzeşmesi)
reddetme: ret + et (ünsüz türemesi)
çevre: çevir - e (ünlü düşmesi)
konuların etkisi: konuların - etkisi (ulama)
Parçada ünsüz değişimi yoktur.

CEVAP: D

8. Bilim dünyası: İsim tamlaması
tanıdığı: -dık, sıfat-fiil
evcil koyun: sıfat tamlaması
bugün: Birleşik sözcük
Parçada bağlaç yoktur.

CEVAP: C

9. Türkiye'nin ve matbaacılığın sorunu: Tamlananı ortak isim tamlaması
ara eleman: Sıfat tamlaması
yönetmeye: -me, isim-fiil
eğitimsiz eleman: eğitimsiz sıfattır.
eğit-im (Yapım eki)
eğitim-siz (Yapım eki)

CEVAP: B

10. I. yaygın: yay-gın (Yapım eki), türemiş
II. üretimler: üret - im (yapım eki), türemiş
III. işleyen: iş - le (yapım eki), türemiş
IV. özelliği: öz - el (yapım eki), türemiş
V. karşımıza: karşı - mız - a, basittir.

CEVAP: E

YARGI YAYINEVİ

11. II. çünkü, V. ve: Bağlaç
I. deney, IV. biçim: İsim
III. daima: zarf

CEVAP: C

12. Parçada geçen "Bu türün en önemli eserlerinden "sözü karşılaştırma," türlerinden olan Pendnâmelerde" sözü örnekleme, "kısa bir gezinti" sözünde "kısa" niteleyici söz, divan şiiri hakkında nesnel bilgiler verildiği için açıklama örneklendirilmiştir. Parçada sayısal veri örneği yoktur.

CEVAP: B

13. Parçada roman ile ilgili bilgiler verilmiştir. Son cümledeyse romanın diğer türlerle karşılaştırması yapılmış ve bakış açısı değişmiştir.

CEVAP: E

14. Parça II. cümleden itibaren ikiye bölünür. I. cümlede haber metni yazımıyla ilgili genel bir bilgi verilir. Daha sonrasındaysa haber metni yazımının yöntemleri söylenmiştir.

CEVAP: A

15. Parçanın anlamlı bir bütün oluşturabilmesi için III ve IV'ün yer değiştirmesi gerekir. Son cümlede geçen "kabul eder" sözü bundan önce bir kişinin yani Reşat Nuri Güntekin'in gelmesi gerektiğini gösterir.

CEVAP: D

16. Parçada boş bırakılan yere düşüncenin akışına göre su kaynakları ile ilgili bir ifadenin gelmesi gerekir. Buna göre A'da verilen "Su kaynakları yalnızca insanlar için değil tüm canlılar için hayati öneme sahiptir." cümlesi getirilir.

CEVAP: A

17. Parçada geçen "Okul öncesi eğitim, çocuğun doğduğu günden temel eğitime başladığı güne kadar geçen yılları kapsayan ve çocukların sonraki yaşamlarında önemli rol oynayan" sözleri ulaşılabilecek olanın "Kişinin ilerleyen dönemlerdeki tüm hayatını ve gelişimini etkileyen bir anlayıştır. "olduğunu gösterir.

CEVAP: D

18. Parçadan hareketle A'da verilen "Kültür ve onunla ilgili kavramların kesin bir çizgisinin çizilmesi ve tanımlanması oldukça zordur." ifadesine ulaşılır.

CEVAP: A

YARGI YAYINEVİ

19. Parçada geçen "bir boyut kazandıran tasavvufun ve bu boyutu ifade imkânı sunan sembolik dilin" ve "Mistik bir tecrübenin anlatıldığı Hüsn ü Aşk, yoğun sembol kullanımıyla" sözleri anlatılmak istenenin B'de verilen "Şeyh Galip, Hüsnü Aşk adlı eserinde tasavvuf ve sembolizmi bütünleştirmiştir." ifadesine ulaşılır.

CEVAP: B

20. Parçada geçen "Kullanım amacına göre tiftik, ince ya da kalın şekilde eğrilmekte ve nihai hâlini almaktadır." sözü belli işlemlerden geçtiğine, "kışın sıcak, yazın ise serin tutarlar" sözü mevsimsel kullanımlara uygun olduğuna, "üretilen tiftiklerin el sanatları çerçevesinde geleneksel olarak tüketilmesi" sözü daha çok geleneksel özellikler gösterdiğine, "Ankara'da 16-18. yüzyıllar arası kentin sosyal ve ekonomik yaşamına büyük canlılık katmış olan" sözü Ankara için ekonomik değer oluşturduğuna değinilmiştir. Parçada sanayileşmeyle önemini yitirdiğine değinilmemiştir.

CEVAP: E

21. Parçadan hareketle ulaşılabilecek olan A'da verilen "Tiftikten üretilen ürünlerin ticari boyutu düşüktür." ifadesine ulaşılır.

CEVAP: A

22. Parçadan hareketle dilin anlatı türlerini meydana getirdiğine, kurgusalla varlığı birbirine bağlayan dilin bu unsurlar arasında köprü görevi gördüğüne, dilin modernizmden etkilenen bir yapıda olduğu ve edebî türleri de etkilediğine, hikâyeyi olumlu yönde etkileyen dilin anlatımla ilişkili olduğuna değinilmiştir. Ancak parçadan hareketle B'de verilen "Anlatımın kusursuz ve anlaşılır olması dilin kurallarına uymakla olur." ifadesi söylenemez.

CEVAP: B

23. Parçadaki "Dil anlatıyı var eden temel araçlardan biridir.", " hikâyeyi ortaya çıkardığı gibi", "dramatik olanı inşa eden", "Böylece dekor, kostüm, müzik, oyunculuk" sözlerinden hareketle dil, anlatımı ve kimi türleri etki altına alan bir yapıya sahiptir, ifadesine ulaşılır.

CEVAP: D

24. Parçadan hareketle E'de verilen "sözün ve dilin bulunmadığı, henüz oluşmadığı dönemde oluşturulmuştur." ifadesi sözsüz iletişimle ilgili söylenebilir.

CEVAP: E

25. Parçada üzerinde durulan düşünce iletişimin birden çok ve farklı biçimlerinin bulunduğudur. Buna göre ulaşılabilecek olan C'de verilendir.

CEVAP: C

26. Parçadan hareketle sözsüz iletişimle ilgili olarak;

- vücut hareketlerinden faydalandığına
- iletişim türlerinden olduğuna
- sözlü iletişimle bağlantılı olduğuna
- anlamı etkileyen bir yapıya sahip olduğuna değinilmiştir.

Parçada en etkili ve eski iletişim biçimi olduğuna değinilmemiştir.

CEVAP: A

27. - 30 soruların çözümlerini aşağıdaki bilgilere göre cevaplayınız.

Aslıhan	Banu	Cengiz	Çiğlem	Derya	Erkan
1- Ayakkabı Pantolon Parfüm Saat	A/B 1- Ceket 2- Ayak.ı Pant. Parfüm Saat	A/B 1- Ceket 2- Ayak. Pant. Parfüm Saat	1- Çanta (A)	1- Pant.(A) 2- Ayak. (B)	1- Parfüm Saat (B)

27. Erkan; parfüm ya da saat almış olabilir.

CEVAP: D

28. Banu, Çiğlem ile aynı alışveriş merkezinden alışveriş yapmadığı biliniyorsa B mağazasından alışveriş yapar. Çiğlem A'yı kullanmıştır. Buna göre de Cengiz, A'dan ceket alır.

CEVAP: A

29. Banu ve Aslıhan, A alışveriş merkezinden ürün alabilir.

CEVAP: E

30. Aynı alışveriş merkezini kesinlikle kullanmayan Çiğlem ve Erkan'dır.

CEVAP: B

YARGI YAYINEVİ

31. $\dfrac{2^4 \cdot 5^3}{\left(\frac{1}{10}\right)^{-2}} = \dfrac{2^4 \cdot 5^3}{(10)^2}$

$= \dfrac{2^4 \cdot 5^3}{(2 \cdot 5)^2}$

$= \dfrac{2^4 \cdot 5^3}{2^2 \cdot 5^2}$

$= 2^2 \cdot 5^1$

$= 20$ bulnur.

CEVAP: D

32. $\dfrac{(0,2)^2 - (0,1)^2}{(0,4)^2 + (0,3)^2} = \dfrac{\left(\frac{2}{10}\right)^2 - \left(\frac{1}{10}\right)^2}{\left(\frac{4}{10}\right)^2 + \left(\frac{3}{10}\right)^2}$

$= \dfrac{\frac{4}{100} - \frac{1}{100}}{\frac{16}{100} + \frac{9}{100}}$

$= \dfrac{\frac{3}{100}}{\frac{25}{100}}$

$= \dfrac{3}{\cancel{100}} \cdot \dfrac{\cancel{100}}{25}$

$= \dfrac{3}{25}$ (4)

$= \dfrac{12}{100}$

$= 1,2$ bulunur.

CEVAP: D

33. $\dfrac{7\sqrt{72} + 6\sqrt{50}}{\sqrt{24}} = \dfrac{7\sqrt{36 \cdot 2} + 6\sqrt{25 \cdot 2}}{\sqrt{4 \cdot 6}}$

$= \dfrac{7 \cdot 6\sqrt{2} + 6 \cdot 5\sqrt{2}}{2\sqrt{6}}$

$= \dfrac{42\sqrt{2} + 30\sqrt{2}}{2\sqrt{6}}$

$= \dfrac{\overset{36}{\cancel{72}}\sqrt{2}}{\cancel{2}\sqrt{6}}$

$= \dfrac{36}{\sqrt{3}}$

$= \dfrac{36\sqrt{3}}{3}$

$= 12\sqrt{3}$ bulunur.

CEVAP: D

YARGI YAYINEVİ

34. $\dfrac{5 \cdot 5! - 4 \cdot 4!}{3 \cdot 3!} = \dfrac{5 \cdot 5 \cdot 4! - 4 \cdot 4!}{3 \cdot 3!}$

$= \dfrac{25 \cdot 4! - 4 \cdot 4!}{3 \cdot 3!}$

$= \dfrac{21 \cdot 4!}{3 \cdot 3!}$

$= \dfrac{\overset{7}{\cancel{21}} \cdot 4 \cdot \cancel{3!}}{\cancel{3} \cdot \cancel{3!}}$

$= 28$ bulunur.

CEVAP: A

35.
$$\begin{array}{r} 1ABC \\ +\ \ 3AC \\ \hline 2BA4 \end{array}$$

$2C = 4$ ya da $2C = 14$

$C = 2$ $C = 7$

$B + A = A$ $B + A + 1 = A$

$B = 0$ $B = 9$

$A + 3 = 10 + B$ $A + 3 + 1 = 10 + B$

$\downarrow$ $\downarrow$

0 9

$A = 7$ $A = 15$

15 rakam olmadığından A = 7, B = 0 ve C = 2 olmalıdır.

A + B + C = 9'dur.

CEVAP: B

36. $|x + 1| \cdot |3x - 3| = 12$

$|x + 1| \cdot |3 \cdot (x - 1)| = 12$

$|x + 1| \cdot 3 \cdot |x - 1| = 12$

$|x^2 - 1| = 4$

$x^2 - 1 = 4$ $x^2 - 1 = -4$

$x^2 = 5$ $x^2 = -3$ → (Kare negatif olamaz.)

$x^2 = 5$

CEVAP: A

37. $x \cdot z < y \cdot z < x - y < 0$ sıralaması için

$x - y < 0 \Rightarrow x < y$ dir. ...(I)

$x \cdot z < y \cdot z$ her iki taraf z'ye bölünürse,

$x < y$ olup (I) eşitsizlik sağlandığından

$z > 0$ dır.

$x \cdot z < 0$ $x < 0$ $y \cdot z < 0$ $y < 0$ dır.

$\downarrow\ \downarrow$ $\downarrow\ \downarrow$

$-\ +$ $-\ +$

z pozitif x ve y negatif olup x < y olduğundan

sıralama x < y < z dir.

CEVAP: A

38. 7B sayısı 4 ile tam bölünüyor ise

B = 2 ya da B = 6'dır.

7A4B sayısı 9 ile tam bölünüyor ise

7A42 7A46

$\downarrow$ $\downarrow$

5 2

A'nın alabileceği değerler toplamı

5 + 2 = 7'dir.

CEVAP: E

39.
$$\begin{array}{rl} & 3 \cdot 2^x + 4 \cdot 3^y = 156 \\ + & 5 \cdot 2^x + 2 \cdot 3^y = 134 \ /-2 \\ \hline & -7 \cdot 2^x = -112 \end{array}$$

$2^x = 16$

$2^x = 2^4$

$\boxed{x = 4}$

$3 \cdot 2^x + 4 \cdot 3^y = 156$

x = 4 için, $3 \cdot 2^4 + 4 \cdot 3^y = 156$

$3 \cdot 16 + 4 \cdot 3^y = 156$

$48 + 4 \cdot 3^y = 156$

$4 \cdot 3^y = 108$

$3^y = 27$

$\boxed{y = 3}$

x + y = 4 + 3 = 7 bulunur.

CEVAP: B

YARGI YAYINEVİ

40. Ardışık iki tam sayının farkı tek tam sayı olacağından

$(x + y) - (y + z)$ = Tektir.

$x - z$ = Tek

↓ ↓

Ç T

T Ç

x ve z den biri çift sayı olacağı için $x \cdot z$ kesinlikle çift-tir.

CEVAP: B

41. Cevap şıklarındaki sayıların kendileri dışındaki pozitif bölenlerinin toplamını bulalım.

$6 \rightarrow 1, 2, 3 \rightarrow 1 + 2 + 3 = 6$ mükemmel sayıdır.

$15 \rightarrow 1, 3, 5 \rightarrow 1 + 3 + 5 = 9 \neq 5$ mükemmel sayı değil.

$45 \rightarrow 1, 3, 5, 9, 15 \rightarrow 1 + 3 + 5 + 9 + 15 = 33 \neq 45$ mükemmel sayı değil.

$51 \rightarrow 1, 3, 17 \rightarrow 1 + 3 + 17 = 21 \neq 51$ mükemmel sayı değildir.

$63 \rightarrow 1, 3, 7, 9, 21 \rightarrow 1 + 3 + 7 + 9 + 21 = 41 \neq 63$ mükemmel sayı değildir.

CEVAP: A

42. $a = \frac{20b - 13}{b}$

$a = \frac{20b}{b} - \frac{13}{b}$

$a = 20 - \frac{13}{b}$

a ve b asal sayı ise b = 13 olmaktadır.

$a = 20 - \frac{13}{13}$

$a = 19$

$a + b = 19 + 13 = 32$ bulunur.

CEVAP: E

43. $\left(\frac{1}{5}\right)^x = \left(\frac{1}{125}\right)^{3-x}$

$\left(\frac{1}{5}\right)^x = \left(\left(\frac{1}{5}\right)^3\right)^{3-x}$

$\left(\frac{1}{5}\right)^x = \left(\frac{1}{5}\right)^{9-3x}$

$x = 9 - 3x$

$4x = 9$

$x = \frac{9}{4}$ bulunur.

CEVAP: C

44. $\underbrace{\square + \square + \square + \square + \square}_{x+2} - \underbrace{\square - \square}_{x} = 2$

$x + 2 + x = \underbrace{1+2+3+4+5+6+7}$

$2x + 2 = \frac{7 \cdot 8}{2}$

$2x + 2 = 28$

$2x = 26$

$x = 13$

Toplamı 13 olacak şekilde sadece 6 ve 7 sayıları seçilebilir.

$A \cdot B = 6 \cdot 7 = 42$'dir.

CEVAP: E

45. Verilen eşitlikler taraf tarafa toplanırsa,

$3ab^2 + a^3 = 28$

$+ \quad 3ab^2 + b^3 = 36$

$a^3 + 3ab^2 + 3ab^2 + b^3 = 64$

$(a + b)^3 = 64$

$a + b = 4$ bulunur.

CEVAP: D

YARGI YAYINEVİ

46.

	Normal Bilet	Öğrenci Bileti
Fiyat:	10x	$10x \cdot \frac{60}{100} = 6x$
Adet:	20	40
Tutar:	200x	240x

$200x + 240x = 440x$

10 biletten fazla olduğu için %10 daha indirim yapılacak

$$440x \cdot \frac{90}{100} = 396x$$

$$396x = 594$$

$$x = \frac{594}{396}$$

$$10x = \frac{594}{396} \cdot 10$$

$= 15$ bulunur.

CEVAP: B

47.

	Silgi	Defter	Kalem
Fiyat:	x	3x	6x
Adet:	10	12	y
Tutar:	10x	36x	6xy

$$\frac{10x}{10x + 36x + 6xy} = \frac{\cancel{10}}{\cancel{100}_{10}}$$

$$100x = 46x + 6xy$$

$$54x = 6xy$$

$y = 9$ olur.

CEVAP: C

48. Peynirin kilogramı 18 TL olduğuna göre, 45 TL'ye 2,5 kg peynir alınabilir. Gerçekte 4 kg olan peynir terazinin yanlış tartımıyla 2,5 kg olarak tartılmış

4 kg → 1,5 kg eksik tartılmış

1 kg → x gram eksik tartar

D.O $4x = 1,5$

$$x = \frac{1500}{4} \text{ gram}$$

$x = 375$ gram

CEVAP: C

49. Topun bırakıldığı ilk yükseklik x olsun.

$x \cdot \frac{2}{5}$ → 1. yükselme

$x \cdot \frac{2}{5} \cdot \frac{2}{5}$ → 2. yükselme

$$\frac{4x}{25} = 40$$

$4x = 1000$

$x = 250$ cm'dir.

CEVAP: B

50. Paylaştırılan toplam para x TL olsun.

6 kişiye paylaştırılırsa kişi başına $\frac{x}{6}$ TL

9 kişiye paylaştırılırsa kişi başına $\frac{x}{9}$ TL para düşer.

$$\underset{(6)}{\frac{x}{6}} - \underset{(4)}{\frac{x}{9}} = 15$$

$$\frac{6x - 4x}{36} = 15$$

$$\frac{2x}{36} = 15$$

$2x = 540$

$x = 270$ TL'dir.

CEVAP: A

YARGI YAYINEVİ

51. Yavaş olan araç 9 saat boyunca sabit hızla toplam $9 \cdot 90 = 810$ km yol alıyor ve B şehrine varıyor.

$|AB| = 810$ olduğuna göre diğer araçta toplam 810 km yol almıştır.

$$120 \cdot 3 + V \cdot 6 = 810$$
$$360 + 6V = 810$$
$$6V = 450$$
$$V = 75$$

$120 - 75 = 45$ araç hızını 45 km/sa azaltmıştır.

CEVAP: E

52. Büyük Kardeşin Yaşı → x

Küçük Kardeşin Yaşı → y olsun.

$$\begin{array}{c|c} x & y \\ \hline = & 3 \\ \hline 4 & \end{array} \Rightarrow x = 3y + 4$$

$$x + y = 32$$
$$3y + 4 + y = 32$$
$$4y + 4 = 32$$
$$4y = 28$$
$$y = 7 \text{ bulunur.}$$

CEVAP: C

53. $(3 \square 2) \rightarrow 3 + 2 = 5 \rightarrow$ Tek sayı olduğundan,

$3^2 - 2^3 = 9 - 8 = 1$

$1 \square 1 \rightarrow 1 + 1 = 2 \rightarrow$ Çift sayı

$1^1 + 1^1 = 1 + 1 = 2$ bulunur.

CEVAP: D

54. Zarların görünen yüzlerindeki sayıların toplamı asal sayı olarak 2, 3, 5, 7 ya da 11'dir.

2	3	5	7	11
(1,1)	(2,1)	(3,2)	(6,1)	(5,6)
	(1,2)	(2,3)	(1,6)	(6,5)
		(4,1)	(3,4)	
		(1,4)	(4,3)	
			(5,2)	
			(2,5)	

Çarpımları 20'den büyük olanlar (5,6) ve (6,5)'tir.

Olasılık = $\frac{2}{15}$ olur.

CEVAP: C

55. 1. basamakta 1 sayı

2. basamakta 2 sayı

⋮

9. basamakta 9 sayı olduğuna göre,

$1 + 2 + 3 + \ldots + 9 = \frac{9 \cdot 10}{2} = 45$ bulunur.

CEVAP: B

56. Piramitte en sol tarafta bulunan kutulardaki sayılar yukarıdan aşağıya doğru

$$\underset{}{1} \overset{+2}{\underset{}{3}} \overset{+4}{\underset{}{7}} \overset{+6}{\underset{}{13}} \overset{+8}{\underset{}{21}} \overset{+10}{\underset{}{31}} \overset{+12}{\underset{}{43}} \overset{+14}{\underset{}{57}} \overset{+16}{\underset{}{73}}$$

73 sayısı 9. satırda en sol tarafta bulunmaktadır.

Aynı satırda soldan 2. kutuda 75 ve 3. kutuda 77 bulunmaktadır.

CEVAP: B

YARGI YAYINEVİ

57. Her satırda satır numarasının karesi o satırda yer alan sayıların tam ortasındaki sayıdır. Bu durumda 13. satırda tam ortada 169 sayısı yer alır.

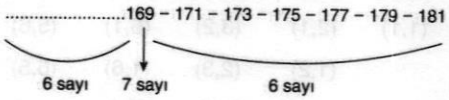

181 sayısı 13. satırın son sayısıdır.

CEVAP: A

58.

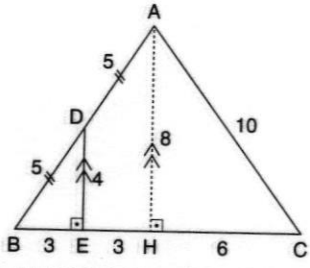

[DE]'ye paralel [AH] çizilirse [DE] ABH üçgeninin orta tabanı olur. |AH| = 8 cm olur.

AHC üçgeni 6-8-10 özel üçgeni olur.

|EH| = 9 – 6 = 3 cm bulunur.

|AD| = |BD| olup [DE] // [AH] olduğundan

|BE| = |EH| = 3 bulunur.

BDE üçgeni 3-4-5 özel üçgeni olur.

$Ç(\widehat{ABC}) = 10 + 12 + 10 = 32$ bulunur.

CEVAP: B

YARGI YAYINEVİ

59.

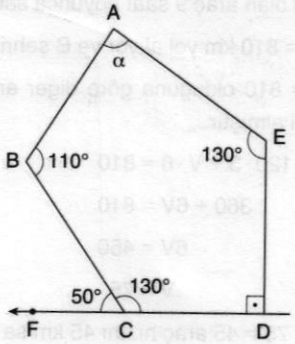

Beşgenin iç açıları toplamı $(n - 2) \cdot 180°$ bağıntısından, $(5 - 2) \cdot 180° = 540°$ olur.

$$110° + 130° + 90° + 130° + \alpha = 540°$$

$$460° + \alpha = 540°$$

$\alpha = 80°$ bulunur.

CEVAP: E

60. Taralı Alan = (Dilimin Alanı) – (Üçgenin Alanı)

$$= \pi \cdot 6^2 \cdot \frac{90°}{360°} - \frac{6 \cdot 6}{2}$$

$$= 3 \cdot 36 \cdot \frac{1}{4} - \frac{36}{2}$$

$$= 27 - 18$$

$= 9$ bulunur.

CEVAP: C

1. "Tanrının Kırbacı" unvanını alan, destanlara konu olan, Doğu ve Batı Roma'ya karşı başarılı seferler gerçekleştiren Avrupa Hun Devleti hükümdarı Attila'dır. Diğer seçeneklerdeki hükümdarların tahta çıktığı devletler şunlardır:

- Kutluk Bilge Kül Kağan: Uygurlar
- Arslan Yabgu: Karahanlılar
- Mete Han: Asya Hun Devleti
- Kapgan Kağan: Kök Türkler

CEVAP: A

2. Büyük Selçukluların yıkılmasında etkili olan sebepler şunlardır:

- Taht kavgalarının çıkması
- Türkmenlerin isyan etmesi
- Kut sisteminden kaynaklanan, devletin hanedanın ortak malı olarak kabul edilmesi
- Bâtını hareketlerinin ve özellikle Hasan Sabbah'ın siyasi ve toplumsal düzene zarar vermesi

CEVAP: E

3. Türkiye Selçuklularında ikta sistemi ve toprak sisteminden sorumlu divana Divan-ı Pervane ya da Pervanecilik Divanı denilmektedir. Bu divandaki görevliye de "pervane" denilmiştir. Pervaneler, arazi işleriyle ilgili hizmetleri düzenlemiş, berat ve menşurları hazırlamışlardır.

CEVAP: E

4. Yıldırım Bayezid, Türk beyliklerini ele geçirmiş, Anadolu Beylerbeyliğini kurmuş ve böylece Osmanlı Devleti adına ilk defa Anadolu Türk siyasi birliğini kurmuştur.

Beylerbeyliği (eyalet) teşkilatının kurulması ülke yönetimini kolaylaştıran bir etkendir. Osmanlı sınırları genişledikçe eyalet sayısı artacaktır.

Zaten İslamiyet'i kabul etmiş Türk beyliklerine karşı sefer yapılması gaza ve cihad politikasıyla açıklanamaz. Osmanlı gaza siyasetini Hristiyan devletlere karşı uygulamıştır. Dolayısıyla I. ve III. öncüller doğru olarak kabul edilmelidir.

CEVAP: C

5. Enderun Mektebi; yetenekli devşirmelerin eğitim aldığı saray okuludur. Bu okulda üst düzey bir eğitim verilmektedir. Enderun okulunu bitirenler sadrazam, vezir, beylerbeyi, subaşı, sancakbeyi gibi üst düzey görevlere getirilir. En önemli devlet görevlileri bu okuldan yetiştiği için dış politika konusunda uzman olan görevliler de bu okuldan çıkmıştır.

CEVAP: A

6. Gelirleri kale muhafızlarına ve tersane giderlerine ayrılan topraklara "ocaklık" adı verilmiştir.

- Zeamet: Geliri 20 bin ile 100 bin akçe arasında olan dirlik topraklardır.
- Metruk: Halkın ortak kullandığı topraklardır.
- Tımar: Geliri 20 bin akçeden az olan dirlik topraklardır.
- Malikâne: Devlete üstün hizmette bulunanlara verilen topraklardır.

CEVAP: A

YARGI YAYINEVİ

7. Osmanlı Devleti'nde Köprülü Mehmet Paşa, sadrazamlık görevini kabul etmeden önce şu şartları öne sürmüştür:

- Saray, sadrazamın işlerine karışmayacaktır.
- Sadrazam istediği kişileri tayin edecek ya da görevinden azledecektir.
- Hakkında şikâyet olduğunda önce savunması alınacaktır.

CEVAP: B

8. III. Selim Nizam-ı Cedit ordusunu kurarak askeri teşkilatın modernleşmesini amaçlamıştır. Ancak Yeniçeriler, bu ordunun kurulmasını kendilerine bir tehdit olarak algılamıştır. Kabakçı Mustafa Ayaklanması'nı çıkaran Yeniçeriler, III. Selim'i tahttan indirerek yerine IV. Mustafa'yı geçirmişlerdir.

CEVAP: D

9. Osmanlı Devleti XVIII. yüzyılın başlarında, Lale Devri'nden itibaren Avrupa mimarisini örnek almaya başlamıştır. Bu devirde barok ve rokoko üslubuyla eserler inşa edilmiştir. Ayrıca XIX. ve XX. yüzyılda da Avrupa tarzıyla eserlerin inşasına devam edilmiştir.

Osmanlı Devleti'nde Batı tarzıyla yapılan ilk eser C seçeneğindeki III. Ahmet Çeşmesi'dir.

CEVAP: C

10. Ahmet Muhtar Paşa ve Gazi Osman Paşa, 93 Harbi'nde Ruslara karşı başarılı savunma savaşları yapmıştır.

- Ahmet Muhtar Paşa: Komutasındaki askerlerle Ruslara karşı Kafkasya'da uzun süren bir direnişi yönetmiştir. Ancak bu mücadeleler sonucunda Ruslar; Erzurum, Kars, Ardahan ve Batum'u işgal etmiştir.
- Gazi Osman Paşa: 93 Harbi'nin Balkan Muharebelerinde mücadele etmiştir. 145 gün süren Plevne savunmasıyla tanınmaktadır. Ancak Plevne'nin düşmesinden sonra Ruslar Edirne'yi işgal ederek Yeşilköy'e kadar ilerlemiştir.

Cezayirli Hasan Paşa ise XVIII. yüzyılda kaptanıderyalık görevini yürüten bir Osmanlı amiralidir.

CEVAP: E

11. İtalya'nın XX. yüzyıl başlarında yani 1911'de Osmanlı toprağı olan Trablusgarp'a saldırması üzerine Trablusgarp Savaşı yaşanmıştır.

İmzalanan Uşi Antlaşması ile Trablusgarp yani günümüzdeki Libya İtalya'ya verilmiştir.

CEVAP: A

12. Verilen açıklamalar Yusuf Akçura'ya aittir.

Yusuf Akçura, "Üç Tarz-ı Siyaset" adlı makalesiyle meşhur olmuştur. 1904'te Mısır'da "Türk" isimli gazetede yayınlanan bu makale, Türkçülük akımının manifestosu olarak nitelendirilmiştir.

Diğer seçeneklerdeki Zeki Velidi Togan ve Mehmet Emin Yurdakul da Türkçülük akımını savunmuştur. Namık Kemal Osmanlıcılık fikrini, Mehmet Akif Ersoy ise İslamcılık fikrini savunmuştur.

CEVAP: B

YARGI YAYINEVİ

13. Söz konusu örgüt İttihat ve Terakki Cemiyeti'dir. Selanik'te kurulan bu örgütün temel amacı; II. Abdülhamid'in baskı rejimine son vermek ve meşrutiyeti getirerek parlamenter sistemi uygulamaktır. İttihat ve Terakki amacına 1908'de ulaşmıştır. II. Abdülhamid bu tarihte Kanun-i Esasi'yi yürürlüğe koymuş ve Mebusan Meclisi'ni açmıştır.

CEVAP: D

14. Mondros'un bu maddesi Anadolu'nun işgaline yasal dayanak olmuştur. Bu maddeyle İtilaf Devletleri Anadolu'da yapacakları işgalleri yasal bir zemine taşımışlardır. İtilaf Devletlerinin işgallerini gerçekleştirmesi için karışıklık çıkması ve güvenliğin bozulması gerekmektedir. İşte bu karışıklık durumunu Taşnak, Hınçak, Etnik-i Eterya, Mavri Mira ve Pontus Rum gibi azınlık cemiyetleri çıkarmıştır. Bu cemiyetler İtilaf Devletleriyle birlikte hareket ederek Mondros'un 7. maddesine işlerlik kazandırmıştır.

CEVAP: E

15. Havza Genelgesi'nde I. ve III. öncüllerdeki maddeler yer almıştır. Mustafa Kemal, Havza Genelgesi'yle milli bilinci harekete geçirmek istemiştir.

Ancak Havza Genelgesi'nde II. öncüldeki madde yer almamaktadır. Bu madde 20-22 Haziran 1919'da yayınlanan Amasya Genelgesi'nde yer almaktadır.

CEVAP: C

16. Söz konusu yazar ve gazeteci Yakup Kadri Karaosmanoğlu'dur.

Yakup Kadri; Ateşkes yıllarında İstanbul'da İkdam gazetesinde Milli Mücadele taraftarı yazılar kaleme almıştır. Daha sonra Anadolu'ya geçen Yakup Kadri Ankara'da çalışmalarına devam etmiştir.

Milli Mücadele'yi anlatan Yaban, Sodom ve Gomore, Vatan Yolunda adlı eserler Yakup Kadri'ye aittir.

CEVAP: C

17. A, C, D ve E seçeneklerindeki kanunlar 23 Nisan 1920'den 1 Nisan 1923'e kadar görev yapan I. TBMM Dönemi'nde çıkarılmıştır.

Fakat Ankara'nın başkent olmasına II. TBMM Dönemi'nde 13 Ekim 1923'te karar verilmiştir.

CEVAP: B

18. Mustafa Kemal, TBMM'nin yetkilerini ordunun sevk ve idaresini hızlandırmak için istemiştir. Nitekim Tekâlif-i Milliye Emirlerini Mustafa Kemal tek başına yayınlamış ve ordunun lojistik ihtiyaçlarının karşılanmasını sağlamıştır. Aslında demokrasiyle bağdaşmayan bu yetkinin Mustafa Kemal'e verilmesinin tek gerekçesi, görüldüğü gibi içinde bulunulan olağanüstü durumda hızlı karar alabilmektir.

Dolayısıyla Mustafa Kemal'in, meclisin yetkilerini üç aylığına istemesi milli egemenlik ilkesine verdiği önemi kanıtlamaktadır.

CEVAP: B

YARGI YAYINEVİ

19. Ankara'nın başkent olmasına en yoğun tepkiyi İngiltere vermiştir.

İngiltere, TBMM'nin kararını tanımayarak elçiliğini uzun bir süre İstanbul'da tutmuştur. Ancak ilerleyen dönemde İngiltere de tepkilerini yumuşatarak elçiliğini Ankara'ya taşımıştır.

CEVAP: A

20. B, C, D ve E seçeneklerindeki kanunların alındıkları ülkeler doğru olarak eşleştirilmiştir.

Fakat İcra ve İflas Kanunu İngiltere'den değil İsviçre'den alınmıştır.

CEVAP A

21. 24 Kasım 1934'te İsmet Paşa ve 20 milletvekilinin imzasını taşıyan bir kanun tasarısıyla Mustafa Kemal'e "Atatürk" soyadı verilmiştir.

Atatürk soyadının Saffet Arıkan tarafından türetildiği iddia edilmektedir. Ancak Atatürk soyadının verilmesiyle ilgili kanun tasarısını İsmet Paşa meclise sunmuştur.

CEVAP: E

22. Devletçilik; ekonominin hızla kalkınması için büyük yatırımların devlet eliyle yapılmasıdır.

Bu ilkenin uygulanmasında şu sebepler etkili olmuştur:

- Özel teşebbüs yatırımlarının istenilen düzeye ulaşmaması
- 1929 Dünya Ekonomik Bunalımı'nın yaşanması
- Özel teşebbüsün sermaye sorunları yaşaması

Fakat halk iradesinin güçlendirilmek istenmesi devletçiliğin değil cumhuriyetçilik ilkesinin bir gereğidir.

CEVAP: A

23. Siyasi partilerin kurulması cumhuriyet rejiminin bir gereğidir. Ulusal iradenin ve demokrasinin egemen olduğu cumhuriyetlerde toplum, siyasi partiler aracılığıyla ülke yönetimine katılırlar. Ayrıca birden fazla siyasi partinin kurulması ve çok partili parlamenter sistemin kurulması cumhuriyet idaresine güç kazandırmaktadır.

Sonuç olarak siyasi partilerin kurulması cumhuriyetçilik ilkesiyle doğrudan ilgilidir.

CEVAP: B

24. Türkiye A, C, D ve E seçeneklerinde belirtilen hedeflere göre adımlar atmıştır. Bu hedefler 1930'lu yıllara dayanmaktadır.

Fakat NATO (Kuzey Atlantik Antlaşması Örgütü) 1949'da kurulmuştur. Türkiye bu teşkilata 1952'de üye olmuştur.

CEVAP: B

YARGI YAYINEVİ

25. Söz konusu devlet İngiltere'dir.

İngiltere Dışişleri Bakanı Arthur James Balfour, 1917'de bir deklarasyon yayınlanmıştır. Bu deklarasyonda Siyonizm hareketi ve onun lideri Lord Rothschild'e destek verildiği beyan edilmiştir. Dolayısıyla Balfour Dekiarasyonu, Filistin'de bir Yahudi devletinin kurulmasına destek veren ilk önemli uluslararası belgedir.

CEVAP: C

26. Çekoslovakya'da Alexander Dubcek önderliğinde İnsancıl Komünizm hareketi meydana gelmiştir. Ayrıca Çekoslovak yönetimi Charter 77 Bildirisiyle SSCB'ye başkaldırmıştır. 1989'da Çekoslovakya'da Kadife Devrim meydana gelmiştir.

CEVAP: C

27. John F. Kennedy, 1961'den 1963'e kadar ABD başkanlığı görevini yürütmüştür.

Kennedy 22 Kasım 1963'te Teksas'ta, Lee Harvey Oswald tarafından vurularak öldürülmüştür. Oswald, tutuklandıktan iki gün sonra mahkemeye çıkarıldığı esnada Jack Ruby tarafından öldürülmüştür.

Kennedy Dönemi'nde, Domuzlar Körfezi Çıkarması, Küba Füze Krizi ve Apollo Projesi meydana gelmiştir.

CEVAP: B

28. Bakı güneş gören yamaç demektir. Bakı etkisi etkili olduğu yamaçta sıcaklığı arttırır, yerleşme, tarım ve orman üst sınırları daha yüksekten geçer. Türkiye'de bakı etkisi güney yamaçtadır. Çizimde I numaralı yamaçta kalıcı kar sınırının daha yüksekte olması sıcaklığın daha fazla olduğunu gösterir. Bu sebeple I numaralı yamaç güney yamaçtır. II numaralı yamaç ise bu durumda kuzey olmaktadır. Kuzey yamaçta sıcaklıklar güney yamaca göre daha düşük ve yağış daha fazladır. Orman, yerleşme ve tarım üst sınırı daha alçaktan geçer.

CEVAP: D

29. Grafikte sıcaklık şartları incelendiğinde sıcak ortalamalarının yıl boyunca 0 °C'nin altına düşmediği görülür. Yağış koşullarında ise yağışın en fazla kış aylarında oluştuğu görülür. Yazın ise sıcak ve kurak şartlar yaşanmaktadır. Bu durumlar grafiğin Akdeniz iklimine ait olduğunu kanıtlamaktadır. Verilen iklim grafiği Akdeniz iklim bölgesinde yer alan İzmir'e ait bir iklim grafiğidir.

CEVAP: B

30. Bu soruda enlem etkisi dikkate alınmadır. Kuzey-güney yönünde en geniş olan bölge Doğu Anadolu'dur. Bu sebeple güneyine güneş ışınlarının düşme açısı ile kuzeyine düşme açısı arasındaki fark diğer bölgelere göre fazladır. Yükselti dikkate alınmadığında bu sebeple en fazla sıcaklık farkının Doğu Anadolu'da görülmesi beklenir.

CEVAP: D

YARGI YAYINEVİ

31. Türkiye'de yıllık yağış ortalamasının en fazla olduğu yer Doğu Karadeniz Bölgesi'dir. Kuraklık ise ne fazla Güneydoğu Anadolu'da buharlaşmanın çok olması sebebiyle görülür. Türkiye'de toplam yağışın en az olduğu yerler Tuz Gölü çevresi ile Iğdır ilidir. Türkiye'de kışın daha çok cephesel yağışlar görülür. Yükselim yağışları ilkbahar ve yaz mevsiminde görülür.

CEVAP: A

32. Tuz yataklarının oluşması, Anadolu'da karasallaşmaya bağlı göllerin oluşması III. Jeolojik Zaman'a denk gelmektedir. Türkiye'de ana fay kuşaklarının oluşması, Ege'de horst ve grabenlerin oluşması III. Jeolojik Zaman'a denk gelmektedir. Karadeniz IV. zamanda deniz hâline gelmiştir.

CEVAP: E

33. Maki bitki örtüsünün gelişebilmesi için yaz kuraklığına ihtiyaç vardır. Karadeniz Bölgesi her mevsim yağışlı olduğu için kıyıdan itibaren yağış koşullarına bağlı olarak orman örtüsü görülür. Yıl boyunca Karadeniz'de yağış olması yani yağış rejiminin düzenli olması geniş yapraklı orman görülme nedenidir.

CEVAP: D

34. Akdeniz iklimi görülen illerde Akdeniz İkliminin Klimaks türü olan kızılçam ormanlarına rastlanılmaktadır. Ayrıca kızılçam ormanlarının tahrip edildiği yerlerde ortaya çıkan makiler bir arada bulunmaktadır. Seçeneklerdeki illerden Akdeniz'de olmayan Tokat'ta bu iki tür bir arada bulunmaz.

CEVAP: C

35. Türkiye'de doğurganlık hızı ortalamasının en yüksek olduğu bölgeler Güneydoğu Anadolu ve Doğu Anadolu bölgeleridir. Şanlıurfa, Şırnak, Ağrı ve Siirt en yüksek doğurganlığa sahip illerdir (2 üzeri). Karadeniz ve Trakya'da doğurganlık en düşüktür (1,6 altında).

CEVAP: A

36. Çalışanların çalıştıkları meslekler içinde birincil sektör olarak adlandırılanlar:

- Avcılık
- Toplayıcılık
- Hayvancılık
- Madencilik
- Ormancılık
- Balıkçılık
- Tarım şeklindedir.

Bankacı, borsacı gibi finans sektöründe çalışanlar hizmet (üçüncül) sektör içindedir.

CEVAP: B

YARGI YAYINEVİ

37. Türkiye istatistik kurumu Türkiye'de nüfusu 20 bin üzeri olan yerleşmeleri kent, 20 bin altı olan yerleşmeleri kır kabul etmektedir. Bazı ilçelerin nüfusu 20 binden azdır. Köy en çok 2000, belde 5000 nüfuslu yerlerdir. Köy ile belde arasında kasaba yer alır. Büyükşehir nüfusu 750 bin üzeri olacağından kesin olarak kent statüsündedir.

CEVAP: C

38. Türkiye'de taş kömürünün tamamı Batı Karadeniz'den çıkarılır. Asfaltit adı verilen katı petrol Şırnak ve Hakkâri çevresinde bulunur. Demir cevheri en fazla Sivas Divriği çevresindedir. Bor Minerali Bursa, Balıkesir, Kütahya ve Eskişehir çevresindedir. Ancak Bakır en çok Karadeniz'de bulunur. Kastamonu, Rize, Artvin, Elazığ ve Diyarbakır'dan çıkarılır. Ege'de bakır yoktur. Muğla'dan krom çıkarılır.

CEVAP: B

39. Nadas sulama sıkıntısı yaşanan bölgelerde toprağın bir yıl ekilmeden dinlendirilmesi uygulamasıdır. Türkiye'de yarı kurak iklim koşullarının görülmesi ve sulama koşullarının gelişmemiş olması, nadas alanlarının geniş olmasında etkili olmuştur.

CEVAP: C

40. Türkiye'nin yüksek ve engebeli yapısıyla kısa mesafelerde değişen iklim şartları bitki çeşitliliği üzerinde olumlu bir etki yaratmıştır. Bu bitki çeşitliliği ise arıcılık için elverişli ortamları oluşturmuştur.

CEVAP: D

41. Ülkemiz de demir cevherinin en fazla çıkarıldığı yerler: Sivas (Divriği), Malatya (Hekimhan ve Hasançelebi) önemli çıkarım alanlarıdır. Artvin Murgul - bakır, Soma ve Tavşanlı - linyit çıkarım alanlarıdır. Bartın Amasra'dan taş kömürü çıkarılmaktadır.

CEVAP: E

YARGI YAYINEVİ

42. Yozgat ve Konya'da yazlar sıcak ve kurak geçmektedir. Ardahan ve Giresun'da ise yaz mevsimi yağışlı geçmektedir. Bu nedenle yaz döneminde kuraklık isteyen bir tarım ürünü Ardahan ve Giresun'da yetiştirilemez.

CEVAP: C

43. Üst bilgide de vurgulandığı gibi dağların kıyı şeridine paralel olduğu Akdeniz ve Karadeniz bölgelerinden İç Anadolu ve Doğu Anadolu bölgelerine geçişte dağların kıyı şeridine paralel olması ulaşımı güçleştirdiğinden geçitlere ihtiyaç duyulmaktadır. Marmara – Ege ve Ege – İç Anadolu arasındaki ulaşım daha kolaydır.

CEVAP: B

44. Türkiye'de en fazla golf sahası Antalya'da bulunmaktadır. Golf sahası bulunan diğer iller İstanbul, Muğla (Bodrum), Ankara ve Aydın'dır (Kuşadası).

CEVAP: B

45. Doğu Anadolu Bölgesi'nde yükselti, karın yerde kalma süresi, kayısı üretimi, doğum oranı Ege Bölgesi'ne göre daha yüksektir. Ancak okuryazar oranı Ege Bölgesi'nden daha düşüktür.

CEVAP: E

46. Hükümsüzlük: Bir hukuki işlemin, kanunun öngördüğü şekilde yapılmaması veya kanuna aykırı olarak yapılması halinde hukuki sonuç doğurmamasıdır.

CEVAP: A

47. Sened-i İttifak, Tanzimat Fermanı ve Islahat Fermanı Türk anayasacılık tarihinde yer alan anayasal belge iken Kanun-i Esasi ilk anayasadır.

CEVAP: C

48. Radyo ve televizyon faaliyetlerini düzenlemek ve denetlemek amacıyla kurulan Radyo ve Televizyon Üst Kurulu 9 üyeden oluşur.

CEVAP: A

YARGI YAYINEVİ

49. Anayasa Mahkemesi Cumhurbaşkanı (12) ve TBMM (3) tarafından seçilen 15 üyeden oluşur. Seçilen üyelerinin görev süresi **12 yıldır**. Bir defa seçilen üye ikinci kez seçilemez.

CEVAP: D

50. Genel Kurmay Başkanı, **Milli Savunma Bakanına** karşı sorumludur. Ancak Savaş durumunda **Cumhurbaşkanına** karşı sorumludur.

CEVAP: B

51. Cumhurbaşkanlığı kararnameleri ve yönetmeliklerin yürürlülük tarihleri belirtilmemişse **Resmî Gazete'de yayımlandıkları gün** yürürlüğe girer.

CEVAP: A

52. Kamu Tüzel Kişilerin özellikleri şöyledir;

- Kendilerine özgü karar ve yönetim organlarına sahiptirler.
- Kanunla veya Cumhurbaşkanlığı kararnamesi ile kurulur.
- Giderleri kendi bütçelerinden karşılanır.
- İşlemlerinde hukuka uygunluk karinesinde yararlanır.
- Kamu yararı için faaliyet gösterirler.

CEVAP: C

53. Merkezi idari kuruluşlarının arasında bütünlüğü sağladığı gibi, aynı tüzel kişi içinde yer alan çeşitli örgüt ve birimler arasında da bütünlüğü sağlayan idareye ilişkin ilke **hiyerarşidir**.

CEVAP: B

54. Türk Borçlar Kanunu'na göre tarafların, üçüncü kişileri aldatmak amacıyla, gerçek iradelerine uymayan bir işlem yapmaları fakat görünürdeki bu işlemin geçerli olmayacağı konusunda anlaşmalarına **muvazaa** denir.

CEVAP: D

YARGI YAYINEVİ

55. Türk Ceza Kanunu'na göre **kıyas yasağı** vardır. Kasten insan öldürme suçu işleyen Recep mahkemenin hakkında vermiş olduğu 18 yıl hapis cezasına "daha önce arkadaşı Cihan'ın da aynı suçu işlemiş olduğunu ve 10 yıl hapis cezası aldığını" ileri sürerek itiraz etmiştir. Recep'in yapmış olduğu bu itiraz kıyas yasağına aykırıdır.

CEVAP: C

56. "Kollarım yok ama kimsenin göremediği kanatlarım var." diyen ve 2020 yılı Barbie'nin rol modeli seçilen sporcumuz Sümeyye Boyacı'dır.

CEVAP: C

57. Birleşmiş Milletler Eğitim ve Kültür Örgütü (UNESCO) tarafından 2021 Dünya Kitap Başkenti ilan edilen yer Gürcistan'ın Başkenti Tiflis'tir.

CEVAP: B

58. İstiklal Marşı'mızın yazarı Mehmet Akif Ersoy tarafından Taceddin Dergâhı'nda kaleme alınan Bülbül Destanı Bursa'nın işgali üzerine kaleme alınmıştır.

CEVAP: B

59. 2022 Kış Olimpiyatlarına ev sahipliği yapacak şehir Çin'in Başkenti Pekin'dir.

CEVAP: E

60. 2021 yılında gerçekleştirilen 93. Oscar ödül töreninde En İyi Film dalında Yönetmenliğini Chloe Zhao'nun yapmış olduğu Nomandland isimli film kazanmıştır.

CEVAP: C

YARGI YAYINEVİ