KPSS 2024

GENEL YETENEK
GENEL KÜLTÜR

4

TÜRKİYE GENELİ
DENEME SINAVI

TG

ADI	
SOYADI	
T.C. KİMLİK NUMARASI	

AYRINTILI VİDEO ÇÖZÜMLERİNE ULAŞMAK İÇİN QR KODU TARAYIN

YEDİİKLİM
/yediiklimyayincilik

Bu testte 60 soru vardır.

1. Feminist bakış açısının ön plana çıktığı sanat çalışmalarında kadın, erkek merkezci anlayıştan ---- bir biçimde ele alınmaktadır. Bu tür çalışmalarda, kadın portrelerinin erkeğe ---- niteliklerle betimlenmesi, özellikle resim sanatı bağlamında eleştirilere maruz kalmıştır.

Bu cümlede boş bırakılan yerlere sırasıyla aşağıdakilerden hangisi getirilmelidir?

A) öte - seslenen

B) uzak - bağlı

C) kopuk - karşı

D) yoksun - yönelik

E) bağımsız - özgü

2. Bazı edebiyat eleştirmenleri, Nazım Hikmet'in asi kişiliğini ve şiirlerindeki muhalif tavrını, genç yaşta tanıştığı fikir önderlerinin bir yansıması olarak görürler; onun düzene kafa tutuşunu bu ideolojik eğitime bağlarlar.

Bu parçadaki altı çizili sözün cümleye kattığı anlam, aşağıdakilerden hangisinde vardır?

A) Üniversitedeki hocaların koyduğu kurallara karşı çıkıp öğrencilerin haklarını savunuyordu.

B) Onun karşısına çıkan zorluklara rağmen ideallerinden ödün vermeyen tutumu, herkes tarafından bilinir.

C) Hafta sonu köyüne gitmeyi planlıyordu ama köydeki yol çalışması nedeniyle planlarını ertelemek zorunda kaldı.

D) Yeni girdiği iş yerindeki sorumluluklarından dolayı bazen endişelenip kendi yeteneklerini sorguluyordu.

E) Apartman yönetimine sürekli olarak bahçedeki ağaçların budanması konusunda baskı yapıyordu.

3. (I) Tüm edebî eserler, belirli bir kültürel bağlam içinde oluşturulur. (II) Bu kültürel bağlamın analizi, sadece edebiyatı daha iyi anlamamıza değil, aynı zamanda tarihî ve sosyolojik süreçleri de kavramamıza yardımcı olabilir. (III) Aslında, edebî çalışmaların ve incelemelerin büyük bir bölümü, eserlerin oluşturulduğu kültürel ve tarihsel bağlamı anlamayı amaçlar. (IV) Bu nedenle, edebî eleştirmenlerin ve araştırmacıların bu bağlamı dikkate alarak analizler yapmaları önemlidir. (V) Eğer bir edebî eser, belirli bir toplumsal olay ya da duruma tepki olarak oluşturulmuşsa ki çoğu zaman öyle olur, bu olayı ve eserin tepkisini anlamak edebî eleştirmenin öncelikli işlerinden biri olmalıdır.

Bu parçadaki numaralanmış cümlelerle ilgili olarak aşağıda verilenlerden hangisi yanlıştır?

A) I. cümlede, edebî eserlerin kültürel bir bağlam içinde şekillendiğine dair genel bir ifade kullanılmıştır.

B) II. cümlede, kültürel bağlamın edebiyatın yanı sıra tarihî ve sosyolojik kavrayışa da katkıda bulunabileceği anlatılmaktadır.

C) III. cümlede, edebî incelemelerin esas amacının eserlerin oluşturulduğu kültürel ve tarihsel bağlamı anlamak olduğu belirtilmiştir.

D) IV. cümlede, tepkisel olarak oluşturulan edebî eserleri incelemenin zor olduğu vurgulanmıştır.

E) V. cümlede, edebî eserlerin toplumsal olaylara veya durumlara tepki olarak yazıldığı ve bu tepkiyi anlamanın edebî eleştirmenin görevi olduğu ifade edilmiştir.

YEDİİKLİM

4. (I) Kentler özellikle 19. yüzyıldan sonra bütün birleştiriciliğinin yanında dönüşümün, yok etmenin, yıkmanın simgesi oldu. (II) Umutların, romantik hayallerin beşiği olan kent, karmaşanın, kâbusun, felaket senaryolarının merkezi oldu. (III) Kentteki özgür, mutlu bireylerin ürkütücü yönetim ve denetim sistemleri ile özgürlüğü ve bireyselliği bastırıldı. (IV) Toplumsal yaşam tekdüzeliğe, denetimin temel alındığı mutsuzluk alanlarına dönüştürüldü. (V) Mekânı kent olan karşı ütopyalardaki; şehirlerin yıkıldığı, çürümeye bırakıldığı, savaşta havaya uçurulduğu bilim kurgular artık kurgu değil.

Bu parçadaki numaralanmış cümlelerin hangilerinde kentlerle ilgili bir karşıtlıktan söz edilmemiştir?

A) I ve II B) II ve IV C) III ve IV
D) III ve V E) IV ve V

5. Aşağıdaki dizelerin hangisinde türetilirken ünlü kaybına uğramış sözcük vardır?

A) Vatanın ufkunda en güzel çeyiz sen oldun.
B) Bir kenarsız kuş, dalına konar gibi özgürdür.
C) Son damla, yaş gibi gözümde duruyor.
D) Kara haber, tipi eser gibi savrulur.
E) Savaş, baba mirası atların hüneriyle sürdürülür.

6. Aşağıdaki cümlelerin hangisinde yazım yanlışı vardır?

A) Öğrenciler sınavda dil bilgisi sorularını kolay yanıtlamışlar.
B) Tatilde şehitlerin ailelerine başsağlığına gittik.
C) Çocuk o kadar üzülmüştü ki gözyaşları yanaklarından süzülüverdi.
D) Dedem, başucundaki deyneği alıp bana doğru uzattı.
E) Evden çıkarken alelacele çantasına meyveler koydu.

7. Dostlar ve düşmanlar vardır ( ) Bir de yabancılar ( ) Ben bir yabancıyım orada ( ) Yabancı ( ) dostların birlikte yaşadığı ( ) düşmanların uzak durduğu düzende tedirginlik yaratır ( )

Bu parçada yay ayraç ile belirtilen yerlere sırasıyla hangi noktalama işaretleri getirilmelidir?

A) (:) (.) (.) (;) (,) (.)
B) (.) (...) (.) (,) (,) (.)
C) (:) (...) (.) (,) (,) (.)
D) (.) (...) (.) (;) (,) (.)
E) (.) (...) (.) (,) (;) (.)

8. Kendinizi bir an önce eve atma isteğiniz olmuyor çünkü iş yeriniz aynı zamanda eviniz oluyor.

Bu cümleyle yapıca özdeş cümle, aşağıdakilerin hangisinde kullanılmıştır?

A) Karamsarlıktan kurtulun, mutlu olmaya bakın.
B) Ya bu deveyi gütmeli ya bu diyardan gitmeli.
C) Annem ve kardeşim eve gelip beni göremeyince çok korkmuşlar.
D) Telefon uzun çaldı, telefonu açan olmadı.
E) Her yanda yıkılmış ve harap olmuş evler gördüm.

9. Daha çok kırılacak kalbin
Daha çok üzüleceksin
İnsan her şeye katlanır
Göreceksin

Bu dizelerde altı çizili sözcüklerin görevi, aşağıdakilerin hangisinde sırasıyla verilmiştir?

A) Zarf - zarf - sıfat - zamir
B) Sıfat - zarf - sıfat - isim
C) Zarf - zarf - sıfat - isim
D) Sıfat - sıfat - sıfat - isim
E) Zamir - zarf - isim - sıfat

10. İnsan bilinci, büyük patlamadan bugüne kadar geçen sürede evreni somutlayarak değil soyutlayarak kurmaya ve düzenlemeye çalışmıştır.

Bu parçadaki sözcüklerle ilgili aşağıdakilerden hangisi yanlıştır?

A) "patlamadan" sözcüğü eylem kökünden türemiştir.
B) "süre" sözcüğü eylemden türemiş bir addır.
C) "evreni" sözcüğü belirtme eki almıştır.
D) "somutlayarak" sözcüğü gövdedir.
E) "düzenlemeye" sözcüğü eklerine "düz-en-leme-y-e" biçiminde ayrılır.

11. Aşağıdaki cümlelerde geçen altı çizili sözcüklerden hangisi zarftır?

A) Kendi döneminde yaşadığı çağı aşan yazarlar okunmaya değer bence.
B) Her insan eşi, yakınları ve çevresi tarafından hatırlanmak ister.
C) Kimi yazarlar kendilerine özgü üsluplarıyla örnek oluşturacak bir yöntem benimsemişlerdir.
D) Ünlü sanatçı, ilk zamanlarda kendinden önceki sanatçılara öykünerek bir yerlere gelmiş.
E) Aramızdan ayrılan bazı yazarlar kendi dönemlerinde çığır açmışlardı.

12. I. Sırf yenilik olsun diye yapılmış, bilimsel dayanağı olmayan hipotezlerin ise yıllar sonra kabul göreceğini düşünmek de nafiledir.
II. Getirdiği yenilikler, mevcut bilimsel teorilerin aşılmasına katkı sağlayacaksa, bilim camiasının direnci uzun sürmez.
III. Bu durumda bilim insanı, bütün suçu bilim camiasına atmak yerine, onlarla diyalog kurmanın yollarını araştırmalı ve çalışmalarını açıklamalıdır.
IV. Bir bilim insanı, araştırmaları ilgisizlikle karşılandı diye topluma olan inancını kaybetmemeli; niçin dikkate alınmadığını düşünmeli ve eksikliklerini bulmaya çalışmalıdır.
V. Belki de bir eksiği yoktur, araştırmalarının dikkate alınmaması sadece içerdiği radikal fikirler ve yeniliklerdendir.

Numaralanmış cümlelerle anlamlı bir metin oluşturulduğunda hangisi baştan üçüncü sırada yer alır?

A) I B) II C) III D) IV E) V

13. (I) Ara sıra, bazı kitaplar diğerlerinden daha çok ilgimizi çeker. (II) Bir sanat eseri keşfetmiş gibi arkadaşlarımıza ve ailemize büyük bir coşkuyla bahsederiz bu kitaplardan. (III) Sadece bahsetmekle kalmaz, herkesin bu kitapları okumasını, bu eşsiz eserden etkilenmesini isteriz. (IV) Ancak, bir gün gelir ve bu kitaplara olan ilgimiz, bir çiçeğin solması gibi, aniden kaybolur ve bu değerli eserleri zihnimizin derin köşelerine kaldırırız. (V) Onları o kadar derin bir şekilde gömeriz ki zihnimizin karmaşık labirentinde nerede olduklarını bir daha hatırlamak, aklımıza bile gelmez. (VI) Bizim için çok önemli olan anılar, hafızamızdaki tazeliğini zamanla kaybeder ve unuturuz onları.

Bu parçadaki numaralanmış cümlelerden hangisi düşüncenin akışını bozmaktadır?

A) II B) III C) IV D) V E) VI

14. Kentsel ekoloji, şehirlerin sürdürülebilir büyümesine ve çevresel dengesine odaklanır. Bu alanda çalışan uzmanlar, şehirlerin ve şehirleri oluşturan kompleks yapıların sağlıklı ve dengeli bir şekilde nasıl işlediğini ve geliştirilebileceğini incelerler. Öte yandan, kültürel ekoloji, toplumların ve kültürlerin çevresel etkilerini ve doğayla ilişkilerini incelemeye adanmıştır. Şehirlerin canlı ekosistemlere benzer şekilde karmaşık ve dinamik olduğunu kabul eden kentsel ekoloji, şehirlerin çevresel etkilerini azaltmayı ve doğal kaynakları daha etkili bir şekilde yönetmeyi hedefler. Sosyal ekoloji ise insan topluluklarının doğal çevreyle olan etkileşimlerini, bilinçlerini ve davranışlarını inceleyen bir bilim dalıdır. Bu toplulukların çevreleri üzerindeki etkilerini anlamaya ve yönlendirmeye çalışır.

Bu parçanın anlatımında aşağıdakilerin hangisinden yararlanılmamıştır?

A) Açıklama B) Tanımlama
C) Karşılaştırma D) İlişki kurma
E) Tanık gösterme

YEDİİKLİM

15. Aristoteles, gözlem ve deneyim odaklı bir yaklaşıma sahipti, bu da onu doğa bilimlerinde öncü yaptı. Duyusal deneyimlerin ve gözlemlerin, bilgi ve anlayışa ulaşmanın anahtarı olduğunu savundu. Ona göre, evren sürekli bir değişim ve hareket içindeydi ve bu hareket, nesnelerin ve canlıların doğasında mevcut olan bir amaca yönelikti. Aristoteles, duyusal algının ve mantığın, dünyayı anlamak için güvenilir araçlar olduğunu düşündü. Ona göre, deneyim yoluyla edinilen bilgi, soyut düşünce ve teorik bilgiden daha somut ve güvenilirdi.

Bu parçada asıl vurgulanmak istenen düşünce aşağıdakilerden hangisidir?

A) Dünyanın sürekli bir değişim içinde olduğunu kabul etmek, bilgi ve anlayışa ulaşmamızı sınırlar.

B) Aristoteles, duyusal deneyim ve gözlemi, bilgiye ulaşmanın tek ve güvenilir yolu olarak görmüştür.

C) Duyusal algı ve mantık yetersizdir; gerçek bilgiye ulaşmak için metafiziksel bir anlayışa ihtiyacımız vardır.

D) Deneyim ve gözlem, dünyayı anlamak için yararlı olabilir ama asıl bilgi soyut düşünce ve mantık yoluyla elde edilir.

E) Aristoteles, evrenin sürekli hareket hâlinde olduğunu ve bu hareketin rastgele olduğunu düşünmüştür.

16. İletişim, insanların birbirleriyle bilgi, duygu ve düşünce alışverişi yapmasını sağlayan bir süreçtir. İletişimde en önemli araçlardan biri dildir. Dil, insanların ortak bir anlaşma sonucu oluşturdukları ve kullandıkları sembolik bir sistemdir. Dil sayesinde insanlar geçmişten gelen bilgileri aktarabilir, gelecekle ilgili planlar yapabilir, hayal güçlerini kullanabilir ve yaratıcılıklarını ortaya koyabilirler. Dilin bu işlevleri, insanların toplumsal yaşamını zenginleştirir ve geliştirir. Ancak dilin iletişimi sağlayabilmesi için bazı kurallara uyulması gerekir.

Bu parçada asıl anlatılmak istenen aşağıdakilerden hangisidir?

A) Dil, sadece anlık iletişim aracı değil, aynı zamanda kültürel mirası gelecek nesillere aktarma işlevine de sahiptir.

B) Dil, insanların toplum içindeki rollerini ve statülerini de ifade etme kapasitesine sahiptir, bu da sosyal dinamikleri şekillendirir.

C) Dilin etkin bir şekilde kullanılabilmesi için belirli eğitim ve bilinç seviyesine ulaşılmış olması esastır.

D) Dilin gelişimi ve değişimi, toplumsal yaşamı ve iletişim şekillerini doğrudan etkiler.

E) Dil, toplumsal yaşamın zenginleşmesinde önemli bir rol oynar ancak bu süreçte dili etkili ve doğru kullanma bilincine ihtiyaç vardır.

17. Dostoyevski, 19. yüzyılın ikinci yarısında yaşamış Rus bir yazardır. Eserlerinde insan ruhunun derinliklerine inen, suç, ceza, vicdan, adalet gibi kavramları işleyen Dostoyevski, dünya edebiyatının en önemli isimlerinden biridir. *Suç ve Ceza, Karamazov Kardeşler, Budala, Yeraltından Notlar* gibi romanlarıyla tanınan Dostoyevski, aynı zamanda bir gazeteci ve siyasi düşünürdür. Yaşadığı dönemin Rusya'sındaki toplumsal ve siyasi sorunlara duyarlı olan Dostoyevski, eserlerinde bu sorunlara da değinmiştir.

Bu parçada anlatılanlara göre, aşağıdakilerden hangisi Dostoyevski'nin eserlerinin ortak bir özelliği <u>değildir</u>?

A) İnsan ruhunun derinliklerine inmesi

B) Suç, ceza, vicdan, adalet gibi kavramları işlemesi

C) 19. yüzyılın toplumsal ve siyasi atmosferinde şekillenen temaları ele alması

D) Gazetecilik ve siyasetle ilgili bilgiler vermesi

E) Yaşadığı dönemin sorunlarına değinmesi

YEDİKLİM

18. Albert Einstein, XX. yüzyılın en önemli fizikçilerinden biri olarak kabul edilir. Genel görelilik kuramını ortaya koyan Einstein, zaman ve uzayın birbirine bağlı olduğunu ve kütleli cisimlerin uzay-zaman dokusunu eğdiğini ileri sürdü. Bu kuramın sonuçlarından biri de kütleçekimsel mercek etkisidir. Bu etkiye göre, büyük kütleli bir cisim ışığın yolunu eğebilir ve arkasındaki daha uzak bir cismin görüntüsünü büyütebilir veya çarpıtabilir. Einstein'ın bu öngörüsü 1919 yılında gerçekleşen bir Güneş tutulması sırasında doğrulandı. Bu olaydan sonra Einstein'ın ünü arttı. Albert Einstein, 1921 yılında Nobel Fizik Ödülü'nü kazandı.

Bu parçada Albert Einstein ile ilgili aşağıdakilerden hangisine değinilmemiştir?

A) Genel görelilik kuramını geliştirdiğine
B) Zaman ve uzayın ilişkisini açıkladığına
C) Kütleçekimsel mercek etkisinin ne olduğuna
D) Güneş tutulmasının kuramını test ettiğine
E) Nobel Fizik Ödülü'nü neden kazandığına

19. Bir müzik eserini dinlerken, bestecinin ruh hâlini ve duygularını anlamaya çalışan dinleyiciler genellikle oldukça iddialıdırlar. Ancak, bu bir yanılsamadır! Dinleyici, bestecinin duygularını anladığını zannederken, aslında o duygular kendi iç dünyasından yansımalar olabilir. Bir sonat dinliyorsunuz. İlk nota çaldığında, bestecinin bu notalar aracılığıyla ifade etmek istediği duygular ne olursa olsun, sizin hissedeceğiniz duygular, kendi yaşamınızın anlarından, deneyimlerinden beslenen ve kendi duygusal reaksiyonlarınızla şekillenen bir yanıt olacaktır.

Bu parçada asıl söylenmek istenen aşağıdakilerden hangisidir?

A) Besteciler, notalar ve melodiler aracılığıyla kendi duygusal dünyalarını ifade ederken dinleyicinin reaksiyonları bu duygusal ifadeleri etkisiz kılar.
B) Dinleyiciler, müziği dinlerken genellikle bestecinin duygusal dünyasına girmekte ve bu sayede kendi duygusal deneyimlerini zenginleştirmektedir.
C) Besteciler, eserlerinde kendi duygusal ve psikolojik deneyimlerini notalara dökerek dinleyicinin duygularını yönlendiren bir etki oluşturur.
D) Dinleyici, müziği dinlerken kendi iç dünyasına bir yolculuk yapar ve bu, bestecinin duygusal ifadesinden çok dinleyicinin kendi duygusal yanıtlarını yansıtır.
E) Bestecinin müziği, dinleyicinin duygusal ve psikolojik deneyimlerini dönüştürme kapasitesine sahiptir ve bu, müziğin en temel işlevlerinden biridir.

20. Sanatçılarımız gözlerini dünyaya henüz açmamış durumdadırlar. Yalnız romanlarını yazmakla işlerinin bittiğini sanıyorlar. Oysa dünya işleriyle, toplum meseleleriyle, politikayla uğraşmaları, insan içine çıkmaları gerekmektedir. Bu yönlerini gazete sayfalarında göstermek zorundadırlar. Bizde sanatçılar, bu çeşit işleri hor görmekte ya da bunlarla uğraşmaktan çekinmektedirler. Ama halkın sanatçıya ilgi gösterebilmesi için, sanatçının kendi meseleleriyle dertlendiğini bilmesi gerekiyor. Yani günümüz sanatçısı, dünya meselelerine, toplum meselelerine kapalı duramaz. İlgi çekmesi, önemini topluluklara duyurabilmesi için, böyle meselelere el atmalıdır.

Aşağıdakilerden hangisi bu parçada dile getirilen düşünceyle çelişir?

A) Sanatçı toplumda yaşanan her sıkıntıyı içinde duyar.
B) Estetik perspektif, bir eserin güncel politik konulara mesafeli olmasını zorunlu kılar.
C) Bir yazar güncel meselelere ilişkin tavrını ortaya koymalıdır.
D) Sanatçı, yayın organları aracılığıyla topluma seslenmeyi sürdürür.
E) Toplum, kendi sorunlarına ayna tutan yazarları benimser.

YEDİİKLİM

21-22. soruları aşağıdaki parçaya göre cevaplayınız.

Psikolojide "uyku öğrenmesi" olarak adlandırılan uyku sırasında öğrenilen bilgilerin pekiştirilmesi, tam bir muammadır. Uyku öğrenmesinde öğrenilen bilgilerin uykudan sonra daha iyi hatırlanması, "unutmanın ikinci temel yasası" ile tezatlık göstermektedir. Bu yasaya göre bir olayın üzerinden ne kadar uzun zaman geçmişse olayın hatırlanma ihtimali de o kadar azdır. Ancak uyku öğrenmesinde durum tam tersidir. Kişi, uyuduktan sonra daha iyi anımsar. Bu bilgilerin pekiştirilmesi için neden uykuyu seçtiği ise bilimin araştırdığı başka bir muammadır. Uyanıkken, gündüzleri de bunları kolaylıkla pekiştirmeleri gerekmez mi? Neden bu bilgiler, beyin gerçekten dinlenince pekiştiriyor kendini? Sanki bunca yıl boyunca öğrenme yasağı varmış da yasağın kalkması için belli bir süre uyumak gerekiyormuş gibi...

21. Bu parçadan hareketle aşağıdakilerden hangisine ulaşılamaz?

A) Uyku öğrenmesinde, öğrenilen bilgiler genellikle uykudan sonra daha iyi hatırlanır.

B) Unutmanın ikinci temel yasasına göre üzerinden uzun zaman geçen olayların hatırlanması zordur.

C) Uyku sırasında pekiştirilen bilgilerin uyanıkken pekiştirilmemesi, bilimsel açıdan bir merak konusudur.

D) Beyinde yer alan ilk bilgilerin beyin dinlenmeden pekişmesi, dış etkenlere bağlıdır.

E) Uyku öğrenmesinin gerçekleşmesi ancak uykuda, beynin dinlenmesiyle mümkündür.

22. Bu parçadan hareketle aşağıdakilerden hangisi unutmanın ikinci temel yasasına aykırıdır?

A) Bir öğrencinin, bir hafta boyunca her gün çalıştığı matematik formüllerini sınav günü unutması

B) Bir şirket çalışanının, bir projede kazandığı bilgi ve becerilerde birkaç ay sonra daha başarılı olması

C) Bir kişinin, çocukluk arkadaşıyla ilgili anıları zaman geçtikçe daha net bir şekilde hatırlaması

D) Bir kişinin, üniversite yıllarında okuduğu bir kitabın konusunu yanlış hatırlaması

E) Bir kişinin, geçen yaz tatilinde öğrendiği yemek tarifini aynı şekilde uygulayamaması

23-24. soruları aşağıdaki parçaya göre cevaplayınız.

(I) Müzik dinlemenin insan beyni üzerindeki etkileri konusunda yapılan bir araştırmada, katılımcılara farklı türlerde müzikler dinletildi. (II) Katılımcılardan bu müzikleri dinlerken nasıl hissettiklerini ve ne düşündüklerini anlatmaları istendi. (III) Aynı zamanda katılımcıların beyin dalgaları da kaydedildi. (IV) Araştırma sonucunda, katılımcıların müzik türlerine göre farklı duygu ve düşünce durumlarına girdikleri belirlendi. (V) Ayrıca müzik dinlemenin beyin dalgalarını da etkilediği ve bazı müzik türlerinin beyin fonksiyonlarını geliştirdiği görüldü.

23. Bu parçadan, sözü edilen araştırmayla ilgili olarak aşağıdakilerin hangisine ulaşılamaz?

A) Araştırmada kullanılan müzik türlerinin katılımcıların ruh hâllerini değiştirdiğine

B) Katılımcıların beyin dalgaları ile müzik dinlerken oluşan tepkiler arasındaki ilişkiyi anlamak için incelendiğine

C) Araştırmaya katılan her bireyin, aynı müzik türüne benzer duygusal ve zihinsel tepkiler verdiğine

D) Bazı müzik türlerinin katılımcıların beyin fonksiyonlarını olumlu yönde etkilediğine

E) Araştırma sırasında katılımcıların beyin dalgaları ile duygusal tepkileri arasında bir korelasyon tespit edildiğine

24. Bu parçada numaralanmış cümlelerin hangilerinde araştırmanın yöntemi ile ilgili bir bilgi yoktur?

A) I ve II B) I ve III C) II ve IV
D) III ve IV E) IV ve V

YEDİİKLİM

25-26. soruları aşağıdaki parçaya göre cevaplayınız.

Ahmet Hamdi Tanpınar; tarihî evler, eski İstanbul sokakları, melankolik insanlar... tüm bunlar onun eserlerinde bulunan ögelerdir. Ne zaman eski bir konak görsem, ne zaman Boğaziçi'nde dalgaların sesini duysam, Ahmet Hamdi Tanpınar'ın satırları gelir aklıma. Çünkü tarihle iç içe geçen bu kent yaşamını, bu kültürel detayları en zarif şekliyle o dile getirmiştir. Aslında anlattığı, kendi duygusal derinlikleridir. İstanbul'un eski evleri, köprüleri, gemileri onun duygusal dünyasının yansımalarıdır. Bu yansımalar aracılığıyla Tanpınar'ın zamanın hüznüyle kaplı düşüncelerini görebiliriz. Ancak bu düşüncelerinde umutsuzluk değil, bir geçmiş özlemi hâkimdir. Onun bu yaşam anlayışında tek gaye; modernleşen dünyayı geçmişin zarafetiyle buluşturmaktır.

25. Bu parçadan Ahmet Hamdi Tanpınar ile ilgili olarak aşağıdakilerden hangisine değinilmemiştir?

A) Eserlerinde İstanbul'u ve tarihî evleri sıkça işlediğine

B) Melankolik bir ruh hâli içerisinde, eski İstanbul'u modern dünya ile buluşturmayı hedeflediğine

C) Eserlerindeki ögelerin aslında kendi duygusal derinliklerinin yansıması olduğuna

D) Modernleşmenin etkisi altındaki bireylerle ilgili temaları işlerken kullandığı dilin edebiyat çevrelerinde büyük bir yankı uyandırdığına

E) Geçmişe duyduğu özlem ile modern dünyanın getirdiği değişiklikleri eserlerinde ele aldığına

26. Bu parçadaki altı çizili sözle anlatılmak istenen aşağıdakilerden hangisidir?

A) Ahmet Hamdi Tanpınar'ın, modern yaşamın hızına ve karmaşasına karşı, tarihî ve kültürel değerleri koruma arzusunu ifade etmesi

B) Yazarın, yeni ve eski değerler arasında bir köprü kurarak, her iki dünyanın en iyi yanlarını bir araya getirme çabası içinde olması

C) Tanpınar'ın modern teknoloji ve geleneksel yaşam biçimleri arasında bir denge kurarak daha huzurlu ve anlamlı bir yaşam arayışı içinde olması

D) Yazarın, geçmişin estetik ve kültürel değerlerini modern yaşama adapte etme çabası içinde olması

E) Tanpınar'ın, modern toplumun materyalist yaklaşımını, geçmişin manevi ve kültürel değerleriyle zenginleştirerek, daha dengeli bir toplum yapısını savunması

YEDİİKLİM

27-30. soruları aşağıdaki bilgilere göre birbirinden bağımsız olarak cevaplayınız.

Bir yemek şirketinde çalışan Mahir ve Nihat isimli iki aşçı; çarşamba ve perşembe günleri börek, çorba, dolma, kek, kuru fasulye, sarma ve pilav türünde yemekler pişirmişlerdir. Aşçıların pişirdikleri yemekler ve günlerine ilişkin bazı bilgiler şu şekildedir:

- Her bir yemek türü bir defa pişirilmiştir.
- Perşembe toplam üç türde yemek pişirilmiştir.
- Mahir Usta toplam dört türde yemek pişirmiştir.
- Nihat Usta perşembe sadece tek türde yemek pişirmiştir.
- Börek ile kek aynı aşçı tarafından farklı günlerde pişirilmiştir.
- Çorba ile dolma farklı aşçılar tarafından aynı gün pişirilmiştir.
- Kuru fasulye ile pilav çarşamba aynı aşçı tarafından pişirilmiştir.

27. Buna göre

I. börek,

II. çorba,

III. dolma

yemeklerinden hangileri kesin olarak Mahir usta tarafından yapılmıştır?

A) Yalnız I B) Yalnız II C) I ve II
D) II ve III E) I, II ve III

28. Buna göre

I. kek,

II. kuru fasulye,

III. sarma

yemeklerinden hangilerinin hem pişirildiği gün hem bu yemekleri pişiren usta kesin olarak bilinmektedir?

A) Yalnız I B) Yalnız II C) I ve II
D) I ve III E) II ve III

29. Mahir Usta'nın çorba pişirdiği biliniyorsa aşağıdakilerden hangisi kesin olarak yanlıştır?

A) Böreği Mahir Usta pişirmiştir.

B) Pilavı Mahir Usta pişirmiştir.

C) Keki Mahir Usta pişirmiştir.

D) Sarmayı Mahir Usta pişirmiştir.

E) Dolmayı Nihat Usta pişirmiştir.

30. Hangi yemeğin hangi aşçı tarafından hangi gün pişirildiğinin tam olarak bilinebilmesi için aşağıdaki bilgilerden hangisi yeterlidir?

A) Kuru fasulye ile sarmanın aynı gün farklı aşçılar tarafından pişirildiği

B) Pilav ile böreğin aynı gün aynı aşçılar tarafından pişirildiği

C) Çorba ile kekin aynı gün farklı aşçılar tarafından pişirildiği

D) Dolma ile sarmanın aynı gün aynı aşçılar tarafından pişirildiği

E) Sarma ile böreğin aynı gün farklı aşçılar tarafından pişirildiği

YEDİİKLİM

31. $\dfrac{\left(\frac{1}{4}+\frac{3}{2}\right)^{-2}}{1+\frac{1}{7}}$

işleminin sonucu kaçtır?

A) $\frac{1}{7}$ B) $\frac{3}{7}$ C) $\frac{2}{7}$ D) $\frac{4}{7}$ E) $\frac{5}{7}$

32. $\dfrac{4^3-(-3^2)-(-2)^2}{(-2^2)-(-3)^3}$

işleminin sonucu kaçtır?

A) 2 B) 3 C) 6 D) 5 E) 4

33. A, B ve C birer rakam olmak üzere,

$$\begin{array}{r} ABC \\ +\ \ AB \\ \hline 38B \end{array}$$

toplama işlemine göre A . B çarpımı kaçtır?

A) 15 B) 12 C) 18 D) 20 E) 16

34. 3 basamaklı BAA sayısı 3'e, üç basamaklı BAB doğal sayısı 5 ile tam bölünüyor. Üç basamaklı BAA doğal sayısının 8'e bölümünden kalan 4'tür.

Buna göre A . B çarpımı kaçtır?

A) 30 B) 42 C) 40 D) 36 E) 45

35. a, b ve c birer tam sayı olmak üzere,

- a . b çift sayı
- a + c tek sayı
- b + c tek sayı

olduğu biliniyor.

Buna göre,

I. a tek sayıdır.

II. b çift sayıdır.

III. c çift sayıdır.

ifadelerinden hangileri doğrudur?

A) Yalnız I B) Yalnız II C) Yalnız III
D) I ve II E) II ve III

36. $\dfrac{22,22}{0,3-0,08}-\dfrac{4,04}{0,04}$

işleminin sonucu kaçtır?

A) 5 B) 3 C) 1 D) 0 E) 2

YEDİİKLİM

37. $\frac{\sqrt{8}+\sqrt{18}}{\sqrt{3}} - \frac{\sqrt{32}}{\sqrt{12}}$

işleminin sonucu kaçtır?

A) 6 B) $\sqrt{6}$ C) $\sqrt{3}$ D) $\sqrt{2}$ E) 2

38. $2^{x+1} = 36$ **olduğuna göre,**

$\frac{6^x - 3^{x+2}}{3^{x-1}}$

ifadesinin sonucu kaçtır?

A) 24 B) 30 C) 18 D) 21 E) 27

39. x, y ve z birer asal sayı olmak üzere,

$x \cdot y < y \cdot z < x \cdot z$

olduğuna göre x . y . z çarpımı en az kaçtır?

A) 30 B) 105 C) 50 D) 42 E) 70

40. Sıfırdan farklı x ve y gerçel sayıları için

$|x.y| = -3.y$

$\left|\frac{x}{y}\right| = 2.x$

eşitlikleri veriliyor.

Buna göre, x + y toplamı kaçtır?

A) $\frac{7}{2}$ B) 3 C) $\frac{5}{2}$ D) 2 E) $\frac{1}{2}$

41. a, b ve c pozitif tam sayılar

$a^2 - b^2 = 13$

$a^2 - c^2 = 24$

olduğuna göre a + b + c toplamı kaçtır?

A) 12 B) 18 C) 16 D) 20 E) 14

42. İki basamaklı AB sayısının sağına ve soluna aynı rakam yazıldığında elde edilen dört basamaklı doğal sayı iki basamaklı AB sayısının 87 katına eşit oluyor.

Buna göre A + B en az kaçtır?

A) 5 B) 6 C) 4 D) 7 E) 8

YEDİİKLİM

43. a ve b pozitif gerçel sayıları için

$$\frac{a-b}{a\sqrt{b}-b\sqrt{a}}=\frac{3}{\sqrt{b}}$$

eşitliği sağlanıyor.

Buna göre $\frac{a}{b}$ oranı kaçtır?

A) $\frac{1}{2}$ B) $\frac{1}{4}$ C) 2 D) 4 E) 1

44. Gerçel sayılar kümesi üzerinde tanımlı f ve g fonksiyonları

$(f+g)(a)=a^3$

$(f-g)(2a)=4a$

eşitlikleri sağlanıyor.

Buna göre f(2) . g(2) çarpımı kaçtır?

A) 16 B) 12 C) 14 D) 10 E) 18

45. Rakamlarından biri diğer iki rakamın toplamına eşit olan üç basamaklı rakamları sıfırdan ve birbirinden farklı doğal sayılara "toplamsal" sayı denir.

Buna göre en büyük toplamsal sayı ile en küçük toplamsal sayının farkı kaçtır?

A) 866 B) 842 C) 858 D) 880 E) 872

46.

	Belediye otobüsü	Minibüs
Oturan yolcu sayısı	22	18
Ayakta yolcu sayısı	38	12

Yukarıda bir belediye otobüsü ile bir minibüsün yolcu kapasiteleri gösterilmektedir. Bir gezi grubunu taşıması için önce belediye otobüsü sonra minibüs çağrılıyor. Gruptaki yolcuların araçlara bindirilmeleri ile ilgili aşağıdakiler bilinmektedir.

- Yolcular araçlara sırayla bindirilecektir.
- Otobüs tam kapasitesi ile dolmadan minibüse yolcu alınmayacaktır.
- Bir araçtaki koltuklar dolmadan bu araca ayakta yolcu alınmayacaktır.

Gezi grubunda 80 yolcu bulunduğuna göre, kaç yolcu ayakta seyahat etmek durumunda kalır?

A) 32 B) 24 C) 20 D) 38 E) 40

47. Bir balcı, 20 kg saf bala 5 kg şeker kattıktan sonra elde ettiği şekerli balın 1 kilogramını, 1 kg saf balın alış fiyatından satıyor.

1 kg saf balın alış fiyatı, 1 kg şekerin alış fiyatının 6 katına eşit olduğuna göre, balcının bu satıştan elde ettiği kâr yüzde kaçtır?

A) 20 B) 25 C) 30 D) 32 E) 48

YEDİİKLİM

48. Tarık, bir haftalık harçlığını 5 güne eşit bölerek harcamayı planlıyor. Ancak harcamasını planladığından; ilk gün %35, ikinci gün de %40 fazla yapıyor. Kalan üç gün eşit harcama yapıyor.

Buna göre, Tarık'ın son üç günün her birindeki harcaması, başlangıçta planladığı bir günlük harcamasının yüzde kaç eksiğine eşittir?

A) 10 B) 15 C) 20 D) 25 E) 35

49.



Enes, evden okula yürüyerek 8 dakikada, koşarak 5 dakikada gidebiliyor. Dersin başlamasına 10 dakika kala evden çıkıp yürüyerek okula gitmek isteyen Enes yolun tam ortasına geldiğinde matematik defterini evde unuttuğunu fark edip koşarak eve dönüyor. Evden defteri alıp çıkması yarım dakika sürüyor ve tekrar koşarak okula gidiyor.

Buna göre, Enes derse kaç dakika geç kalmıştır?

A) 3 B) 2,5 C) 2 D) 1,5 E) 1

50. Mehmet'in oyuncak arabası en az ikisi dolu olan 3 pille çalışmaktadır. Mehmet; 3'ü dolu, 3'ü boş olan toplam 6 pil arasından rastgele üçünü seçerek oyuncak arabasına takmıştır.

Buna göre, Mehmet'in oyuncak arabasının çalışma olasılığı kaçtır?

A) $\frac{1}{2}$ B) $\frac{1}{4}$ C) $\frac{1}{3}$ D) $\frac{1}{6}$ E) $\frac{1}{5}$

51.

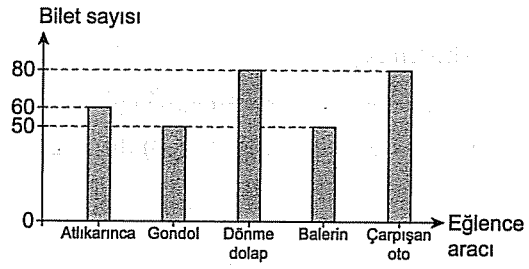

Yukarıdaki grafikte bir lunaparkta bulunan eğlence araçlarının ayın ilk haftasındaki bilet satış sayıları gösterilmiştir. İkinci hafta, bu eğlence araçlarının ilk haftaya göre bilet satışlarındaki değişim aşağıdaki grafikte verilmiştir.

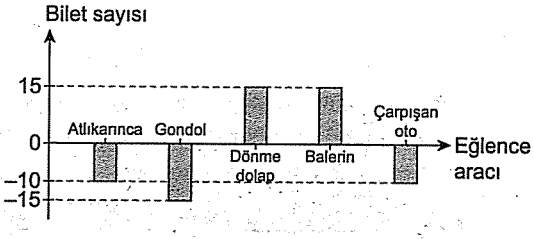

Buna göre, lunaparktaki tüm eğlence araçlarının ikinci hafta bilet satış ortalaması kaçtır?

A) 65 B) 63 C) 62 D) 60 E) 58

YEDİKLİM

52-53. soruları aşağıdaki bilgilere göre birbirinden bağımsız olarak cevaplayınız.

Aşağıda A, B ve C ülkelerinin meclislerinde yer alan kadın milletvekili sayısının, o ülkenin meclisindeki toplam milletvekili sayısına oranı yüzde olarak sütun grafiğinde, bu üç ülkenin milletvekillerinin sayıca dağılımı ise daire grafiğinde gösterilmiştir.

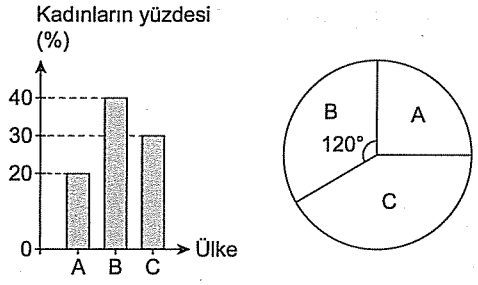

52. Bu ülkelerdeki meclislerde bulunan toplam milletvekili sayısı 450 olduğuna göre B ülkesindeki kadın milletvekili sayısı kaçtır?

A) 24 B) 60 C) 48 D) 30 E) 36

53. A ülkesindeki kadın milletvekili sayısı 30 ve C ülkesindeki toplam milletvekili sayısı 300'dür.

Buna göre, B ülkesindeki kadın milletvekili sayısı kaçtır?

A) 96 B) 64 C) 84 D) 72 E) 90

54-56. soruları aşağıdaki bilgilere göre birbirinden bağımsız olarak cevaplayınız.

Mehmet Öğretmen, tahtaya rakamları 5'ten büyük veya eşit olan üç basamaklı bir doğal sayı yazıyor. Daha sonra;

- Bilge 16 . A + 4 . B + C toplamını hesaplayıp bulduğu sayıyı (x) ile gösteriyor.
- Yıldız ise 25 . A + 5 . B + C toplamını hesaplayıp bulduğu sayıyı (y) ile gösteriyor.

Örneğin; Mehmet Öğretmen, tahtaya 567 sayısını yazıyor.

Bilge'nin bulduğu sayı (x) = 16 . 5 + 4 . 6 + 7 = 111 ve

Yıldız'ın bulduğu sayı (y) = 25 . 5 + 5 . 6 + 7 = 162 oluyor.

54. Buna göre Mehmet Öğretmen tahtaya 675 sayısını yazarsa Bilge ve Yıldız'ın bulduğu sayıların toplamı kaçtır?

A) 302 B) 276 C) 319 D) 306 E) 288

55. Mehmet Öğretmen tahtaya ABC sayısını yazdıktan sonra Yıldız'ın bulduğu sayı

(y) = 221

olduğuna göre A + B + C toplamı kaçtır?

A) 17 B) 14 C) 16 D) 13 E) 15

56. Mehmet Öğretmen tahtaya ABC sayısını yazdıktan sonra Bilge'nin bulduğu sayı ile Yıldız'ın bulduğu sayının farkı;

(y) − (x) = 78

olduğuna göre A . B çarpımı kaçtır?

A) 81 B) 45 C) 72 D) 48 E) 54

YEDİİKLİM

57.

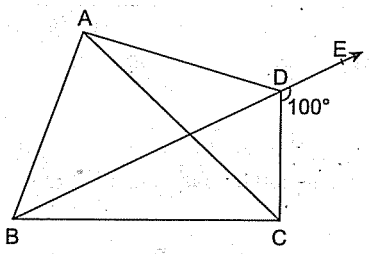

ABC eşkenar üçgen

$|AC| = |BD|$

$m(\widehat{CDE}) = 100°$

olduğuna göre $m(\widehat{CAD})$ kaç derecedir?

A) 5 B) 10 C) 15 D) 20 E) 30

58.

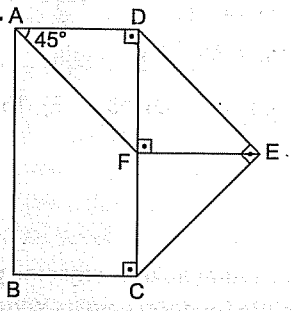

ABCD dikdörtgeninde

$[DE] \perp [CE]$

$[FE] \perp [DC]$

$m(\widehat{DAF}) = 45°$

$A(ABCD) = 64$ br^2

olduğuna göre $|DE|$ kaç birimdir?

A) $2\sqrt{2}$ B) $4\sqrt{3}$ C) $2\sqrt{7}$ D) $8\sqrt{2}$ E) 8

59.

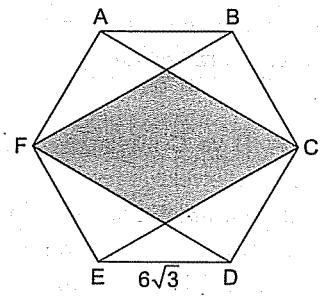

Şekildeki düzgün altıgenin bir kenarı $6\sqrt{3}$ br ise taralı alan kaç brimkaredir?

A) 45 B) $36\sqrt{3}$ C) 54 D) $72\sqrt{3}$ E) 96

60.

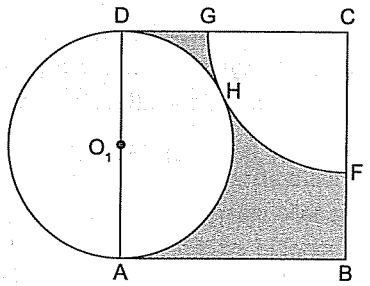

ABCD dikdörtgen

O_1 merkezli çember ve C merkezli çeyrek çember verilmiştir.

$|AD| = 10$ br

$|DC| = 12$ br

olduğuna göre taralı alan kaç birimkaredir?
($\pi = 3$)

A) $\frac{45}{2}$ B) $\frac{47}{2}$ C) $\frac{69}{2}$ D) $\frac{81}{2}$ E) $\frac{89}{2}$

YEDİİKLİM

Genel Yetenek testi bitti.
Genel Kültür testine geçiniz.

Bu testte 60 soru vardır.

1. İslam öncesi Türk devletlerinde ikili yönetim anlayışının uygulanmasında;

I. ülkenin hanedanın ortak malı sayılması,

II. sınırların genişlemesi,

III. yönetimin kolaylaştırılmak istenmesi

durumlarından hangileri etkili olmuştur?

A) Yalnız I B) Yalnız III C) I ve III
D) II ve III E) I, II ve III

2. XIII. yüzyıldan itibaren artan Moğol baskılarına karşı Türkiye Selçuklularının aldığı önlemler arasında aşağıdakilerden hangisi yer almaz?

A) Ordularında ücretli askerlere yer vermeleri

B) Eyyûbiler ile akrabalık yolu ile ittifak kurmaya çalışmaları

C) Doğudaki kale ve surları tamir etmeleri

D) Harzemşahlar ile iş birliğini amaçlamaları

E) Danişment Beyliği'ne son vermeleri

3. Karahanlılar düzenli bir posta teşkilatı kurmuş, kervansaray ve hastaneler inşa etmişlerdir. Bunlara ilaveten Türk-İslam kültürüne ait yazılı eserler de ortaya koymuşlardır.

Bu bilgilerden hareketle Karahanlılar ile ilgili;

I. sosyal kurumlar oluşturdukları,

II. ticareti geliştirmek istedikleri,

III. inanç özgürlüğünü sağladıkları

yargılarından hangilerine ulaşılamaz?

A) Yalnız I B) Yalnız II C) Yalnız III
D) I ve II E) II ve III

4. Osmanlı Devleti'nde XV ve XVI. yüzyıllarda görülen;

I. Buçuktepe,

II. Şah Kulu,

III. Şeyh Bedrettin

isyanlarından hangileri "dinî karakter" taşımaktadır?

A) Yalnız I B) Yalnız II C) Yalnız III
D) II ve III E) I, II ve III

5. I. Süleyman Dönemi'nde Turgut Reis'in şehit düşmesi üzerine başarısızlıkla sonuçlanan kuşatma aşağıdakilerden hangisidir?

A) Malta B) Rodos C) Cezayir
D) Kıbrıs E) Otronto

6. Sokullu Mehmet tarafından ortaya konulan Don-Volga kanal projesinin amaçları arasında aşağıdakilerden hangisi yer almaz?

A) İpek Yolu'nu tekrar canlandırma

B) Orta Asya Türkleri ile bağlantı kurma

C) Coğrafi Keşiflerin olumsuzluklarını giderme

D) Rusya'nın ilerleyişini kontrol etme

E) Bizans İmparatorluğu'nun tekrar canlanmasını önleme

7. Osmanlı Devleti'nde nakit ihtiyacını karşılamak adına vergi gelirlerinin ihale yolu ile nakit para karşılığında kişilere devredilmesi uygulaması aşağıdakilerden hangisidir?

A) İltizam B) Müsadere C) Kul
D) Dirlik E) Çıkma

YEDİİKLİM

Diğer sayfaya geçiniz.

8. • İltizam sisteminin yaygınlaşması
• Dirlik dağıtımında usulsüzlüklerin görülmesi
• Yerel yöneticilerin kanunlara aykırı vergiler toplaması

Osmanlı Devleti'nde XVII. yüzyılda görülen yukarıdaki gelişmelerin;

I. tımar sisteminin bozulması,
II. halkın yönetime olan bağlılığının azalması,
III. Yeniçeri isyanlarının görülmesi

durumlarından hangilerine ortam hazırladığı söylenebilir?

A) Yalnız I B) Yalnız II C) I ve II
D) I ve III E) II ve III

9. **Osmanlı Devleti'nin doğuda en geniş sınırlarına ulaşması aşağıda verilen hangi antlaşmanın sonucunda gerçekleşmiştir?**

A) Ferhat Paşa Antlaşması
B) Kasr-ı Şirin Antlaşması
C) Amasya Antlaşması
D) Nasuh Paşa Antlaşması
E) Bucaş Antlaşması

10. **XIX. yüzyılda Osmanlı Devleti'nde görülen;**

I. Tanzimat Fermanı'nın ilanı,
II. Sened-i İttifak'ın imzalanması,
III. Kanunuesasi'nin yürürlüğü girmesi

gelişmelerinden hangileri ile padişahın yetkilerinin kısıtlandığı ileri sürülebilir?

A) Yalnız I B) Yalnız II C) I ve II
D) II ve III E) I, II ve III

11. **II. Mahmut Dönemi yenilik hareketleri arasında aşağıdakilerden hangisi yer almaz?**

A) Sadaret Kaymakamlığının Dahiliye Nezaretine dönüştürülmesi
B) Kabine sistemine geçilmesi
C) İlköğretimin zorunlu hâle getirilmesi
D) Nizam-ı Cedit birliklerinin oluşturulması
E) Muhtarlıkların kurulması

12. 1869 yılında Süveyş Kanalı'nın açılması ile Akdeniz limanları yeniden canlanmıştır.

Bu süreçte sömürge güvenliğini sağlamak ve etkinliğini arttırmak isteyen İngiltere, 1882 yılında Osmanlı Devleti'ne ait aşağıdaki bölgelerden hangisini işgal etmiştir?

A) Mısır B) Cezayir C) Tunus
D) Libya E) Kıbrıs

13. **Balkan devletlerinin Bulgaristan'a saldırmasından yararlanmak isteyen Osmanlı Devleti aşağıdaki bölgelerden hangisini II. Balkan Savaşı sonucunda tekrar almayı başarmıştır?**

A) Selanik B) Girit
C) Edirne D) Arnavutluk
E) Makedonya

14. **İtilaf Devletlerinin kendi aralarında imzaladıkları Osmanlı Devleti'ni paylaşım tasarılarına aşağıdakilerden hangisi örnek gösterilemez?**

A) Mac Mahon Antlaşması
B) Boğazlar Antlaşması
C) Petrograd Protokolü
D) Nöyyi Antlaşması
E) Sykes Picot Antlaşması

YEDİİKLİM

15. • Birinci Dünya Savaşı'nın süresinin uzaması
• İstanbul'un işgalinin önlenmesi

Yukarıdaki gelişmeler aşağıda verilen hangi cephenin sonuçları ile ilgilidir?

A) Kafkas B) Çanakkale C) Irak
D) Kanal E) Suriye

16. Erzurum ve Sivas kongrelerinin ortak kararları arasında aşağıdakilerden hangisi yer almaz?

A) Mandanın reddi
B) Mebusan Meclisinin açılması
C) Millî sınırların çizilmesi
D) Temsil Heyetinin tüm ülkeden sorumlu tutulması
E) Azınlıklara bütünlüğü bozucu haklar verilmemesi

17. Heyet-i Temsiliye Dönemi'nde;

I. Ali Fuat Paşa'nın Batı Cephesi komutanlığına atanması,
II. Amasya Protokollerinin imzalanması,
III. Pozantı Kongresi'nin toplanması

gelişmelerinden hangileri yaşanmıştır?

A) Yalnız I B) I ve II C) I ve III
D) II ve III E) I, II ve III

18. Çukurova ve çevresinde direniş gösteren Kuvayımilliye birlikleri aşağıda verilen hangi cemiyetle koordineli olarak faaliyetlerine devam etmiştir?

A) Trakya-Paşaeli
B) Kilikyalılar
C) Trabzon Muhafaza-i Hukuk
D) Menteşeliler
E) Sulh-i Selamet-i Osmani

19. Mustafa Kemal Millî Mücadele Hazırlık Dönemi'nde "millî egemenlik" anlayışının yerleşmesi için de çaba harcamıştır.

Bu duruma kanıt olarak;

I. kongrelere katılarak delegelerin seçimle belirlenmesi,
II. Mebusan Meclisinin açılması kararının alınması,
III. saltanat makamına dolaylı olarak karşı çıkılması

gelişmelerinden hangileri gösterilebilir?

A) Yalnız I B) Yalnız III C) I ve III
D) II ve III E) I, II ve III

20. Aşağıdakilerden hangisi I. TBMM Dönemi'nde gerçekleşmiştir?

A) Medreselerin kapatılması
B) Saltanatın kaldırılması
C) Ankara'nın başkent ilan edilmesi
D) Cumhuriyetin ilanı
E) Takrir-i Sükûn Kanunu'nun çıkarılması

YEDİİKLİM

21. Eskişehir-Kütahya Savaşlarının ardından çıkarılan Tekâlif-i Milliye Emirleri'nin;

I. düzenli ordunun ihtiyaçlarını karşılama,

II. topyekûn bir hareket başlatma,

III. Ermenilere karşı Türk ordusunu güçlü hâle getirme

amaçlarından hangilerine yönelik olduğu söylenebilir?

A) Yalnız I B) Yalnız II C) I ve II
D) I ve III E) II ve III

22. Mudanya Ateşkes Antlaşması ile TBMM'nin;

I. İzmir,

II. Edirne,

III. Antep

bölgelerinden hangilerinde diplomasi yoluyla kazanım elde ettiği ileri sürülebilir?

A) Yalnız I B) Yalnız II C) Yalnız III
D) I ve III E) II ve III

23. 1926'da kabul edilen Kabotaj Kanunu ile aşağıdakilerden hangisi ilişkilendirilemez?

A) Bağımsız ekonominin güçlenmesi

B) Ülkedeki millî tersane sayısının artması

C) Denizlerdeki ayrıcalıklara son verilmesi

D) Ülkeye yabancı sermayenin girişinin yasaklanması

E) Denizcilik alanında ulusal sermayenin artması

24. Mustafa Kemal'in "Kırk asırlık Türk yurdu düşman eline bırakılamaz." **sözü aşağıda verilen hangi ilke ile doğrudan bağlantılıdır?**

A) Milliyetçilik B) Cumhuriyetçilik
C) Laiklik D) Halkçılık
E) İnkılapçılık

25. Almanya'nın yaklaşık 3,5 milyon Alman'ın yaşadığı Çekoslovakya'nın Südet bölgesini işgal etmesine İngiltere'nin sessiz kalması aşağıdaki politikalardan hangisi ile ilgilidir?

A) Bizim Deniz B) Yatıştırma
C) Hayat Sahası D) Monroe Doktrini
E) Yalnızlık

26. Türkiye Devleti'nin 1952 yılında NATO'ya üye olarak aşağıdakilerden hangisini amaçladığı söylenemez?

A) Toprak bütünlüğünü güvence altına almak

B) Dünya barışına katkıda bulunmak

C) Batı Bloku'na yakın olmak

D) Dünya siyasetinde etkin olmak

E) Boğazlarda komisyonun kaldırılmasını sağlamak

27. SSCB'nin dağılması ile birlikte;

I. Avrupa Ekonomik Topluluğu,

II. Bağımsız Devletler Topluluğu,

III. Varşova Paktı

teşkilatlarından hangileri geçerliliğini kaybetmiştir?

A) Yalnız I B) Yalnız II C) Yalnız III
D) I ve II E) I ve III

28. Türkiye'nin Dünya üzerinde bulunduğu coğrafi konumuna göre şekillenen jeopolitik konumu dikkate alındığında ülkemizin denizlerle çevrili olmasının

- Riskli yönü, üç tarafı denizlerle çevrili bir ülkenin denizden gelebilecek tehditlere açık olması savunmayı güçleştirir.
- Güçlü yönü, İstanbul ve Çanakkale boğazlarının hâkimiyetinin elinde bulunması, herhangi bir çatışma ortamında boğazları savaş gemilerinin geçişine kapatabilmesidir.

Bu iki örnekten yola çıkarak, Türkiye'nin jeopolitiğinin güçlü ve riskli yönüne aşağıdakilerden hangisi örnek olarak gösterilemez?

A) Hazar bölgesi doğal gazının ülkemiz üzerinden geçen boru hatlarıyla Avrupa'ya aktarılması

B) Bulunduğu coğrafyada güçlü bir orduya sahip olması, çatışma bölgelerinden ülkemizi uzak tutması

C) Çevresindeki ülkelerde çok sık çatışma yaşanması, kaos ortamının bu bölgelerde yaygın olması

D) Tersiyerde oluşmuş zengin linyit yataklarına sahip olması

E) Fırat ve Dicle gibi önemli akarsuların kullanımında çevre ülkeler ile sorun yaşanması

29. Doğal çevre ile insan sürekli etkileşim hâlindedir.

Aşağıdakilerden hangisi ülkemizde doğal çevrenin insan ve faaliyetlerine etkisine örnek gösterilemez?

A) Erzurum-Kars yöresinde kar yağışının yoğun olmasına bağlı olarak dik çatılı evlerin yaygın olması

B) Kurak bölgelerde çoğunlukla tahıl tarımının yaygın olması

C) Çayır olan yerlerde büyükbaş hayvancılık, dikenli ot ve çalılıkların yaygın olduğu alanlarda kıl keçisi yetiştiriciliğinin yoğun şekilde görülmesi

D) Amik Gölü'nün kurutularak tarım alanına dönüştürülmesi

E) Çoruh Nehri üzerinde rafting sporunun gelişmesi

30.

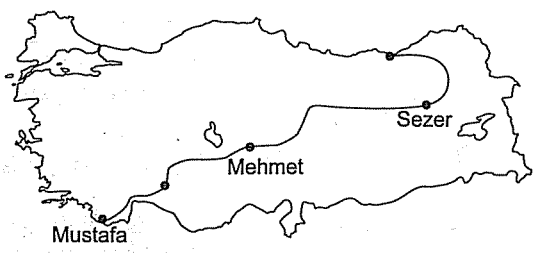

Üniversitede sınıf arkadaşı olan üç gezginin memleketleri haritada işaretlenerek gösterilmiştir. Bu üç gezgin ve araştırmacı genç Karadeniz kıyısında buluşarak haritadaki güzergâh boyunca hareket edip, Akdeniz kıyısında gezilerine Mustafa'nın memleketinde son vereceklerdir.

Buna göre bu güzergâh boyunca yaşanan ve bu gençlerin görebileceği alanların bilgisinin verildiği aşağıdaki cümlelerden hangisinin doğru olduğu söylenemez?

A) Geziye başladıkları noktada mikroklima alan olduğu için turunçgil bahçelerini ziyaret etmiş ve çok şaşırmışlardır.

B) Sezer'in memleketi Erzurum'dur. Arkadaşlarını Çifte Minareli Medreseye götürerek tarihî bir merkez ile geziye zenginlik katmıştır.

C) Mehmet'in memleketi Kapadokya'dır. Peribacalarının volkanik arazide akarsuların etkisiyle oluştuğunu vurgulamıştır.

D) Konya'dan Antalya'ya geçerken Alacabel Geçidi'nde mola vermişlerdir. Buraya tünel yapıldığını öğrenen gençler ulaşımın tüneller ile nasıl kolaylaştığını anlamışlardır.

E) Mustafa'nın memleketi Antalya Kaş'tır. Mustafa buranın ria kıyı tipi olduğunu arkadaşlarına anlatarak geziyi sonlandırmıştır.

YEDİİKLİM

31. Rüzgârların oluşturduğu şekiller denizden uzak bitki örtüsünün cılız olduğu düz sahalarda yaygındır. Ülkemizde bu şekillerin en yaygın olduğu bölge İç Anadolu'dur.

RÜZGÂRLAR

Aşınım	Birikim
1. Mantar kaya	6. Kıyı kumulları
2. Şahit kaya	7. Lös
3. Tafoni	8. Barkan
4. Yardang	
5. Hamada	

Ülkemizde çölleşme izleri görülse de tam anlamıyla geniş alanlarda çöl denilebilecek sahalar yer almaz.

Buna bağlı olarak yukarıda yer alan aşındırma ve biriktirme şekillerinden hangilerinin ülkemizde yer alması beklenmez?

A) 1, 6 ve 7 B) 4, 5 ve 8
C) 2, 3 ve 6 D) 4, 5 ve 7
E) 3, 5 ve 8

32. Ülkemizde kalker (kireç taşı) ve jips alçı taşından oluşan karstik araziler yaygındır.

Aşağıdakilerden hangisi, karstik arazilerin özellikleri arasında yer almaz?

A) Doğal bitki örtüsünün cılız olması
B) Yer altı sularının oluşturduğu erime şekillerinin yaygın olması
C) Toprak kaymalarının sıklıkla yaşanması
D) Yüzeyde kuraklık, yer altında kaynak suları yönünden zengin olması
E) Bu arazilerde akan akarsuların iklim faktöründen bağımsız debilerinde düşüş yaşanması

33.

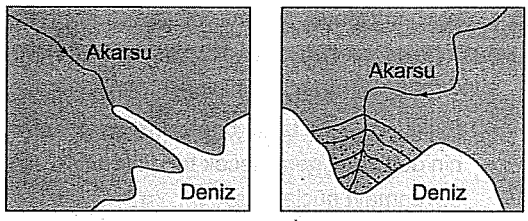

Şekil I Şekil II

Yukarıdaki görselde ülkemizde akarsuların denize döküldüğü ağız kısmında oluşan iki farklı kıyı tipi gösterilmiştir.

Bu kıyı tiplerinin oluşum şekli düşünüldüğünde aşağıdakilerden hangisinin doğru olduğu söylenemez?

A) Şekil II'de yer alan kıyı tipi Ege Bölgesi kıyılarında yaygın olarak görülür.
B) Şekil I'de deniz suları akarsuyun ağız kısmını kalıcı olarak istila etmiştir.
C) Şekil I'e örnek İstanbul haliçidir.
D) Şekil II'de akarsu biriktirmesinin arttığı sığ kıyı özelliği belirgindir.
E) Şekil I'de taşınmış topraklardan oluşan verimli tarım arazileri yer alır.

34. Ülkemizde bir bölgede yaşanan yıkıcı etkiye sahip deprem sonucunda, aynı sahada bu duruma bağlı olarak aşağıdaki afetlerden hangisinin de yaşanması beklenmez?

A) Yangın B) Sel ve taşkın
C) Erozyon D) Çığ
E) Heyelan

YEDİİKLİM

35. KPSS'ye hazırlanan Nigâr, sınıf arkadaşı Emre'ye aşağıdaki soruyu sormuştur.



Nigâr'ın sorusuna, Emre'nin verdiği doğru cevap aşağıdakilerden hangisidir?

A) Karstik araziler sadece Akdeniz Bölgesi'nde görülür.

B) Volkanik araziler görülür, örnek Karacadağ volkanik koni dağıdır ancak karstik arazi görülmez.

C) Konya'da Kızören ve Timraş karstik göllerdir fakat volkanik arazi bu il sınırlarında yer almaz.

D) Konya eski bir deniz kalıntısı olan tuz kaynakları zengin bir sahada oluşmuş, o yüzden karstik arazi de volkanik arazi de yer almaz.

E) Son dönemlerde sıkça görülen obruk oluşumu karstik arazilerin varlığının, Meke Gölü ise volkanik arazi görüldüğünün kanıtıdır.

36. Aşağıdaki haritada ülkemizi etkileyen bazı rüzgârlar ve etkili oldukları konumları gösterilmiştir.

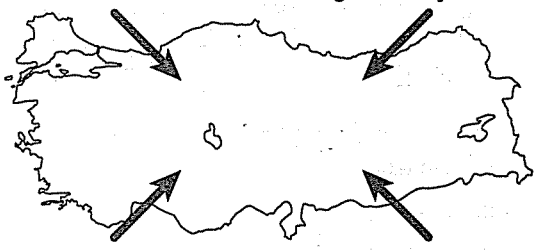

Buna göre bu rüzgârların özelliklerine ilişkin;

I. Kuzeyden gelenler kış mevsiminde kuru soğuk ayaza neden olur.

II. Güneybatıdan etkili olan rüzgâr yamaç yağışlarına neden olur.

III. Güneyli rüzgârlardan güneydoğudan etkili olan kuru sıcak getirir.

IV. Kuzeybatıdan etkili olan rüzgâr yaz mevsiminde kuraklık getirir.

ifadelerinden hangileri yanlıştır?

A) Yalnız I B) I ve II C) I ve IV
D) II ve III E) III ve IV

YEDİKLİM

37. Aşağıda Rize iline ait bir yıl içerisindeki yağışın ve sıcaklık değerlerinin aylık değerleri grafik ile gösterilmiştir.

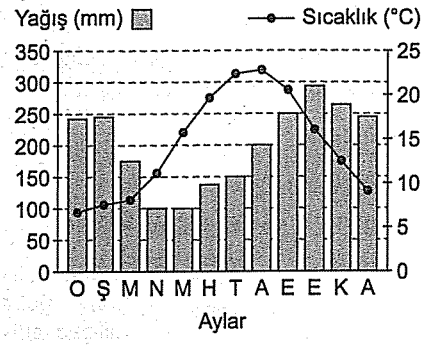

Bu grafiği incelendiğimizde aşağıdaki özelliklerden hangisine ulaşılamaz?

A) En sıcak ay ortalaması 25°C'den düşüktür.

B) Yıllık yağış miktarı 2.000 mm'nin üzerindedir.

C) En fazla yağış sonbahar mevsiminde görülür.

D) İlkbahar kurak dönem olarak değerlendirilebilir.

E) Kışları ılık ve yağışlıdır.

38.

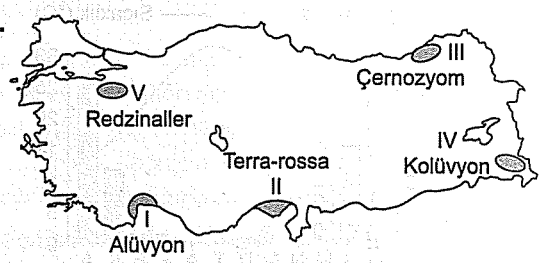

Yukarıdaki haritada ülkemizde bazı toprak türlerinin yaygın olduğu sahalar gösterilmiştir.

İşaretli alanlardan hangilerinin yeri yanlış gösterilmiştir?

A) I ve II B) III ve IV C) II ve III
D) IV ve V E) I ve V

39. Türkiye'de Cumhuriyetin ilanından günümüze kadar nüfus artış hızı dalgalı bir seyir izlemiştir.

İlk nüfus sayımının yapıldığı 1927'den günümüze kadar nüfus artış hızının en düşük ve en yüksek olduğu dönem aşağıdakilerden hangisinde doğru olarak gösterilmiştir?

	En düşük	En yüksek
A)	2020	1960
B)	1945	1965
C)	1927	2023
D)	1980	2022
E)	2020	1945

40. Ülkemizde belirtilen yıllardaki nüfus miktarları ve nüfus artış hızları aşağıda gösterilmiştir.

Yıl	Nüfus	Artış hızı
1960	27.754.820	‰28.53
1965	31.391.421	‰24.62

Buna göre 1960'tan 1965'e nüfus artış hızının hızlı bir şekilde düşmesi;

I. kadının iş hayatında daha fazla yer edinmesi,

II. Avrupa'ya yapılan işçi göçleri,

III. ülkemizde yaşanan siyasi gelişmeler

ifadelerinden hangilerinin sonucunda gerçekleşmiştir?

A) Yalnız I B) I ve II C) Yalnız II
D) II ve III E) I, II ve III

41. Aşağıdaki grafikte Adana'nın aylık ortalama sıcaklık ve yağış grafiği gösterilmiştir.

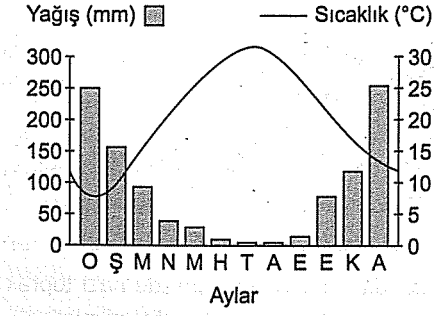

Adana ilinin iklim koşulları düşünüldüğünde aşağıdaki tarım ürünlerinden hangisinin doğal ortam koşullarında yetiştiği söylenemez?

A) Buğday B) Yer fıstığı
C) Sebzeler D) Mısır
E) Pamuk

42. Konya ili ile ilgili aşağıda verilenlerden hangisi diğer dördünün nedenidir?

A) Et ve süt fabrikalarının yaygın olması

B) Sığır yetiştiriciliğinin yaygın olması

C) Hayvan yemi fabrikalarının yaygın olması

D) Şeker fabrikalarının sayısının fazla olması

E) Şeker pancarı tarımının yaygın olması

43. I. Dış ticarette Türk parası kullanımı oldukça fazladır.

II. Dış ticaret açığının temel sebebi enerji kaynaklarının çoğunun ithal edilmesidir.

III. Dış ticarette en fazla deniz yolu kullanılmaktadır.

IV. Günümüzde ihracatın çoğu AB ülkelerine yapılmaktadır.

Türkiye'nin ticaret özellikleriyle ilgili olarak verilen yukarıdaki bilgilerden hangilerinin yanlış olduğu söylenebilir?

A) Yalnız I B) I ve II C) III ve IV
D) Yalnız IV E) I ve III

YEDİKLİM

44.

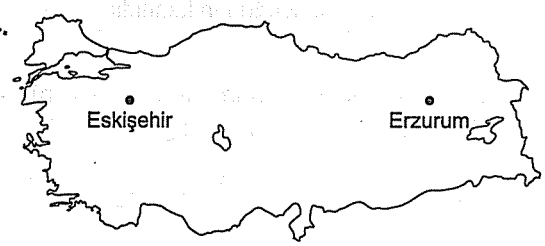

Yukarıdaki iki merkezde;

I. lüle taşı,

II. oltu taşı,

III. kaya tuzu

madenlerinden hangileri çıkarılmaktadır?

A) Yalnız I B) Yalnız II C) I ve II
D) I ve III E) I, II ve III

45. I. Sinop

II. Şanlıurfa

III. Bolu

IV. İzmir

Yukarıdaki illerden hangi ikisinde inanç turizmi gelişmiştir?

A) I ve II B) II ve IV C) I ve III
D) III ve IV E) II ve III

46. I. Borçlar Hukuku
II. Ticaret Hukuku
III. Vergi Hukuku
IV. Anayasa Hukuku

Yukarıdakilerden hangileri, özel hukuk alanına dâhil olan bir hukuk dalı değildir?

A) I ve II B) I ve IV C) II ve IV
D) III ve IV E) I, II ve III

47. Eğer ki suç siz yapmanız gereken hareketi yapmadığınız için ortaya çıktıysa bu suç aşağıdakilerden hangisi ile ifade edilir?

A) Tipiklik B) İcra
C) İhmal D) Kast
E) Taksir

48. Gerek kişinin kendisinin, gerekse bir başkasının canına, malına ya da namusuna karşı yönelmiş ve hâlen devam etmekte olan saldırıyı orantılı güç kullanarak defetme durumu, aşağıdakilerden hangisiyle açıklanır?

A) Meşru müdafaa
B) Dava hakkı
C) Talep hakkı
D) Iztırar hâli
E) Kuvvet kullanma

49. 1982 Anayasası'na göre temel hak ve hürriyetlerin sınırlanmasıyla ilgili aşağıdaki ifadelerden hangisi yanlıştır?

A) Sınırlandırma Cumhurbaşkanlığı kararnamesiyle olur.
B) Sınırlama Anayasa'nın sözüne ve ruhuna uygun olmak zorundadır.
C) Demokratik toplum gereklerine uygun olmak zorundadır.
D) Sınırlamada ölçülülük esas alınmalıdır.
E) Sınırlamada hakkın özüne dokunulmamalıdır.

50. Türkiye Cumhuriyeti Anayasası'na göre, TBMM başkanlık seçimi ile ilgili aşağıdakilerden hangisi yanlıştır?

A) Seçimi yönetecek olan kişi, milletvekilleri arasında en yaşlı olandır.
B) Gizli oylama yapılır.
C) En fazla 4 turda tamamlanmalıdır.
D) Birinci turda, Meclis üye tam sayısının 2/3'ünü sağlayan aday seçilir.
E) İkinci turda, Meclis üye tam sayısının salt çoğunluğu yani, üye tam sayısının yarısının 1 fazlası seçilir.

51. Bir davaya bakmakta olan mahkeme, uygulanacak bir kanun veya Cumhurbaşkanlığı kararnamesinin hükümlerini Anayasa'ya aykırı görürse veya taraflardan birinin ileri sürdüğü aykırılık iddiasının ciddi olduğu kanısına varırsa, Anayasa Mahkemesinin bu konuda vereceği karara kadar davayı geri bırakır

1982 Anayasası'nda "Anayasa'ya yapılan itiraz başvuruları" **başlığı altında düzenlenen bu husus, aşağıdakilerin hangisiyle adlandırılır?**

A) Yürütmenin durdurulması
B) Somut norm denetimi
C) Kanun yolu
D) Bireysel başvuru
E) Tam yargı davası

52. İnsan hakları, insanların sahip olmaları gereken hak ve hürriyetleri ifade eder. Bütün insanların hiç bir ayrım gözetmeksizin yalnızca insan olmaları nedeniyle, doğuştan ve insanlık onurunun gereği olarak sahip oldukları haklardır.

Aşağıdakilerden hangisi insan haklarının özellikleri arasında gösterilemez?

A) İnsan hakları evrenseldir.
B) İnsan haklarını kullanmakta herkes eşittir.
C) İnsan hakları nispidir.
D) İnsan hakları vazgeçilmezdir.
E) İnsan haklarının muhatabı devlettir.

YEDİİKLİM

53. Aşağıdakilerden hangisi mahallî idare niteliği taşımaz?

A) Millî Eğitim Bakanlığı
B) Bolu İl Özel İdaresi
C) Serdivan Belediyesi
D) Sakarya Büyükşehir Belediyesi
E) Balballı Köyü

54. Belediye başkanının başkanlık ya da üyelerinin üyelik sıfatının sona ermesi aşağıdakilerden hangisinin kararı ile olmaktadır?

A) Yargıtay B) Danıştay
C) Anayasa D) TBMM
E) Cumhurbaşkanı

55. Titanik batığına dalış yaparken patlayan ve beş kişinin ölümüne yol açan turistik denizaltının adı aşağıdakilerden hangisidir?

A) Titan B) Turtle
C) Nautilus D) Alligator
E) Plunger

56. 2023 yılında Hırvatistan'da düzenlenen Avrupa Güreş Şampiyonası'nda, grekoromen stil 130 kiloda altın madalya kazanarak 12. kez Avrupa şampiyonu olan sporcumuz aşağıdakilerden hangisidir?

A) Taha Akgül
B) Rıza Kayaalp
C) Burhan Akbudak
D) Soner Demirtaş
E) Süleyman Atlı

57. 2023 yılında seçilen Türkiye'nin ilk kadın Merkez Bankası Başkanı aşağıdakilerden hangisidir?

A) Hafize Gaye Erkan
B) Mahinur Özdemir Göktaş
C) DeryaYanık
D) Ruhsar Pekcan
E) Zehra Zümrüt Selçuk

58. Osmanlı Dönemi'nde vezirlerin ve sadrazamların giydiği, üstüne tülbent sarılmış kavuğa ne ad verilir?

A) Sorguç B) İstefen
C) Zülüflük D) Zehgir
E) Kallavi

59. İnsan hakları, tüm insanlara hiçbir ayrım gözetmeksizin insan onuruna yaraşır muamele edilmesi fikrini ifade etmektedir. Yaşam hakkından din ve inanç özgürlüğüne, onurlu çalışma hakkından sağlıklı bir çevrede yaşama hakkına varıncaya kadar çok geniş haklar kategorisini ihtiva eden insan hakları; bölünmez, birbirine bağımlı ve birbiriyle bağlantılı evrensel haklar kümesidir.

Tüm dünyada "İnsan Hakları Günü" **hangi tarihte kutlanır?**

A) 10 Kasım B) 10 Aralık
C) 3 Aralık D) 7 Kasım
E) 1 Ocak

60. Kazakistan'ın başkenti olan "Astana"**nın yeni adı aşağıdakilerden hangisi olmuştur?**

A) Aktöbe B) Karagandı
C) Nur Sultan D) Türkistan
E) Kizilyar

YEDİKLİM

Test bitti.
Cevaplarınızı kontrol ediniz.