Escola Estadual "Professora Paulina de Melo Porto"
Decreto Nº 46.130 de 09/01/13
Portaria Nº 49/2013 de 10/01/13
Rua Almir da Silva Matos, nº 209 – Jardim Itamarati.
CEP: 38702-321Patos de Minas – MG
escola.353485@educacao.mg.gov.br

Patos de Minas, 18 de Novembro de 2021- Quinta-feira

Atividades Remotas Não Presenciais

Professoras: Márcia Helena , Maria Maura e Sarah Cristine

Querido (a) aluno (a),

Cada sonho que você deixa para trás é um pedaço do seu futuro que deixa de existir. – Steve Jobs

1.Atividades complementares e plantão de dúvidas- no conexão escola e no grupo oficial de whatsaap.
2. Atividades no PET

Matemática - Atividades complementares- Registro no Livro didático

Atividades no livro didático, páginas 166 a 169.

Para subtrair números decimais, procedemos de modo semelhante ao usado na adição.

Regra Prática para subtrair numerais decimais

1 - Igualamos o número de casas decimais, acrescentando zeros;

2 - Colocamos vírgula embaixo de vírgula;

3 - Subtraímos como se fossem números naturais;

4 - Colocamos a vírgula do resultado alinhada com as outras vírgulas.

A **disposição prática** para esse cálculo será:



$$\begin{array}{r} 2{,}203 \\ -\ 0{,}012 \\ \hline 2{,}191 \end{array} \qquad \begin{array}{r} 0{,}222 \\ -\ 0{,}11 \\ \hline 0{,}112 \end{array}$$

Malha quadriculada

Escola _____

Nome: _____

Data: ___/___/_____

Alfabetizar com AMOR
www.amorensina.com.br

Multiplicando na malha

Represente cada multiplicação no quadriculado, usando a decomposição em dezenas exatas como no exemplo.

13 x 8 =

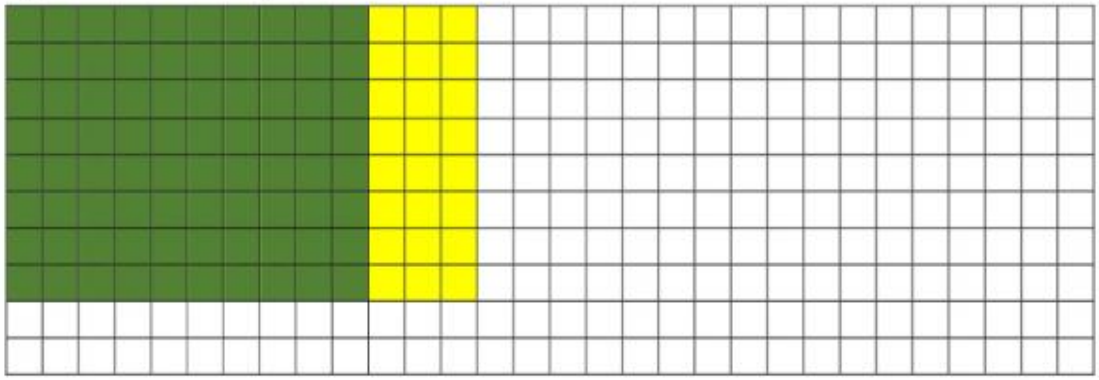

12 x 7 =

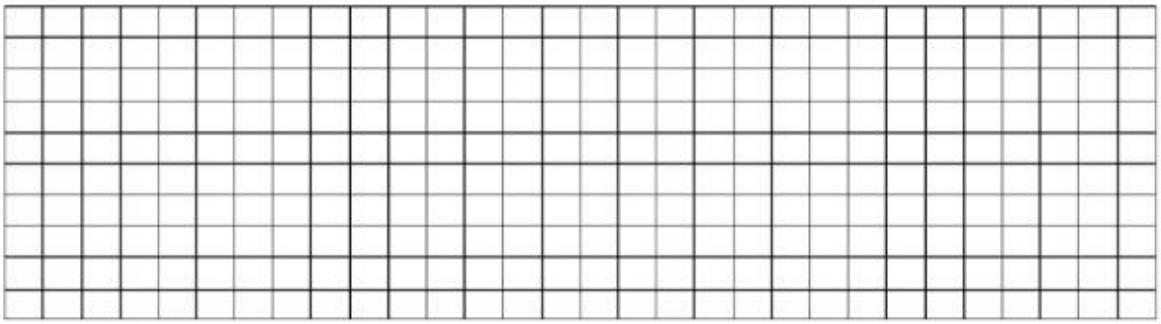

15 x 8 =

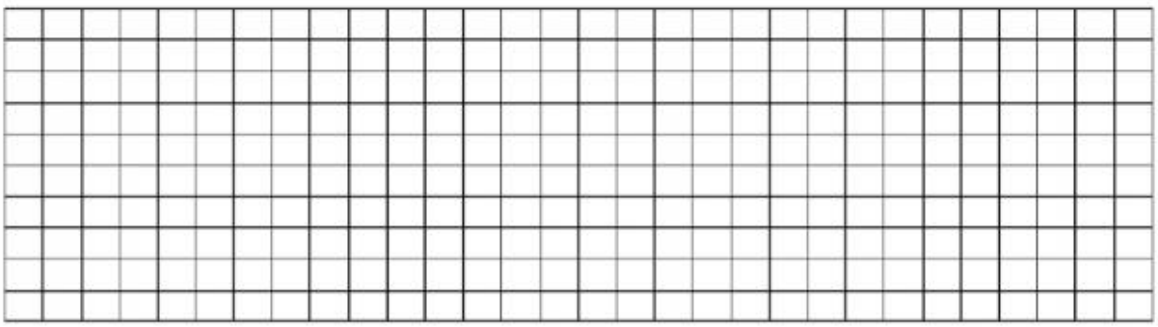

www.amorensina.com.br

Tarefa de casa

Efetue as subtrações

$$\begin{array}{r} 8,4 \\ -1,2 \\ \hline \end{array} \qquad \begin{array}{r} 7,9 \\ -3,3 \\ \hline \end{array} \qquad \begin{array}{r} 6,8 \\ -6,6 \\ \hline \end{array}$$

$$\begin{array}{r} 9,1 \\ -0,4 \\ \hline \end{array} \qquad \begin{array}{r} 8,00 \\ -3,15 \\ \hline \end{array} \qquad \begin{array}{r} 7,5 \\ -4,4 \\ \hline \end{array}$$

$$\begin{array}{r} 10,2 \\ -4,0 \\ \hline \end{array} \qquad \begin{array}{r} 29,30 \\ -11,00 \\ \hline \end{array} \qquad \begin{array}{r} 18,2 \\ -0,1 \\ \hline \end{array}$$