OFICINA PARA CASA

EM CONFORMIDADE COM O NOVO ACORDO ORTOGRÁFICO

Kelly Cláudia Gonçalves



5º Ano

EDITORA RIDEEL

Atividade 2

Nome: _____

Data: __/__/____

Encontros vocálicos

Recorte de jornais e revistas palavras com encontros vocálicos. Depois, cole-as no quadro e preencha-o.

PALAVRAS	DITONGO	TRITONGO	HIATO

Atividade 3

Nome: _____

Data: __/__/____

Classificação quanto à sílaba tônica

Complete o quadro.

Palavra	Sílaba tônica	Proparoxítona	Paroxítona	Oxítona
piscina				
exceção				
máquina				
menino				
animal				
cachimbo				
música				
vinho				
sótão				
jornal				
lâmpada				
papel				
palhaço				
sabor				

Atividade 4

Nome: _____

Data: __/__/____

Acentuação das palavras paroxítonas

1. Acentue estas palavras.

premio	vitoria	superficie	agua
socio	lingua	marcio	policia
carie	exercicio	gloria	regua

2. Qual a regra de acentuação dessas palavras? Explique.

_____

_____

_____

3. Acentue as palavras e justifique a acentuação.

a) orfas _____

b) orgãos _____

c) biquini _____

d) bonus _____

e) forum _____

f) parabens _____

Atividade 5

Nome: _____

Data: __/__/____

Dígrafos

Escreva duas palavras com cada dígrafo.

RR	SS
CH	LH
NH	SC
SÇ	XC

Atividade 6

Nome: _____

Data: __/__/____

Sinônimo e antônimo

1. Complete o quadro com o sinônimo e o antônimo das palavras.

Palavra	Sinônimo	Antônimo
idoso		
correto		
desligar		
alegre		

2. Reescreva as frases, substituindo as palavras em destaque por outra de sentido semelhante.

a) O projeto de Ciências estava **excelente**.

b) É **claro** que a prova é amanhã!

c) A comida mineira é muito **apreciada**.

d) Ela **reconheceu** a beleza do amigo.

e) Ela está **desiludida**.

Atividade 7

Nome: _____

Data: __/__/____

Encontro consonantal

Complete o quadro dos encontros consonantais.

Palavra	Separação silábica	Encontro consonantal
submarino		
objeto		
magnífico		
sublinhado		
infecção		
digno		
prateleira		
maligno		
predileto		
adjetivo		
ritmo		
apreciação		
cacto		
sublime		

Atividade 8

Nome: _____

Data: __/__/____

Homônimos

1. Complete as frases com o homônimo de cada palavra destacada.

a) Felipe **serra** a mesa da sala.

Pedro subiu a _____ de Petrópolis.

b) Comprei **cem** laranjas.

Joaquim está _____ mercadorias.

c) Roberto chupa **mangas**.

Costurei as _____ das blusas de cetim.

d) Eu **canto** no coral da escola.

A mesa está no _____ da sala.

2. Numere a 2ª coluna de acordo com a 1ª coluna.

(1) Cumprimento	( ) Extensão de um objeto de uma ponta a outra.
(2) Comprimento	( ) Cadeira.
(3) Cavaleiro	( ) Homem que anda a cavalo.
(4) Cavalheiro	( ) Homem da nobreza.
(5) Sela	( ) Assento usado em montaria.
(6) Cela	( ) Ato de cumprimentar.

Atividade 9

Nome: _____

Data: __/__/____

Acentuação de palavras oxítonas

1. Acentue as palavras quando necessário.

guarana	parabens	urubu
cafune	caracol	vatapa
canibal	carijo	mineral

a) Circule a sílaba tônica das palavras do quadro.

b) Qual a classificação das palavras acima quanto à tonicidade?

_____

2. Explique a acentuação destas palavras.

a) através: _____

b) sabiá: _____

c) burguês: _____

d) dominó: _____

e) também: _____

f) armazém: _____

g) maracujá: _____

h) café: _____

i) vovô: _____

Atividade 10

Nome: _____

Data: __/__/____

Pontuação

1. Empregue dois-pontos (:) onde for necessário.

a) Aquela placa significa o seguinte proibido parar.
b) Na parede estava escrito assim Século XXI.
c) Na feira havia vários biscoitos coco, chocolate, nata etc.
d) Jussara comprou o material escolar livros, cadernos, lápis, canetas, borrachas etc.

2. Empregue a vírgula nos lugares adequados.

a) Pará 12 de abril de 1991.
b) Rua Guarani 78 apartamento 301 Centro Belo Horizonte.
c) Rio de Janeiro 24 de dezembro de 1980.
d) Júnior você viu a mamãe?
e) Juliana você fez a lição?
f) Corra João Pedro!
g) Zeca venha cá!
h) Você vai sair Diego?
i) Joana quantos anos você tem?

3. Empregue ponto e vírgula, se for necessário.

a) Passaram de ano Artur, Gustavo e Mateus Gabriela repetiu.
b) Uns viram e acreditaram outros, não.
c) Compramos laranjas, bananas, pequis e uvas não havia caquis.
d) Todos compareceram à reunião o diretor ficou feliz.

Atividade 11

Nome: _____

Data: __/__/____

Substantivos comuns, próprios e abstratos

1. Circule de amarelo somente os substantivos comuns.

copo	mesa	felicidade	mão
lápis	Brasil	carro	Milena
Marcos	pia	São Paulo	camisa

2. Complete com um substantivo próprio.

a) Eu me chamo _____.

b) Moro na cidade _____.

c) Estudo na escola _____.

d) _____ é o país onde nasci.

e) _____ é o nome de meu amigo.

3. Continue a formar substantivos abstratos dos seguintes adjetivos:

a) bondoso

b) feliz

c) educado

d) difícil

e) esperto

f) feio

Atividade 12

Nome: _____

Data: __/__/____

Substantivos comuns, próprios e abstratos

1. Complete o quadro com substantivos comuns.

Brinquedos	Frutas	Animais	Produtos de higiene pessoal

2. Circule os substantivos comuns e sublinhe os substantivos próprios.

a) Marcela brincava no parque com Maria Clara.

b) Vou a Tocantins com a tia Joaquina.

c) A loja da Dani tem muita coisa legal.

d) Esqueci-me de trazer o livro.

e) Pedrito é o gato de Manuel.

3. Circule os substantivos abstratos e sublinhe os substantivos concretos.

alegria	pé	quintal	rosa	preguiça	atenção
pasta	ar	bondade	cadeira	saudade	ciúme

Atividade 13

Nome: _____

Data: __/__/____

Tipos de Frases

1. Classifique as frases em afirmativas, negativas, interrogativas ou exclamativas.

a) João saiu do carro. _____

b) Eu não quero biscoito de chocolate. _____

c) Vamos, Luana, ande depressa! _____

d) Você gostou do almoço? _____

e) Que belo dia! _____

2. Numere as frases de acordo com a legenda.

(1) afirmativa (2) negativa (3) interrogativa

(4) exclamativa (5) imperativa

( ) Não consigo terminar o meu dever de casa.

( ) Como você está bonita!

( ) Faça isso agora.

( ) Joana já chegou do clube?

( ) Vou à igreja amanhã.

3. Transforme as frases afirmativas em negativas.

a) Amanhã iremos ao cinema.

_____

b) O carro é de corrida.

_____

c) A noite está quente.

_____

Atividade 14

Nome: _____

Data: __/__/____

Uso do por que, porque e por quê

Complete as frases com por que, porque e por quê.

a) _____ vocês não foram à festa?

b) Não fomos _____ estávamos cansados.

c) Fiquei sabendo que terminou o namoro. _____?

d) A seca se agrava mais _____ não chove.

e) Você não fez o dever de casa. _____?

f) _____ ele está tão nervoso?

g) Você gostou deste filme. _____?

h) Gostei deste filme_____ é dinâmico.

i) _____ você chegou tão atrasado?

j) Ontem você chegou atrasado. _____?

k) Estou feliz _____ tirei boas notas.

Atividade 15

Nome: _____

Data: __/__/____

Masculino e Feminino

1. Passe para o feminino.

a) O gatinho manhoso: _____

b) O cão feroz: _____

c) O filho obediente: _____

d) O velho ranzinza: _____

e) O homem alto: _____

f) O carneiro branquinho: _____

g) O burro orelhudo: _____

2. Passe as frases para o masculino.

a) A **empregada** foi com a **filha** para a casa da **avó**.

_____

b) A **mãe** da **atriz** chegou tarde na festa.

_____

c) Minha **irmã** e minha **prima** foram ao zoológico.

_____

d) A **imperatriz** saiu com sua **comadre** e sua **cunhada**.

_____

Atividade 16

Nome: _____

Data: __/__/____

Gênero do substantivo

1. Escreva as frases mudando o gênero das palavras destacadas.

a) O **jovem** saiu de casa cedo e ainda não voltou.

_____

b) O **estudante** tirou nota 10 na prova de Matemática.

_____

c) A **alpinista** ficou satisfeita ao atingir o topo mais alto da montanha.

_____

d) Meu novo **colega** é muito inteligente e dedicado.

_____

2. Classifique os substantivos do quadro em comum de dois gêneros, sobrecomum e epiceno.

cliente	rã	múmia	artista	aranha	cobra
imigrante	pessoa	barata	colega	minhoca	

Comum de dois gêneros	Sobrecomum	Epiceno

Atividade 17

Nome: _____

Data: __/__/____

Adjetivos pátrios

Escreva o adjetivo pátrio.

Estado	Adjetivo Pátrio
Roraima	
Amapá	
Amazonas	
Acre	
Rondônia	
Pará	
Maranhão	
Piauí	
Ceará	
Rio Grande do Sul	
Paraíba	
Pernambuco	
Alagoas	
Sergipe	
Tocantins	
Bahia	
Goiás	
Mato Grosso	
Mato Grosso do Sul	
Minas Gerais	
Espírito Santo	
Rio de Janeiro	
São Paulo	
Paraná	
Santa Catarina	
Brasília	

Atividade 18

Nome: _____

Data: __/__/____

Preposição

1. Complete as frases com uma preposição adequada.

a) Lucas jogou bola _____ Artur.

b) Nunca existiu nada _____ nós.

c) Falei _____ meu colega por telefone.

d) Depois _____ almoçar irei ao *shopping*.

e) Suzana saiu e não chegou _____ agora.

2. Escreva as frases fazendo as contrações indicadas.

a) Bruno jogará bola (em + o) próximo sábado.

_____

b) Comecei a fazer massagens (em+o) início (de+esse) mês.

_____

c) Priscila só sairá (em+o) fim do dia.

_____

d) O casaco está (em+uma) gaveta do guarda-roupa.

_____

e) Kate fará uma reunião (em+a) casa dela.

_____

3. Forme preposições com as contrações.

a) em + um _____ b) em + esse _____

c) em + ele _____ d) per + o _____

Atividade 19

Nome: _____

Data: __/__/____

Locução adjetiva

Escreva adjetivos correspondentes para as locuções adjetivas destacadas.

a) mulher **com entusiasmo**: _____

b) casa **de família**: _____

c) rua **com árvores**: _____

d) estrada **de ferro**: _____

e) prato **da Bahia**: _____

f) carinho **de mãe**: _____

g) pastel **de Portugal**: _____

h) força **de leão**: _____

i) problema **do coração**: _____

j) água **de chuva**: _____

k) luz **do sol**: _____

l) período **da noite**: _____

m) material **de guerra**: _____

n) período **da manhã**: _____

o) festas **de junho**: _____

Atividade 20

Nome: _____

Data: __/__/____

Grau do adjetivo

1. Dê sua opinião sobre alguns assuntos, usando um dos comparativos.

   a) O que é mais gostoso, laranja ou maçã?

   _____

   b) O que é mais interessante, ler um livro ou uma revistinha em quadrinhos?

   _____

   c) O que é mais bonito, o nascer do sol ou o pôr do sol?

   _____

2. Copie as frases no caderno e complete com os adjetivos comparativos de superioridade.

   a) Ir ao clube é _____ que ir ao cinema.

   b) Descascar mexerica é _____ que descascar laranjas.

   c) Comer sanduíche é _____ que almoçar.

   d) A mata atlântica é _____ que a floresta amazônica.

3. Forme uma frase com:

   a) Mais que _____

   _____

   b) Menos que _____

   _____

   c) Tão, quanto _____

   _____

Atividade 21

Nome: _____

Data: __/__/____

Superlativo

1. Escreva o superlativo absoluto sintético.

ágil	notável	veloz

miserável	feroz	pequeno

2. Escreva as frases colocando os adjetivos destacados no grau superlativo sintético.

a) O jacaré é um animal **feroz**.

_____

b) Conheci uma garota **boa**.

_____

c) Português é **fácil**, em compensação, Matemática é **difícil**.

_____

d) O vendedor é **agradável** .

_____

3. Complete as frases colocando o adjetivo dos parênteses no grau superlativo analítico.

a) Bianca é uma menina _____ (alta).

b) O apartamento é _____ (pequeno).

c) Juninho é uma criança _____ (pobre).

d) Roberto Carlos é um cantor _____ (popular).

Atividade 22

Nome: _____

Data: __/__/____

Advérbios

1. Complete o quadro de advérbios.

Classificação	Advérbios
tempo	
lugar	
modo	
intensidade	
afirmação	
negação	
dúvida	

2. Classifique os advérbios destacados.

a) Mamãe precisa andar **bastante** para melhorar.

_____

b) Eu **sempre** visito meus avós.

_____

c) **Certamente** passou de ano direto.

_____

d) Vá **depressa** ou perderá o horário.

_____

e) **Nunca** irei para o exterior.

_____

f) **Talvez** um dia ele volte para mim.

_____

Atividade 23

Nome: _____

Data: __/__/____

1. Classifique os advérbios destacados das frases.

a) **Ontem**, as crianças fizeram **muito** barulho no pátio.

_____

b) Os vendedores trabalharam **depressa**, e **logo** estava tudo pronto.

_____

c) Carolina apareceu **bem** arrumada e dançou **bastante** naquela noite.

_____

d) **Provavelmente** esta foi a melhor festa do ano.

_____

2. Complete com um advérbio de intensidade.

a) A criança chegou _____ atrasada.

b) As personagens eram _____ interessantes.

c) O baile foi _____ animado.

3. Crie advérbios terminados em **mente**.

com amor	com carinho	com alegria

com calma	com silêncio	com verdade

Atividade 24

Nome: _____

Data: __/__/____

Locução adverbial

1. Complete o quadro.

Classificação	Locuções adverbiais
Tempo	
Modo	
Lugar	

2. Complete as frases com locuções adverbiais.

a) _____ tenho dor de barriga.

b) _____ vi um enorme leão!

c) _____ tenho uma vontade de sair correndo.

d) Ricardo escovou seus dentes _____.

3. Copie as frases no caderno, substituindo o advérbio entre parênteses por uma locução adverbial.

a) Jussara acenava para todos _____ (alegremente).

b) O crocodilo enfrentou o caçador _____ (corajosamente).

c) O vencedor trata os clientes _____ (gentilmente).

d) Pedro pegou o queijo _____(rapidamente).

Atividade 25

Nome: _____

Data: __/__/____

Pronome de tratamento

1. Escreva para quem são usados os pronomes.

Pronome	Usado para
Você	
Vossa Senhoria	
Vossa Eminência	
Senhora	
Vossa Excelência	
Vossa Alteza	

2. Complete as frases com um pronome de tratamento.

a) Marcela, como _____ está hoje?

b) O governador do Acre, _____ não foi claro em seu depoimento.

c) _____, sendo rei, poderá dar esta ordem.

d) Princesa Isabel, _____, libertou os escravos?

3. Abrevie os pronomes de tratamento.

Você	Vossa Reverendíssima	Vossa Eminência

Senhor	Vossa Alteza	Vossa Santidade

Atividade 26

Nome: _____

Data: __/__/____

Emprego de trás, traz e atrás

1. **Traz** está em qual tempo verbal?

☐ Pretérito ☐ Presente ☐ Futuro

2. Qual o infinitivo do verbo traz?

_____

3. **Trás** e **atrás** são advérbios de:

☐ modo ☐ tempo ☐ lugar

4. Complete as frases com **traz**, **atrás** ou **trás**.

a) O cachorro se escondeu _____ do guarda-roupa.

b) O entregador _____ o almoço todos os dias.

c) Ana sempre _____lembranças das férias.

d) O Sol escondeu-se _____ da montanha.

e) João está_____da porta.

f) Sábado, você_____o CD para mim?

g) Para_____! Não se aproxime.

Atividade 27

Nome: _____

Data: __/__/____

Pronomes possessivos e demonstrativos

1. Circule de vermelho os pronomes possessivos.

a) Dona Joana sempre arruma o quarto dela pela manhã.

b) Nossos compromissos sempre são cumpridos no prazo determinado.

c) O meu diário guarda os meus segredos.

d) Tenho muito carinho pelo chefe dele.

2. Complete com o pronome demonstrativo adequado.

a) _____ caneta é minha, mas _____ é sua.

b) Por que Maria fez _____ ?

c) _____ lápis é maior do que _____.

d) _____ carro é do meu pai.

3. Complete as frases com pronomes possessivos do quadro.

meus	nosso	nossas	minha	sua

a) A saia de Bruna é vermelha, mas a _____ é azul.

b) _____ olhos são azuis como o céu.

c) Este prédio nos pertence. Ele é _____.

d) _____ tia é muito querida entre nós.

e) _____ crianças são o futuro do nosso país.

Atividade 28

Nome: _____

Data: __/__/____

Pronome pessoal do caso reto

1. Substitua os nomes em destaque por pronomes.

a) **Eu** e **Valdir** fomos ao clube.

_____

b) **O avião** subiu muito rápido.

_____

c) **Os pássaros** eram coloridos e raros.

_____

d) **A menina** é muito delicada e charmosa.

_____

e) **As crianças** passearam de trem.

_____

2. No caderno, passe as frases para o plural usando pronomes pessoais do caso reto; faça as alterações necessárias.

a) **A vendedora** é muito esforçada.

b) **Eu** e **Júlia** somos irmãs do peito.

c) **O elefante** está em exposição no zoológico.

3. Complete as frases com um pronome pessoal.

a) _____ gosto de macarrão ao alho e óleo.

b) _____ foram ao zoológico fazer piquenique.

c) _____ vamos viajar nas férias de julho.

Atividade 29

Nome: _____

Data: __/__/____

Emprego de mal / mau e bem / bom

1. Escreva as frases, substituindo as palavras em destaque por antônimos.

a) Joana foi **bem** nas provas.

_____

b) Cigarro faz **mal** à saúde.

_____

c) O lobo é **mau**.

_____

d) O menino é muito **bom** com os colegas.

_____

2. Escreva as frases no plural, dando os antônimos e fazendo as alterações necessárias.

a) O mau tempo traz consequências.

_____

b) O bom amigo é sempre educado.

_____

c) Essa garota não é tão má assim.

_____

3. Complete as frases com **mal**, **mau**, **bem** ou **bom**.

a) Estou passando muito _____.

b) Ele é um homem _____.

c) O lobo _____ perseguiu Chapeuzinho Vermelho.

d) Devemos fazer o _____ sempre.

Atividade 30

Nome: _____

Data: __/__/____

Verbos

1. Leia e responda.

falar	**beber**	**dormir**

Os verbos acima estão no:

☐ passado ☐ presente ☐ futuro ☐ infinitivo

2. Organize os verbos na tabela de acordo com a conjugação.

sentir	viver	cantar	dizer	colar	escrever
morar	sorrir	descobrir	lambuzar	esperar	
correr	ligar	abrir	soltar	perder	

1ª conjugação	2ª conjugação	3ª conjugação

Atividade 31

Nome: _____

Data: __/__/____

Verbos

Indique o tempo e o modo dos verbos.

a) Eu **lavo** as panelas do almoço.

_____

b) Carol **vendeu** doces na porta da escola.

_____

c) Se pudesse, **compraria** uma passagem para São Paulo.

_____

d) Maria **levará** muita roupa.

_____

e) Ele **cantará** no sábado à noite.

_____

f) Nós **vamos** ao cinema hoje.

_____

g) Marcos **falava** com Nair ao telefone.

_____

h) Silvana **trará** doces para festa.

_____

i) O ator **interpretou** Romeu na peça.

_____

j) Eu **tenho** dois irmãos e três irmãs.

_____

k) O livro **custou** menos que o DVD.

_____

Atividade 32

Nome: _____

Data: __/__/____

Verbos

1. Circule os verbos das frases.

a) Os gatos gostam de muito carinho.

b) Daniele adora pássaros.

c) Ele comprou um cachorro-quente.

d) O médico trata da saúde das pessoas.

e) Os trapezistas trabalham no circo.

2. Grife a parte do verbo que variou.

a) Eu penso, ele pensa, nós pensamos.

b) Tu calas, ela calou, eles calaram.

c) Eu estudava, ele estudará, elas estudarão.

d) Eu viajo, ele viajou, elas viajaram.

3. Numere a 2ª coluna de acordo com a 1ª:

(1) presente	( ) Eu **comprei** uma borracha.
(2) pretérito perfeito	( ) Ele **chorava** durante a peça.
(3) pretérito imperfeito	( ) **Sairei** nas férias.
(4) futuro do presente	( ) Meus pais **trabalham** fora.

Atividade 33

Nome: _____

Data: __/__/____

Conjugação do verbo

Conjugue os verbos de acordo com o enunciado.

Amar: presente do indicativo	Vender: pretérito imperfeito do indicativo
Eu	Eu
Tu	Tu
Ele	Ele
Nós	Nós
Vós	Vós
Eles	Eles

Sentir: pretérito perfeito do indicativo	Falar: pretérito mais-que-perfeito do indicativo
Eu	Eu
Tu	Tu
Ele	Ele
Nós	Nós
Vós	Vós
Eles	Eles

Escrever: futuro do presente	Partir: futuro do pretérito
Eu	Eu
Tu	Tu
Ele	Ele
Nós	Nós
Vós	Vós
Eles	Eles

Atividade 34

Nome: _____

Data: __/__/____

Modo subjuntivo

1. Passe os verbos em destaque para o pretérito imperfeito do subjuntivo, fazendo as modificações necessárias.

a) Quando ele **voltar**, sairemos.

_____

b) Quando ele **pintar** o quadro, mostrarei a você.

_____

c) Quando nós **conseguirmos**, mudaremos de casa.

_____

d) Quando papai **ouvir** isso, vai adorar.

_____

e) Quando ele **ligar**, eu te aviso.

_____

2. Complete as frases com os verbos entre parênteses.

a) Quando ele _____ da viagem, iremos ao *shopping*. (voltar)

b) Quando nós _____ a tela, venderemos a você. (pintar)

c) Quando você _____ ao filme, você me conta. (assistir)

d) Quando eles _____ do encontro, vão adorar. (saber)

3. Em qual tempo verbal estão os verbos acima?

_____

Atividade 35

Nome: _____

Data: __/__/____

Modo indicativo e subjuntivo

1. Complete com os verbos flexionados nos modos e nos tempos indicados.

Modo indicativo

a) Ela _____ uma carta. (escrever, presente)

b) Eu _____ o dever de casa. (fazer, pretérito perfeito)

c) No guarda-roupa _____ um bicho. (aparecer, pretérito imperfeito)

d) Jussara _____ muito bem os alunos. (ensinar, pretérito imperfeito)

e) Os alunos _____ todas as lições. (fazer, futuro do presente)

Modo subjuntivo

f) Ele quer que eu _____. (escrever, presente)

g) Voltarei quando ele _____. (chegar, futuro)

h) Como seria bom se todo motorista _____ bem. (dirigir, pretérito imperfeito)

2. No caderno, reescreva estas frases, passando os verbos do presente do indicativo para o presente do subjuntivo.

a) Ela anda muito depressa.

b) Ele samba bem.

c) Ela vende pão.

d) Vovó parte o pudim.

Atividade 36

Nome: _____

Data: __/__/____

Modo imperativo

Conjugue os verbos.

Pensar: imperativo afirmativo
Eu
Tu
Ele
Nós
Vós
Eles

Vender: imperativo negativo
Eu
Tu
Ele
Nós
Vós
Eles

Ouvir: imperativo afirmativo
Eu
Tu
Ele
Nós
Vós
Eles

Atividade 37

Nome: _____

Data: __/__/____

Verbos

1. Indique se o verbo da oração indica estado, ação ou fenômeno da natureza.

a) O gatinho **anda** adoentado.

_____

b) Ontem, **choveu** muito durante a noite

_____

c) Pedro **dirige** o automóvel tranquilamente.

_____

d) A chuva **caiu** fortemente.

_____

e) **Estudei** bastante para o teste de matemática.

_____

f) Com o frio intenso, **geou** no Sul.

_____

g) Pedro **andou** de patins.

_____

h) Solange **está** muito feliz.

_____

Atividade 38

Nome: _____

Data: __/__/____

Revisão de verbos

1. Escreva o modo em que os verbos das frases abaixo se encontram: indicativo, subjuntivo ou imperativo.

a) Você sairá hoje? _____

b) E se eu sambasse a noite toda? _____

c) Cantem vocês. _____

2. Indique o tempo dos verbos destacados.

a) Eu **gastei** minha borracha.

_____

b) Ela **dançava** e eu ria.

_____

c) **Sairei** nas férias.

_____

d) Meus avós **trabalham** muito.

_____

3. Indique a conjugação dos verbos.

- 1ª conjugação
- 2ª conjugação
- 3ª conjugação

a) dançar	b) beber	c) sair
d) brincar	e) saber	f) fugir

Atividade 38

Nome: _____

Data: __/__/____

Revisão de verbos

1. Escreva o modo em que os verbos das frases abaixo se encontram: indicativo, subjuntivo ou imperativo.

a) Você sairá hoje? _____

b) E se eu sambasse a noite toda? _____

c) Cantem vocês. _____

2. Indique o tempo dos verbos destacados.

a) Eu **gastei** minha borracha.

_____

b) Ela **dançava** e eu ria.

_____

c) **Sairei** nas férias.

_____

d) Meus avós **trabalham** muito.

_____

3. Indique a conjugação dos verbos.

- 1ª conjugação
- 2ª conjugação
- 3ª conjugação

a) dançar	b) beber	c) sair
d) brincar	e) saber	f) fugir

Atividade 39

Nome: _____

Data: __/__/____

Oração: sujeito e predicado

1. Circule o sujeito de cada oração.

a) A noite estava muito estrelada.

b) Sônia entrou na sala de estar.

c) Selma fazia almoço gostoso.

d) O cachorro queria pegar o osso.

e) Vovó fez bolinhos de chuva para os netinhos.

2. Grife o predicado das frases.

a) A luz solar entrava pela janela.

b) Rodner chegou devagarinho no quarto.

c) Ninguém viu a cadelinha fugir do terreiro.

d) Catarina é uma menina muito levada.

3. Escreva o sujeito e o predicado das frases.

a) Vovô e vovó cuidam do jardim com muito carinho.

Sujeito: _____

Predicado: _____

b) Os pássaros voaram durante o temporal.

Sujeito: _____

Predicado: _____

Atividade 40

Nome: _____

Data: __/__/____

Emprego das palavras onde e aonde

1. Complete as frases com **onde** ou **aonde**.

a) _____ você vai à noite?

b) Diga _____ você colocou o sapato.

c) Leve estes chocolates _____ eu disse.

d) Ainda não entendi _____ você quer chegar.

e) _____ você comprou esta bolsa?

f) _____ estão os meus óculos?

g) _____ vamos passar nossas férias?

h) _____ você vai com tanta pressa?

i) Guardei os doces _____ você não pode encontrar?

2. Recorte de jornais ou revistas uma frase que tenha **onde** e outra que tenha **aonde** e cole-as nos retângulos abaixo.

Atividade 41

Nome: _____

Data: __/__/____

Substantivos coletivos

1. Circule somente os substantivos coletivos.

plantas	bando	discos	gatos
constelação	crianças	cardume	pomar
frangos	tribo	discoteca	peixes
lago	coro	código	abelhas

2. Escreva o que indicam os seguintes coletivos.

a) fauna

b) esquadrilha

c) altas

d) vara

e) arquipélago

f) bando

g) rebanho

h) esquadra

3. Complete as frases com um substantivo coletivo.

a) Um avião da _____ partiu sem permissão para voar.

b) Um ladrão da _____ fugiu da penitenciária.

c) Uma _____de gafanhotos atacou a plantação de milho.

Atividade 1

Nome: _____

Data: __/__/____

Sistema de numeração decimal

1. Complete o quadro, dando o valor absoluto e relativo do algarismo destacado.

Numeral	Valor absoluto	Valor relativo
8**3**.374.213		
700.**2**13		
1.469		
2**6**3.128.214		
2.00**7**.420		
18**4**.321		

2. Observe o número e complete:

286.413.759

a) Algarismo de maior valor absoluto: _____

b) Algarismo de menor valor absoluto: _____

c) Algarismo de maior valor relativo: _____

d) Algarismo de menor valor relativo: _____

3. Escreva o número acima por extenso:

_____

Atividade 2

Nome: _____

Data: __/__/____

Sistema de numeração decimal

1. Escreva por extenso.

a) 223.678.198 _____

b) 336.049.732 _____

c) 24.866.984 _____

d) 328.678 _____

e) 129.239 _____

f) 369.874 _____

g) 89.738 _____

2. Observe o número **943.357.129** e responda:

a) Quantas ordens tem? _____

b) Quantas classes? _____

c) Qual é o antecessor? _____

d) Qual é o sucessor? _____

e) Qual é o valor relativo do algarismo 4? _____

f) Qual o valor absoluto do algarismo 7? _____

g) Qual o algarismo de maior valor relativo? _____

h) Qual o algarismo de maior valor absoluto? _____

Atividade 3

Nome: _____

Data: __/__/____

Multiplicação

35 x 2.534

144 x 3.565

307 x 3.377

9 x 12.356

32 x 2.631.687

65 x 6.337.859

Atividade 4

Nome: _____

Data: __/__/____

Números ordinais

1. Represente em números ordinais.

a) vigésimo terceiro

b) octogésimo nono

c) septuagésimo

d) trecentésimo primeiro

e) trigésimo oitavo

f) centésimo nono

2. Escreva o antecessor e o sucessor em números ordinais.

a) _____ 94º _____

b) _____ 321º _____

c) _____ 210º _____

d) _____ 43º _____

e) _____ 10º _____

f) _____ 505º _____

3. Escreva por extenso a colocação de cada participante na corrida maluca.

Ronaldo	28º	
Júlia	94º	
Daniel	106º	
Eduarda	212º	
Gustavo	74º	
Beatriz	100º	

Atividade 5

Nome: _____

Data: __/__/____

Números ordinais

1. Na escola de Anderson, 30 alunos participaram de uma gincana. Escreva por extenso a colocação destes participantes.

   a) Rafaela 1º _____

   b) Isabel 29º _____

   c) Gabriel 33º _____

   d) Mateus 9º _____

2. Uma pessoa está no trigésimo andar de um prédio.

   a) Em que andar estará se subir mais 9 andares?

   _____

   b) E se descer 14 andares, em que andar estará?

   _____

3. Descubra o número ordinal e escreva-o por extenso.

   a) Estou entre o 43º e 45º.

   _____

   b) Sou o antecessor de 18º.

   _____

   c) Sou o sucessor de 65º.

   _____

   d) Sou vizinho e menor que 80º.

   _____

   e) Sou vizinho e maior que 77º.

   _____

   f) Venho antes de 33º.

   _____

Atividade 6

Nome: _____

Data: __/__/____

Números romanos

1. Represente em números romanos.

a) 37 b) 58 c)71

d) 179 e) 246 f) 520

g) 1.000 h) 349 i) 400

2. Represente os números romanos em algarismos indo-arábicos.

a) CCXLVIII b) CDXXVI c) DLIX

d) CMXXIX e) MDLXXII f) MMCDLXXXI

3. Escreva, usando números romanos:

a) quinhentos e setenta e nove b) sete mil e duzentos

c) mil trezentos e quinze d) cinco mil seiscentos e dois

Atividade 7

Nome: _____

Data: __/__/____

Propriedades da adição

1. Escreva a propriedade aplicada.

a) (22 + 4) + 10 = 22 + (4 + 10)

b) 28 + 9 = 9 + 28

c) 82 + 18 = 100

d) 15 + 0 = 15

e) 14 + 12 + 10 = (14 + 12) + 10

f) 45 + 10 = 55

2. No caderno, arme, efetue e aplique a propriedade comutativa:

a) 123 + 412 + 98

b) 821 + 636

c) 916 + 485

d) 789 + 127

e) 158 + 247 + 128

f) 1.895 + 968

3. No caderno, resolva as adições, aplicando a propriedade associativa.

a) 23 + 12 + 16

b) 138 + 89 + 18

c) 42 + 64 + 29

d) 216 + 430 + 16

e) 48 + 68 + 8

f) 147 + 85 + 64

Atividade 8

Nome: _____

Data: __/__/____

Problemas matemáticos

Resolva os problemas, apresentando operações e resposta no caderno.

1. Luciana nasceu em 1964 e tem um irmão 9 anos mais velho. Em que ano nasceu o irmão de Luciana?

2. Quando Bete nasceu, seu pai tinha 33 anos. Que idade Bete terá quando seu pai tiver 69 anos?

3. A soma de dois números é igual a 5.129. Se um número é 2.375, qual é o outro?

4. Papai nasceu em 1970. Qual a idade dele no ano atual?

5. Mamãe nasceu em 1975. Sabendo que Papai é 12 anos mais velho que ela, em que ano Papai nasceu?

6. A diferença de idade entre Papai e vovô é de 26 anos. Sabendo que Papai nasceu em 1966, em que ano vovô nasceu?

7. A diferença de idade entre mim e meu irmão mais novo é de 7 anos. Sabendo que meu irmão nasceu em 2000, responda:

   a) Em que ano eu nasci?

   b) Quantos anos eu tenho atualmente?

Atividade 9

Nome: _____

Data: __/__/____

Propriedades da Multiplicação

1. Qual a propriedade aplicada?

a) 7 x 1 = 1 x 7

b) 12 x 11 = 11 x 12

c) 10 x 5 = 50

d) 5 x (3 + 4) = (5 x 3) + (5 x 4)

2. Aplique a propriedade pedida.

Comutativa

a) 9 x 8

b) 3 x 5

c) 8 x 8

Associativa

d) 3 x 6 x 1

e) 9 x 4 x 8

f) 6 x 4 x 3

Distributiva

g) 3 x (8 – 5)

h) 7 x (4 – 1)

i) 2 x (8 + 9)

Atividade 10

Nome: _____

Data: __/__/____

Propriedades da multiplicação

1. Escreva o nome da propriedade aplicada em cada exemplo.

a) $5 \times 1 = 5$ _____

b) $4 \times 7 = 7 \times 4$ _____

c) $3 \times (19 + 6) = (3 \times 19) + (3 \times 6)$ _____

d) $3 \times 5 \times 6 = (3 \times 5) \times 6$ _____

e) $9 + 0 = 9$ _____

f) $7 + 6 = 6 + 7$ _____

2. No caderno, dê um exemplo de cada propriedade.

a) Comutativa da adição.
b) Comutativa da multiplicação.
c) Propriedade do fechamento da adição.
d) Propriedade do fechamento da multiplicação.
e) Propriedade do elemento neutro da adição.
f) Propriedade do elemento neutro da multiplicação.
g) Propriedade do anulamento da multiplicação.
h) Propriedade distributiva da multiplicação.
i) Variância do resto.
j) Variância do quociente.
k) Invariância do resto.
l) Invariância do quociente.

Atividade 11

Nome: _____

Data: __/__/____

Resolvendo Multiplicações

1. Complete o quadro calculando no espaço adequado.

triplo	62	+	dobro	24	
quádruplo	92	–	triplo	68	
dobro	26	x	quíntuplo	27	
sêxtuplo	216	+	quádruplo	429	
quíntuplo	369	–	dobro	286	
triplo	58	x	quádruplo	191	

Espaço para cálculos.

Atividade 12

Nome: _____

Data: __/__/____

Resolvendo problemas

Resolva os problemas, apresentando operação e resposta no caderno.

1. Um teatro tem 98 fileiras de poltronas. Cada fileira tem 56 poltronas. Quantas pessoas cabem no teatro?

2. Em uma biblioteca há 189 prateleiras com 896 livros em cada. Quantos livros há na biblioteca?

3. José Roberto vendeu 645 laranjas pela manhã. À tarde, vendeu o sêxtuplo. Quantas laranjas vendeu neste dia?

4. Ganho R$ 8,00 por hora de trabalho. Trabalho 8 horas por dia. Quanto ganho em um mês de 30 dias?

5. Uma costureira produz 28 peças por dia. Qual é a produção em dois meses, sabendo que ela descansou 4 dias por mês?

6. Uma loja possuía 872 bolinhas de gude. Vendeu 469 em uma semana e recebeu mais 298 para venda. Quantas bolinhas há agora?

7. Um feirante vendeu 128 quilogramas de cebola. Sabendo que a barraca ao lado vendeu o quíntuplo. Quantos quilogramas foram vendidos no total, somando a venda das duas barracas?

8. Tenho 12 anos. A diferença entre a idade da minha mãe e a minha é o dobro da minha idade. Qual é a idade da minha mãe?

Atividade 13

Nome: _____

Data: __/__/____

Expressões numéricas

Resolva as expressões numéricas.

a) 8 x (4 x 3 – 9) + 5

b) 24 + (4 x 9 – 22)

c) 15 + 2 x (6 x 71 + 13)

d) 6 x [2 + (17 x 4 – 59]

e) 142 – [20 + (3 x 8 – 8) 28]

f) [216 – (13 x 9 – 85) + 49]

g) 95 + {26 – [(4 x 4 – 10) + 3]}

h) {127 – [9 x (27 – 15) – 8]}

Atividade 14

Nome: _____

Data: __/__/____

Divisão por 10, 100, 1.000

1. Resolva as divisões mentalmente e registre o resultado.

a) 730 : 100

b) 9.000 : 1.000

c) 2.600 : 10

d) 20.400 : 100

e) 370 : 100

f) 5.600 : 1.000

2. Calcule.

a) 44 x 100 : 10

b) 130 x 10 : 10

c) 620 x 100 : 1.000

d) 500 x 10 : 100

e) 780 x 10 : 100

f) 360 x 100 : 1.000

Atividade 15

Nome: _____

Data: __/__/____

Múltiplos de um número

1. Determine no caderno os 7 primeiros múltiplos.

a) 2 b) 4 c) 6 d) 8 e) 5 f) 9

2. Dê os múltiplos pedidos.

a) Múltiplos de 6 compreendidos entre 10 e 42.

_____

b) Múltiplos de 7 compreendidos entre 15 e 63.

_____

c) Múltiplos de 4 compreendidos entre 5 e 33.

_____

d) Múltiplos de 9 compreendidos entre 8 e 46.

_____

3. Determine os conjuntos dos múltiplos comuns no caderno.

a) De 3 e 4 até 27
M (3) = {_____
M (4) = {_____
M (3) ∩ M (4) = {_____

b) De 6 e 8 até 48
M (6) = {_____
M (8) = {_____
M (6) ∩ M (18) = {_____

c) De 4 e 6 até 36
M (4) = {_____
M (6) = {_____
M (4) ∩ M (6) = {_____

d) De 3 e 5 até 39
M (3) = {_____
M (5) = {_____
M (3) ∩ M (5) = {_____

Atividade 16

Nome: _____

Data: __/__/____

Mínimo múltiplo comum

Determine o M.M.C. dos números abaixo.

a) M.M.C. (3, 7)

b) M.M.C. (3, 9)

c) M.M.C. (4, 8)

d) M.M.C. (4, 6, 12)

e) M.M.C. (6, 9, 18)

f) M.M.C. (10, 15, 20)

Atividade 17

Nome: _____

Data: __/__/____

Divisores de um número natural

1. Dê os divisores destes números:

a) D (9) _____

b) D (6) _____

c) D (15) _____

d) D (8) _____

e) D (10) _____

f) D (20) _____

2. Determine o conjunto dos divisores e, a seguir, escreva a intersecção entre eles.

a) D (12) e D (18)

D (12) _____

D (18) _____

D (12) ∩ D (18) _____

b) D (9) e D (21)

D (9) _____

D (21) _____

D (9) ∩ D (21) _____

c) D (8) e D (24)

D (8) _____

D (24) _____

D (8) ∩ D (24) _____

Atividade 18

Nome: _____

Data: __/__/____

Máximo divisor comum

1. Determine o M.D.C. destes números:

a) D (10) e D (12) _____

_____

b) D (6) e D (18) _____

_____

2. Determine os conjuntos dos divisores. Faça a representação no diagrama.

a) D (4) e D (10)

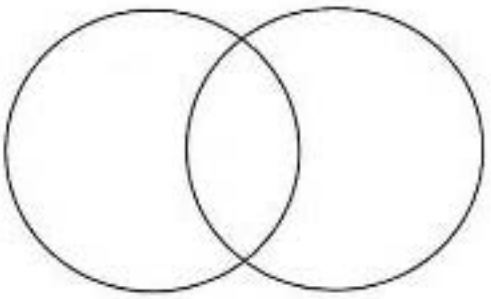

b) D (9) e D (30)

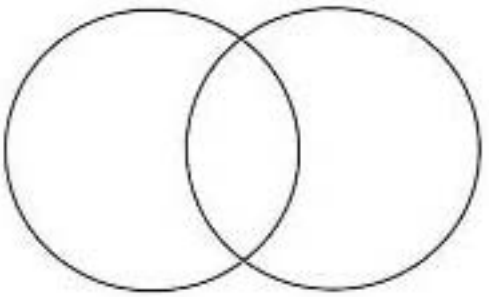

c) D (4) e D (10)

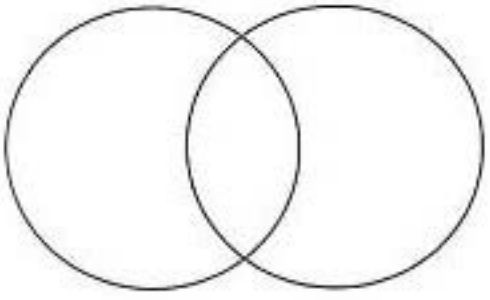

d) D (9) e D (30)

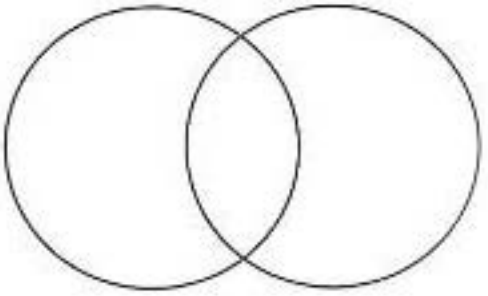

Atividade 19

Nome: _____

Data: __/__/____

Divisibilidade

1. Circule os números divisíveis por três.

A = {1, 2, 3, 4, 5, 6, 8, 9, 10, 12, 16, 18}

2. Observe os números do quadro:

26	**18**	**40**	**27**	**15**	**32**	**36**	**42**	**45**
33	**81**	**72**	**64**	**24**	**49**	**63**	**90**	**54**

Quais desses números são divisíveis por:

a) 3 _____ b) 4 _____

c) 2 _____ d) 5 _____

e) 6 _____ f) 7 _____

g) 8 _____ h) 9 _____

3. Escreva o número que falta para que os números sejam divisíveis por 9.

_____ 8 _____ 0 _____ 6

_____ 4 _____ 2 _____ 3

_____ 1 _____ 7 _____ 5

Atividade 20

Nome: _____

Data: __/__/____

Números primos

1. Circule os números primos.

2	6	3	4	15	7	
9	10	11	16	13	29	27
26	18	19	31	32	43	79

2. Responda com base apenas nos números do retângulo.

a) Anote os números primos compreendidos entre 10 e 30:

b) Qual é o maior número primo do retângulo?

c) Qual é o menor número primo do retângulo?

d) Qual é o menor número primo de dois algarismos que aparece no retângulo?

Atividade 21

Nome: _____

Data: __/__/____

Números primos entre si

1. Verifique se os números abaixo são primos entre si.

a) 15 e 9.

b) 12 e 20.

c) 16 e 7.

d) 15 e 20.

e) 6 e 10.

f) 8 e 16.

2. Marque um **X** nos números primos entre si.

	10 e 15
	15 e 9
	14 e 16
	9 e 15
	6 e 30
	5 e 10
	18 e 17
	41 e 42
	9 e 18
	5 e 8
	6 e 12
	15 e 17

Atividade 22

Nome: _____

Data: __/__/____

Frações

1. Escreva a fração correspondente:

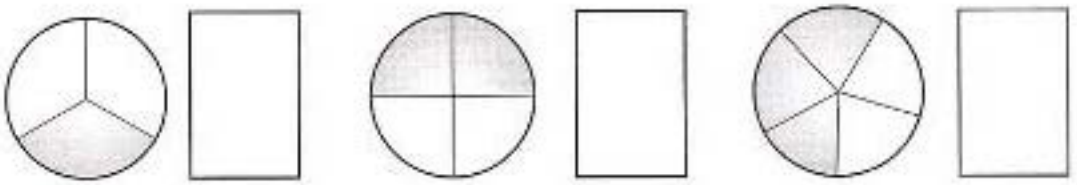

2. Escreva como se leem as frações:

a) $\frac{3}{8}$ _____

b) $\frac{2}{12}$ _____

c) $\frac{1}{5}$ _____

d) $\frac{8}{8}$ _____

e) $\frac{6}{24}$ _____

f) $\frac{15}{45}$ _____

3. Escreva a fração correspondente:

a) Um meio _____

b) Quatro vinte cinco avos _____

c) Cinco décimos _____

d) Três quintos _____

e) Dois dezessete avos _____

f) Vinte e oito milésimos _____

Atividade 23

Nome: _____

Data: __/__/____

Tipos de Frações

1. Observe as frações e faça o que se pede:

$\frac{2}{5}$	$\frac{4}{5}$	$\frac{10}{5}$	$\frac{2}{6}$	$\frac{18}{10}$	$\frac{3}{2}$
$\frac{16}{5}$	$\frac{29}{1.000}$	$\frac{7}{9}$	$\frac{2}{8}$	$\frac{13}{100}$	$\frac{12}{3}$

a) Circule de azul as frações próprias.

b) Circule de vermelho as frações impróprias.

2. Classifique as frações de acordo com a legenda.

(1) própria (2) imprópria (3) aparente

a) ( ) $\frac{6}{3}$ b) ( ) $\frac{2}{7}$ c) ( ) $\frac{1}{8}$ d) ( ) $\frac{20}{4}$

e) ( ) $\frac{5}{4}$ f) ( ) $\frac{11}{3}$ g) ( ) $\frac{6}{6}$ h) ( ) $\frac{10}{5}$

3. Represente com desenhos estas frações no caderno.

a) $\frac{4}{3}$ b) $\frac{5}{8}$ c) $\frac{7}{7}$ d) $\frac{3}{4}$

e) $\frac{8}{4}$ f) $\frac{3}{6}$ g) $\frac{9}{9}$ h) $\frac{7}{5}$

Atividade 24

Nome: _____

Data: __/__/____

Números mistos

1. Transforme as frações em números mistos.

a) $\frac{7}{2}$ b) $\frac{7}{3}$ c) $\frac{13}{2}$ d) $\frac{11}{3}$

e) $\frac{14}{5}$ f) $\frac{19}{7}$ g) $\frac{9}{2}$ h) $\frac{13}{5}$

2. Transforme os números mistos em frações impróprias.

a) $3\ \frac{1}{3}$ b) $2\ \frac{4}{5}$ c) $3\ \frac{2}{3}$

d) $6\ \frac{3}{4}$ e) $3\ \frac{5}{7}$ f) $6\ \frac{4}{5}$

Atividade 25

Nome: _____

Data: __/__/____

Frações equivalentes

1. Dê 4 frações equivalentes.

a) $\frac{2}{3}$ ☐

b) $\frac{3}{4}$ ☐

c) $\frac{1}{6}$ ☐

d) $\frac{3}{7}$ ☐

2. Circule apenas as frações equivalentes.

a) $\frac{1}{2}$ $\frac{1}{4}$ $\frac{2}{4}$ $\frac{1}{5}$ $\frac{3}{6}$ $\frac{2}{5}$ $\frac{5}{10}$

b) $\frac{2}{4}$ $\frac{3}{4}$ $\frac{4}{6}$ $\frac{4}{8}$ $\frac{2}{8}$ $\frac{14}{28}$ $\frac{13}{4}$

c) $\frac{3}{5}$ $\frac{6}{10}$ $\frac{3}{10}$ $\frac{9}{15}$ $\frac{3}{15}$ $\frac{1}{20}$ $\frac{24}{40}$

3. Descubra as frações equivalentes:

a) $\frac{2}{4} = \frac{\quad}{8}$

b) $\frac{12}{6} = \frac{6}{\quad}$

c) $\frac{3}{5} = \frac{\quad}{20}$

d) $\frac{4}{3} = \frac{\quad}{12}$

Atividade 26

Nome: _____

Data: __/__/____

Fração de um número

1. Calcule as frações referentes aos números.

a) $\frac{2}{4}$ de 16 ☐

b) $\frac{2}{5}$ de 20 ☐

c) $\frac{1}{3}$ de 24 ☐

d) $\frac{3}{6}$ de 36 ☐

e) $\frac{4}{7}$ de 28 ☐

f) $\frac{3}{7}$ de 63 ☐

g) $\frac{2}{3}$ de 30 ☐

h) $\frac{5}{9}$ de 81 ☐

2. Resolva os problemas no caderno com operação e resposta.

a) Dênis tem 63 figurinhas. Colou $\frac{4}{9}$ no seu álbum. Quantas figurinhas ele colou?

b) Uma salgadeira fez 72 salgados. Já vendeu $\frac{4}{8}$. Quantos salgados foram vendidos?

c) César tem de correr 280 metros. Já correu $\frac{3}{7}$. Quantos metros ele já correu?

Atividade 27

Nome: _____

Data: __/__/____

Operações com frações

1. Represente em forma de desenhos e efetue.

a) $\frac{2}{8} + \frac{6}{8} =$

b) $\frac{4}{6} + \frac{2}{6} =$

c) $\frac{2}{5} + \frac{1}{5} =$

d) $\frac{1}{4} + \frac{3}{4} =$

2. Efetue.

a) $\frac{2}{4} + \frac{1}{3} =$ ☐

b) $\frac{2}{7} + \frac{1}{3} =$ ☐

c) $\frac{2}{6} + \frac{4}{5} =$ ☐

d) $\frac{5}{8} + \frac{3}{9} =$ ☐

Atividade 28

Nome: _____

Data: __/__/____

Subtração de Frações

1. Subtraia as frações heterogêneas.

a) $\frac{6}{7} - \frac{4}{3}$

b) $\frac{3}{7} - \frac{1}{4}$

c) $\frac{10}{20} - \frac{1}{8}$

d) $\frac{7}{9} - \frac{2}{7}$

e) $\frac{2}{8} - \frac{1}{7}$

f) $\frac{7}{24} - \frac{2}{12}$

2. Subtraia os números mistos:

a) $6\ \frac{1}{7} - 3\ \frac{15}{14}$

b) $13\ \frac{1}{8} - \frac{11}{7}$

c) $10\ \frac{1}{5} - 11\ \frac{1}{3}$

d) $5\ \frac{1}{8} - 3\ \frac{7}{16}$

Atividade 29

Nome: _____

Data: __/__/____

Multiplicação de Frações

1. Resolva as multiplicações: número inteiro por fração.

a) $3 \times \frac{2}{5}$ ☐

b) $6 \times \frac{2}{7}$ ☐

c) $2 \times \frac{1}{4}$ ☐

d) $5 \times \frac{2}{9}$ ☐

2. Resolva as multiplicações: fração por outra fração.

a) $\frac{2}{3} \times \frac{8}{12}$ ☐

b) $\frac{6}{15} \times \frac{8}{17}$ ☐

c) $\frac{4}{9} \times \frac{2}{9}$ ☐

d) $\frac{7}{11} \times \frac{25}{5}$ ☐

3. Resolva as multiplicações de números mistos.

a) $2\frac{1}{4} \times 3\frac{1}{3}$ ☐

b) $3\frac{1}{7} \times 1\frac{4}{3}$ ☐

c) $4\frac{1}{4} \times 2\frac{1}{3}$ ☐

d) $3\frac{8}{9} \times 5\frac{2}{5}$ ☐

4. Dê as frações inversas:

a) $\frac{4}{8}$ ☐

b) $\frac{4}{3}$ ☐

c) $\frac{3}{5}$ ☐

d) $\frac{2}{6}$ ☐

Atividade 30

Nome: _____

Data: __/__/____

Divisão de Frações

1. Divida as frações: número inteiro por fração.

a) $2 : \frac{4}{7}$ ☐

b) $5 : \frac{6}{8}$ ☐

c) $4 : \frac{8}{9}$ ☐

d) $2 : \frac{1}{5}$ ☐

2. Divida as frações: fração por número inteiro.

a) $\frac{6}{9} : 5$ ☐

b) $\frac{4}{5} : 5$ ☐

c) $\frac{4}{9} : 3$ ☐

d) $\frac{3}{7} : 5$ ☐

3. Divida as frações: fração por fração.

a) $\frac{2}{5} : \frac{3}{7}$ ☐

b) $\frac{2}{5} : \frac{1}{5}$ ☐

4. Divida:

a) $1\ \frac{3}{4} : 1\ \frac{2}{3}$ ☐

b) $3\ \frac{1}{3} : 2\ \frac{1}{3}$ ☐

Atividade 31

Nome: _____

Data: __/__/____

Representação decimal dos números racionais

1. Escreva o número decimal correspondente.

a) $\frac{2}{10}$ b) $\frac{8}{100}$ c) $\frac{6}{10}$ d) $\frac{9}{1.000}$

2. Escreva como se lê:

a) 2,8 _____

b) 0,062 _____

c) 0,55 _____

d) 2,321 _____

e) 2,84 _____

3. Transforme os números decimais em frações decimais.

a) 0,035 b) 1,434 c) 3,43 d) 0,738

e) 0,024 f) 1,38 g) 0,8 h) 0,009

4. Decomponha os números decimais em suas ordens.

a) 7,48 b) 12,34 c) 3,429 d) 51,382

Atividade 32

Nome: _____

Data: __/__/____

Registro de decimais

Represente os números decimais no quadro:

a) 1,345 d) 0,9 g) 6,4 j) 0,005

b) 0,387 e) 0,02 h) 2,1 k) 19,453

c) 12,03 f) 0,1 i) 0,023 l) 234,542

Inteiros			Decimais		
C	D	U	C	D	U

Atividade 33

Nome: _____

Data: __/__/____

Números decimais

Transforme as frações em números decimais.

Frações	Números decimais
$\frac{4}{10}$	
$\frac{2}{1.000}$	
$\frac{15}{100}$	
$\frac{229}{1.000}$	
$\frac{12}{10}$	
$\frac{126}{100}$	
$\frac{89}{10}$	
$\frac{100}{1.000}$	
$\frac{239}{1.000}$	
$\frac{621}{100}$	

Atividade 34

Nome: _____

Data: __/__/____

Medidas de comprimento

1. Numere a 2ª coluna de acordo com a 1ª.

(1) metro	( ) múltiplo do metro mais usado.
(2) quilômetro	( ) usado para grandes extensões.
(3) centímetro	( ) unidade de medida de comprimento.
(4) múltiplos	( ) unidade para medir pequenas extensões.
(5) submúltiplos	( ) submúltiplo mais usado.

2. Represente.

a) 28 metros _____

b) 4 metros e 41 centímetros _____

c) 3 quilômetros e 22 decâmetros _____

d) 7 decímetros e 3 milímetros _____

3. Decomponha as medidas.

a) 8,35 m _____

b) 7,14 dam _____

c) 2,721 Km _____

d) 4,346 m _____

4. Transforme as medidas em metro.

a) 6,8 Km _____

b) 21,12 dam _____

c) 18 hm _____

d) 5,18 dam _____

Atividade 35

Nome: _____

Data: __/__/____

Medidas de comprimento

1. Transforme para unidade inferior.

a) 31,4 dam _____ cm

b) 9 m _____ cm

c) 0,071 hm _____ m

d) 12,7 hm _____ m

2. Transforme para unidade superior.

a) 7,2 dam _____ km

b) 134,8 cm _____ hm

c) 0,68 m _____ dam

d) 8 m _____ km

3. Complete o quadro, reduzindo as medidas.

	Km	m	cm
7,5 dam			
28,4 hm			
264,3 dm			
81,9 dam			
8,18 hm			
93,17 dam			

Atividade 36

Nome: _____

Data: __/__/____

Perímetro

1. Determine o perímetro dos polígonos.

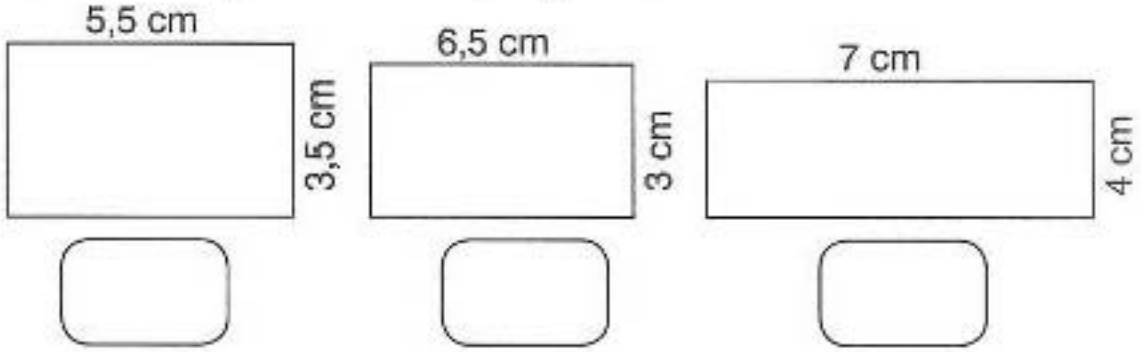

2. Classifique cada polígono e determine seu perímetro:

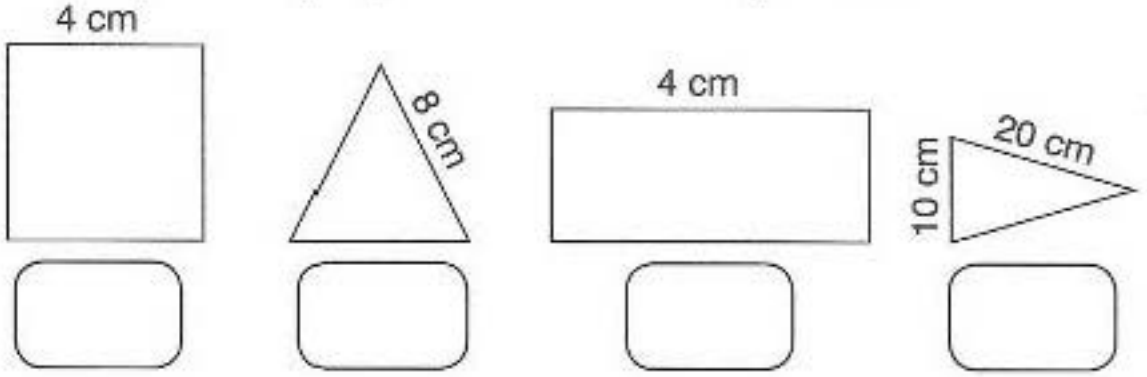

3. Resolva os problemas no caderno.

a) Qual o perímetro de um quadrado cujo lado mede 9 cm?

b) Uma caixa tem a parte de cima em forma de retângulo e suas medidas são 28 cm por 14 cm. Qual é o seu perímetro?

c) Calcule o perímetro de um triângulo equilátero cujos lados medem 8 cm.

d) Calcule o perímetro de um retângulo cuja base é quatro vezes a altura que mede 6 m.

Atividade 37

Nome: _____

Data: __/__/____

Área das figuras geométricas planas

1. Calcule a área dos quadrados.

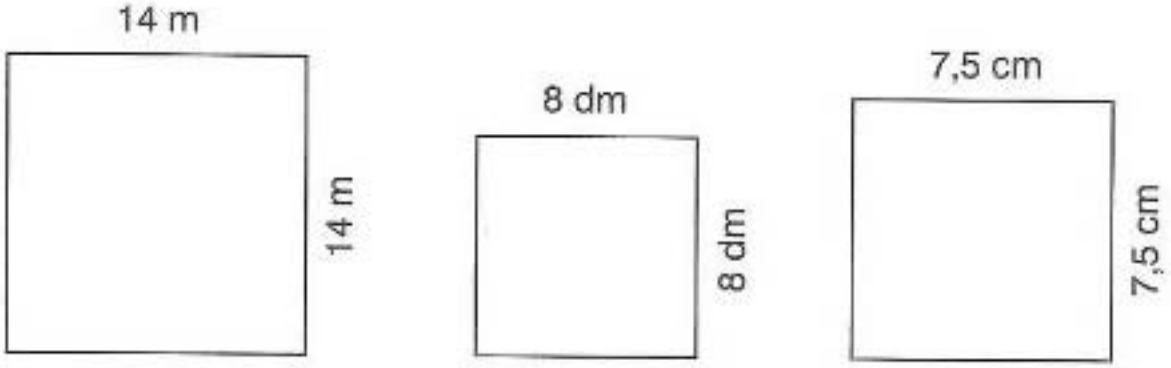

_____ _____ _____

2. Determine a área dos terrenos.

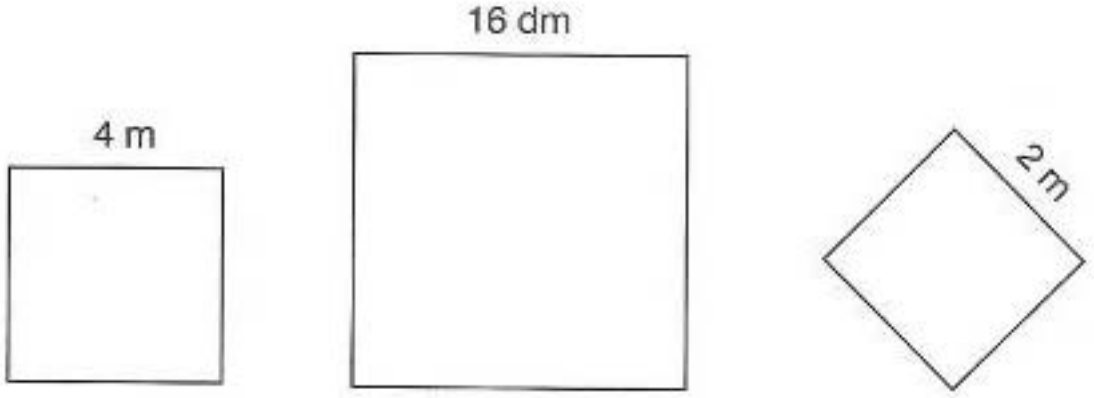

_____ _____ _____

3. Resolva os problemas no caderno.

a) Qual a área de um terreno quadrado de 24,4 m de lado?

b) Qual a área de um ladrilho quadrado de 18 cm de lado?

Atividade 38

Nome: _____

Data: __/__/____

Medidas de capacidade

1. Complete corretamente.

a) Unidade fundamental de medida de capacidade _____.

b) Múltiplos do litro _____, _____ e _____.

c) Submúltiplos do litro _____, _____ e _____.

d) O litro tem _____ meios litros e _____ quartos de litro.

2. Escreva por extenso.

a) 8,4 Kℓ _____

b) 3,6 daℓ _____

c) 0,81ℓ _____

d) 12,6 hℓ _____

3. Complete as equivalências.

a) 21 _____ dℓ = _____ cℓ b) 4 hℓ _____ daℓ = _____

4. Decomponha as medidas.

a) 3,18 Kℓ _____

b) 5,241 hℓ _____

c) 2,634ℓ _____

d) 9,135 Kℓ _____

Atividade 39

Nome: _____

Data: __/__/____

Medidas de capacidade

Observe:

Múltiplos			Unidade fundamental	Submúltiplos		
Quilolitro	Hectolitro	Decolitro	**Litro**	Decilitro	Centilitro	Mililitro
Kℓ	**Hℓ**	**Daℓ**	**ℓ**	**Dℓ**	**Cℓ**	**Mℓ**
1.000ℓ	100ℓ	10ℓ	1ℓ	0,1ℓ	0,01ℓ	0,001ℓ

1. Transforme as medidas para a unidade fundamental ℓ.

Medida	Unidade Fundamental (litro)
15,4 da ℓ	
350 m ℓ	
3,05 d ℓ	
0,07 h ℓ	
2,21 k ℓ	

2. Transforme para litros. Depois efetue:

a) 5,6 hℓ + 3,45 daℓ _____

b) 9,3ℓ + 6,75 dℓ _____

c) 34,66 daℓ – 18,41ℓ _____

d) 7,38 hℓ – 18,9 dℓ _____

Atividade 40

Nome: _____

Data: __/__/____

Medidas de tempo

1. Faça as transformações como no modelo:

2 horas e 10 minutos =
2 x 60 = 130 minutos

Unidade	Transformação
35 minutos	segundos
5 horas e 15 minutos	minutos
40 minutos	segundos
55 minutos e 25 segundos	segundos
10 horas e 48 minutos	minutos

2. Já passou de meio-dia, que horas os relógios estão marcando.









Atividade 41

Nome: _____

Data: __/__/____

Resolva estes problemas:

1. Pedro saiu de casa às 9 horas e retornou às 23 horas e 15 minutos. Por quanto tempo Pedro esteve fora de casa?

2. Entro no colégio às 7 horas e 15 minutos e saio às 13 horas e 25 minutos. Quanto tempo passo no colégio?

3. Na empresa em que meu pai trabalha o expediente começa às 8 horas. O horário de saída é às 17 horas. Diminuindo 1 hora de almoço, quantas horas meu pai trabalha por dia?

4. Em uma empresa os funcionários trabalham 8 horas e 20 minutos por dia. Quantas horas eles trabalham em 5 dias?

5. No final de semana eu e meus pais fomos viajar. Saímos de casa às 8 horas da manhã de sábado e retornamos no domingo às 23 horas. Quanto tempo ficamos fora de casa?

6. O filme a que assisti tinha 2 horas e 26 minutos. Qual é o tempo do filme em minutos?

7. Ontem brinquei na praça por 2 horas e meia. Depois, brinquei com minha vizinha por 3 horas e 15 minutos e mais tarde brinquei com meu irmão por 1 hora e 20 minutos. Quanto tempo brinquei no total no dia de ontem?

Atividade 1

Nome: _____

Data: __/__/____

O tempo da história

1. Complete o quadro dos séculos.

Registre o século a que pertencem os anos.

Ano	Século
500	
1890	
1955	
1718	

2. Escreva os anos em que começa e termina cada século.

Século	Começa	Termina
XXI		
XVIII		
XV		
X		

3. Complete.

Eu nasci no ano de _____ do século _____.

Atividade 2

Nome: _____

Data: __/__/____

Descobrimento do Brasil

Pesquise e responda no caderno.

1. Quais foram os primeiros habitantes do Brasil?
2. Como viviam os indígenas antes da chegada dos portugueses?
3. Qual foi a data de realização destas viagens:
   a) Viagem de Bartolomeu Dias.
   b) Viagem de Vasco da Gama.
   c) Viagem de Pedro Álvares Cabral.
   d) Descobrimento da América.
   e) Descobrimento do Brasil.
4. Explique o que foi o Tratado de Tordesilhas.
5. Explique o que foram as:
   a) expedições exploradoras de 1501 e 1503.
   b) expedições guarda-costas de 1516 e 1526.
   c) expedições colonizadoras de Martin Afonso de Sousa, de 1530.
6. O que foram as capitanias hereditárias? Quantas eram?
7. Por que as capitanias não prosperaram?
8. Quais capitanias deram certo?

Atividade 3

Nome: _____

Data: __/__/____

Linha do tempo

Escreva os acontecimentos que marcaram a história do Brasil nas datas a seguir:

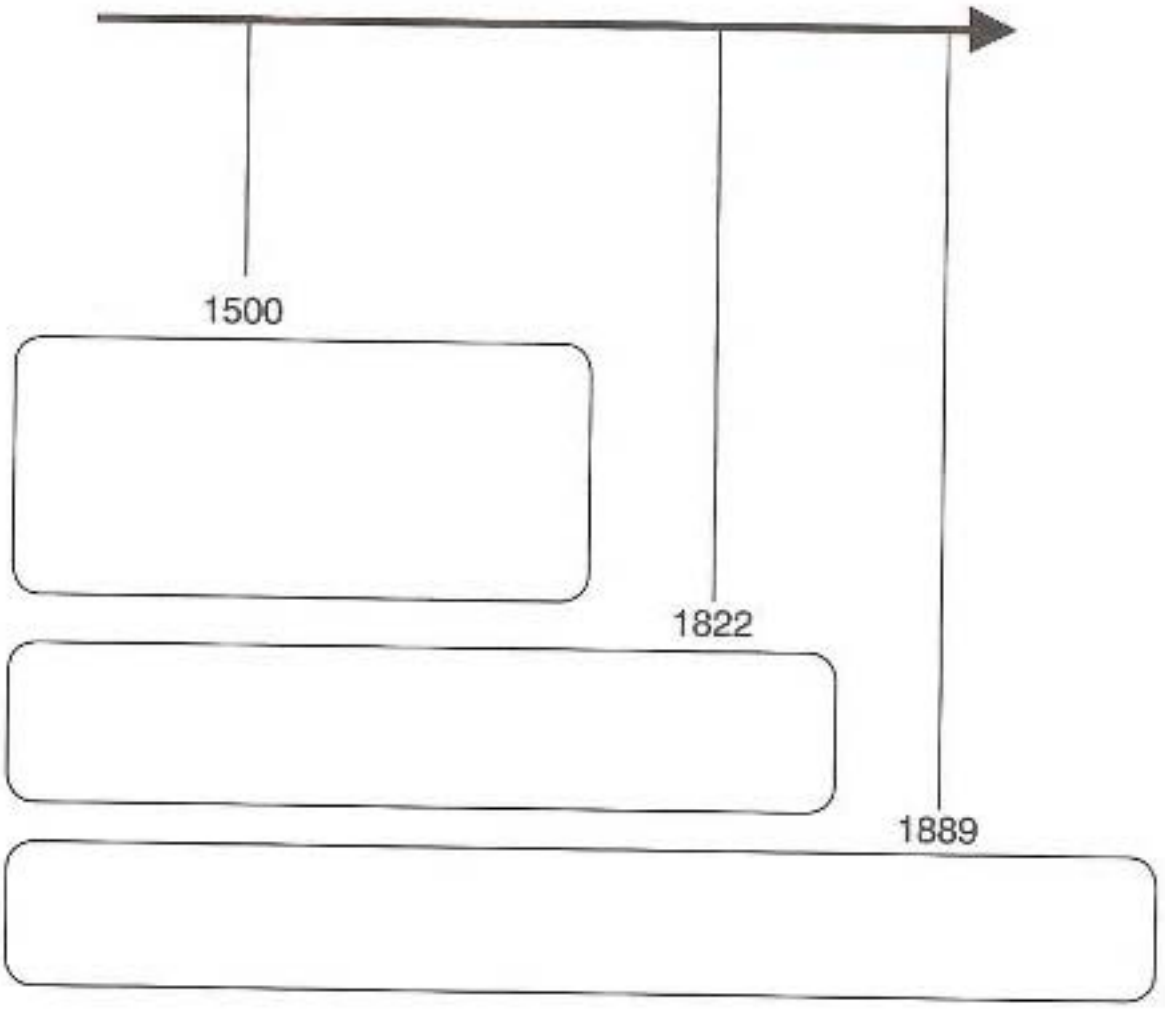

Atividade 4

Nome: _____

Data: __/__/____

Escravidão

Pesquise e responda no caderno.

1. De qual continente vieram os escravos?

2. Como eles eram tratados?

3. O que significa a palavra "abolicionista"?

4. Como viviam os índios antes da chegada dos portugueses?

5. O que foi a Lei Eusébio de Queirós? Em que ano foi assinada?

6. O que foi a Lei do Ventre Livre? Em que ano foi assinada?

7. O que foi a Lei dos Sexagenários? Em que ano foi assinada?

8. O que foi a Lei Áurea? Em que ano foi assinada?

9. Qual foi o primeiro passo dado em favor dos escravos?

10. Quem foi Zumbi de Palmares?

11. O que eram os quilombos?

Atividade 5

Nome: _____

Data: __/__/____

Revoltas do Brasil colonial

1. Relacione a 2ª coluna de acordo com a 1ª.

(1) Revolta de Beckman

(2) Guerra dos Emboabas

(3) Revolta de Felipe dos Santos

(4) Guerra dos Mascates

( ) Foram criadas muitas casas de fundição para onde era levado todo ouro encontrado e onde era descontada a parte da Coroa portuguesa (o quinto).

( ) O motivo foi o descontentamento dos colonos com a Companhia de Comércio do Maranhão.

( ) Motivada pela rivalidade entre senhores de engenho que moravam em Olinda e comerciantes portugueses que moravam no Recife.

( ) O maior combate aconteceu no local que ficou conhecido como Capão da Traição.

2. Responda no caderno:

a) Por que surgiram rivalidades entre Olinda e Recife?

b) E entre os emboabas e paulistas?

Atividade 6

Nome: _____

Data: __/__/____

Inconfidência Mineira

Pesquise os fatos relacionados à Inconfidência Mineira e registre de acordo com a característica citada.

1. Movimento contra cobrança de impostos a que Portugal submetia os ricos donos das lavras.
   _____.

2. Movimento revolucionário de que participaram pessoas simples do povo ao lado de homens letrados e de padres.
   _____.

3. Cidade onde aconteceu a Inconfidência Mineira.
   _____.

4. Mártir da Inconfidência _____.

5. Eram, em sua maioria, pessoas ricas e instruídas, donas de lavras. _____

6. Traiu seus companheiros, denunciando-os ao governador de Minas Gerais. _____

7. A cobrança de impostos atrasados era chamada de
   _____.

Atividade 7

Nome: _____

Data: __/__/____

Período Regencial

1. Complete as frases com as informações abaixo:

Regência trina provisória
Regência trina permanente
Regência una do padre Diego Antônio Feijó
Regência una de Araújo Lima

a) Ele governou durante três anos, de 1837 a 1840.

_____

b) Era composta de três pessoas e governou o país durante dois meses.

_____

c) Ele governou sozinho durante dois anos, de 1835 a 1837.

_____

d) Era composta de três pessoas e governou o país de 1831 a 1835.

_____

2. Escreva o nome da província onde ocorreram as revoltas do Período Regencial.

a) Guerra dos Farrapos: _____

b) Cabanagem: _____

c) Sabinada: _____

d) Balaiada: _____

Atividade 8

Nome: _____

Data: __/__/____

Base social e bem comum

1. Pesquise e responda no caderno.

a) Existe democracia quando as leis e os governantes deixam uma parte da sociedade sem participar dela? Justifique.

b) Quando há participação verdadeira dentro de uma sociedade?

c) É certo um governo que não consulta o povo? Por quê?

d) Precisa existir uma Constituição para que os direitos das pessoas sejam respeitados? Justifique.

e) Defina **democracia**.

f) Explique: O que é Constituição?

g) O que é voto?

h) O que é plebiscito?

2. Indique o nome do(a):

a) presidente da República;

b) governador(a) do seu Estado;

c) prefeito(a) de sua cidade;

d) senador(a) de seu Estado.

Atividade 9

Nome: _____

Data: __/__/____

Segundo Reinado

Encontre no diagrama as palavras que completam as frases.

a) O período em que D. Pedro II governou o Brasil foi chamado...

b) A maior guerra enfrentada no governo de D. Pedro II foi a...

c) Principal riqueza do Segundo Reinado...

d) Preocupava-se com o desenvolvimento dos transportes, das comunicações e da indústria...

e) Nome da primeira locomotiva brasileira...

f) Além do ouro, o .... foi outro produto que enriqueceu Portugal.

A	C	D	B	A	R	O	N	E	S	A	O	O	R	R	E	P
R	A	U	I	O	O	P	U	J	L	F	R	O	I	T	U	A
R	F	S	E	J	I	U	T	O	J	O	P	N	O	P	I	U
A	É	I	U	I	T	U	F	O	K	L	O	L	A	I	S	B
G	U	E	R	R	A	D	O	P	A	R	A	G	U	A	I	R
L	S	E	G	U	N	D	O	R	E	I	N	A	D	O	U	A
T	U	D	O	P	E	L	S	E	R	T	U	I	O	P	A	S
E	B	V	I	S	C	O	N	D	E	D	E	M	A	U	Á	I
V	B	R	A	S	I	L	V	O	U	R	O	E	U	I	O	L

Atividade 10

Nome: _____

Data: __/__/____

Brasil República

1. Marque (**V**) para verdadeiro e (**F**) para falso.

( ) Depois da Proclamação da República Marechal Deodoro da Fonseca criou um governo provisório.

( ) A Primeira República começou em 1990.

( ) A primeira Constituição da República foi promulgada em 24 de fevereiro de 1891.

( ) Marechal Deodoro da Fonseca foi o primeiro Presidente da República.

2. Numere a 2ª coluna de acordo com a 1ª.

(1) Governo provisório

(2) República Velha

(3) República Nova

(4) República Contemporânea

(5) Nova República

( ) Começaram a acontecer manifestações em todo o país em favor de eleições livres para presidente.

( ) Teve início com a deposição de Getúlio Vargas e a eleição de Gaspar Dutra.

( ) Foi criado após a proclamação da República.

( ) Começou com a proclamação, em 1889, e terminou em 1930.

( ) Teve início com a vitória de Getúlio Vargas no movimento que ficou conhecido como "Revolução de 1930".

Atividade 11

Nome: _____

Data: __/__/____

Movimentos e lutas da história do Brasil

Pesquise e escreva no caderno sobre os itens pedidos.

a) Guerra de Canudos;
b) Guerra do Contestado;
c) Movimento dos Sem-Terra;
d) Revolta da Cabanagem;
e) Balaiada;
f) Sabinada;
g) Revolta dos Farrapos.

Não se esqueça de indicar:

a) Período em que ocorreu;
b) Onde ocorreu;
c) Motivo pelo qual ocorreu;
d) Quem foram os participantes;
e) Como o movimento finalizou.

Atividade 12

Nome: _____

Data: __/__/____

Presidentes da República Velha

Complete o quadro dos presidentes da República Velha de acordo com as datas.

Período	Presidente
1889 a 1891	
1891 a 1894	
1894 a 1898	
1898 a 1902	
1902 a 1906	
1906 a 1909	
1909 a 1910	
1910 a 1914	
1914 a 1918	
1918 a 1922	
1922 a 1926	
1926 a 1930	

Atividade 13

Nome: _____

Data: __/__/____

A volta do governo civil

Pesquise e responda no caderno.

1. O que foi a campanha "Diretas já" ? Qual foi o resultado desse movimento?
2. O que era a "Frente Liberal"?
3. De que modo Tancredo Neves foi eleito?
4. Por que Tancredo Neves não assumiu a Presidência da República?
5. Quem assumiu a Presidência nessa época?
6. Qual foi o objetivo do Plano Cruzado? Quem o implantou?
7. Qual presidente sucedeu José Sarney?
8. O que aconteceu no mandato de Fernando Collor de Mello que o impediu de concluí-lo?
9. Como estava o Brasil no momento em que Itamar Franco assumiu a presidência?
10. Escreva o nome do ministro da Fazenda nomeado por Itamar Franco no seu governo.

Atividade 14

Nome: _____

Data: __/__/____

Impostos na atualidade

1. Complete o quadro de impostos.

Sigla	Significado
IPVA	
IPTU	
CPMF	

2. Pesquise sobre o assunto e responda.

a) Na sua opinião, o dinheiro recolhido por meio dos impostos é usado de maneira adequada?

_____

_____

b) O que acontece quando o dinheiro arrecadado não é utilizado adequadamente? Quem perde?

_____

_____

Atividade 15

Nome: _____

Data: __/__/____

Constituição

1. Complete o quadro de acordo com as Constituições atual e anterior:

	Constituição de 1969	Constituição de 1988
Eleição por voto		
Greves		
Racismo		
Educação		
Indígenas		
Meio ambiente		

2. Aponte outras diferenças entre essas Constituições.

Atividade 1

Nome: _____

Data: __/__/____

Mapa do Brasil

1. Escreva as siglas dos Estados no mapa. Depois, pinte de amarelo o Estado onde você mora.



Atividade 2

Nome: _____

Data: __/__/____

Regiões brasileiras

1. O Brasil está organizado por regiões. Crie uma legenda para cada região e pinte o mapa.

☐ _____

☐ _____

☐ _____

☐ _____

☐ _____



2. Escreva as siglas dos Estados de cada região.

Norte		Nordeste
	Centro-Oeste	
Sul		Sudeste

Atividade 3

Nome: _____

Data: __/__/____

Planisfério

Escreva o nome dos continentes no mapa.

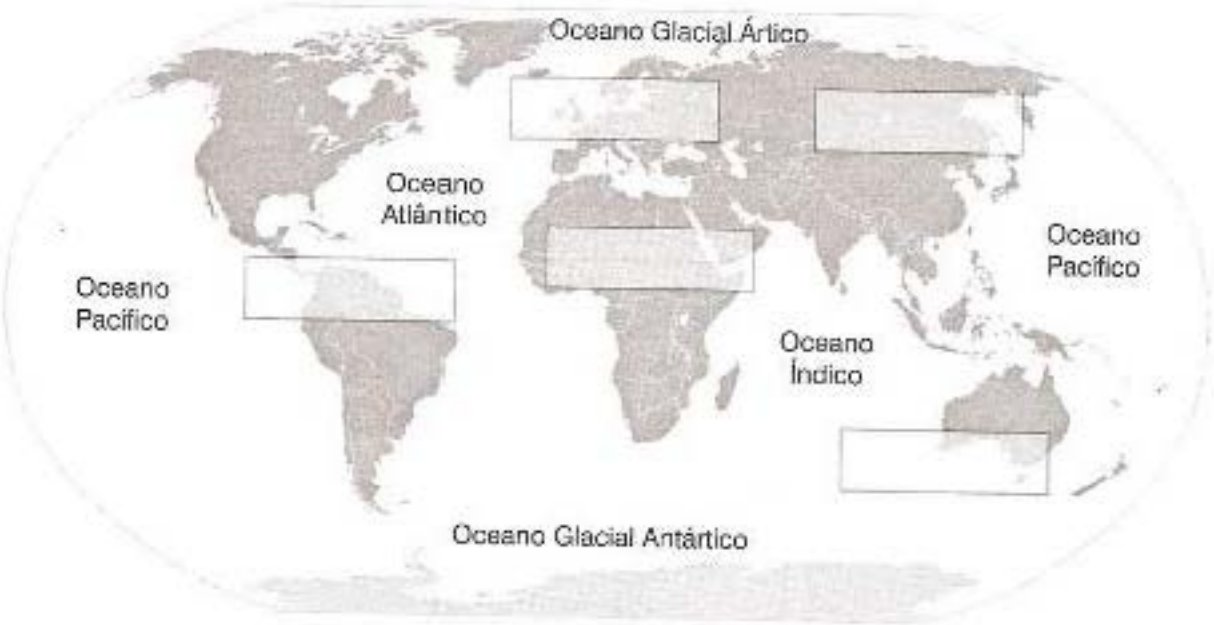

Atividade 4

Nome: _____

Data: __/__/____

Localizando o Brasil na Terra

1. Escreva o que se pede.

a) Meridiano que divide a Terra em dois hemisférios.

_____

b) Paralelo imaginário que divide a Terra em dois hemisférios.

_____

c) Linhas imaginárias paralelas ao Equador.

_____

d) Linhas imaginárias que circulam a Terra, passando pelos dois polos. _____

2. Responda:

a) Quais continentes passam pela linha do Equador?

_____

_____

b) Em qual continente o Brasil está localizado?

_____

_____

c) Qual paralelo fica próximo ao polo Norte?

_____

d) Qual paralelo fica próximo ao polo Sul?

_____

Atividade 5

Nome: _____

Data: __/__/____

Densidade demográfica

Pesquise e responda no caderno.

1. Escreva o nome dos Estados brasileiros em ordem crescente do mais populoso para o menos populoso. Considere o Distrito Federal.

2. Complete o quadro com informações de seu Estado.

Estado	Capital	População	Área por km²

3. Qual a densidade demográfica do seu Estado?

_____

4. Escreva o nome das companhias responsáveis em sua cidade.
   a) Água encanada _____
   b) Iluminação elétrica _____
   c) Esgoto _____
   d) Coleta de lixo _____

5. Defina:
   a) Censo demográfico

   _____

   b) Condições de vida dos brasileiros

   _____

Atividade 6

Nome: _____

Data: __/__/____

Transposição do rio São Francisco

Pesquise e responda.

1. Quais são os Estados banhados pelo rio São Francisco?

_____

_____

2. O que quer dizer "transposição do rio São Francisco"?

_____

_____

3. Quais Estados são/serão beneficiados com esse projeto?

_____

_____

4. Quando foi elaborado o primeiro projeto de transposição do rio São Francisco?

_____

_____

5. Qual a sua opinião a respeito do projeto?

_____

_____

As três Américas

eva o nome das Américas no mapa.



América do Sul

e um mapa da América do Sul e responda.

o maior país da América do Sul?

s são os oceanos que banham a América do Sul?

eva o nome dos países sul-americanos que fazem eira com o Brasil.

eva o nome dos países sul-americanos que não fazem eira com o Brasil.

s países da América do Sul são cortados pela linha quador?

s países da América do Sul não são banhados pelos nos?

Atividade 9

Nome: _____

Data: __/__/____

Rosa dos ventos

Escreva o nome dos pontos cardeais e colaterais.

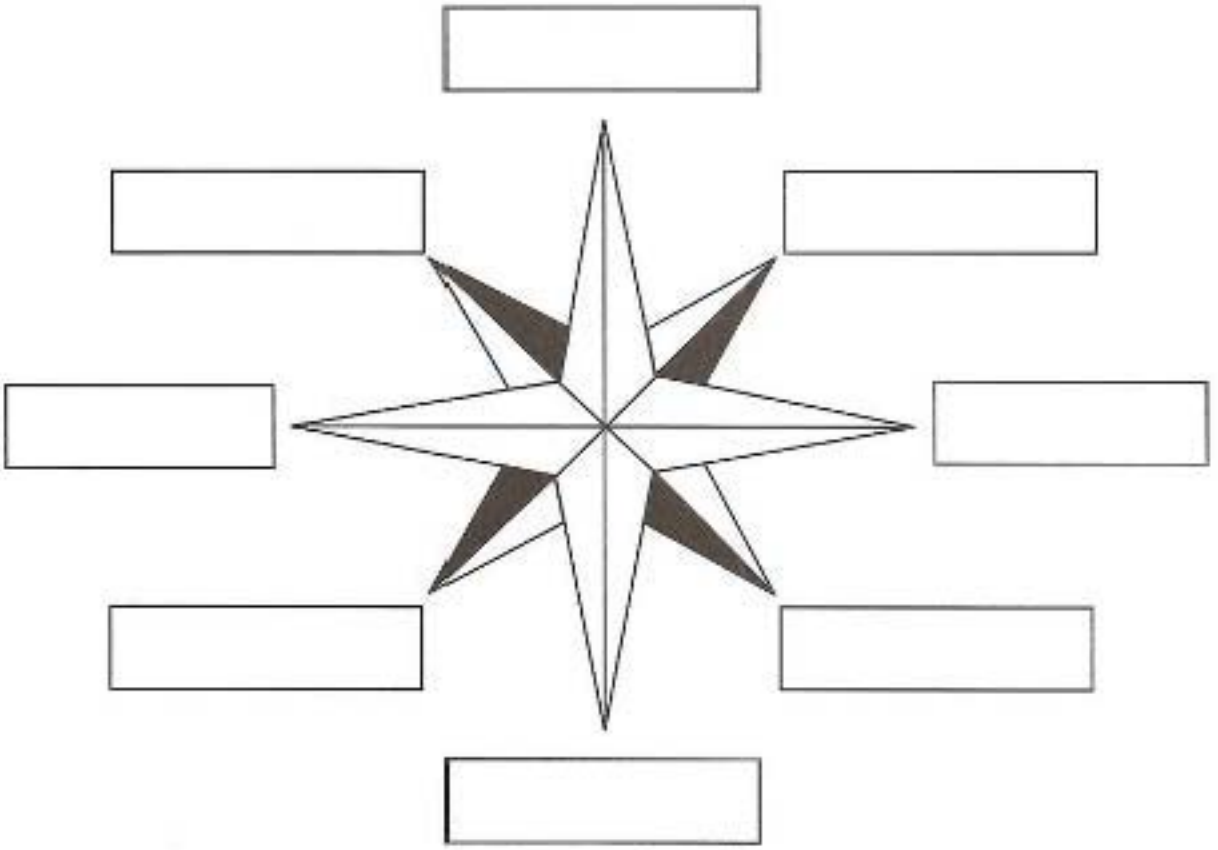

Atividade 10

Nome: _____

Data: __/__/____

Formas de relevo

Identifique as formas de relevo de acordo com as características.



É uma grande elevação de terreno. O ponto mais elevado chama-se pico. Os lados são as encostas ou vertentes, e a parte mais baixa é a base ou sapé.



Terreno muito íngreme, de 100 a 800 metros de altitude. Lembra um degrau. Ocorre na passagem de áreas baixas para um planalto.



Superfície entre 100 e 500 metros de altitude com suave inclinação, formada por prolongados processos de erosão.
É mais plana do que o planalto.



É uma elevação menor do que a montanha.



É um terreno elevado, com o topo geralmente plano e as encostas bem inclinadas.

Atividade 11

Nome: _____

Data: __/__/____

Seu Estado

Faça uma pesquisa sobre o Estado onde você mora, seguindo o roteiro abaixo. Anote as informações no caderno.

1. Nome do Estado e da Capital.

2. Cidades economicamente mais importantes.

3. Principais rios existentes.

4. É banhado pelo mar?

5. Clima predominante.

6. Vegetação predominante.

7. Forma de relevo predominante.

8. Serra ou serras mais importantes.

9. Principais atividades econômicas.

10. População total.

11. Número de habitantes por km².

12. Número de eleitores.

13. Nome do governador.

14. Nome do prefeito de sua cidade.

Atividade 12

Nome: _____

Data: __/__/____

Litoral brasileiro

Indique o nome do acidente geográfico.

restinga praia ponta oceano

mar lago cabo baía ilha

1. Ponta de terra que avança para o mar.

_____

2. Porção de terra cercada de água por todos os pontos.

_____

3. Reentrância da costa pela qual o mar avança para a terra.

_____

4. Porção de terra pouco elevada que avança para o mar.

_____

5. Grande extensão de água salgada que fica entre os continentes.

_____

6. Parte do oceano em contato direto com o continente.

_____

7. Porção mais baixa do terreno coberta de água.

_____

8. Faixa de terra coberta de areia, próxima ao mar.

_____

9. Faixa de areia, geralmente paralela ao litoral, acumulada pela ação das águas do mar.

_____

Atividade 13

Nome: _____

Data: __/__/____

Partes de um rio

Escreva o nome das partes do rio.



Atividade 14

Nome: _____

Data: __/__/____

Vegetação

Pesquise e responda.

1. Que tipo de vegetação predomina no Estado onde você vive?

_____

2. Como é a vegetação da caatinga?

_____

_____

3. Como é a vegetação do cerrado?

_____

_____

4. Como é a vegetação do pantanal?

_____

_____

5. Qual é a maior floresta brasileira? Em que região brasileira ela está inserida?

_____

_____

6. Como é a vegetação litorânea?

_____

_____

Atividade 15

Nome: _____

Data: __/__/____

Clima

Escreva o clima de acordo com a característica.

Subtropical	Tropical	Tropical úmido

Semiárido	Equatorial	Tropical de altitude

1. Tem temperaturas mais baixas devido à altitude.

_____

2. É predominante na Região Leste do país. Também chamado de litorâneo úmido.

_____

3. Há chuvas abundantes durante quase todo ano.

_____

4. Clima predominante do sertão nordestino. Muito quente com pouca chuva.

_____

5. Ocorre na maior parte do Brasil. Quente e chuvoso no verão e mais frio e seco no inverno.

_____

6. Quente no verão e frio no inverno.

_____

Atividade 1

Nome: _____

Data: __/__/____

Tipos de solo

Numere a 2ª coluna de acordo com a 1ª.

(**1**) Solo humífero

(**2**) Solo argiloso

(**3**) Solo calcário

(**4**) Solo arenoso

( ) Deixa a água passar rapidamente. É seco e pode apresentar cores variadas.

( ) Tem a cor escura resultante da decomposição dos restos de animais e vegetais mortos. É uma terra excelente para a agricultura.

( ) É um solo bastante encontrado no Brasil. É rico em cálcio.

( ) É uma terra fofa, macia e rica em argila.



Atividade 2

Nome: _____

Data: __/__/____

A Lua

Pesquise e responda.

1. Quais são as fases da Lua?

_____

_____

2. A Lua produz luz? Explique.

_____

_____

3. Quanto tempo duram aproximadamente as fases da Lua?

_____

4. Observe a Lua hoje à noite.

a) Desenhe a forma que a Lua apresenta.

b) Qual é a fase da Lua hoje?

_____

Atividade 3

Nome: _____

Data: __/__/____

Sistema solar

Pesquise e responda.

1. Quais são os planetas do Sistema Solar?

_____

_____

2. Além dos planetas, que outros astros fazem parte do Sistema Solar?

_____

3. Como se chama o caminho que cada astro percorre?

_____

4. Como se chama o movimento feito pela Terra em torno:

a) de si mesmo _____

b) do Sol _____

5. O que são satélites?

_____

_____

6. Qual é o satélite natural da Terra?

_____

Atividade 4

Nome: _____

Data: __/__/____

Movimentos de rotação e translação

O Planeta Terra está sempre se movimentando no espaço.
A Terra gira em torno de si mesma e em torno do Sol.
Esses dois movimentos acontecem ao mesmo tempo.

Circule os enunciados corretos em relação aos movimentos.

vermelho: movimento de rotação

azul: movimento de translação

1. Gira em torno do Sol.

2. Gira em torno de si mesmo.

3. Leva 24 horas para dar uma volta completa.

4. Leva 365 dias e 6 horas para dar uma volta completa.

5. Esse movimento é responsável pelos dias e pelas noites.

6. Esse movimento é responsável pelas estações do ano.

Atividade 5

Nome: _____

Data: __/__/____

Ossos do corpo humano

Descubra os ossos por meio das dicas.

1. São doze pares.



_____

2. Formam a coluna vertebral.



_____

3. Único osso do braço.



_____

4. Osso que fica no peito.

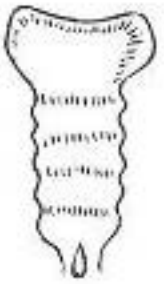

_____

5. Osso que liga os braços ao tronco.



_____

6. Maior osso do corpo.



_____

Atividade 6

Nome: _____

Data: __/__/____

Alimentação e nutrição

Pesquise e responda.

1. Que alimentos são ricos em **proteína**?

_____

_____

2. Cite alimentos nos quais são encontrados **açúcares** em quantidades maiores.

_____

_____

3. Que alimentos são ricos em **gorduras**?

_____

_____

4. Em quais alimentos as **vitaminas** são encontradas em maior quantidade?

_____

_____

5. Que alimentos contêm **sais minerais**?

_____

_____

6. Qual a importância da **água** para o organismo humano?

_____

_____

Atividade 7

Nome: _____

Data: __/__/____

Corpo humano

1. Quais órgãos compõem o sistema urinário?

_____

2. Qual a função do sistema urinário?

_____

_____

3. Qual é a função do sistema digestório?

_____

_____

4. Quais são os sentidos humanos e seus órgãos?

_____

_____

5. Qual a função do coração?

_____

_____

6. O que é:

a) inspiração: _____

b) expiração: _____

Atividade 1

Nome: _____

Data: __/__/____

Encontros vocálicos

Leia as palavras abaixo e faça o que se pede.

língua	averiguei	céu	saída
limão	paulada	saguão	cacau
Paraguai	irmão	degrau	riacho
piolho	ratoeira	Uruguai	cachoeira
poeira	geladeira	quota	bombeiro
leite	saúde	mamão	moeda

a) Pinte de azul as palavras que contêm ditongos;
b) Pinte de amarelo as palavras que contêm hiatos;
c) Pinte de verde as palavras que contêm tritongos.

