PERINGKAT 1



SKD CPNS

2021/2022

- KISI-KISI TERBARU CPNS 2021
- ALUR SISTEM SELEKSI ASN
- PERTANYAAN SEPUTAR CPNS
- FULL 110 SOAL SKD CPNS

DILENGKAPI
SOAL
ANTI-
RADIKALISME

SESUAI KISI-KISI PERMENPAN RB TAHUN 2021

FREE
ANDROID APP

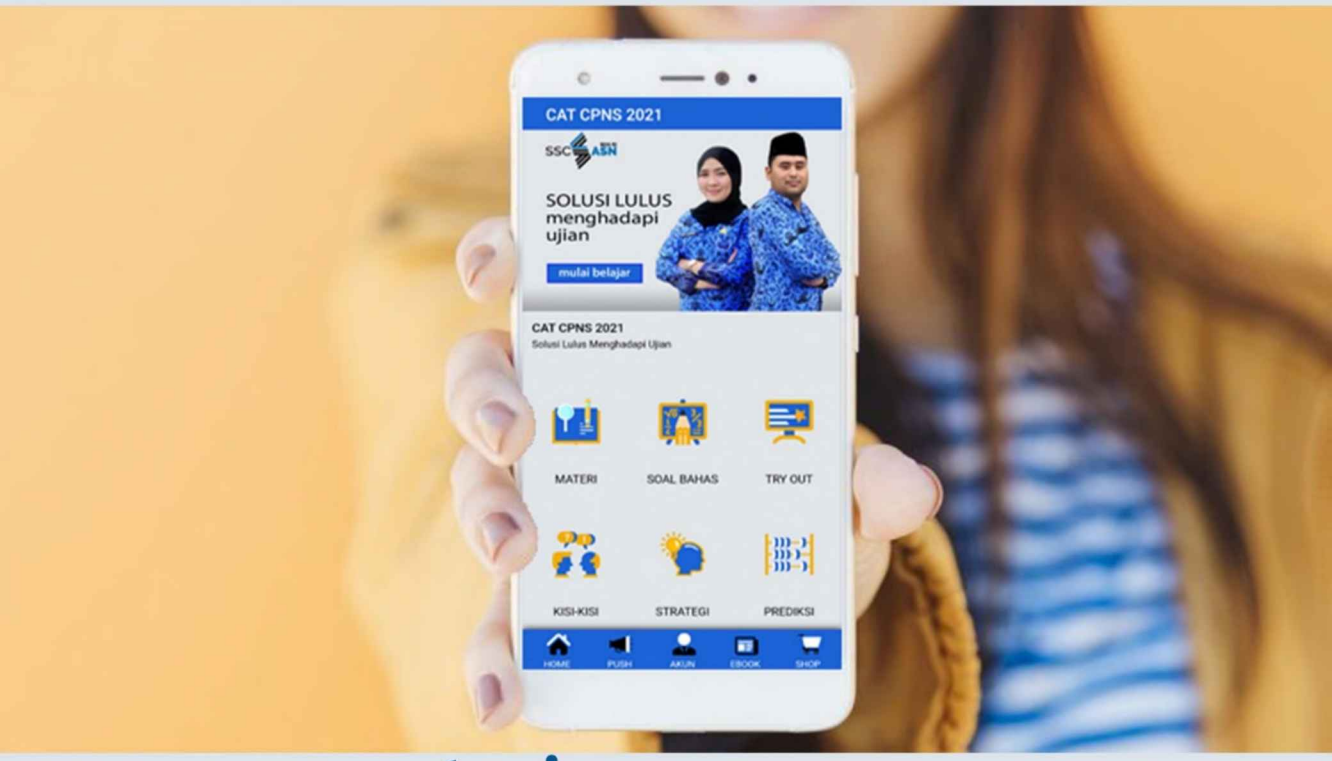

materi
soal bahas
try out
prediksi

free akses

GET IT ON Google Play

FREE
video tutorial

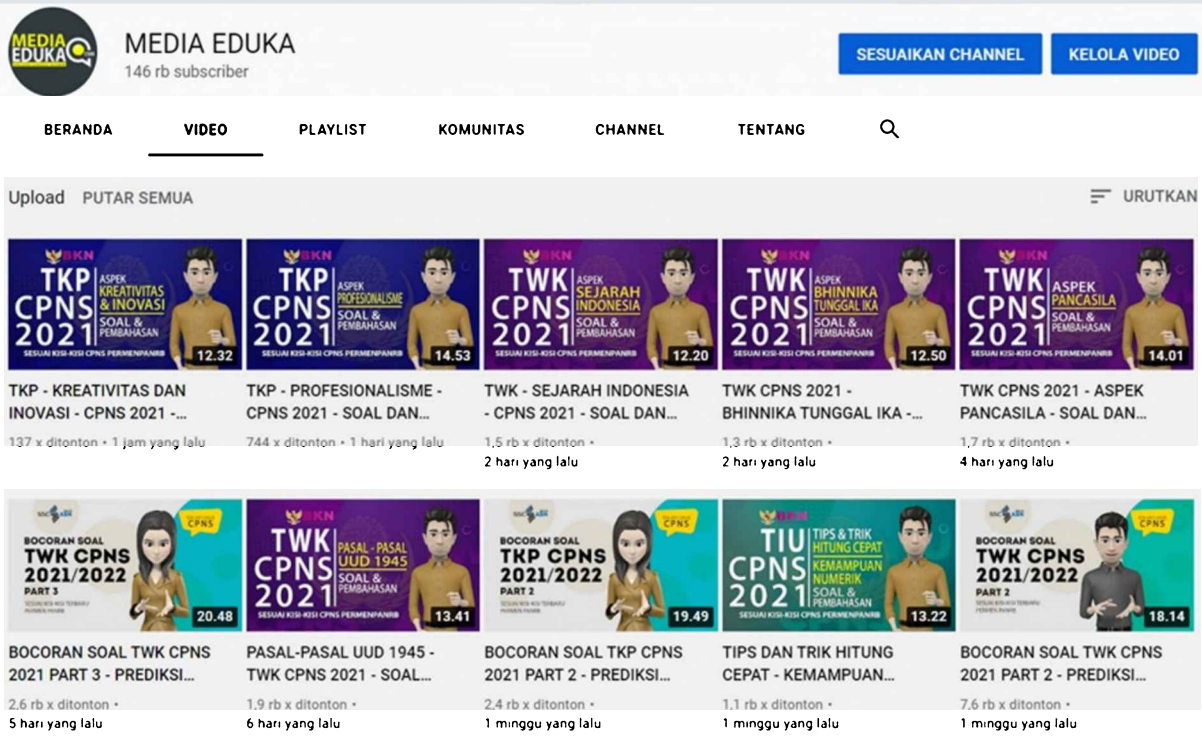

video materi & soal bahas prediksi bocoran soal

free akses scan QR

FREE
kursus online

Teacher ADMIN | Categories CPNS | Review ☆☆☆☆☆ (0 REVIEW)

Free TAKE THIS COURSE



Overview | Curriculum | Instructor | Reviews

video materi & soal bahas

free akses scan QR

PERINGKAT 1

SKD CPNS 2021

Penyusun : Tim CPNS – MediaEduka

Penyunting : Tim Mediaeduka
Desain : Tim Mediaeduka
Desain isi : Tim Mediaeduka
Editor : Tim Mediaeduka
Digitalisasi : Tim Mediaeduka

Diterbitkan oleh : MEDIA EDUKA

WA & TELEGRAM : 085777779483
Email: mediaeduka@gmail.com
Website : mediaeduka.com

Hak cipta dilindungi undang-undang. Dilarang mengutip atau memperbanyak sebagian atau seluruh isi ebook ini tanpa izin tertulis dari Tim Media Eduka.

KATA PENGANTAR

Seleksi Penerimaan CPNS menggunakan Computer Assisted Test (CAT) berbasis komputer. Pada seleksi kompetensi dasar atau SKD CPNS menggunakan CAT, setiap peserta bakal diberi waktu 100 menit untuk mengerjakan tiga tes yaitu 30 soal Tes Wawasan Kebangsaan, 35 soal Tes Intelengensia Umum, dan 45 soal Tes Kemampuan Pribadi.

Ebook Peringkat 1 SKD CPNS 2021/2022 ini disusun berdasarkan kisi-kisi terbaru yang dikeluarkan oleh KEMENPAN RB. Setiap soal langsung dikupas pembahasannya, sehingga mudah untuk dipelajari dan dimengerti. Dilengkapi soal-soal Tes Kemampuan Bidang dengan pembahasan yang lengkap dan detail.

Solusi terbaik bagi peserta untuk menghadapi Tes CPNS. Selain soal plus pembahasan, dilengkapi ksi-kisi terbaru, dan info seputar pertanyaan CPNS. Selain itu, ada bonus scan barcode untuk akses video kumpulan soal pembahasan dan install gratis untuk mendapatkan Apps android khusus TES CPNS.

Tim Media Eduka

DAFTAR ISI

KATA PENGANTAR 06

DAFTAR ISI 07

KISI – KISI TERBARU CPNS 08

ALUR SISTEM SELEKSI CALON ASN 10

PERTANYAAN SEPUTAR PENDAFTARAN CPNS 12

BAPER (BAHAS PER/SOAL) SKD (SELEKSI KEMAMPUAN DASAR)

- TES WAWASAN KEBANGSAAN 18
- TES INTELEGENSIA UMUM 38
- TES KEMAMPUAN PRIBADI 64

TENTANG PENULIS 103

DAFTAR PUSTAKA 104

KISI-KISI CPNS

KISI-KISI TWK CPNS

No.	Materi	Prediksi
1.	Nasionalisme	7
2.	Integritas	8
3.	Bela Negara	7
4.	Pilar Negara	8
TOTAL		30

KISI-KISI TKP CPNS

No.	Kompetensi Dasar	Prediksi
1.	Pelayanan Publik	8
2.	Jejaring Kerja	8
3.	Sosial Budaya	7
4.	Teknologi, Informasi, dan Komunikasi	7
5.	Profesionalisme	8
6.	Anti-radikalisme	7
TOTAL		45

KISI-KISI TIU CPNS

No.	Kompetensi Dasar	Materi	Prediksi
1.	Penalaran Verbal (kemampuan menyampaikan informasi secara lisan maupun tertulis)	Analogi	3
		Silogisme	3
		Analitis	4
2.	Penalaran Numerikal (kemampuan melakukan operasi perhitungan angka dan melihat hubungan di antara angka-angka)	Berhitung	4
		Deret Angka	3
		Perbandingan Kuantitatif	4
		Soal Cerita	3
3.	Penalaran Figural (kemampuan melakukan penalaran secara runtut dan sistematik)	Analogi	4
		Ketidaksamaan	3
		Serial	4
TOTAL			35

Note:
Kisi-kisi sesuai dengan PERMEN PAN RB terbaru.
Jumlah soal = 110 soal dengan alokasi waktu 100 menit.

ALUR SISTEM
SELEKSI CALON ASN

1. **Daftar Akun**
   - Pelamar mengakses Portal SSCASN di https://sscasn.bkn.go.id
   - Buat akun SSCASN
   - Login ke akun SSCASN yang telah dibuat
   - Lengkapi biodata dan unggah swafoto

2. **Daftar Formasi**
   - Pilih jenis seleksi
   - Pilih formasi
   - Unggahdokumen
   - Cek resume dan akhiri pendaftaran
   - Cetak Kartu Informasi Akun dan kartu Pendaftaran Akun

3. **Seleksi Administrasi**
   - Panitia memverifikasi data pelamar
   - Panitia mengumumkan hasil Seleksi Administrasi
   - Pelamar yang dinyatakan tidak lulus dapat menyanggah hasil Seleksi Administrasi
   - Panitia mengumumkan hasil sanggah
   - Pelamar yang dinyatakan lulus melakukan cetak Kartu Ujian

4. Seleksi Kompetensi Dasar (SKD)

- Pelamar melaksanakan Ujian Seleksi Kompetensi Dasar
- Panitia mengumumkan hasil Seleksi Kompetensi Dasar
- Pelamar yang dinyatakan tidak lulus dapat menyanggah hasil Seleksi Kompetensi Dasar
- Panitia mengumumkan hasil sanggah
- Pelamar yang dinyatakan lulus dapat melanjutkan proses ke tahap Ujian Seleksi Kompetensi Bidang

5. Seleksi Kompetensi Bidang (SKB)

- Pelamar melaksanakan Ujian Seleksi Kompetensi Bidang
- Panitia mengumumkan hasil Seleksi Kompetensi Bidang
- Pelamar yang dinyatakan tidak lulus dapat menyanggah hasil Seleksi Kompetensi Bidang

6. Pengumuman Kelulusan

- Panitia mengumumkan hasil sanggah Seleksi Kompetensi Bidang (pengumuman ini bersifat mutlak dan tidak dapat diganggu gugat)
- Pelamar yang dinyatakan lulus melakukan pemberkasan

PERTANYAAN SEPUTAR PENDAFTARAN CPNS

PENDAFTARAN AKUN

1. **Apakah SSCASN itu?**
   SSCASN atau Sistem Seleksi Calon Aparatur Sipil Negara adalah situs resmi pendaftaran ASN secara nasional sebagai pintu pendaftaran pertama seleksi ASN ke seluruh instansi baik Pusat maupun Daerah dan dikelola oleh Badan Kepegawaian Negara RI sebagai Panitia Seleksi Penerimaan Nasional yang dapat diakses dengan alamat https://sscasn.bkn.go.id.

2. **Bagaimana jika data Nomor Induk Kependudukan (NIK), Nomor Kartu Keluarga (KK), Nama Lengkap sesuai KTP, Tempat Lahir sesuai KTP, Tanggal Lahir sesuai KTP saya tidak ditemukan/tidak sesuai di halaman Akun:**

   1. Pendaftar menghubungi Dinas Dukcapil Kab/Kota masing-masing untuk konsolidasi data dan
   2. Menghubungi call center Halo Dukcapil, dengan mengirimkan data sesuai format berikut:
      # NIK # Nama_Lengkap # Nomor_Kartu_Keluarga
      # Nomor_Telp # Permasalahan
      Layanan Helpdesk Ditjen Dukcapil:
      Hotline : 1500537
      WA : 08118005373
      SMS : 08118005373
      Email : callcenter.dukcapil@gmail.com

3. **Bagaimana jika muncul informasi "NIK sudah terdaftar" ketika membuat akun pendaftaran?**

   Silahkan akses halaman Helpdesk SSCASN di https://helpdesk-sscasn.bkn.go.id kemudian pilih menu "NIK didaftarkan orang lain" dan lengkapi form isian yang tersedia.

4. **Bagaimana pengisian data "Nama" yang benar?**

   "Nama" yang diisikan adalah sesuai nama yang tertera pada ijazah tanpa gelar.

5. **Apakah saya dapat melamar lebih dari 1 (satu) jabatan?**

   Untuk formasi CPNS, setiap pelamar CPNS HANYA dapat mendaftar 1 (satu) formasi jabatan pada 1 (satu) instansi dalam 1 (satu) kali periode pendaftaran.

6. **Apakah yang dimaksud dengan periode pendaftaran?**

   Periode pendaftaran adalah satu kurun waktu tertentu dimana beberapa instansi yang membuka pendaftaran pada periode yang bersamaan.

7. **Apa yang dimaksud dengan formasi khusus?**

   Formasi khusus adalah formasi lain yang diatur sesuai dengan Peraturan Menteri Pendayagunaan Aparatur Sipil Negara dan Reformasi Birokrasi Nomor 23 Tahun 2019 yaitu:
   1. Putra/Putri Lulusan Terbaik Berpredikat "Dengan Pujian"/Cumlaude;
   2. Diaspora;
   3. Penyandang Disabilitas;
   4. Putra/Putri Papua dan Papua Barat; dan
   5. Tenaga Pengamanan Siber (cyber security).

8. Bagaimana jika kode Captcha tidak terbaca atau tidak tampil?

Lakukan clear history (bersihkan riwayat dan cookies) kemudian refresh browser Anda.

9. Bagaimana jika data tempat lahir saya tidak ada di referensi?

Data tempat lahir yang digunakan sampai pada Daerah Tingkat II (Kab/Kota) pada saat Anda lahir dan bukan data wilayah pemekaran saat ini. Pastikan data tempat lahir yang Anda ketikkan benar. Jika masih membutuhkan penambahan referensi maka dapat melakukan permintaan penambahan data tempat lahir dengan menuju ke halaman Helpdesk SSCASN di https://helpdesk-sscasn.bkn.go.id

10. Bagaimana jika Perguruan Tinggi saya tidak ada di referensi?

Silahkan akses halaman Helpdesk SSCASN di https://helpdesk-sscasn.bkn.go.id kemudian pilih menu "Perguruan Tinggi Tidak Ditemukan" dan lengkapi form isian yang tersedia.

11. Setelah melakukan pendaftaran akun SSCASN 2021, apakah bisa langsung login untuk melanjutkan pengisian biodata pendaftaran?

Setelah melakukan pendaftaran akun SSCASN 2021, maka Anda dapat langsung melakukan pengisian biodata pendaftaran dengan login menggunakan NIK serta password yang sudah dibuat di halaman akun.

12. Bagaimana cara mengecek lowongan informasi yang tersedia?

Silahkan akses halaman SSCASN di https://sscasn.bkn.go.id dan kemudian pilih menu Layanan Informasi -> Info Lowongan kemudian lengkapi form isian yang dibutuhkan.

13. Bagaimana jika saat pengisian pendaftaran koneksi terputus?

Pastikan Koneksi internet yang digunakan dalam kondisi stabil. Refresh ulang browser yang digunakan. Login kembali jika diperlukan, lalu ulangi proses pendaftaran.

SYARAT PENDAFTARAN CPNS

1. Siapa saja yang dapat mendaftar pada Seleksi CPNS?

Warga Negara Indonesia yang berkeinginan dan memenuhi syarat sesuai peraturan masing-masing instansi (Formasi, Jabatan, dll) selama batas usia yang dipersyaratkan terpenuhi.

2. Berapa batas usia Pelamar SSCASN?

Saat mendaftar batas usia pelamar SSCASN minimal 18 tahun dan maksimal 35 tahun atau maksimal 40 tahun bagi pelamar yang melamar jabatan Dokter Spesialis dan Dokter Gigi Spesialis. Dosen, Peneliti, dan Perekayasa yang memiliki kualifikasi pendidikan Strata 3 (Doktor) sesuai Peraturan Menteri Pendayagunaan Aparatur Sipil Negara dan Reformasi Birokrasi Nomor 23 Tahun 2019

3. Ketentuan Umum Pelamar yang dapat mendaftar pada Seleksi CPNS?

1. Tidak pernah dipidana dengan pidana penjara 2 tahun atau lebih;
2. Tidak pernah diberhentikan dengan hormat tidak atas permintaan sendiri atau dengan hormat sebagai PNS/Prajurit TNI/Kepolisian Negara RI;
3. Tidak pernah diberhentikan tidak dengan hormat sebagai pegawai swasta;
4. Tidak berkedudukan sebagai CPNS, PNS, prajurit TNI, atau anggota Kepolisian Negara RI;
5. Tidak menjadi anggota/pengurus Parpol atau terlibat politik praktis;
6. Memiliki kualifikasi pendidikan sesuai dengan persyaratan Jabatan;
7. Sehat jasmani dan rohani sesuai dengan persyaratan Jabatan yang dilamar;
8. Bersedia ditempatkan di seluruh wilayah NKRI atau negara lain yang ditentukan oleh Instansi Pemerintah.

DOKUMEN PENDAFTARAN CPNS

1. **Bagaimana cara unggah dokumen persyaratan?**

   Pastikan ukuran file dan jenis file yang akan di unggah tidak melebihi dari batasan masing masing dokumen yang dipersyaratkan di SSCASN. Apabila melebihi dari batasan ukuran yang ditetapkan, maka secara otomatis file atau dokumen yang Anda unggah akan ditolak oleh sistem.

2. **Bagaimana jika saya gagal unggah dokumen persyaratan?**

   Silahkan refresh halaman dan pastikan ukuran file dan jenis file yang akan di unggah tidak melebihi dari batasan masing-masing dokumen yang dipersyaratkan dalam aplikasi SSCASN.

3. **Dokumen apa saja dan berapa ukuran dan tipe file yang diunggah?**

   - Scan Pas Foto berlatar belakang merah maksimal 200 Kb bertipe file jpeg/jpg.
   - Scan Swafoto maksimal 200 Kb bertipe file jpeg/jpg.
   - Scan KTP maksimal 200 Kb bertipe file jpeg/jpg.
   - Scan Surat Lamaran maksimal 300 Kb bertipe file pdf.
   - Scan Ijazah + Serdik/STR maksimal 800 Kb bertipe file pdf.
   - Scan Transkrip Nilai maksimal 500 Kb bertipe file pdf.
   - Scan Dokumen Pendukung lainnya maksimal 800 Kb bertipe file pdf.

SSC ASN BKN-RI

SELEKSI PENERIMAAN CPNS



TES WAWASAN KEBANGSAAN (TWK)

SSC ASN BKN-RI

Panitia Seleksi Nasional | Badan Kepegawaian Negara

1. Membina persatuan dan kesatuan dihubungkan dengan semboyan Bhineka Tunggal Ika mengandung makna bahwa ….

   A. Dalam bergaul harus daapat menyesuaikan diri
   B. Kebudayaan daerah harus terus dilestarikan
   C. Dalam pergaulan tidak boleh membedakan suku
   D. Kebudayaan masyarakat tidak tergantikan budaya lain
   E. Keanekaragaman tak mungkin dipersatukan

BAHAS PER/SOAL:

Secara harfiah Bhineka Tunggal Ika diterjemahkan Beraneka Satu Itu, yang bermakna meskipun berbeda-beda tetapi pada hakikatnya bangsa Indonesia tetap adalah satu kesatuan. Semboyan ini digunakan untuk menggambarkan persatuan dan kesatuan Bangsa dan Negara Kesatuan Republik Indonesia yang terdiri atas beraneka ragam budaya, bahasa daerahh, ras, suku bangsa, agama dan kepercayaan sehingga dalam membina persatuan dan kesatuan dalam pergaulan tidak boleh membedakan suku

Jawaban: C

2. Pak Suyatno adalah orang yang sombong. Ia selalu menilai orang dari kekayaan dan kedudukannya.
   Sikap Pak Suyatno bertentangan dengan sila ….

   A. Ketuhanan Yang Maha Esa
   B. Kemanusiaan yang adil dan beradap
   C. Persatuan Indonesia
   D. Kerakyatan yang dipimpin oleh hikmat kebijaksaan dalam permusyawaratan perwakilan
   E. Keadilan bagi seluruh rakyat Indonesia

BAHAS PER/SOAL:

Sifat sombong sangat tidak sesui dengan sila ke dua, yaitu kemanusiaan yang adil dan beradap. Adapaun beberapa sifat lainya yang bertentangan dengan sila kedua, yaitu :

Mementingkan dirinya sediri, mencela hak dan/atau kewajiban orang lain, membenci orang lain, tidak mau bergotong-royong, dan tidak mau menolong orang yang sedang kesusahan.

Jawaban: B

3. Pembangunan tidak boleh bersifat pragmatis, hal ini berarti ….

A. Pembangunan tidak hanya mementingkan tindakan nyata dan mengabaikan pertimbangan etis
B. Pembangunan tidak boleh secara mutlak melayani ideologi tertentu dan mengabaikan manusia nyata
C. Pembangunan tidak boleh mengorbankan manusia nyata melainkan menghormati harkat dan martabat bangsa
D. Pembangunan melibatkan masyarakat sebagai tujuan pembangunan keputusan yang menyangkut kebutuhan mereka
E. Pembangunan mengutamakan mereka yang paling lemah untuk menghapuskan kemiskinan struktural

BAHAS PER/SOAL:

Pancasila sebagai pradigma dijabarkan dalam pembangunan sehingga proses dan hasil pembangunan sesuai dengan Pancasila. Sebagaimana pembangunan tidak boleh bersifat pragmatis, yaitu pembangunan itu tidak hanya mementingkan tindakan nyata dan mengabaikan pertimbangan etis.

Jawaban: A

4. Pembangunan yang dilaksanakan mengacu pada standar nilai Pancasila adalah maksud dari ….

   A. Pancasila sebagai ideologi terbuka
   B. Pancasila sebagai ideologi tertutup
   C. Pancasila sebagai nilai instrumental
   D. Pancasila sebagai dasar negara
   E. Pancasila sebagai paradigma pembangunan

BAHAS PER/SOAL:

Pancasila sebagai paradigm, artinya nilai-nilai dasar pancasila secara normative menjadi dasar, kerangka acuan, dan tolak ukur segenap aspek pembangunan nasional yang dijalankan Indonesia. Pembangunan dilaksanakan di berbagai bidang yang mencakup seluruh aspek kehidupan manusia yang mengacu pada standar nilai Pancasila adalah maksud dari Pancasila sebagai paradigm pembangunan.

Jawaban: E

5. Berikut ini yang termasuk dimensi realitas sila ke-3 Pancasila, kecuali ….

   A. Menghidari sikap chauvinisme dan primodiallisme secara tepat
   B. Memajukan pergaulan demi kemajuan bangsa
   C. Membina hubungan baik dengan semua unsur bangsa
   D. Mengembangkan sikap saling tenggang rasa dan tepa selira
   E. Rela berkorban demi kepentingan bangsa dan negara

BAHAS PER/SOAL:

Dimensi Realitas, adalah nilai-nilai dasar yang tercamtum di ideologi dan mencerminkan kenyataan hidup yang ada di dalam masyarakat dimana ideologi itu ada untuk pertama kalinya.

Dari pilihan jawaban di atas, yang tidak termasuk dalam dimensi reaitas sila ke-3 adalah mengembangkan sikap saling tenggang rasa.

Jawaban: D

6. Mengembangkan sikap bahwa bangsa Indonesia merupakan bagian dari seluruh umat manusia merupakan perwujudan sila ….

A. Pertama
B. Kedua
C. Ketiga
D. Keempat
E. Kelima

BAHAS PER/SOAL:

Salah satu pengamalan Pancasila sila ke-2 (Kemanusiaan Yang Adil dan Beradab) adalah bangsa Indonesia merasa dirinya sebagai bagian dari seluruh umat manusia dengan mengembangkan sikap hormat menghormati dan bekerjasama dengan bangsa lain.

Jawaban: B

7. Pancasia sebagai pradigama pembangunan politik harus mampu ….

A. Menjadikan rakyat sebagai subjek politik bukan objek politik
B. Menjadi sumber dari segala sumber hukum
C. Pengontrol atas kekuasaan yang absolut
D. Pedoman hidup berkebangsaan
E. Memberi perlindungan hak asasi bagi rakyat

BAHAS PER/SOAL:

Pancasila sebagai paradigma, artinya nilai-nilai dasar pancasila secara normatif berisi anggapan dasar, kerangka acuan, keyakinan, acuan, serta pedoman dalam perencanaan, pelaksanaan dan pengawasan, dan pemanfaatan hasil-hasil pembangunan nasional yang dijalankan di Indonesia, serta menjadikan rakyat sebagai subjek politik bukan objek politik.

Jawaban: A

8. Menurut pernyataan dalam pembukaan UUD 1945 perjuangan kemerdekaan merupakan tindakan yang diberkati oleh Allah karena ...

A. Kehidupan kebangsaan yang bebas merupakan keinginan luhur
B. Bangsa Indonesia adalah bangsa yang religius
C. Kemerdekaan itu sudah lama diperjuangkan
D. Banyak pengorbanan yang harus diberikan untuk mendapatkan kemerdekaan
E. Kemerdekaan karunia Allah yang tidak perlu diperjuangkan

BAHAS PER/SOAL:

Sesuai dengan pembukaan UUD 1945 *Atas berkat rahmat Allah Yang Maha Kuasa dan dengan didorongkan oleh keinginan luhur, supaya berkehidupan kebangsaan yang bebas, maka rakyat Indonesia menyatakan dengan ini kemerdekaannya.* Dan sila pertamanya berbunyi **Ketuhanan Yang Maha Esa.** Berarti seluruh warga negara wajib mempunyai agama atau keyakinan dalam rangka menyadari akan Tuhan Yang Maha Esa. Dapat disimpulkan bahwa Bangsa Indonesia adalah bangsa yang religius.

Jawaban: B

9. Salah satu bentuk pengamalan sila ke-4 di bawah ini adalah ….

A. Kita tidak boleh memaksakan kehendak kita kepada orang lain
B. Mengembangkan sikap hormat menghormati dan bekerjasama dengan bangsa lain
C. Menjujung tinggi Hak Asasi Manusia
D. Menyadari bahwa kita mempunyai hak dan kewajiban yang sama
E. Mengembangkan sikap saling mencintai sesama manusia

BAHAS PER/SOAL:

Sila keempat yaitu kerakyatan yang dipimpin oleh khidmat kebijaksaan dalam permusyawaratan perwakilan. Saat bermusyawarah kita tidak boleh menyela atau mengabaikan pendapat orang lain. Kita juga tidak boleh memaksakan kehendak kita kepada orang lain.

Dalam sila ini harus diwujudkan musyawarah yang baik dan lancer, oleh sebab itu indnesia juga menganut musyawarah sebagai penentuan keputusan utama.

Jawaban: A

10. Rumusan dan susunan Pancasila yang benar dan sah tercantum dalam ….

A. Pidato Moh. Yamin tanggal 29 Mei 1945
B. Piagam Jakarta
C. Pidato Bung Karno tanggal 1 Juni 1945
D. Pembukaan UUD 1945
E. Mukadimah Konstitusi Sementara RIS

BAHAS PER/SOAL:

Rumusan dan susunan Pancasila yang benar dan sah tercantum dalam pembukaan UUD 1945 yang telah disahkan oleh PPKI pada tanggal 18 Agustus 1945. Berkaitan dengan hal tersebut Ir. Sukarno mengeluarkan instruksi No. 12/1968 pada tanggal 13 April 1968.

Jawaban: D

11. Janji kemerdekaan yang akan diberikan Jepang setelah kekalahan Jepang pada saat Perang Dunia II diumumkan oleh ….

A. Laksamana Maeda
B. Perdana Menteri Kyoto
C. Ichikawa Taisho
D. Marsekal Terauchi
E. Kumakichi Harada

BAHAS PER/SOAL:

Janji kemerdekaan Indonesia yang akan diberikan oleh Jepang setelah kekalahan Jepang pada Sekutu diumumkan oleh Perdana Menteri Kyoto pada tanggal 7 September 1944.

Jawaban: B

12. Interaksi masyarakat yang berorientasi ke atas, sangat mementingkan hubungan yang formal dan bersifat impersonal. Gambaran tersebut merupakan etos kebudayaan masyarakat ….

A. Elite
B. Birokrat
C. Petani
D. Buruh
E. Tradisional

BAHAS PER/SOAL:

Interaksi masyarakat yang berorientasi ke atas, sangat mementingkan hubungan yang formal dan bersifat impersonal. Gambaran tersebut merupakan etos kebudayaan masyarakat birokrat.

Jawaban: B

13. Berdasarkan UUD 1945, setiap pemberian amnesti dan abolisi, pengangkatan dan penerimaan duta, serta pernyataan perang harus disetujui oleh ….

A. Menteri pertahanan
B. Panglima TNI
C. Panglima Polri
D. DPR
E. Menteri Hukum dan HAM

BAHAS PER/SOAL:

Berdasarkan UUD 1945, selain setiap UU, APBN, dan perjanjian luar negeri, setiap pemberian amnesti dan abolisi, pengangkatan dan penerimaan duta, serta pernyataan perang harus disetujui oleh DPR.

Jawaban: D

14. Dalam tata aturan perundang-undangan RI, UUD 1945 menempati posisi tertinggi sedangkan peraturan perundang-undangan yang menempati posisi terbawah adalah ….

A. Perpu
B. Perda
C. Perpres
D. Peraturan Pemerintah
E. Hukum adat

BAHAS PER/SOAL:

Pembentukan Peraturan Perundang-undangan terakhir diatur dengan Undang-undang No.10 Tahun 2004, dimana dalam Pasal 7 diatur mengenai jenis dan hierarki Peraturan Perundang undangan yaitu sebagai berikut:

a. Undang-Undang Dasar Negara Republik Indonesia Tahun 1945,
b. Undang-Undang/PP Pengganti Undang-Undang
c. Peraturan Pemerintah,
d. Peraturan Presiden,
e. Peraturan Daerah.

Jawaban: B

15. Negara menghormati dan memelihara bahasa daerah sebagai kekayaan budaya nasional. Hal ini tercantum dari pasal ….

A. 23
B. 24
C. 27
D. 31
E. 32

BAHAS PER/SOAL:

Pasal 32 berbunyi negara menghormati dan memelihara bahasa daerah sebagai kekayaan budaya nasional.

Jawaban: E

16. Mewujudkan nasionalisme yang tinggi dari rakyat Indonesia, yang lebih mengutamakan kepentingan nasional daripada kepentingan golongan merupakan ….

A. Tujuan ketahanan nasional
B. Pengertian ketahanan nasional
C. Tujuan pembangunan nasional
D. Pengertian wawasan nusantara
E. Tujuan wawasan nusantara

BAHAS PER/SOAL:

Wawasan nusantara adalah cara pandang bangsa Indonesia terhadap rakyat, bangsa, dan wilayah Negara Kesatuan Republik Indonesia yang meliputi darat, laut, dan udara di atasnya sebagai satu kesatuan politik, ekonomi, sosial, budaya dan pertahanan keamanan. Wawasan nusantara berrtujuan mewujudkan nasionalisme yang tinggi dari rakyat Indonesia, yang lebih mengutamakan kepentingan nasional dari pada kepentingan golongan.

Jawaban: E

17. Pak Andri mendapatkan tugas dari kantornya untuk mengikuti pelatihan di luar kota selama tiga hari. Diluar dugaan, pelatihan tersebut selesai lebih cepat dari jadwal yang ditentukan yaitu selama dua hari. Jika Anda menjadi Pak Andri, apa yang akan Anda lakukan ....

    A. Menikmati sisa satu hari untuk berjalan-jalan
    B. Melaporkan ke kantor bahwa kegiatan sudah selesai dalam dua hari, dan menunggu arahan berikutnya
    C. Segera pulang dan memilih berlibur bersama keluarga
    D. Segera pulang dan memilih libur di rumah
    E. Merahasiakan bahwa pelatihan selesai lebih cepat dan memanfaatkan sisa waktu untuk bertemu teman

BAHAS PER/SOAL:

Pada kondisi tersebut langkah yang sebaiknya dilakukan adalah dengan melaporkan ke kantor bahwa kegiatan sudah selesai dalam dua hari, dan menunggu arahan berikutnya. Hal ini menunjukkan bahwa Anda memiliki integritas dan tidak ingin merugikan perusahaan.

Jawaban: B

18. Dalam ketatanegaraan Republik Indonesia, pembentukan sebuah provinsi dapat dilakukan dengan memiliki paling sedikitnya ….

A. 5 (lima) kabupaten/kota
B. 7 (tujuh) kabupaten/kota
C. 10 (sepuluh) kabupaten/kota
D. 1/2 kabupaten/kota dari jumlah provinsi di seluruh Indonesia
E. 2/3 kabupaten/kota dari jumlah provinsi di seluruh Indonesia

BAHAS PER/SOAL:

Syarat-syarat pembentukan daerah menurut UU No 32 Tahun 2004 tentang Pemerintahan Daerah pada pasal 5 ayat 5 disebutkan bahwa : Syarat fisik sebagaimana dimaksud pada ayat (1) meliputi paling sedikit 5 (lima) kabupaten/kota untuk pembentukan provinsi dan paling sedikit 5 (lima) kecamatan untuk pembentukan kabupaten, dan 4 (empat) kecamatan untuk pembentukan kota, lokasi calon ibukota, sarana, dan prasarana pemerintahan.

Jawaban: A

19. Sumber hukum dari keputusan hakim terdahulu yang dijadikan dasar keputusan oleh hakim- hakim lain dalam memutuskan perkara yang sama disebut ….

A. statue
B. custom
C. Jurisprudensi
D. treaty
E. doktrin

BAHAS PER/SOAL:

Keputusan Hakim (Jurisprudensi); adalah keputusan hakim terdahulu yang dijadikan dasar keputusan oleh hakim-hakim lain dalam memutuskan perkara yang sama.

Jawaban: C

20. Undang-Undang No.31 Tahun 2002 tentang Partai Politik menyatakan bahwa Partai politik perlu diadakan karena ….

A. Terbukti bahwa dengan adanya partai politik negara menjadi demokrasi.
B. Melalui partai politiklah masyarakat dapat memilih presiden dan wakil presiden.
C. Partai politik merupakan satu-satunya wadah untuk menyalurkan aspirasi.
D. Banyaknya tuntutan masyarakat untuk membentuk partai politik.
E. Merupakan salah satu wujud partisipasi masyarakat dalam mengembangkan demokrasi

BAHAS PER/SOAL:

Partai politik merupakan salah satu bentuk wahana masyarakat untuk aktif berpolitik dalam demokrasi.

Melalui partai politik, masyarakat bisa menyuarakan aspirasinya. Untuk itu, keberadaan partai politik amat penting dalam sistem demokrasi. Atas dasar pemikiran itu, maka pilihan jawaban yang tepat untuk soal tersebut adalah E.

Jawaban: E

21. Soekarno menyampaikan pidato mengenai dasar Negara pada tanggal ….

A. 29 Mei 1945
B. 30 Mei 1945
C. 31 Mei 1945
D. 1 Juni 1945
E. 22 Juni 1945

BAHAS PER/SOAL

Pada Sidang BPUPKI yang pertama tanggal 1 Juni 1945, Ir. Soekarno berpidato mengemukakan gagasan mengenai rumusan lima sila dasar Negara RI, yang beliaunaakan "Pancasila", yaitu:

1) Kebangsaan Indonesia
2) Internasionalisme dan Peri Kemanusiaan
3) Mufakat atau Demokrasi
4) Kesejahteraan Sosial
5) Ketuhanan Yang Maha Esa

Jawaban: D

22. Tokoh yang bersama Bung Karno dan Muhammad Yamin ikut melakukan pembicaraan terbatas mengenai Semboyan Bhineka Tunggal Ika pada Sidang-sidang BPUPKI adalah ….
    A. I Gusti Bagus Sugriwa
    B. Adam Malik
    C. Sultan Hamid II
    D. Ahmad Subarjo
    E. I Made Bagus

BAHAS PER/SOAL

Semboyan Bhinneka Tunggal Ika mulai menjadi pembicaraan terbatas antara Muhammad Yamin, Bung Karno, I Gusti Bagus Sugriwa dalam sidang-sidang BPUPKI sekitar dua setengah bulan sebelum Proklamasi (Kusuma R.M. A.B, 2004). Bahkan Bung Hatta sendiri mengatakan bahwa Bhinneka Tunggal Ika adalah ciptaan Bung Karno setelah Indonesia merdeka. Setelah beberapa tahun kemudian ketika merancang Lambang Negara Republik Indonesia dalam bentuk Garuda Pancasila, semboyan Bhinneka Tunggal Ika dimasukkan ke dalamnya.

Jawaban: A

23. Fenomena generasi muda yang mengalami kepudaran terhadap jiwa nasionalisme disebabkan karena ….

A. Orientasi nasionalisme adalah sikap dan perbuatan
B. Labeling yang menjadi stigma bagi generasi muda
C. Ukuran nasionalisme dipahami hanya sebatas perjuangan secara fisik
D. Kurangnya daya juang terhadap tantangan perubahan zaman
E. Kurangnya sosok heroism bagi kaum muda

BAHAS PER/SOAL:

Sikap dan perilaku nasionalisme masih banyak dipahami oleh gererasi muda sebatas perjuangan fisik saja. Sehingga upaya untuk membangun sikap dan perilaku nasionalisme tidak diupayakan secara baik dan maksimal.

Jawaban: C

24. Arga meminta uang kepada orangtuanya untuk dibelikan sebuah motor, namun karena orangtuanya hanya bekerja serabutan tidak bisa menuruti keinginannya. Karena menerima penolakan akhirnya Arga pun kesal dan marah Bersama teman-temannya pergi ke orkes music dan mabuk. Saat melewati desa tetangga Arga melihat sebuah motor. Awalnya Aarga tidak ingin mencuri, karea keinginan hatinya berubah dia ingin mencuri motor tersebut. Salah seorang warga melihat hal tersebut lalu meneriakinya maling dan melpaorkan Arga ke pihak yang berwajib. Sikap warga menunjukan ….

A. Intregritas
B. Profesionalisme
C. Solidaritas
D. Tenggang Rasa
E. Rela berkorban

BAHAS PER/SOAL:

Dalam kasus ini, wara telah melaporkan Arga ke pihak yang berwajib, dan tidak main hakim sendiri. Maka waraga telah menunjukan sikap yang profesional.

Jawaban: B

25. Perjanjian bilateral dan multilateral memiliki beberapa perbedaan, salah satunya adalah ….

A. Objeknya
B. Sifat intrumennya
C. Strukturnya
D. Cara berlakunya
E. Jumlah pesertanya

BAHAS PER/SOAL:

Yang membedakan antara perjanjian bilateral dan multilateral adalah jumlah anggota pesertanya, diama perjanjian bilateral merupakan perjanjian yang disepakati antara dua negara, sedangkan perjanjian multilateral merupakan perjanjian yang disepakati oleh banyak negara atau lebih dari dua negara.

Jawaban: E

26. Kebijakan pemotongan nilai uang (Sanering) yaitu memotong semua uang yang bernilai Rp2,50 ke atas hingga nilai tinggal setengahnya terjadi pada saat Menteri Keuangan dijabat oleh ….

A. Wolipo
B. Ali Sastroamidjojo
C. Burhanudin Harahap
D. Syafrudin Prawiranegara
E. Sri Sultan Hamangkubuwono IX

BAHAS PER/SOAL:

Kebijakan pemotongan nilai uang (Sanering) yaitu memotong semua uang yang bernilai Rp2,50 ke atas hingga nilai tinggal setengahnya terjadi pada saat Menteri Keuangan dijabat oleh Syafrudin Prawiranegara. Pemerintah melakukan sanering untuk mengatasi situasi perekonomian Indonesia saat itu sedang terpuruk, yaitu utang menumpuk, inflasi tinggi, dan harga melambung tinggi. Hal tersebut disebabkan karena belum tertatanya perekonomian Indonesia pasca kemerdekaan. Peristiwa ini dikenal dengan nama Gunting Syafrudin pada tanggal 19 Maret 1950..

Jawaban: D

27. Kepolisian telah menangkap dan menetapkan lima tersangka atas dugaan kasus penyebaran hoax dan provokasi melalui media sosial dari kelompok The Family Muslim Cyber Army (MCA). Kelima tersangka ditangkap di daerah berbeda, yakni di Tanjung Priok (Jakarta Utara), Pangkal Pinang, Bali, Sumedang, dan Palu. Berdasarkan barang bukti yang diperoleh polisi, kelompok MCA menyebarkan isu provokatif dan kabar bohong terkait dengan isu suku, agama, ras, dan antargolongan (SARA) melalui jaringan komunikasi WhatsApp. Penyimpangan ini merupakan bentuk pelanggaran sila Pancasila ke ….

A. (1)
B. (2)
C. (3)
D. (4)
E. (5)

BAHAS PER/SOAL:

Sila ketiga: Persatuan Indonesia, dalam kasus ini para pelaku ingin memecah belah bangsa dengan membuat isu yang dianggap sangat sensitive dalam masyarakat Indonesia.

Jawaban: C

28. Isu pemecah belahan negara yang dilakukan oleh pihak-pihak tidak bertanggung jawab agar membuat negara menjadi kacau marak terjadi. sikap kita sebagai warga negara yang baik yaitu ….

A. Ikut menyebarkan dan memprovokasi.
B. Tidak mudah terimbas isu hoax atau belum tentu kebenarannya.
C. berpegang teguh pada kepercayaan masing-masing.
D. waspada dan ikut curiga.
E. menindaklanjuti kekacauan yang terjadi.

BAHAS PER/SOAL:

Isu pemecah belah sangat sensitif dalam kehidupan bermasyarakat, sehingga kita harus waspada terhadap isu yang beredar. Intinya kita harus hati-hati dan tidak mudah terimbas isu hoax atau belum tentu kebenarannya.

Jawaban: B

29. Ledakan BOM di poltabes Medan Sumatera Utara pada Bulan November lalu, merupakan bentuk penyimpangan dari sila ke ….
    A. (1)
    B. (2)
    C. (3)
    D. (4)
    E. (5)

BAHAS PER/SOAL:

Makna Sila ke 2 Pancasila ini yang berbunyi Kemanusiaan yang Adil dan Beradab, yang memiliki arti dan pengertian bahwa bangsa Indonesia sebagaimana yang memeluk ciptaan Tuhan Yang Maha Esa dan yang harus dijunjung tinggi harkat serta martabanya tanpa membeda–bedakan agama, suku dan budaya keturunan.

Jawaban: B

30. Pengeboman Surabaya 2018 adalah rangkaian peristiwa meledaknya bom di berbagai tempat di Surabaya dan Sidoarjo, Jawa Timur pada 13-14 Mei 2018. Tiga tempat di antaranya tempat ibadah di Gereja Santa Maria Tak Bercela, GKI Diponegoro, dan Gereja Pantekosta Pusat Surabaya (GPPS) Jemaat Sawahan. Peristiwa ini mengakibatkan 18 orang meninggal dunia. Aksi terorisme ini merupakan contoh kasus bentuk penyimpangan terhadap sila ke ….
    A. (1)
    B. (2)
    C. (3)
    D. (4)
    E. (5)

BAHAS PER/SOAL:

Soal di atas merupakan contoh kasus pemyimpangan terhadap sila ke 1, yaitu Ketuhanan Yang Maha Esa. karena terdapat isu agama, dan berkaitan dengan kebebasan beragama.

Jawaban: D

SELEKSI PENERIMAAN CPNS

TES INTELENSIA UMUM (TIU)

Panitia Seleksi Nasional | Badan Kepegawaian Negara

1. BECAK : KENDARAAN = …. : ….

A. Gadis : Orang
B. Bengawan : Sungai
C. Guru : Murid
D. Baja : Belati
E. Kapal : Perahu

BAHAS PER/SOAL:

Becak merupakan bagian dari kendaraan. Maka, padanan hubungan dengan pertanyaan yang dimaksud adalah:

Gadis : Orang, karena gadis merupakan bagian dari orang.

Jawaban: A

2. HEINA : ANJING HUTAN = …. : ….

A. Anoa : Macan
B. Luwak : Burung
C. Kuwuk : Kambing
D. Bajing : Kucing
E. Keluai : Musang

BAHAS PER/SOAL:

Nama lain dari HEINA adalah ANJING HUTAN.

Nama lain dari KELUAI adalah MUSANG

Jawaban: E

3. CHILI : SANTIAGO = …. : ….

A. Indonesia : Denpasar
B. Srilanka : Colombo
C. Nairobi : Kenya
D. Mesir : Tripoli
E. Maroko : Tunis

BAHAS PER/SOAL:

Ibu kota CHILI adalah SANTIAGO.

Ibu kota SRILANKA adalah COLOMBO

Jawaban: B

4. TANGAN BESI : BERPERILAKU KERAS

A. Panjang Usus : Kecewa
B. Buah bibir : Kehormatan
C. Kepala batu : Supel
D. Panas Hati : Marah
E. Mata-mata : Tangan Kaki

BAHAS PER/SOAL:

Kiasan TANGAN BESI berarti BERPERILAKU KERAS.

Kiasan PANAS HATI berarti MARAH.

Jawaban: D

5. X, U, X, R, X, O, X, ….

A. L
B. N
C. K
D. X
E. M

BAHAS PER/SOAL:

Pola deret soal di atas adalah -3 dan seterusnya dengan mengabaikan nilai X, karena X bernilai tetap seperti pada gambar berikut :

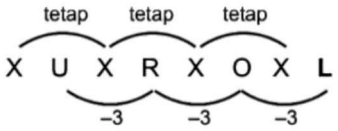

Sehingga huruf selanjutnya didapatkan L

Jawaban: A

6. ABD, FGI, KLN, PQS, …

A. WXA
B. UVW
C. TUV
D. TUW
E. UVX

BAHAS PER/SOAL:

Pola deret soal di atas adalah +1, +2, dan +2 untuk kelompok bilangan selanjutnya seperti pada gambar berikut :

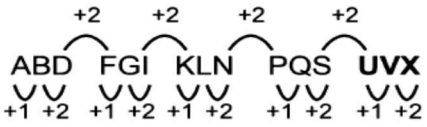

Sehingga huruf selanjutnya didapatkan UVX.

Jawaban: E

7. 23, 26, 19, 22, 15, 18, ..., ...

A. 21 dan 14
B. 21 dan 24
C. 11 dan 18
D. 11 dan 4
E. 11 dan 14

BAHAS PER/SOAL:

Perhatikan pola barisan angka berikut:



Pola pada barisan angka tersebut adalah bertambah dan berkurang secara tetap, yaitu (+3) kemudian (–7). Dengan demikian angka-angka berikutnya adalah:

18 – 7 = **11** dan 11 + 3 = **14**

Jawaban: E

8. C, G, K, O, ..., ...

A. T dan X
B. S dan V
C. S dan W
D. R dan V
E. R dan W

BAHAS PER/SOAL:

Perhatikan pola barisan angka berikut :



C, G, K, O, …., ….

Pola pada barisan huruf tersebut adalah berselang 3 huruf (bertambah 4 huruf) secara berurutan, semisal dari C – DEF – G, G – HIJ – K, dan seterusnya.

Dengan demikian huruf-huruf berikutnya adalah O – PQR – S, dan S – TUV – W.

Jawaban: C

9. Hanya senapati agung yang memimpin prajurit Singasari dalam peperangan. Semua prajurit Singasari tunduk pada perintah senapati agung dalam peperangan. Pangeran Singasari bukan senapati agung dan tidak tunduk pada perintah senapati agung.

Pernyataan yang sesuai dengan pernyataan di atas adalah ….

A. Prajurit yang tidak tunduk pada perintah senapati agung dalam peperangan bukan prajurit Singasari.
B. Pangeran Singasari diperbolehkan memimpin prajurit Singasari dalam peperangan.
C. Senapati agung tunduk pada perintah pangeran Singasari dalam peperangan.

D. Pangeran Singasari tidak tunduk pada perintah senapati agung dalam peperangan.
E. Tidak dapat ditarik kesimpulan.

BAHAS PER/SOAL:

Karena semua prajurit Singasari tunduk pada perintah senapati agung dalam peperangan, berarti prajurit yang tidak tunduk pada perintah senapati agung dalam peperangan bukan prajurit Singasari.

Jawaban: A

10. Ikan kakap merah bergizi dan indah penampilannya. Ikan tuna rasanya enak tapi membosankan. Udang walaupun kecil-kecil, tetapi mempunyai nilai gizi tinggi daripada ikan kakap merah. Sementara bandeng gizinya lebih baik dari ikan tuna, tetapi biasanya tidak segar. Hidangan yang menarik dan bergizi adalah ….

A. Ikan tuna dan bandeng
B. Ikan kakap merah dan udang
C. Bandeng dan kakap merah
D. Udang dan bandeng
E. Ikan tuna dan kakap merah

BAHAS PER/SOAL:

Ikan kakap merah = penampilannya yang menarik. Ikan tuna = rasanya yang enak

Udang = bergizi tinggi. Bandeng = bergizi

Jadi, hidangan yang menarik dan bergizi adalah ikan kakap merah dan udang.

Jawaban: B

11. Semua peserta CPNS menempuh tes kemampuan dasar.
Sebagian peserta CPNS mengikuti tes kemampuan bidang.
Jadi ….

A. Semua peserta CPNS yang menempuh tes kemampuan dasar tidak mengikuti tes kemampuan bidang.
B. Semua peserta CPNS yang mengikuti tes kemampuan bidang tidak menempuh tes kemampuan dasar.
C. Semua peserta CPNS yang tidak mengikuti tes kemampuan bidang tidak menempuh tes kemampuan dasar.
D. Sebagian peserta CPNS yang tidak mengikuti tes kemampuan bidang menempuh tes kemampuan dasar.
E. Sebagian peserta CPNS yang mengikuti tes kemampuan bidang tidak menempuh tes kemampuan dasar.

BAHAS PER/SOAL:

Kesimpulan partikular.
Jawaban yang mungkin D dan E.
Jawaban E salah karena berlawanan dengan pernyataan semua peserta CPNS menempuh tes kemampuan dasar.

Jawaban: D

12. Semua murid yang mengikuti ujian **tidak** menggunakan kalkulator.
Sebagian murid yang ujian mengenakan jam tangan.
Jadi ….

A. Semua murid yang ujian mengenakan jam tangan
B. Sementara murid yang ujian tidak mengenakan jam tangan
C. Semua murid yang ujian tidak menggunakan kalkulator dan tidak mengenakan jam tangan
D. Sebagian murid yang ujian mengenakan jam tangan dan tidak menggunakan kalkulator
E. Sebagian murid yang ujian mengenakan jam tangan dan menggunakan kalkulator

BAHAS PER/SOAL:

Semua murid yang mengikuti ujian tidak menggunakan kalkulator. Sebagian murid yang ujian mengenakan jam tangan.

Kesimpulan partikular. Kerana salah satu premis negatif, maka kesimpulan juga negatif.

Sebagian murid yang ujian mengenakan jam tangan dan tidak menggunakan kalkulator.

Jawaban: D

13. Semua mahasiswa berdasi. Sebagian mahasiswa berjas. Jadi ….

A. Sebagian mahasiwa berjas
B. Sebagian mahasiswa berjas dan bersepatu
C. Sebagian mahasiwa berdasi dan berjas
D. Sebagian mahasiswa berdasi, tapi berjas
E. Semua mahasiswa berdasi dan berjas

BAHAS PER/SOAL:

Karena salah satu partikular maka kesimpulan partikular.

Kesimpulan :
- sebagian mahasiswa berdasi dan berjas.
- sebagian mahasiswa berdasi dan tidak berjas.

Jawaban: C

14. Semua siswa kelas A dapat berbahasa Inggris. Sebagian siswa kelas A mendapat nilai tinggi. Jadi ….

A. Sebagian siswa kelas A mendapat nilai tinggi dan dapat berbahasa Inggris.
B. Sebagian siswa kelas A mendapat nilai tinggi dan tidak dapat berbahasa inggris.
C. Sebagian siswa kelas A tidak mendapat nilai tinggi dan tidak dapat berbahasa inggris.
D. Semua siswa kelas A mendapat nilai tinggi dan tidak dapat berbahasa Inggris.
E. Semua siswa kellas A tidak mendapat nilai tinggi dan tidak dapat berbahasa inggris.

BAHAS PER/SOAL:

Kesimpulan partikular.
Jawaban yang mungkin A, B, dan C.
Jawaban B dan C salah karena berlawanan dengan pernyataan semua siswa kelas A dapat berbahasa Inggris.

Jawaban: A

15. Ali lebih cermat dari Budi, tapi lebih ceroboh dari pada Deni. Mardi lebih cermat dari pada Deni. Urutan dari yang paling cermat adalah ….

A. Mardi, Deni, Ali, Budi
B. Deni, Mardi, Ali, Budi
C. Mardi, Ali, Budi, Deni
D. Mardi, Deni, Budi, Ali
E. Deni, Budi, Mardi, Ali

BAHAS PER/SOAL:

Simbol > berarti lebih cermat, dan simbol < berarti lebih ceroboh.
Keterangan berdasarkan bacaan diperoleh bahwa tingkat kecermatan :
- Ali > Budi
- Ali < Deni atau Deni > Ali
- Mardi > Deni

Urutan dari yang paling cermat :
Mardi > Deni > Ali > Budi

Jawaban: A

16. X lebih tua dari N, E lebih muda dari A, T lebih muda dari N, X lebih muda dari E, N lebih tua dari T, maka yang termuda adalah ….

A. N
B. E
C. X
D. T
E. A

BAHAS PER/SOAL:

Simbol > berarti lebih tua, dan < berarti lebih muda.

X > N atau N < X
E < A
T < N
X < E
N > T atau T < N

Urutan dari yang paling muda: T < N < X < E < A
Maka, yang paling muda adalah T.

Jawaban: D

17. Jika A = B maka A tidak sama dengan C. Bila P = A maka ….

A. Bila P = C maka P = B
B. Bila P = C maka P tidak sama dengan A
C. Bila P = C maka P tidak sama dengan B
D. Bila P = C maka P = A = B
E. Bila P = C maka B bukan A

BAHAS PER/SOAL:

Kesimpulan pernyataan di atas adaah A tidak sama dengan C, sehinggan niai P tidak sama dengan A.

Jawaban: B

18. Jika x = luas persegi dengan panjang sisi 20 dan y = luas lingkaran dengan diameter 20 maka ….

A. $x > y$
B. $x < y$
C. $x = y$
D. x dan y tidak bisa ditentukan
E. $x > 2y$

BAHAS PER/SOAL:

Diameter = 20 cm, maka r = 10 cm

$x = 20 \times 20 = 400$

$y = \prod r \,.\, 2 = 3{,}14 \times 10 \,.\, 2$

$= 314$

Maka, $x > y$

Jawaban: A

19. Jika a = 4,5 b = 5,4 dan c = a + b^2 maka, hasil (a^2 × b) – c adalah ….

A. 76,59
B. 75,69
C. 75,96
D. 75,95
E. 74,59

BAHAS PER/SOAL:

a = 4,5
b = 5,4
c = 4,5 + $5,4^2$
= 4,5 + 29,16 = 33,66

(a^2 × b) – c = $5,4^2$ × 5,4 – 33,66
= 20,25 x 5,4 – 33,66
= 109,35 – 33,66
= **75,69**

Jawaban: B

20. Seorang penjual buah membeli buah dengan harga Rp450.000,00, dan pedagang tersebut berhasil menjual semuanya dengan harga Rp573.750,00. Berapakah persentase keuntungan yang didapat oleh penjual buah itu?

A. 20%
B. 22,5%
C. 25%
D. 25,5%
E. 27,5%

BAHAS PER/SOAL:

Keuntungan = harga jual – harga beli

= Rp573.750,00 – Rp 450.000,00 = Rp123.750,00

% untung = untung / harga beli x 100%
= Rp123.750,00 / Rp450.000,00 x 100%
= 27,5%

Jawaban: E

21. Jika keliling sebuah lingkaran 34,53 meter, berapakah jari-jarinya?

A. 4,5 m
B. 5,5 m
C. 6,5 m
D. 7,5 m
E. 8,5 m

BAHAS PER/SOAL:

Keliling lingkaran = 2 x π x r

34,54 = 2 x 3,14 x r

r = 34,54 / 6,28
r = 5,5 meter

Jawaban: B

22. (17 x 125 + 83 x 125) : 25 = ….

A. 20
B. 200
C. 320
D. 500
E. 720

BAHAS PER/SOAL:

Gunakan sifat distribusi.
(17 x 125 + 83 x 125) : 25
= {(17 + 83) x 125} : 25 => karena ada tanda kurung, berlaku sifat distributif pertambahan.
= 100 x 125 : 25
= 100 x 5 = 500

Jawaban: D

23. Jika 291ab – 32 = 328 maka 97ab= ….

A. 120
B. 130
C. 140
D. 150
E. 160

BAHAS PER/SOAL:

291ab – 32 = 328
291ab = 328 + 32
291ab = 360 => dibagi 3
97ab = 120

Jawaban: A

24. 634 + 8 x 125 – 2.048 : 64 = ….

A. 1.456
B. 1.602
C. 1.666
D. 1.774
E. 1.888

BAHAS PER/SOAL:

Lakukan operasi perkalian dan pembagian dahulu.
634 + 8 x 125 – 2.048 : 64
= 634 + (8 x 125) – (2.048 : 64)
= 634 + 1.000 – 32
= 602 + 1.000
= 1.602

Jawaban: B

25. Nilai 37,5% dari 0,333 adalah ….

A. 0,008
B. 0,015
C. 0,1
D. 0,125
E. 0,321

BAHAS PER/SOAL:

Ingat pecahan istimewa
37,5% dari 0,333 = 37,5% x 0,333
= 3/8 x 2/3
= 1/8
= 0,125

Jawaban: D

26. Untuk dapat bepergian ke Makassar seseorang dari Cilacap harus ke Jakarta naik bus, kemudian dari Jakarta ke Makassar naik pesawat. Jika dari Cilacap ke Jakarta ada 6 bis, sedangkan dari Jakarta ke Makassar ada 4 pesawat maka berapa perjalanan Cilacap-Jakarta pergi pulang dan tidak boleh menggunakan kendaraan yang sama?

A. 160
B. 200
C. 240
D. 360
E. 400

BAHAS PER/SOAL:

PERGI => Cilacap-Jakarta = 6 cara, Jakarta-Makassar = 4 cara
PULANG => Makassar-Jakarta = 4 – 1 = 3 cara, Jakarta-Makassar = 6 – 1 = 5 cara
Banyak cara perjalanan Cilacap-Jakarta pergi pulang dan tidak menggunakan kendaraan yang sama:
= pergi x pulang
= 6 x 4 x 3 x 5 = 360 cara

Jawaban: D

27. Lima tahun yang lalu jumlah usia dua orang bersaudara adalah 26 tahun, sedangkan sekarang perbandingan yang tua dan muda adalah 3 : 1. perbandingan Sembilan tahun kemudian adalah ….

A. 3 : 1
B. 2 : 1
C. 3 : 2
D. 4 : 3
E. 5 : 4

BAHAS PER/SOAL:

$x : y = 3 : 1 \Rightarrow x = 3y$

$x - 5 + (y - 5) = 26$

$x + y = 36$

$3y + y = 36$

$4y = 36$

$y = 9$ tahun $\Rightarrow$ $x = 3 \cdot 9 = 27$ tahun

Sembilan tahun kemudian,

$x = 27 + 9 = 36$ tahun dan $y = 9 + 9 = 18$ tahun

jadi, tua : muda = $y : x = 36 : 18 = 2 : 1$

Jawaban: B

28. Dodi akan membuat kotak berbentuk balok dengan perbandingan panjang : lebar : tinggi = 4 : 2 : 3. Jika panjang kotak 12 cm, luas seluruh permukaan kotak adalah ….

A. 468 cm
B. 516 cm
C. 576 cm
D. 624 cm
E. 688 cm

BAHAS PER/SOAL:

Perbandingan panjang sisi balok
Panjang : lebar : tinggi = 4 : 2 : 3

Diketahui Panjang kotak = p = 12 cm, maka :
lebar = *l* = 2 x 12 / 4 = 6 cm
tinggi = t = 3 x 12 / 4 = 9 cm

Luas seluruh permukaan kotak adalah :
L = 2(p . *l* + p . t + *l* . t)
= 2(12 . 6 + 12 . 9 + 6 . 9)
= 2(72 + 108 + 54)
= 468

maka, luas seluruh permukaan kotak adalah 468 cm.

Jawaban: A

29. Seri gambar lanjutan dari pola gambar berikut adalah ….

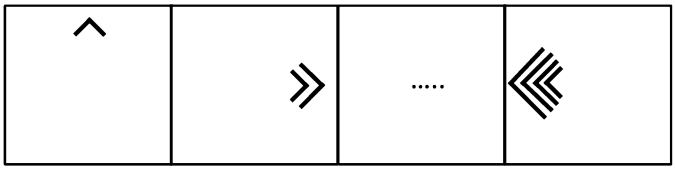

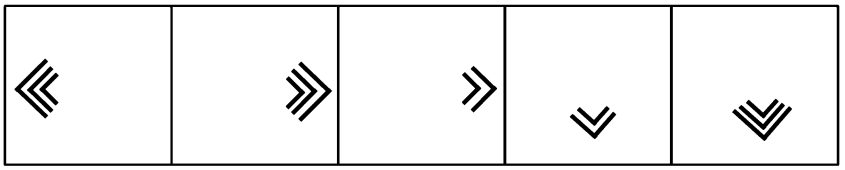

A B C D E

BAHAS PER/SOAL:

Perhatikan perubahan setiap tahap, gambar berotasi 90° searah jarum jam; bergerak ke sisi perbatasan kotak yang bersebelahan di arah jarum jam, dan sebuah tanda baru yang lebih besar ditambahkan di luar tanda yang ada.

Jadi jawaban yang tepat adalah E.

Jawaban: E

30. Seri gambar lanjutan dari pola gambar berikut adalah ….

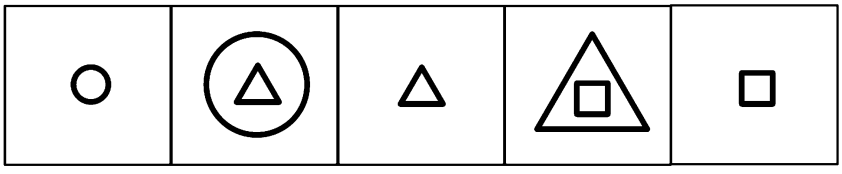

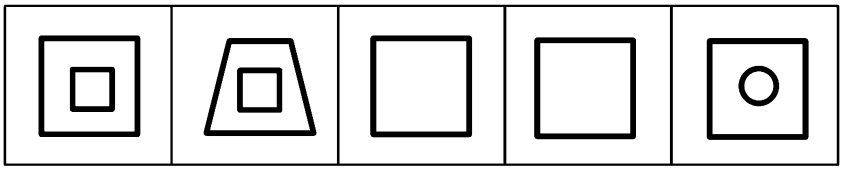

A B C D E

BAHAS PER/SOAL:

Perhatikan perubahan dalam satu langkah, elemen yang ada akan membesar dan elemen baru muncul di dalam elemen ini.

Pada langkah berikutnya, elemen luar hilang dan digantikan elemen selanjutnya. Pada soal, elemen persegi akan membesar, dan akan muncul elemen baru.

Pada pilihan jawaban, jawaban D yang ada elemen baru.

Jawaban: D

31. Carilah gambar yang berbeda dari yang lainnya.

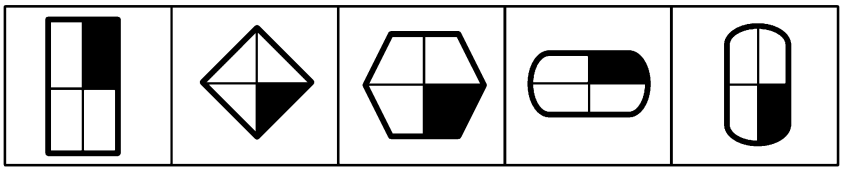

Gambar 1 Gambar 2 Gambar 3 Gambar 4 Gambar 5

A. Gambar 1
B. Gambar 2
C. Gambar 3
D. Gambar 4
E. Gambar 5

BAHAS PER/SOAL:

Untuk menjawab soal perbedaan gambar di atas, Anda harus fokus memperhatikan perubahan dan perbedaan yang ada.

Pada gambar soal, semua gambar dibagi menjadi 4 bagian lalu seper empat bagian diarsir. Pilihan gambar A beda karena diarsir pada bagian kanan atas sendiri, yang lain di bagian kanan-bawah. Jadi jawaban yang tepat adalah A.

Jawaban: A

32. Carilah gambar yang berbeda dari yang lainnya.

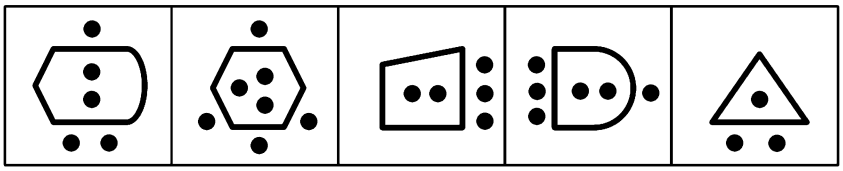

Gambar 1 Gambar 2 Gambar 3 Gambar 4 Gambar 5

A. Gambar 1
B. Gambar 2
C. Gambar 3
D. Gambar 4
E. Gambar 5

BAHAS PER/SOAL:

Untuk menjawab soal perbedaan gambar di atas, Anda harus fokus memperhatikan perubahan dan perbedaan yang ada.

Pada semua gambar yang lain, jumlah titik di luar gambar utama satu buah lebih banyak dibanding jumlah titik di dalam gambar utama. Gambar D, titik didalam ada 2 dan diluar ada 4, ada selisih 2. Untuk gambar yang lain hanya selisih 1 saja.

Jawaban: D

33. Carilah gambar yang sesuai untuk melengkapi analogi gambar berikut.

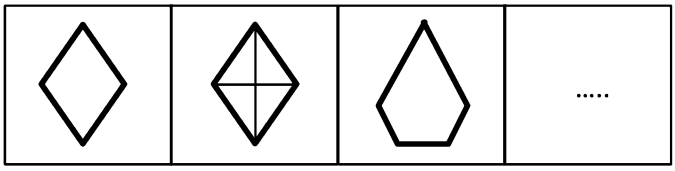

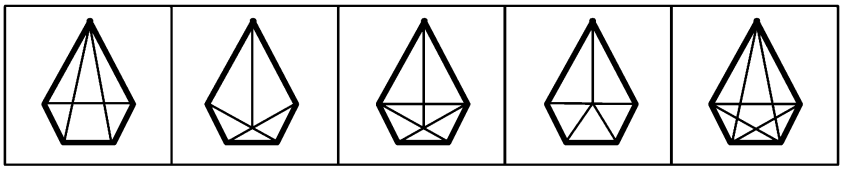

Gambar 1 Gambar 2 Gambar 3 Gambar 4 Gambar 5

A. Gambar 1
B. Gambar 2
C. Gambar 3
D. Gambar 4
E. Gambar 5

BAHAS PER/SOAL:

Perhatikan perubahan dari gambar 1 ke gambar 2. Gambar 1 dibagi menjadi beberapa bagian sebanyak jumlah sisi pada gambar tersebut untuk membentuk gambar 2. Demikian pula, gambar D akan terbentuk ketika gambar 3 dibagi menjadi beberapa bagian sebanyak jumlah sisi pada gambar tersebut. Jadi jawaban yang tepat adalah D.

Jawaban: D

34. Carilah gambar yang sesuai untuk melengkapi analogi gambar berikut.





Gambar 1 Gambar 2 Gambar 3 Gambar 4 Gambar 5

A. Gambar 1
B. Gambar 2
C. Gambar 3
D. Gambar 4
E. Gambar 5

BAHAS PER/SOAL:

Perhatikan di setiap baris, gambar berbalik secara ilusi cermin di setiap langkah. Jumlah komponen/elemen dapat bertambah atau berkurang dari kiri ke kanan berurutan. Pada baris pertama, gambar dicerminkan, lalu elemen titik bertambah. Pada baris kedua, gambar dicerminkan, lalu elemen daun berkurang. Pada baris ketiga, gambar dicerminkan, lalu elemen isi cangkir bertambah.

Jawaban: B

35. Carilah gambar yang sesuai untuk melengkapi analogi gambar berikut.

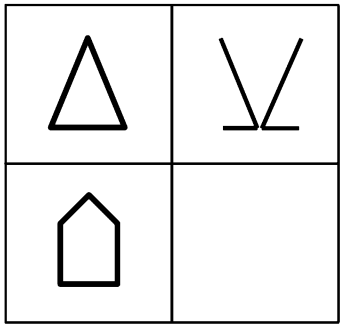

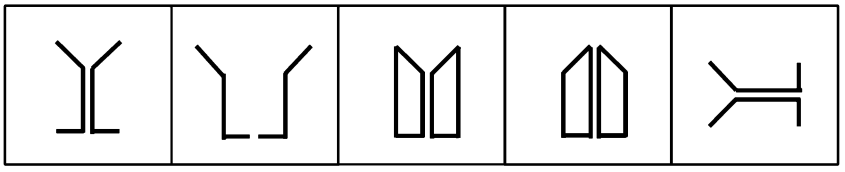

Gambar 1 Gambar 2 Gambar 3 Gambar 4 Gambar 5

A. Gambar 1
B. Gambar 2
C. Gambar 3
D. Gambar 4
E. Gambar 5

BAHAS PER/SOAL:

Untuk menjawab analogi gambar pada soal, Anda harus fokus terhadap perubahan elemen dan perubahan bentuknya.

Perhatikan elemen segitiga, dipotong jadi dua dan dibalik, begitupun dengan bangun segilima, dipotong menjadi dua, lalu dibalik. Sehingga akan membentuk gambar seperti pilhan A. Jadi jawaban yang tepat adalah A.

Jawaban: B

SELEKSI PENERIMAAN CPNS

TES KEMAMPUAN PRIBADI (TKP)

Panitia Seleksi Nasional | Badan Kepegawaian Negara

1. Saat melayani pelanggan, seorang ibu-ibu menyerobot antrian dan meminta pelayanan dengan segera karena dia Lelah sudah antri terlalu lama. Sikap Anda ….

   A. Memintanya untuk kembali ke antrian.
   B. Memintanya untuk kembali ke antrian dan tetap melayani sesuai antrian.
   C. Meminta ijin pada antrian yang dia lewati untuk melayaninya terlebih dahulu dari pada membuat ribut.
   D. Mendiamkan dan tidak mempedulikannya.
   E. Meminta teman untuk melayaninya.

BAHAS PER/SOAL:

Urutan jawaban yang sesuai adalah:

Skor 5	Skor 4	Skor 3	Skor 2	Skor 1
C	D	B	E	A

Memperhatikan lingkungan sekitar, dan mengupuayakan agar tidak terjadi keributan

Jawaban: C

2. Salah satu pengunjung komplain terhadap pelayanan yang diberikan oleh instansi tempat saya bekerja. Saya akan …

   A. Membantu menyelesaikan permasalahan pengunjung tersebut.
   B. Mengabaikan karena saya sedang banyak pekerjaan.
   C. Menjelaskan peran saya di instansi tersebut.
   D. Menjelaskan aturan dan prsedur yang berlaku.
   E. Mencatat dan menyampaikan keluhan pengunjung pada pimpinan atau atasan di instansi.

BAHAS PER/SOAL:

Urutan jawaban yang sesuai adalah:

Skor 5	Skor 4	Skor 3	Skor 2	Skor 1
E	A	D	C	B

Keluhan pelanggan merupakan sebuah kritik dan saran untuk intsansti agar menjadi ebih baik lagi kedepannya.

Jawaban: E

3. Saat anda dan teman anda sedang melakukan pelayanan, tiba-tiba seorang ibu marah-marah karena pelayanan yang tidak sesuai dan memarahi teman anda sampai menyakiti hatinya. Sikap Anda ….

   A. Diam saja karena tidak ada urusannya dengan saya.
   B. Menenangkan ibu itu lalu mengarahkannya ke bagian pelayanan untuk dilayani dengan baik.
   C. Menenangkan ibu itu sambll menjelaskan bahwa apa yang dilakukannya menyaikiti hati teman saya.
   D. Menenangkan ibu itu dan meminta maaf.
   E. Marah dan mengajak teman untuk tidak melayani ibu itu.

BAHAS PER/SOAL:

Urutan jawaban yang sesuai adalah:

Skor 5	Skor 4	Skor 3	Skor 2	Skor 1
B	D	C	A	E

Saat melakukan pelayanan dan menemukan masalah, kita harus tetap tenang, dan sebisa mungkin menenangkan situasi dan kondisi, agar masaah lebih mudah dan cepat teratasi.

Jawaban : B

4. Saat saya sedang melakukan pelayanan di kantor, teman masa kecil saya datang dengan tiba-tiba. Saya sudah lama tidak berjumpa dengannya dan tampaknya dia ingin bercerita banyak dengan saya. Saya akan ….

A. Meminta teman kantor saya untuk menggantikan tugas saya karena saya ingin bertemu teman saya.
B. Meminta izin atasan supaya saya bisa menemui teman saya tersebut
C. Meminta teman saya tersebut menunggu sebentar.
D. Menutup pelayanan sebentar untuk menemui teman saya tersebut.
E. Meminta teman saya tersebut menunggu sampai saya menyelesaikan pelayanan.

BAHAS PER/SOAL:

Urutan jawaban yang sesuai adalah:

Skor 5	Skor 4	Skor 3	Skor 2	Skor 1
E	C	A	B	D

Harus professional dalam bekerja, dengan lebih mementingkan pekerjaan yang sedang dikerjakan, darpipada suatu hal yang sekiranya tidak terlalu penting.

Jawaban: E

5. Seorang pelanggan ingin mengurus sesuatu dengan waktu yang cepat, teman Anda kelelahan dan butuh istirahat. Sementara Anda masih ada tugas yang belum selesai. Sikap Anda ….

A. Menggantikan teman Anda, dengan mengurusi kepentingan pelanggan tersebut.
B. Melanjutkan tugas teman yang kelelahan, supaya kantor tidak terbengkalai.
C. Melapor ke atasan untuk meminta petunjuk.
D. Melayani dengan tenang dan sabar walau bukan tugas Anda.
E. Menyelesaikan tugas Anda sampai selesai, baru membantu teman yang kelelahan.

BAHAS PER/SOAL:

Urutan jawaban yang sesuai adalah:

Skor 5	Skor 4	Skor 3	Skor 2	Skor 1
E	C	B	A	D

Harus melihat situasi dan kondisi, Anda dituntut untuk lebih tanggap menyikapi suatu permasaahan di sekitar, dengan meyelesaikan tanggung jawab yang diemban.

Jawaban: E

6. Saat melakukan pelayanan, hal utama yang saya perhatikan adalah ….

A. Kecepatan pelayanan.
B. Kesesuaian prosedur.
C. Kepuasan pelanggan.
D. Keramahan pelayanan.
E. Keuntungan instansi.

BAHAS PER/SOAL:

Urutan jawaban yang sesuai adalah:

Skor 5	Skor 4	Skor 3	Skor 2	Skor 1
C	D	A	B	E

Kepuasan pelanggan adaah yang utama, karena ketika pelangan puas dengan layanan kita, berarti pelayanan kita telah berjalan dengan baik.

Jawaban : C

7. Ketika menghadapi komplain atau keluhan dari pelanggan mengenai pelayanan yang diberikan tempat kerja saya, saya akan ….

A. Mencatat dan menyampaikan keluhan tersebut pada atasan saya.
B. Mencoba membantu pelanggan menyelesaikan persoalan.
C. Mengabaikan karena kondisi yang ada memang seperti itu.
D. Menjelaskan peran saya dalam menangani keluhan pelanggan.
E. Menjelaskan aturan dan prosedur yang berlaku pada pelanggan.

BAHAS PER/SOAL:

Urutan jawaban yang sesuai adalah:

Skor 5	Skor 4	Skor 3	Skor 2	Skor 1
B	A	E	D	C

Salah satu tujuan utama dalam melayani pelanggan adalah membantu mengatasi masalah yang dikeluhkan pelanggan,

Jawaban: B

8. Sebagai pelayan masyarakat, hal yang saya lakukan untuk meningkatkan kualitas kinerja saya adalah ….

A. Melayani dengan ramah.
B. Meberikan infomasi sebanyak mungkin.
C. Bertindak proaktif dalam pelayanan.
D. Melayani dengan ikhlas.
E. Menjaga perasaan supaya tidak mudah emosi.

BAHAS PER/SOAL:

Urutan jawaban yang sesuai adalah:

Skor 5	Skor 4	Skor 3	Skor 2	Skor 1
C	A	B	E	D

Jawaban: C

9. Saya bekerja di sebuah apotek sebagai bagian penjualan. Saat apoteker belum datang, ada seseorang yang ingin membeli obat racik, yang kebetulan saya tahu racikannya. Saya akan ….

   A. Meminta pertimbangan rekan kerja yang lain.
   B. Mencoba menghubungi apoteker dan menanyakan waktu kedatangannya.
   C. Langsung membuatkannya obat karena merasa kasihan.
   D. Memintanya untuk menunggu apoteker datang.
   E. Menjelaskan bahwa apoteker belum datang.

BAHAS PER/SOAL:

Urutan jawaban yang sesuai adalah:

Skor 5	Skor 4	Skor 3	Skor 2	Skor 1
B	C	D	E	A

Saat melakukan pelayanan di bidang kesehatan, sangat diharuskan untuk mengikuti prosedur yang telah ditentukan karena dalam bidang kesehatan, telah ada ketentuan tersendiri dalam hal meracik obat-obatan.

Jawaban: B

10. Menurut saya kunci utama keberhasilan sebuah tim dalam dunia kerja adalah ….

   A. Pimpinan yang tegas.
   B. Koneksi dan komunikasi yang baik antar anggota tim.
   C. Kemauan seluruh anggota tim untuk bekerja keras.
   D. Semangat bersama untuk meraih keberhasilan.
   E. Kesamaan visi dan misi antara anggota tim.

BAHAS PER/SOAL:

Urutan jawaban yang sesuai adalah:

Skor 5	Skor 4	Skor 3	Skor 2	Skor 1
E	C	D	B	A

Kunci utama keberhasilan sebuah tim adalah kesamaan visi dan misi antara anggota tim. Karena tanpa adanya kesamaan visi dan misi antara anggota tim, keberhasiam aka sulit diraih.

Jawaban: E

11. Menurut saya, cara paling mudah yang dapat dilakukan untuk mendapatkan jaringan kerja baru yang berkompeten adalah ….

A. Mencari dari lingkungan perte-manan dekat.
B. Mencari dari lingkungan keluarga.
C. Mencari dari lingkup prfesional.
D. Mencari dari kelompok minat yang sama dengan saya.
E. Mencari dari alumni tempat saya kuliah.

BAHAS PER/SOAL:

Urutan jawaban yang sesuai adalah:

Skor 5	Skor 4	Skor 3	Skor 2	Skor 1
C	D	E	B	A

Dunia kerja sangatlah luas, untuk mendapatkan jaringan kerja baru, apalagi yang lebih berkompeten, maka harus mencari dilingkup yang baru juga, seperti mencari dari lingkup propesional.

Jawaban: C

12. Banyak rekan kerja Anda yang selalu pulang satu jam lebih awal dari jadwal yang telah ditentukan oleh instansi. Yang ada lakukan adalah ….

A. Pulang pada jam yang telah ditentukan.
B. Mengikuti rekan kerja pulang pada jam yang sama.
C. Melaporkan kejadian tersebut pada pimpinan.
D. Menegur rekan kerja tersebut dan membicarakan masalah tersebut baik-baik.
E. Membiarkan rekan kerja pulang dan menyelesaikan pekerjaannya.

BAHAS PER/SOAL:

Urutan jawaban yang sesuai adalah:

Skor 5	Skor 4	Skor 3	Skor 2	Skor 1
D	C	A	E	B

Dalam dunia kerja, kita dituntut untuk profesional, salah satunya adaah menaati prosedur yang ada dalam perusahaan atau instansi tempat Anda bekerja, dan mengingatkan kepada rekan kerja jika ada yang salah.

Jawaban: D

13. Cara efektif yang dapat dilakukan untuk memelihara hubungan kerja dengan relasi dan pelanggan adalah ….

A. Meberikan mereka banyak hadiah
B. Memberikan servis yang sangat baik
C. Memberikan disko pada saat mereka melakukan pembelian
D. Menganggap mereka sebagai keluarga dan tidak sekadar pelanggan.
E. Sering berdiskusi tentang apa yang mereka inginkan demi kelancaran hubungan kerja.

BAHAS PER/SOAL:

Urutan jawaban yang sesuai adalah:

Skor 5	Skor 4	Skor 3	Skor 2	Skor 1
E	B	D	C	A

Untuk memelihara hubungan kerja dengan relasi dan pelanggan adalah sering berkomunikasi dengan pelanggan, berdiskusi memberi kritik dan saran tetang permasalan pelanggan.

Jawaban: E

14. Saat pembayaran uang lembur, saya medapatkan uang lembur yang melebihi jam kerja lembur saya. Saya akan ….

A. Menanyakan kepada bendahara
B. Mengembalikan kepada bendahara
C. Menerimanya dan menganggapnya sebagai bonus
D. Meminta pendapat teman apa yang harus dilakukan.
E. Menerimanya dan pura-pura tidak tau

BAHAS PER/SOAL:

Urutan jawaban yang sesuai adalah:

Skor 5	Skor 4	Skor 3	Skor 2	Skor 1
B	A	D	C	E

Mengambil sesuatu yang bukan hak kita adalah perbuatan yang kurang tepat.

Jawaban: B

15. Seorang menawarkan saya kenaikan jabatan, namun saya harus mempersiapkan sejumlah uang sebagai imbalannya. Saya akan ….

A. Tidak menerima peluang tersebut karena sedang tidak memiliki uang
B. Meminta bantuan dari saudara
C. Mencari pinjaman keuangan
D. Mencari uang tambahan dari luar kantor.
E. Tidak menerimanya dan tetap bekerja seperti biasa

BAHAS PER/SOAL:

Urutan jawaban yang sesuai adalah:

Skor 5	Skor 4	Skor 3	Skor 2	Skor 1
E	A	D	B	C

Sesuatu yang diperoleh secara isntan adalah suatu hal yang kurang begitu baik, dan biasanya tidak akan bertahan lama.

Jawaban: E

16. Tantangan dalam dunia kerja menurut saya adalah ….

A. Suatu hal yang seharusnya cukup dipikirkan oleh para atasan saya
B. Sebuah hal biasa
C. Hal yang memacu kita untuk berkembang
D. Suatu hal yang dapat menghancurkan kita
E. Sesuatu yang bisa kita hindari dengan bekerja cermat

BAHAS PER/SOAL:

Urutan jawaban yang sesuai adalah:

Skor 5	Skor 4	Skor 3	Skor 2	Skor 1
C	E	B	A	D

Setiap dunia kerja memiiki tantangan tersendiri, dan dapat memacu diri kita untuk lebih giat bekerja untuk berkembang lebih baik lagi.

Jawaban: C

17. Sebagai sebuah *wedding organizer*, saya mendapatkan klien yang meminta pernikahan dalam budaya asal mereka yang sepertinya susah untuk didapatkan baju dan alat-alat lainnya karena sangat jauh dari tempat saya tinggal. Saya akan ….

    A. Menyarankan mereka untuk menggunakan baju adat tempat tinggal saat ini saja yang lebih mudah didapatkan.
    B. Menyarankan mereka untuk menggunakan pakaian nasional saat resepsi pernikahan.
    C. Memenuhi semua permintaan mereka untuk menggunakan budaya asal mereka dalam pernikahan.
    D. Memenuhi semua permintaan mereka untuk menggunakan budaya asal mereka dalam pernikahan dengan syarat semua baju dan alat dipersiapkan oleh mereka.
    E. Menghubungi rekan *wedding organizer* dari daerah asal mereka untuk membantu saya.

BAHAS PER/SOAL:

Urutan jawaban yang sesuai adalah:

Skor 5	Skor 4	Skor 3	Skor 2	Skor 1
E	C	D	A	B

Dalam dunia kerja, kita harus pandai melihat situasi dan kndisi, mampu berfikir cermat dan efisien, kita juga harus banyak memiliki relasi agar bisa membantu pandangan kita dalam bekerja

Jawaban: E

18. Dalam sebuah rapat RT diusulkan supaya seluruh warga kerja bakti membantu dalam pembangunan gedung pertemuan RT yang sedang dikerjakan oleh kontraktor berpengalaman. Menurut saya ….

A. Hal itu kurang diperlukan karena pembangunan Gedung pertemuan sudah dikerjakan oleh ahlinya.
B. Lebih baik kerja bakti dilakukan untuk kebersihan lingkungan saja.
C. Sangat tidak diperlukan karena RT telah keluar uang banyak untuk membayar kontraktor tersebut.
D. Penting untuk mempererat kebersamaan antarwarga RT.
E. Penting untuk menumbuhkan rasa memiliki warga RT terhadap fasilitas Gedung pertemuan tersebut.

BAHAS PER/SOAL:

Urutan jawaban yang sesuai adalah:

Skor 5	Skor 4	Skor 3	Skor 2	Skor 1
B	A	E	D	C

Dalam bekerja kita harus tau job dest masing-masing, sehingga kinerja bisa lebih efiesien.

Jawaban: B

19. Menurut saya dalam bersosialisasi dengan tetangga dan di dalam mayarakat umum seharusnya kita ….

A. Bersikap aktif dan memberikan peran positif pada mereka.
B. Apa adanya sesuai kepribadian saya.
C. Bersikap pasif dan menunggu untuk diajak terlebih dahulu.
D. Bersosialisasi seperlunya saja.
E. Menempatkan diri sesuai kondisi lingkungan yang ada.

BAHAS PER/SOAL:

Urutan jawaban yang sesuai adalah:

Skor 5	Skor 4	Skor 3	Skor 2	Skor 1
A	E	D	B	C

Dalam bersosialisai terutama bertetangga, kita harus aktif, sebab tetanggan adalah hubungan tedekat kita setelah keluarga, sehingga kita bisa saling memberi informasi dan manfaat.

Jawaban: A

20. Dalam sebuah kunjungan kerja, panitia acara memberikan hidangan makanan khas daerah yang sangat tidak saya sukai. Yang saya lakukan adalah ….

A. Membeli menu makanan sendiri supaya tidak memberatkan panitia.
B. Memakan menu yang disajikan dalam porsi sedikit saja untuk menghormati.
C. Meminta panitia untuk mengganti menu makanan sesuai dengan kesukaan saya.
D. Meminta panitia untuk membelikan menu khusus buat saya tetapi menggunakan uang pribadi saya.
E. Menghabiskan makanan yang disajikan kepada saya tanpa keraguan.

BAHAS PER/SOAL:

Urutan jawaban yang sesuai adalah:

Skor 5	Skor 4	Skor 3	Skor 2	Skor 1
E	B	A	D	C

Untuk menjaga hubungan baik terhadap rang lain, kita harus menghargai apa yang mereka berikan.

Jawaban: E

21. Saya memiliki tetangga yang sangat tidak saya suka karena sering membicarakan hal-hal yang buruk tentang saya. Kebetulan bulan ini pertemuan RT di lingkungan saya akan diadakan di rumah orang tersebut. Saya akan ….

A. Tetap menghadiri pertemuan RT tersebut seperti biasa.
B. Tetap menghadiri pertemuan RT tersebut seperti biasa dan menggunakannya untuk mengklarifikasi semua cerita buruk tentang saya.
C. Tetap menghadiri pertemuan RT tersebut seperti biasa dan menggunakannya untuk memperbaiki hubungan saya dengan orang tersebut.
D. Tidak menghadiri pertemuan RT tersebut.
E. Hadir sebentar saja dalam pertemuan RT tersebut.

BAHAS PER/SOAL:

Urutan jawaban yang sesuai adalah:

Skor 5	Skor 4	Skor 3	Skor 2	Skor 1
C	A	B	E	D

Dalam bersosialisasi kita harus menjaga hubungan agar lebih baik, dan jika ada masalah maka harus segera diperbaiki.

Jawaban: C

22. Anda sedang terburu-buru pergi ke kantor karena ada rapat mendadak dengan atasan Anda, tetapi Anda mendapati piring pecah di lantai dapur rumah Anda yang dapat membahayakan orang lain. Tindakan Anda ….

A. Membiarkan saja dan terburu-buru berangkat ke kantor.
B. Menelepon teman anda untuk menggantikan rapat.
C. Menelepon teman bahwa Anda sedikit terlambat datang dan membersihkan pecahan piring terlebih dahulu.
D. Membersihkan pecahan tersebut lalu datang terlambat.
E. Menutup pecahan piring-piring dengan kain karena terburu-buru agar tidak terlambat rapat dengan atasan Anda.

BAHAS PER/SOAL:

Urutan jawaban yang sesuai adalah:

Skor 5	Skor 4	Skor 3	Skor 2	Skor 1
E	A	D	C	B

Dalam bekerja kita harus berusaha sebaik mungkin untun tetap provesionalitas, dengan tetap mengatasi masalah-masalah seefisien mungkin

Jawaban: E

23. Saat sedang merayakan ulang tahun, datang sebuah kabar bahwa rekan Anda mengalami kecelakaan maka Anda akan ….

A. Membatalkan pesta ulang tahun dan bergegas ke rumah sakit.
B. Menelepon untuk memastikan keadaannya dan menganjurkannya untuk mengikuti asuransi kesehatan.
C. Memberinya bantuan semampu Anda.
D. Mengkoordinasi rekan-rekan lain untuk turut membantu.
E. Melaporkan kepada pihak berwajib tentang hal ini.

BAHAS PER/SOAL:

Urutan jawaban yang sesuai adalah:

Skor 5	Skor 4	Skor 3	Skor 2	Skor 1
C	D	B	E	A

Dalam bersosialisasi terutam dalam pertemanan, kita hendaknya membantu sebisa mungkin ketika ada teman yang ada masalah.

Jawaban: B

24. Di perusahaan Anda baru saja memperbarui saah satu perangkat IT guna mempermudah karyawan menyelesaikan tugasnya. Sikap Anda adalah ....

A. Mengajak rekan-rekan Anda untuk mencari informasi bagaimana mengperasikan perangkat tersebut di waktu kosong.
B. Mencari informasi mengenai pengoperasian perangkat tersebut bersama rekan-rekan anda.
C. Meminta orang lain untuk mengajar Anda dan rekan-rekan anda cara mengoperasikan perangkat tersebut.
D. Mencari informasi di internet dan mempelajarinya bersama rekan-rekan Anda.
E. Mengajak rekan-rekan Anda mencari informasi terkait pengoperasian perangkat tersebut sepulang jam kantor.

BAHAS PER/SOAL:

Urutan jawaban yang sesuai adalah:

Skor 5	Skor 4	Skor 3	Skor 2	Skor 1
A	D	E	B	C

Dalam dunia IT, kita harus terus belajar, menambah wawasan, karena teknologi selalu memiliki ivonasi yang baru, baiknya kita belajar dikala waktu kosong, agar tidak menggangu tanggung jawab dalam bekerja.

Jawaban: D

25. Anda melakukan kesalahan fatal dalam tugas karena kurangnya pemahaman tentang teknologi informasi. Yang Anda lakukan ….

A. Mencari jalan keluar dari permasalahan yang saya hadapi.
B. Mengundang ahli IT untuk memberikan pengetahuan kepada saya tentang cara penggunanaan teknologi informasi.
C. Mengundang ahli IT untuk memberikan pengetahuan informasi kepada saya tentang pentingnya teknologi infrmasi.
D. Membahas permasalahan yang saya hadapi dengan rekan kerja saya.
E. Melapor pada atasan dan mulai mengikuti petunjuknya.

BAHAS PER/SOAL:

Urutan jawaban yang sesuai adalah:

Skor 5	Skor 4	Skor 3	Skor 2	Skor 1
C	E	B	D	A

Dalam dunia IT, kita harus mengikuti perkembangan zaman, salah satu caranya adalah belajar langsung dengan para ahli IT.

Jawaban: C

26. Kamu serorang asisten ahli dari sebuah perusahaan yang tidak paham teknologi, dan kemudian kemajuan IT menuntut Anda untuk membuat system baru dalam perusahaan anda. Sikap Anda ….

A. Menerima teknologi baru tersebut, dengan meminta tolong ahli perusahaan mengajari Anda.
B. Ikut mengembangkan teknologi tersebut dan meminta ahli IT di perusahaan anda untuk mengajari Anda.
C. Menerima teknologi baru tersebut dengan menyerahkan ahli IT dalam pengembangan teknologi yang ada dan anda ikut andil di dalamnya.
D. Ikut mengembangkan teknologi tersebut Bersama ahli IT dari perusahaan anda dan anda membantu menggerakkan anggota lain.
E. Menerima teknologi baru tersebut, dan mengkolaborasikannya dengan ide Anda.

BAHAS PER/SOAL:

Urutan jawaban yang sesuai adalah:

Skor 5	Skor 4	Skor 3	Skor 2	Skor 1
B	D	E	C	A

Dalam dunia kerja, khususnya dalam dunia IT, kita harus mengikuti perkembangan zaman, agar tidak tertinggal, salah satu caranya adalah belajar langsung dengan para ahli IT dan ikut mengembangkannya.

Jawaban: B

27. Anda sedang mengerjakan sebuah tugas dengan suatu aplikasi. Tiba-tiba di tengah jalan aplikasi tersebut error sehingga mengganggu pekerjaan. Anda akan ….

A. Langsung menutup aplikasi tersebut agar tidak banyak data yang hilang.
B. Memanggil ahli IT dan menanyakan keadapanya.
C. Menanyakan kepada teman yang pernah mengalami hal serupa.
D. Terus mengerjakan dan berharap aplikasi akan kembali normal.
E. Menyampaikan pada atasan dan meminta nasehat.

BAHAS PER/SOAL:

Urutan jawaban yang sesuai adalah:

Skor 5	Skor 4	Skor 3	Skor 2	Skor 1
A	B	C	E	D

Dalam bekerja, ketika terjadi masaah, hal utama yang harus dilakukan adalah bagaimana mencegah masalah tersebut agar tidak bertambah besar.

Jawaban: A

28. Atasan meminta saya untuk membuat laporan hasil kerja melalui aplikasi berbasis internet, sementara saya terbiasa membuat laporan dengan print out hasil ketikan komputer. Saya akan ….

A. Tetap membuat laporan dengan print out, karena sudah terbiasa dengan cara itu.
B. Meminta teman untuk membuatkan laporan hasil kerja saya dengan aplikasi.
C. Belajar untuk membuat laporan hasil kerja melalui aplikasi.
D. Meminta kebijakan pada atasan untuk dapat mengerti kebiasaan saya dan tidak memaksa membuat laporan hasil kerja melalui aplikasi.
E. Malas membuat laporan hasil kerja.

BAHAS PER/SOAL:

Urutan jawaban yang sesuai adalah:

Skor 5	Skor 4	Skor 3	Skor 2	Skor 1
C	D	A	B	E

Dalam bekerja, ketika terjadi masalah, hal utama yang harus dilakukan dalam dunia IT, kita harus mengikuti perkembangan zaman agar tidak tertinggal. Kita harus terus belajar sesuai bidang yang sedang kita kerjakan, agar memudahkan kita dalam bekerja.

Jawaban: C

29. Saat sedang mengalami masalah dalam keluarga, tiba-tiba muncul juga masalah dalam pekerjaans aya. Sikap saya saat meghadapi masalah yang datang bersamaan ini adalah ….

A. Sabar dan berusaha meng-hadapi masalah tersebut
B. Berdoa, berpasrah diri, dan berusaha melupakan masalah
C. Berusaha menyelesaikan masalah satu persatu
D. Meminta bantuan teman untuk menyelesaikan masalah
E. Berusaha menyelesaikan masalah secara langsung dan bersamaan

BAHAS PER/SOAL:

Urutan jawaban yang sesuai adalah:

Skor 5	Skor 4	Skor 3	Skor 2	Skor 1
C	A	D	E	B

Jika mendapatkaan masalah baiknya menyelesaikannya satu persatu, agar lebih tenang mengatasinya, sehingga masalah akan cepat selesai.

Jawaban : C

30. Tetangga saya sering membuang sampah di halama rumah saya. Yang saya lakukan adalah ….

A. memarahinya saat ia datang membuah sampah
B. melaporkannya kepada ketua RT
C. Mendatanginya dan memintanya untuk tidak membuang sampah sembarangan
D. membalas dengan membuah sampah di halamannya
E. memberi tanda peringatan untuk tidak membuang sampah di halaman.

BAHAS PER/SOAL:

Urutan jawaban yang sesuai adalah:

Skor 5	Skor 4	Skor 3	Skor 2	Skor 1
C	E	B	A	D

Dalam bersosialisasi dengan tetanggan, ketika terjadi permasalahan, baiknya dikomunikasikan baik-baik, tanpa marah-marah ataupun rasa dendam.

Jawaban: C

31. Untuk memenuhi target yang diberikan pada kelompok saya. Saya ….

A. Memberikan kontribusi ala kadarnya saja
B. Memberikan kontribusi yang maksimal agar target terpenuhi
C. Memberikan kontribusi yang minimal karena kegagalan ditanggung Bersama
D. Bekerja sama dengan baik dengan anggota kelompok lain
E. Segera menentukan target pribadi dan tidak memikirkan target anggota kelompok lain

BAHAS PER/SOAL:

Urutan jawaban yang sesuai adalah:

Skor 5	Skor 4	Skor 3	Skor 2	Skor 1
C	A	D	E	B

Dalam bekerja berkelmpok, kita harus memberikan kontribusi sesuai keahlian kita, sehingga tujuan dan target dapat tercapai.

Jawaban: B

32. Saat saya dipercaya sebagai petugas dalam promo penjualan produk baru, saya melihat antrian yang sangat banyak, tidak teratur dan berebut mendapat pelayanan dengan segera, maka saya ….

A. Menertibkan dan berinisiatif membuat nomor antrian
B. Memarahi calon pembeli yang tidak mau mengalah
C. Memperhatikan saja
D. Melapor kepada pimpinan untuk segera bertindak
E. Menertibkan dan berinisiatif membuka loket tambahan jika memungkinkan.

BAHAS PER/SOAL:

Urutan jawaban yang sesuai adalah:

Skor 5	Skor 4	Skor 3	Skor 2	Skor 1
A	E	C	B	D

Dalam bekerja di lapangan kita harus pandai melihat situai dan kondisi disekitar, dan ketika menukan masalah kita harus bisa mengatasi seefisien mungkin.

Jawaban : A

33. Seseorang tamu datang untuk meminta pelayanan, tetapi dia tidak membawa syarat-syarat yang lengkap. Padahal dia datang dari tempat yang sangat jauh. Sikap anda ….

A. Menolak dan memintanya kembali saat syarat-syarat sudah lengkap.
B. Melihat syarat-syarat apa saja yang kurang, barangkali masih bisa diberikan pelayanan.
C. Berkonsultasi dengan atasan untuk melihat apakah ada kebijakan untuk diberikan pelayanan.
D. Langsung memberikannya pelayanan karena kurangnya syarat adalah hal yang biasa.
E. Langsung memberikan pelayanan karena kasihan dia sudah datang dari jauh.

BAHAS PER/SOAL:

Urutan jawaban yang sesuai adalah:

Skor 5	Skor 4	Skor 3	Skor 2	Skor 1
C	A	E	D	B

Dalam dunia kerja, ketika terjadi masalah, dan bukan ranah kita untuk mengatasinya, baiknya berkomunikasi kepada atasan atau orang yng berkompeten pada bidangnya

Jawaban: C

34. Sebagai seorang jurnalis, saya ditugaskan untuk meliput daerah yang terkena bencana alam gunung meletus. Hal yang saya lakukan ….

A. Menjalankan tugas dan mencari informasi keadaan daerah yang akan saya liput
B. Menjalankan tugas dengan catatan semua perlengkapan sudah tersedia
C. Menjalankan tugas sebaik-baiknya dengan mempersiapkan semua yang diperlukan
D. Meminta atasan untuk mengganti tugas saya
E. Menolak tugas tersebut dengan sopan

BAHAS PER/SOAL:

Urutan jawaban yang sesuai adalah:

Skor 5	Skor 4	Skor 3	Skor 2	Skor 1
C	A	B	D	E

Dalam bekerja di lapangan kita harus pandai melihat situai dan kondisi di sekitar, dan sebelum memulainya sebaiknya menyiapkan semua yang diperlukan, mengingat lokasi kerja yang jauh.

Jawaban: C

35. Guna menghalau efek negatif dari media sosial, apa yang anda lakukan ....

A. Tidak menggubris apabila ada yang berkata kasar di media sosial
B. Mempunyai dua akun media sosial
C. Membuat media sosial dengan nama samara
D. Menggunakan media sosial untuk melihat pekerjaan dan silaturahmi
E. Hanya menggunakan media sosial terntentu saja

BAHAS PER/SOAL:

Urutan jawaban yang sesuai adalah:

Skor 5	Skor 4	Skor 3	Skor 2	Skor 1
D	E	A	B	C

Dunia IT semakain berkembang, bersama dengan media sosial juga, sehingga kita harus berhati-hari agar tidak terdampak efek negatifnya dengan cara menyortir penggunaan media sosial.

Jawaban: D

36. Anda mendapatkan tugas dinas luar oleh atasan dengan menggunakan transportasi udara. Pada saat Anda sedang di bandara, dan pengumuman keberangkatan pesawat yang akan Anda tumpangi sudah terdengar, Anda melihat seorang nenek-nenek yang kebingungan. Bagaimana sikap Anda?

A. Membantu nenek-nenek tersebut menyelesaikan masalahnya.
B. Meminta bantuan satpam untuk membantu nenek-nenek tersebut.
C. Bergegas menuju pesawat dan berharap ada orang lain yang menolongnya.
D. Bertanya terlebih dahulu kepada nenek-nenek tersebut, jika sangat penting Anda akan membantunya.
E. Menyewa jasa orang lain yang profesional untuk membantu nenek-nenek tersebut.

BAHAS PER/SOAL:

Urutan jawaban yang sesuai adalah:

Skor 5	Skor 4	Skor 3	Skor 2	Skor 1
B	D	C	A	E

Karena Anda harus segera naik pesawat, sehingga meminta bantuan ke satpam untuk membantu nenek-nenek tersebut cara yang terbaik sesuai yang dijelaskan pada soal.

Jawaban: B

37. Pada suatu hari, di perusahaan tempat Anda bekerja, terdengar isu bahwa salah seorang pegawai telah menggelapkan uang penjualan untuk kepentingan pribadi nya. Isu ini sangat cepat menyebar, sehingga menjadi buah bibir di perusahaan. Pegawai yang diisukan melakukan penggelapan tersebut, sudah tidak masuk beberapa hari. Bagaimana menurut Anda?

A. Pihak perusahaan harus memberikan sanksi yang tegas terhadap pelaku.
B. Anda akan menanyakan kebenaran informasi tersebut kepada rekan kerja Anda.
C. Kabar tersebut belum pasti, sehingga Anda memilih untuk tidak berkomentar lebih jauh.
D. Sifat pegawai yang menggelapkan uang perusahaan tersebut sangat diluar batas, dan menyebabkan kerugian besar kepada perusahaan.
E. Anda akan mendatangi rumah pegawai yang diisukan menggelapkan uang perusahaan tersebut

BAHAS PER/SOAL:

Urutan jawaban yang sesuai adalah:

Skor 5	Skor 4	Skor 3	Skor 2	Skor 1
C	B	D	A	E

Salah satu sikap professional dalam bekerja yaitu mampu mengendalikan diri dari tindakan-tindakan yang tidak efektif. Dalam situasi tersebut, Anda sebaiknya memilih untuk tidak berkomentar lebih jauh mengingat kasus tersebut baru sebatas isu yang belum tentu kebenarannya.

Jawaban: C

38. Perusahaan tempat anda bekerja menuntut pegawainya dapat menguasai bahasa asing. Oleh sebab itu perusahaan akan mengadakan kursus untuk semua pegawai. Agar semua pegawai di kantor anda dapat mengikuti acara kursus bahasa asing untuk meningkatkan kemampuan SDM, maka sebagai panitia kegiatan tersebut anda akan ….

A. Menyelenggarakan kursus di hari libur
B. Menyelenggarakan kursus pada jam istirahat
C. Menyelenggarakan kursus setelah jam kantor selesai
D. Menyelenggarakan kursus secara bertahap sehingga tidak engganggu kinerja instansi anda
E. Meminta pendapat rekan – rekan anda kapan sebaiknya kursus dilaksakan

BAHAS PER/SOAL:

Urutan jawaban yang sesuai adalah:

Skor 5	Skor 4	Skor 3	Skor 2	Skor 1
D	C	E	A	B

Topik profesionalisme dan kemauan belajar berkelanjutan. Peningkatan kemampuan SDM sangat penting sehingga setiap karyawan harus memiliki semangat untuk belajar, meskipun begitu juga harus memperhatikan hak – hak karyawan sehingga pelaksanaan kursus lebih baik dilaksanakan pada secara bertahap sehingga tidak mengganggu kinerja instansi.

Jawaban: C

39. Anda seorang karyawan yang memiliki dedikasi yang tinggi terhadap pekerjaan. Suatu hari Anda dihadapkan dengan pekerjaan yang sangat banyak dan semuanya memiliki *deadline* yang sama. Sebagai karyawan yang profesional apa yang Anda akan lakukan ….

A. Pulang sesuai jadwal dengan meninggalkan setumpuk pekerjaan di meja untuk dikerjakan besok
B. Memilih lembur dengan harapan mendapat tambahan gaji berupa uang lembur
C. Menyelesaikan pekerjaan sesuai dengan *deadline* dengan hasil sebisanya
D. Melapor pada atasan bahwa Anda membutuhkan bantuan karyawan lain dalam menyelesaikan tugas yang banyak
E. Membawa tugas tersebut ke rumah dan mengerjakannya dirumah sampai larut malam

BAHAS PER/SOAL:

Urutan jawaban yang sesuai adalah:

Skor 5	Skor 4	Skor 3	Skor 2	Skor 1
D	B	C	A	E

Seseorang yang memiliki profesionalitas akan terfokus untuk mengerjakan pekerjaannya dengan baik dan benar, demi hasil yang berkualitas. Dengan keadaan pekerjaan yang banyak dan *deadline* yang bersamaan maka yang perlu dilakukan adalah mengatakan pada atasan terkait kondisi yang terjadi agar tidak menghambat pekerjaan dan tetap mengutamakan kualitas hasil kerja.

Jawaban: D

40. Terjadi konflik antar suku, yaitu suku pegunungan atas dan suku pegunungan bawah pantai. Konflik ini bermula saat suku pegunungan atas sengaja membakar rumah adat milik suku bawah pantai. Mengetahui hal tersebut suku bawah pantai sangat marah. Pertikaian antar kedua suku pun terjadi. Salah satu upaya pemerintah yang tepat untuk melerai konflik tersebut adalah ….

A. Menumpuk kesadaran toleransi antar suku
B. Melakukan mediasi terhadap kedua suku
C. Memberikan jaminan hukum yang pasti
D. Mencegah kedua suku tersebut bertikai
E. Menangkap pelaku yang menjadi pemicu pertikaian

BAHAS PER/SOAL:

Urutan jawaban yang sesuai adalah:

Skor 5	Skor 4	Skor 3	Skor 2	Skor 1
B	A	C	D	E

Karena konflik sedang berlangsung, maka salah satu upaya pemerintah yang paling tepat adalah dengan melakukan mediasi terhadap kedua suku, agar kekacauan tidak semakin parah dan melebar.

Jawaban: B

41. Negara Indonesia sejak lahirnya memiliki beragam latar belakang seperti budaya, suku, bahasa etnis, tradisi dan agama. Apabila setiap umat beragama bersikap intoleran, tidak akan tercipta keharmonisan antar umat beragama. Dampat yang akan terjadi yaitu kondisi masyarakat akan kacau dan hubungan masyarakat dengan pemerintah tidak baik. Supaya situasi tersebut tidak terjadi, semua umat beragama hendaknya ….

A. Mengganti ideologi negara yang baru
B. Lebih serius mempelajari ajaran agamanya
C. Menciptakan satu hukum agama untuk semua umat
D. Mengedepankan sikap saling menghormati dan menghargai
E. Menghayati semua ajaran agama yang ada

BAHAS PER/SOAL:

Urutan jawaban yang sesuai adalah:

Skor 5	Skor 4	Skor 3	Skor 2	Skor 1
D	B	E	C	A

Semua umat bergama hendaknya mendepankan sikap saling menghormati dan menghargai, hal ini adalah cara terbaik yang bisa dilakukan agar tercipta suatu sikap yang toleran antar pemeluk agama satu dengan yang lain.

Jawaban: D

42. Rakyat Indonesia telah melungsurkan Pemilihan Umum Presiden dan Wakil Presiden Republik Indonesia secara langsung. Hampir setiap masa kampanye di Indonesia terjadi konflik antar partisipan pendukung pasangan calon. Konflik tersebut kadang dimulai karena hal-hal kecil, misalnya karena merasa paslon yang didukung paling benar bahkan terkadang menjelekkan pasangan lain. Berdasarkan kasus tersebut, konflik terjadi karena ….

A. Adanya proses disosiatif yang berlangsung secara terus menerus
B. Norma-norma sosial sudah tidak berfungsi dengan baik
C. Sangksi terhadap pelanggan norma tidak tegas atau lemah
D. Adanya pertentangan norma yang membingungkan
E. Adanya kesenjangan ekonomi yang telah lama terjadi

BAHAS PER/SOAL:

Urutan jawaban yang sesuai adalah:

Skor 5	Skor 4	Skor 3	Skor 2	Skor 1
A	B	D	C	E

Interaksi sosial yang bersifat disosiatif adalah interaksi sosial yang bersifat berlawanan atau merupakan cara berjuang untuk melawan kelompok lain(orang lain) untuk mencapai tujuan-tujuan tertentu.

Jenis atau bentuk interaksi sosial yang bersifat disosiatif meliputi: persaingan, pertentangan, kontroversi.

Jawaban: A

43. Sesuai dengan makna Negara Indonesia yang berdasarkan Pancasila dan UUD 1945, maka Negara Indonesia memiliki sifat kebersamaan, kekeluargaan serta religiusitas. Dalam pengertian inilah maka Negara Indonesia pada hakikatnya adalah Negara kebangsaan yang Berketuhanan Yang Maha Esa. Ketika kamu memiliki teman yang bebebeda agama dengan kamu, yang pada suatu hari merayakan hari besar keagamaannya, sikap yang kamu perlu tunjukan yaitu ….

A. Menghormati keyakinan agama yang dianut oleh sahabatmu tersebut.
B. Menjaga ketenangan selama pelaksanaan hari raya agar dapat berjalan lancar.
C. Ikut merayakan hari besar agamanya karena dia sahabatmu.
D. Membiarkannya melaksanakan hari besar keagamaannya dengan hikmat.
E. Tidak perlu melakukan apa-apa karena bukan agama yang Anda anut.

BAHAS PER/SOAL:

Urutan jawaban yang sesuai adalah:

Skor 5	Skor 4	Skor 3	Skor 2	Skor 1
B	A	D	E	C

Sikap bukti kongkrit yang dapat dilakukan oleh bangsa Indonesia tanpa melanggar kaidah-kaidah ajaran agama yang kita anut.

Jawaban: B

44. Pada suatu hari, Anda mendapatkan salah satu rekan kantor Anda berubah sikap menjadi lebih pendiam dan tertutup serta tidak mau berinterkasi dengan rekan yang lain. Dia mulai menganggap semua orang yang tidak sejalan dengan dirinya adalah sesat dan kafir. Menghadapi perubahan sikap rekan tersebut apa yang Anda lakukan ….

A. Tidak melakukan apa-apa karena Anda tidak mau mencampuri urusannya.
B. Membiarkannya selama itu tidak mengganggu Anda.
C. Mengajaknya untuk diskusi dan meluruskan jalan pikirannya.
D. Melaporkan kepada atasan.
E. Melaporkan kepada polisi.

BAHAS PER/SOAL:

Urutan jawaban yang sesuai adalah:

Skor 5	Skor 4	Skor 3	Skor 2	Skor 1
D	C	A	B	E

Tindakan paling tepat adalah dengan melaporkan kepada atasan, karena masih dalam ruang lingkup kantor, dan atasan juga lebih punya wewenang untuk mengambil tindakan.

Jawaban: D

45. Pergolakan daerah di Papua membuat pemerintah memberikan otonomi khusus bagi Papua. Melalui otonomi khusus tersebut diharapkan dapat meredam kekecewaan rakyat Papua terhadap pemerintah terkait distribusi pembangunan yang tidak merata. Upaya ini diharapkan mampu menyelamatkan keutuhan NKRI. Pergolakan daerah merupakan ancaman dari dalam berupa ….

A. Makar
B. Spionase
C. Sabotase
D. Disintegrasi
E. Degradasi

BAHAS PER/SOAL:

Urutan jawaban yang sesuai adalah:

Skor 5	Skor 4	Skor 3	Skor 2	Skor 1
D	A	C	B	E

Menurut Kamus Besar Bahasa Indonesia (KBBI), disintegrasi merupakan keadaan tidak bersatu padu; keadaan terpecah belah; hilangnya keutuhan atau persatuan; perpecahan.

Jawaban: D

TENTANG PENYUSUN

TIM MEDIA EDUKA

Tim Media Eduka adalah tim yang bergerak di dunia Pendidikan dan fokus pada pengembangan materi-materi pendidikan, psikotes, dan pengembangan sumber daya manusia di Indonesia. Tim Media Eduka telah berpengalaman dan merupakan lulusan terbaik di bidangnya masing-masing, baik bidang pendidikan maupun psikotes. Tim Media Eduka telah menggeluti dunia penulisan sejak beberapa tahun terakhir dan akan terus berkarya untuk memajukan literasi dan Pendidikan di Indonesia.

DAFTAR PUSTAKA

Aggarwal, RS. 1994. *A Modern Approach to Verbal and Non-Verbal Reasoning.* New Delhi: S. Chand & Company Ltd.

Charles Forster, and Mike Wilson, 2009, *GMAT Review*, 12Edition, Wiley Publishing, Inc., Hoboken, New Jersey.

Christopher Black And Mark Anestis, 2011, *SAT 2011 Edition*, McGRAW-HILL's.

GMAC. 2019. GMAT Official Guide 2020 Verbal Review: Book + Online. New Jersey: Wiley.

GRE Exam Secrets Test Prep Team. 2019. GRE Prep 2019 & 2020: GRE Secrets Study Book & Test Prep Questions for the Graduate Record Examination. Beaumont: Mometrix Media LLC.

GRE (Graduate Record Examinations), 2002, *Preparing for the Verbal and Quantitative Sections of the GRE General Test,* Educational Testing Service United States and other countries

James Hasik, Stacey Rudnick and Ryan Hackney, 2011, *GMAT 2011 Edition*, McGRAW-HILL's.

Jerry Bobrow, and Ed Kohn, M.S. 2010, *Math Review for Standardized Tests*, 2nd Edition, Wiley Publishing, Inc

Kretschmer, John. 1996. *Conquering LSAT Logic Games.* New York: Mc-Graw Hill's.

LearningExpress, 2003, MATH REVIEW for Practicing to Take the GRE, Educational Testing Service in the United States and other countries.

LearningExpress, 2011, *Practice Book for the Paper-based GRE*, Educational Testing Service United States and other countries

Michelle Rose Gilman, Veronica Saydak, and Suzee Vlk, 2007, *The GRE Test For Dummies*, 6th Edition Published by Wiley Publishing, Inc.

Mike Bryon, 2008, *Ultimate Psychometric Tests*, British Library Cataloguing-in-Publication Data.

Paul Newton and Helen Bristoll, 2009, Spatial Ability-Practice Test 1, Psychometric Success

Philip Carter and Ken Russell, 2002, *MORE IQ TESTING: 250 new ways to release your IQ potential*, JOHN WILEY & SONS, LTD

Philip Carter, 2008, *Advanced IQ tests: the toughest practice questions to test your lateral thinking, problem solving, and reasoning skills*, Kogan Page, London and Philadelphia

Polmas, Sihombing Ir & Adi Setiyawan, S.Si.. 2010. *Strategi Menaklukkan TPA (Tes Potensi Akademik)*. Jakarta: Literatur Media Sukses.

Purba, Besilon. 2010. *Kupas Tuntas Skolastik dan TPA. Bandung*: Penerbit Yrama Widya.

Tim Garuda Eduka. 2019. All-New Tes CPNS 2019/2020. Jakarta: Penerbit Cmedia.

https://belajarbro.id

https://brainly.co.id/

https://rukim.id/

https://sscasn.bkn.go.id

https://www.garutselatan.info/