

CADERNO de revisão

4º ANO

ANOS INICIAIS

PREFEITURA DE JOÃO ALFREDO
UM NOVO TEMPO

PREFEITURA DE JOÃO ALFREDO
SECRETARIA MUNICIPAL DE EDUCAÇÃO, CULTURA E ESPORTES

“Educar é semear com sabedoria e colher com paciência”

Augusto Cury

4º ano

- **PREFEITO DO MUNICÍPIO**
  José Antonio Martins da Silva
- **VICE-PREFEITO DO MUNICÍPIO**
  Adeildo Batista de Oliveira Filho
- **SECRETÁRIO DE EDUCAÇÃO DO MUNICÍPIO**
  Idney Kleiton Brito Dutra
- **DIRETOR DE ENSINO DO MUNICÍPIO**
  William Emanuell Batista de Oliveira
- **COORD. GERAL DO ENSINO FUNDAMENTAL - ANOS INICIAIS DO MUNICÍPIO**
  Elisangela Lima da Silva Fontes
- **PROFESSORES COLABORADORES - REDE DE ENSINO DO MUNICÍPIO**
  Silvio Ferreira de Lima
  Josilma de Oliveira
  Joelma Dias dos Santos
  Sabrina Raquel de Souza

Sumário - 4º ano

Lingua Portuguesa 1

Matemática 2

Ciências 3

História 4

Geografia 5

Artes 4

Educação Física 5

LÍNGUA PORTUGUESA

GÊNERO DO SUBSTANTIVO

- Na língua portuguesa há dois gêneros: masculino e feminino. Será masculino o substantivo que admitir o artigo **o** e feminino aquele que admitir o artigo **a**.

- O avião; o calçado; o leão.
- A menina; a camisa; a cadeira.



(EF03LP08JA) QUESTÃO 1 – Aplicando substantivos masculinos e femininos: passe para o feminino.

1. padrinho .....
2. genro .....
3. ator .....
4. compadre .....
5. carneiro .....
6. cavalo .....
7. zangão .....
8. cavalheiro .....
9. cavaleiro .....
10. bode .....
11. marido .....
12. boi .....
13. professor .....
14. padrasto .....
15. homem .....
16. cantor .....
17. doutor .....
18. diretor .....
19. pintor .....
20. cozinheiro .....

(EF35LP12JA) QUESTÃO 2 – Letras maiúsculas ou minúsculas? Complete as frases.

Escrevemos com letras maiúsculas:
Nome de pessoas, animais, lugares, rios e no início de frases.



_____amãe fez um bolo muito gostoso.

_____apai tem um lindo carro.

_____abriel viajou e seu ____rmão também.

_____edro gosta muito de _____orvete.

_____uana vai ao _____inema hoje.

_____ rio _____mazonas é grande.

_____ meu cachorro chama-se _____otó

O _____rasil é um país lindo.



(EF04LP01JA) QUESTÃO 3 – Escreva nome de 2 colegas seus:

_____ e _____

(EF04LP01JA) QUESTÃO 4 – Escreva nome de 2 lugares que você conhece:

_____ e _____

(EF03LP01JA) QUESTÃO 5 – Forme o plural, acrescentando S no final de cada palavra.



a) sapato _____ d) livro _____

b) bolsa _____ e) mesa _____

c) gato _____ f) maçã _____

(EF03LP01JA) QUESTÃO 6 – Forme o plural das palavras terminadas em -ão, conforme o exemplo:

Acrescentando **-s**

a) irmão _____ d) cristão _____

b) chão _____ e) órgão _____

c) grão _____ f) cidadão _____

Substituindo **-ão** por **-ões**

g) caminhão _____ j) fogão _____

h) canhão _____ k) coração _____

i) limão _____ l) canção _____

Substituindo **-ão** por **-ães**

m) alemão _____ p) pão _____

n) cão _____ q) tabelião _____

o) capitão _____ r) escrivão _____

O conto é uma narrativa curta, que gira em torno de um só conflito, com poucos personagens. E apresenta os mesmos elementos de um romance: narrador, personagens, enredo, espaço e tempo. É o ato de narrar acontecimentos reais ou

(EF35LP21JA) QUESTÃO 7 – Leia o texto e responda:

João e o pé de feijão

Era uma vez um menino chamado João, que vivia com sua mãe longe da cidade.
Um dia, a mãe de João disse: "Joãozinho, acabou a comida e o dinheiro. Vá até a cidade e venda nossa vaquinha".
João foi e no caminho, encontrou um homem que o convenceu a trocar a vaquinha por sementes de feijão. "Com estas sementes de feijão jamais passarão fome." João acreditou e trouxe as sementes para casa.
Quando a mãe de João viu as sementes, ficou furiosa. Jogou tudo pela janela. Na manhã seguinte, João levantou com muita fome e foi até o quintal. Ficou espantado quando viu uma enorme árvore que ia até o céu. Nem chamou sua mãe. Decidiu subir pelo pé de feijão até chegar à copa.
Ficou maravilhado ao encontrar um castelo nas nuvens e quis vê-lo de perto, quando uma mulher enorme surgiu e o agarrou: "O que faz aqui menino? Será meu escravo. Mas o gigante não pode saber, por isso vou escondê-lo. Se ele vir você, com certeza vai comê-lo.".
O gigante chegou e sentou-se à mesa, comeu e depois ordenou a uma galinha prisioneira que pusesse um ovo de ouro e a uma harpa que tocasse uma bela melodia. Vendo que a mulher havia se esquecido dele, João saiu do armário e, rapidamente, libertou a galinha e também a harpa.
Mas a galinha cacarejou e a harpa fez um som estridente despertando o gigante.
Com a galinha debaixo do braço e a harpa na outra mão João deslizou pelo tronco do pé de feijão, o qual cortou deixando o gigante preso nas alturas.

Fonte: Uma História para cada dia do ano. Ed. Brasileitura. p. 64

- Esse texto é um exemplo de:

  A) biografia.
  B) conto.
  C) fábula.
  D) lenda.

- Quem são os personagens da história?

- Onde acontece a história?

- Nesse conto aparece fatos fictícios. Quais são eles?

  A) a galinha e mãe
  B) João e a vaquinha
  C) João e mãe
  D) O gigante e o pé de feijão

Substantivos são as palavras que dão nome aos seres, sentimentos, lugares, qualidades, etc. Os substantivos também são classificados da seguinte maneira:



São formados por apenas uma palavra. Ex.: cadeira, mesa, bola.



São nomes formados por duas ou mais palavras. Em alguns casos usamos o hífen entre as palavras. Ex.: couve-flor, girassol, beija-flor, cachorro-quente.



(EF03LP08JA) QUESTÃO 8 – Leia o poema ao lado e responda:

a) Retire do poema dos substantivos composto:

_____

b) Retire do texto três substantivos simples:

_____

_____

(EF03LP08JA) QUESTÃO 9 – Assinale a alternativa onde todas as palavras são substantivo composto:

( ) girassol, cadeira, passatempo, beija-flor.
( ) pernilongo, medo, pisca-pisca, noite.
( ) pombo-correio, couve-flor, passatempo, estrela-do-mar.
( ) monstro, pernilongo, guarda-chuva, medo.

(EF03LP08JA) QUESTÃO 10 – Leia as frases, analisando os substantivos em destaques, e classifique-os com SS os substantivos simples e com SC os substantivos compostos:

( ) Ganhei um **quebra-cabeça** no meu aniversário.
( ) Encontrei o **jogo** que você me deu.
( ) Aquele **bate-papo** com os jogadores foi muito legal.
( ) Jamã esqueceu seu **estojo** na escola.
( ) Você viu o **arco-íris** no céu?
( ) Preciso arrumar meu **guarda-roupa** hoje.

(EF03LP08JA) QUESTÃO 11 – Encontre no quadro abaixo, as coleções que formam os coletivos a seguir.

Alfabeto _____ Pilha _____
Elenco _____ Réstia _____
Nuvem _____ Quadrilha _____
Arquipélago _____ Viveiro _____
Assembléia _____ Multidão _____



D	E	P	U	T	A	D	O	S	K	G	P
B	R	E	C	H	P	K	L	K	Y	A	K
J	S	S	L	E	T	R	A	S	R	F	D
F	N	S	F	R	F	S	B	Z	I	A	A
R	Q	O	R	A	E	R	L	V	L	N	T
P	U	A	G	K	R	L	V	N	H	H	O
P	Á	S	S	A	R	O	S	R	A	O	R
T	I	J	O	L	O	S	B	J	S	T	E
G	Q	F	P	H	K	M	B	G	Z	O	S
Z	C	Q	P	O	R	X	L	K	F	S	X
G	K	P	R	S	L	A	D	R	Õ	E	S

(EF03LP08JA) QUESTÃO 12 – Circule somente os substantivos coletivos.

Plantas	bando	discos	gatos
Constelação	Crianças	cardume	pomar
Frangos	tribo	discoteca	peixes

(EF03LP08JA) QUESTÃO 13 – Complete as frases com um substantivo coletivo.

a. Um avião da _____ partiu sem permissão para voar.
b. Um ladrão da _____ fugiu da penitenciária.
c. Uma _____ de gafanhotos atacou a plantação de milho.

(EF03LP08JA) QUESTÃO 14 – Dê o coletivo de:

a. pássaros- _____ e. ovelhas-_____
b. mapas- _____ f. porcos -_____
c. animais- _____ g. chave-_____
d. plantas de uma região-_____ h. navios-_____

(EF03LP02JA) QUESTÃO 15 – Forme palavras e escreva-as ao lado:

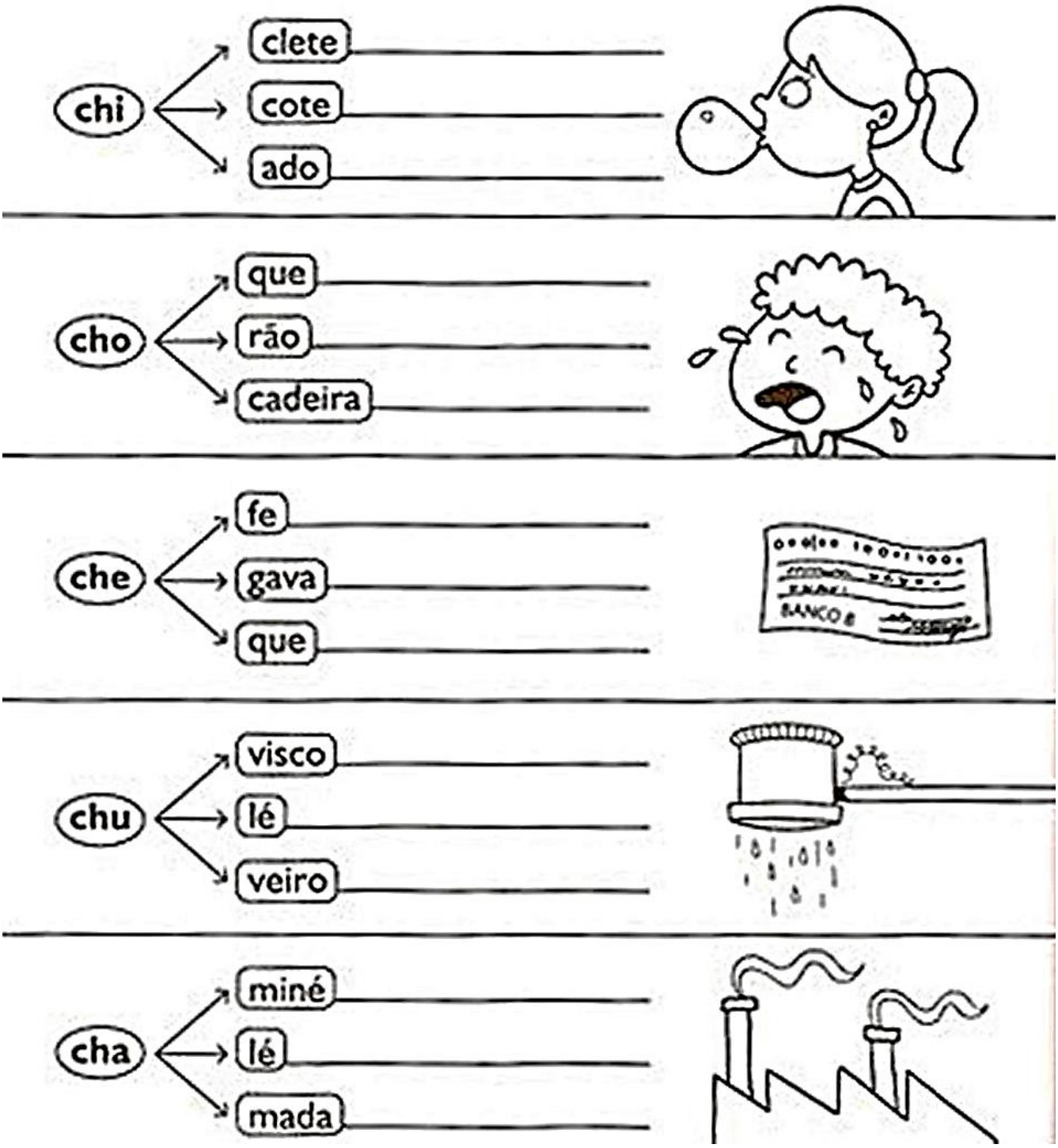

(EF35LP09JA) QUESTÃO 16 – Faça um relato sobre um momento marcante na sua vida.

UM DIA ESPECIAL NA MINHA VIDA



ONDE ACONTECEU ?

QUEM ESTAVA COM VOCÊ ?

O QUE ACONTECEU ?

POR QUE FOI ESPECIAL ?

(EF03LP01JA) QUESTÃO 17 – Leia as palavras e escreva-as nas colunas correspondentes, conforme o som do X.



SOM/ CH	SOM/ S-SS	SOM/ CS	SOM/ Z

(EF03LP01JA) QUESTÃO 18 – Junte as sílabas e descubra palavras secretas com G e J sendo que as formas geométricas devem ser iguais:

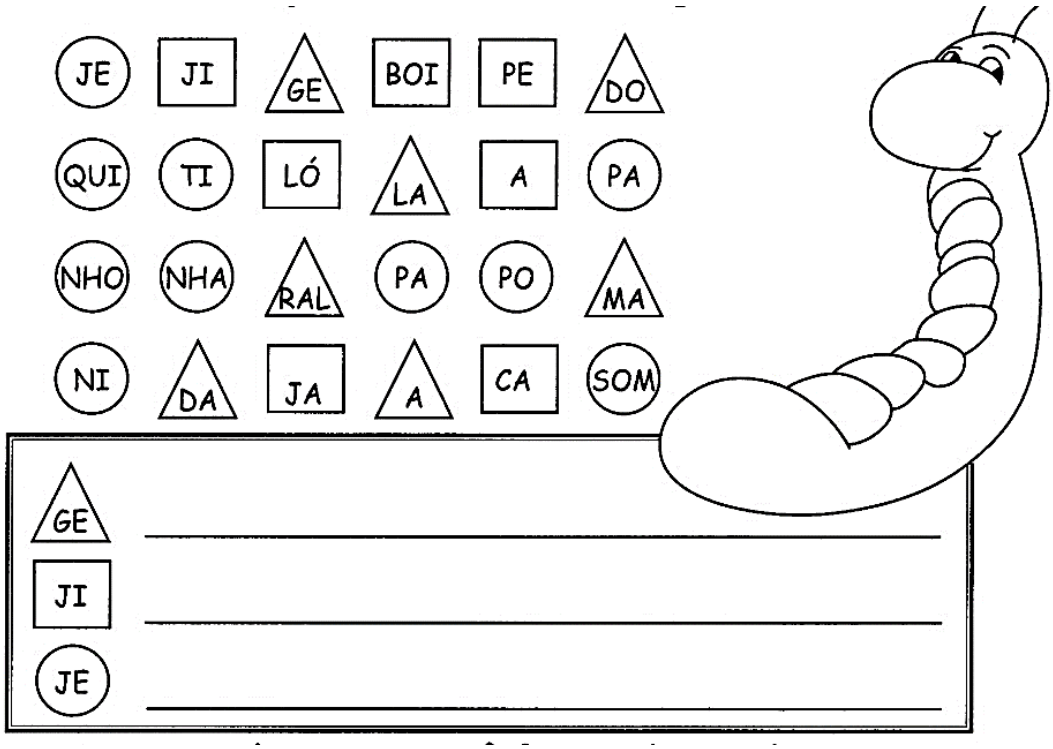

(EF03LP01JA) QUESTÃO 19 – Separe as palavras que você formou de acordo com as etiquetas.

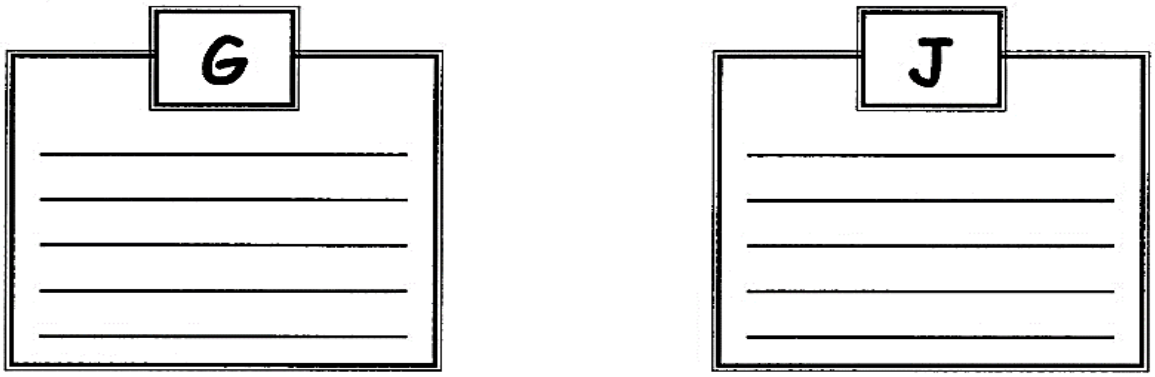

(EF03LP01JA) QUESTÃO 20 – Agora escolha uma das palavras acima e forme frases:

Matemática

(EF03MA03JA) QUESTÃO 1 – Resolva as adições.

776 + 222	661 + 234	688 + 211	217 + 332
856 + 121	288 + 511	251 + 425	688 + 311
164 + 411	623 + 174	333 + 413	444 + 551
155 + 124	462 + 421	674 + 222	575 + 223
835 + 132	242 + 537	866 + 112	426 + 121

(EF03MA20JA) QUESTÃO 2 – Pinte os produtos que são vendidos aos litros.



(EF03MA20JA) QUESTÃO 3 – Escreva nomes de produtos líquidos usados em sua casa.

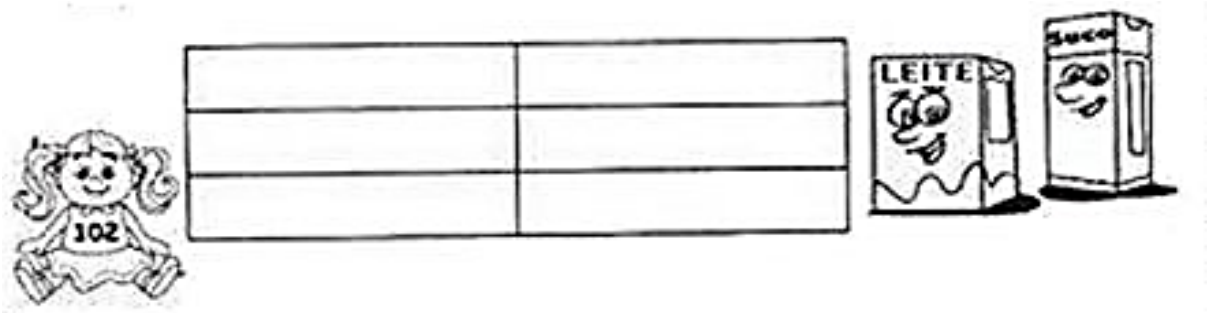

(EF03MA11JA) QUESTÃO 4 – Resolva as subtrações:



-921
810

-844
123

-381
111

-389
204

-470
250

-451
121

(EF03MA15JA) QUESTÃO 5 – Observe as figuras abaixo:



Quais dessas figuras possuem 4 lados?

(a) Retângulo e pentágono (b) Triângulo e Pentágono

(c) retângulo e Quadrado (d) Triângulo e Quadrado.

(EF03MA15JA) QUESTÃO 6 – Para embalar os ovos de Páscoa que faz para vender, Joana escolheu uma caixa na forma de um cubo. A planificação que representa essa caixa desmontada é:

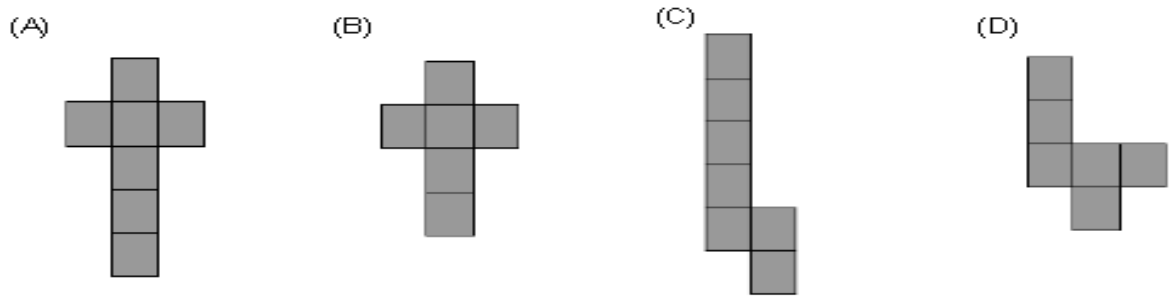

(EF03MA15JA) QUESTÃO 7 – Ligue e pinte cada sólido para sua planificação.

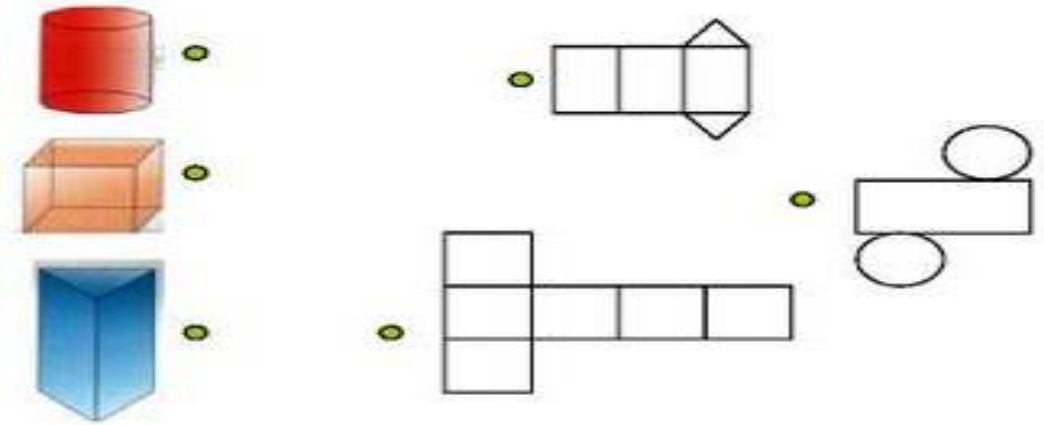

(EF03MA15JA) QUESTÃO 8 – Escreva o nome dos sólidos geométricos abaixo.

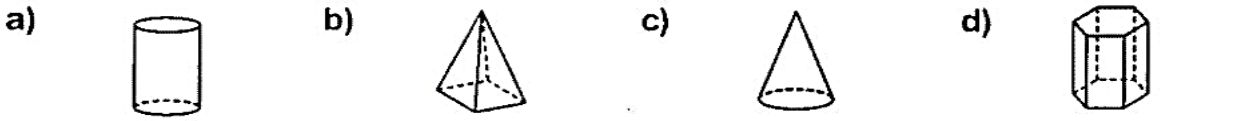

(EF03MA03JA) QUESTÃO 9 – Observe as continhas. Arme, resolva as adições, em seguida, tire a prova real.

a. 52.895+ 2.658=_____

b. 8.954+387=_____

c. 57.854+48.769=_____

d. 9.856+854=_____

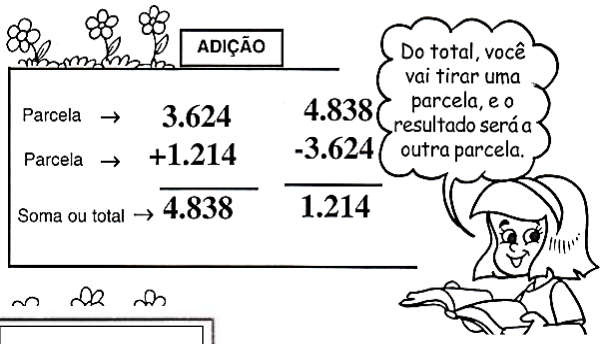

A)	Prova Real	C)	Prova Real
B)	Prova Real	D)	Prova Real

(EF03MA05JA) QUESTÃO 10 – Leia os probleminhas com muita atenção, resolva-os e tire a prova real.

a. Em um trem viajam 365 passageiros sentados e 135 em pé. Quantos passageiros há no trem?

Sentença:

Resposta:

Cálculo	Prova Real

b. Uma fábrica tem 1.987 funcionários, que trabalham durante o dia, e 3.417 funcionários que trabalham à noite. Quantos funcionários tem essa fábrica?

Sentença:

Resposta:

Cálculo	Prova Real

(EF03MA05JA) QUESTÃO 11 – Numere a 2ª coluna de acordo com a 1ª, para isso, resolva as adições.

(1) 546+854	( )1.504
(2) 6.854+123	( ) 1400
(3) 958+546	( ) 111.110
(4) 87.965+23.145	( )6.977

(EF03MA23JA) QUESTÃO 12 – De acordo com o relógio digital marque as horas no relógio de ponteiro.



(EF03MA24JA) QUESTÃO 13 – Observe as quantias e marque o certo.



(EF03MA24JA) QUESTÃO 14 – Observe a quantia que Sofia e Pedro têm, e resolva as questões a seguir:



A) QUANTO SOFIA TEM?

B) QUANTO PEDRO TEM?

C) QUEM TEM MAIS?

D) QUANTO SOFIA TEM A MAIS?

(EF03MA19JA) QUESTÃO 15 – Complete:

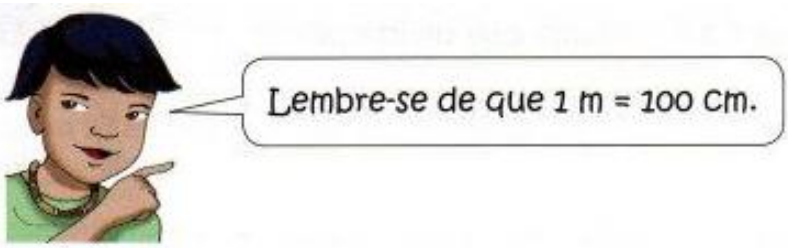

a) 2 m = ____ cm	b) 10 m = ____ cm	c) 100 cm = ____ m	d) ____ cm = 13 m
3 m = ____ cm	12 m = ____ cm	200 cm = ____ m	____ cm = 20 m
10 m = ____ cm	14 m = ____ cm	400 cm = ____ m	600 m = ____ cm
20 m = ____ cm	16 m = ____ cm	600 cm = ____ m	3 000 m = ____ cm

(EF03MA19JA) QUESTÃO 16 – Complete:

a) 12 m 30 cm = _____ cm	b) 4 m 3 cm = _____ cm	c) 330 cm = ____ m____ cm
3 m 4 cm = _____ cm	4 m 30 cm = _____ cm	402 cm = ____ m____ cm
2 m 14 cm = _____ cm	6 m 5 cm = _____ cm	212 cm = ____ m____ cm
5 m 30 cm = _____ cm	6 m 50 cm = _____ cm	608 cm = ____ m____ cm

(EF03MA18JA) QUESTÃO 17 – Resolva esses problemas calculando mentalmente.

a) Pedro tem 1m e 30cm de altura, e Renato tem 1m 25cm. Qual é a diferença entre as duas alturas?

b) Ana comprou 4m de fita. Quantos centímetros de fita ela comprou?

c) Uma loja tinha 40m de tecido e vendeu 15m. Quantos metros sobraram?

d) Na minha rua, há 2 prédios. Um mede 10 metros de altura, o outro mede 16 metros. Qual é a diferença entre as alturas dos dois prédios?



QUESTÃO 18 – Ontem Marcela fez aniversário. Ela nasceu em 1989. Quantos anos ela tem agora?

Cálculo **Resposta**

(EF04MA20JA) QUESTÃO 19 – A capacidade de um teatro é de 493 espectadores. Já foram vendidos 145 ingressos para a sessão de hoje. Quantas pessoas ainda podem comprar ingresso?

Cálculo **Resposta**

(EF03MA24JA) QUESTÃO 20 – Veja o preço de alguns brinquedos à venda em uma loja e responda às perguntas a seguir:

Mercadorias	Preço
boneca que fala	R$ 216,00
boneca que anda	R$ 190,00
boneca que faz pipi	R$ 187,00
bicicleta de 18 marchas	R$ 353,00
autorama	R$ 99,00
videogame	R$ 209,00





a) O senhor Sílvio comprou as 3 bonecas. Quanto ele gastou? _____

b) Dona Ângela tem 500 reais e quer comprar 2 brinquedos. Se ela comprar a bicicleta, pode comprar outro brinquedo? Qual? _____

c) Gustavo tem 150 reais. Quanto falta para ele poder comprar o videogame?

_____

d) Calcule a diferença entre o preço da boneca mais cara e o preço da boneca mais barata. _____

e) Quantos reais o videogame custa a mais que o autorama? _____

CIÊNCIAS

OS ANIMAIS

OS ANIMAIS SÃO SERES VIVOS QUE NASCEM, RESPIRAM, ALIMENTAM-SE, CRESCEM SE REPRODUZEM E MORREM.

O LOCAL ONDE OS ANIMAIS VIVEM CHAMA-SE HABITAT. OS ANIMAIS PODEM VIVER EM AMBIENTES AQUÁTICOS QUE VIVEM NA ÁGUA, OU TERRESTRES QUE VIVEM NA TERRA.

NÓS PODEMOS AGRUPAR OS SERES VIVOS PELAS SEMELHANÇAS CORPORAIS QUE ELES POSSUEM E PELA MANEIRA COMO ELES NASCEM E CRESCEM. NÓS PODEMOS FAZER VÁRIOS AGRUPAMENTOS DE ACORDO COM ESSAS CARACTERÍSTICAS ALGUMAS DELAS SÃO:

EM ANIMAIS VERTEBRADOS (QUE CONTEM COLUNA VERTEBRAL) E INVERTEBRADOS (QUE NÃO POSSUEM COLUNA VERTEBRAL);

EM ANIMAIS MAMÍFEROS (QUE TEM PELOS, MAMAM E NASCEM DA BARRIGA DA MÃE), AVES (TEM PENAS, BICO E NASCEM DE OVOS), RÉPTEIS (TEM PELE SECA, ESCAMAS E NASCEM DE OVOS), ANFÍBIOS (TEM PELE ÚMIDA E NASCE NA ÁGUA E QUANDO ADULTO VIVE NA TERRA. EX: SAPO) E OS PEIXES (TEM ESCAMAS, VIVEM NA ÁGUA E NASCEM DE OVOS);

EM ANIMAIS VÍVIPAROS (QUE MAMAM QUANDO FILHOTES E NASCEM DA BARRIGA DA MÃE) E OVÍPAROS (QUE NASCEM DE OVOS)

EM ANIMAIS HERBÍVOROS (SÓ COMEM PLANTAS), CARNÍVOROS (QUE COMEM CARNE), ONÍVOROS (QUE COMEM TANTO CARNE, QUANTO VEGETAIS) E DENTRITÍVOROS (QUE COMEM RESTOS DE ANIMAIS MORTOS)

(EF03CI06JA) QUESTÃO 1 – Leia e responda: Os animais, para viver, precisam de:

a. ( ) ar, água, alimentos, luz e calor do sol.

b. ( ) somente de água e calor do sol.

c. ( ) somente de água e ar

QUESTÃO 2 – De acordo com o local onde os animais vivem, eles são classificados em:

a. ( ) vivíparos, ovíparos e vertebrados.

b. ( ) terrestre, vertebrados e invertebrados.

c. ( ) terrestre, aquático e aéreo.

QUESTÃO 3 – De acordo com a alimentação dos animais, eles são classificados em?

QUESTÃO 4 – Observe esse animal, escreva seu nome e classifique-o de acordo com as classificações do texto:



(EF03CI06JA) QUESTÃO 5 – Leia com atenção e marque V para afirmativas verdadeiras ou F para falso.

> Os **animais vertebrados** são aqueles que possuem ossos, formando a coluna vertebral e o esqueleto.
> Os **animais invertebrados** não possuem ossos. Algumas espécies possuem o corpo mole, outras apresentam uma estrutura rígida externa que ajuda a sustentar o corpo.

( )Animais invertebrados são aqueles que têm a coluna vertebral.

( )Os invertebrados podem ser divididos em terrestres e aquáticos.

( )Os vertebrados podem ser classificados em: mamíferos, aves, peixes, anfíbios e répteis.

( )Os animais que possuem a coluna vertebral são chamados de invertebrados.

(EF03CI06JA) QUESTÃO 6 – Observe as imagens abaixo e classifique-os em vertebrado ou invertebrado.


_____


_____


_____


_____


_____


_____

(EF03CI06JA) QUESTÃO 7 – Pense e responda:

a. Animais vertebrados que mamam quando são bebês. _____

b. O que dá sustentação ao corpo dos animais vertebrados. _____

c. Grupo dos vertebrados que vivem em ambiente aquáticos. _____

d. Grupo de animais que não possuem coluna vertebral. _____

(EF03CI06JA) QUESTÃO 8 – Preencha cruzadinha com os animais vertebrados.

1. SIRVO DE TRASPORTE PARA O HOMEM
2. SOU O REI DOS ANIMAIS
3. MEU CORPO É TODO LISTRADO
4. SOU A MAIOR AVE QUE EXISTE
5. TENHO UMA TROMBA E SOU UM DOS MAIORES ANIMAIS TERRESTRES
6. SOU UM ANIMAL AQUÁTICO MUITO FEROZ
7. TENHO O PESCOÇO MUITO COMPRIDO
8. SOU UMA AVE E APRENDO A FALAR
9. AS FORMIGAS SÃO O MEU ALIMENTO PREFERIDO
10. SOU O MELHOR AMIGO DO HOMEM
11. TENHO O PESCOÇO COMPRIDO E SOU UMA AVE QUE NADA

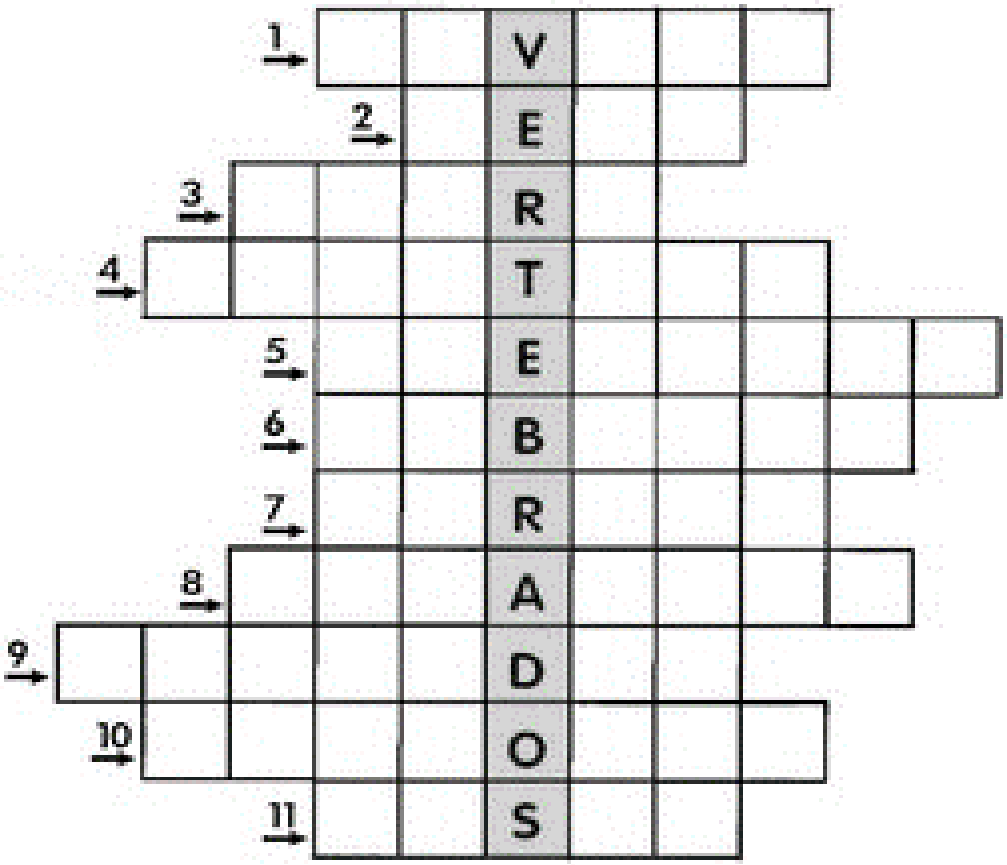

(EF03CI06JA) QUESTÃO 9 – Encaixe na cruzadinha os nomes dos animais invertebrados de acordo com a numeração.

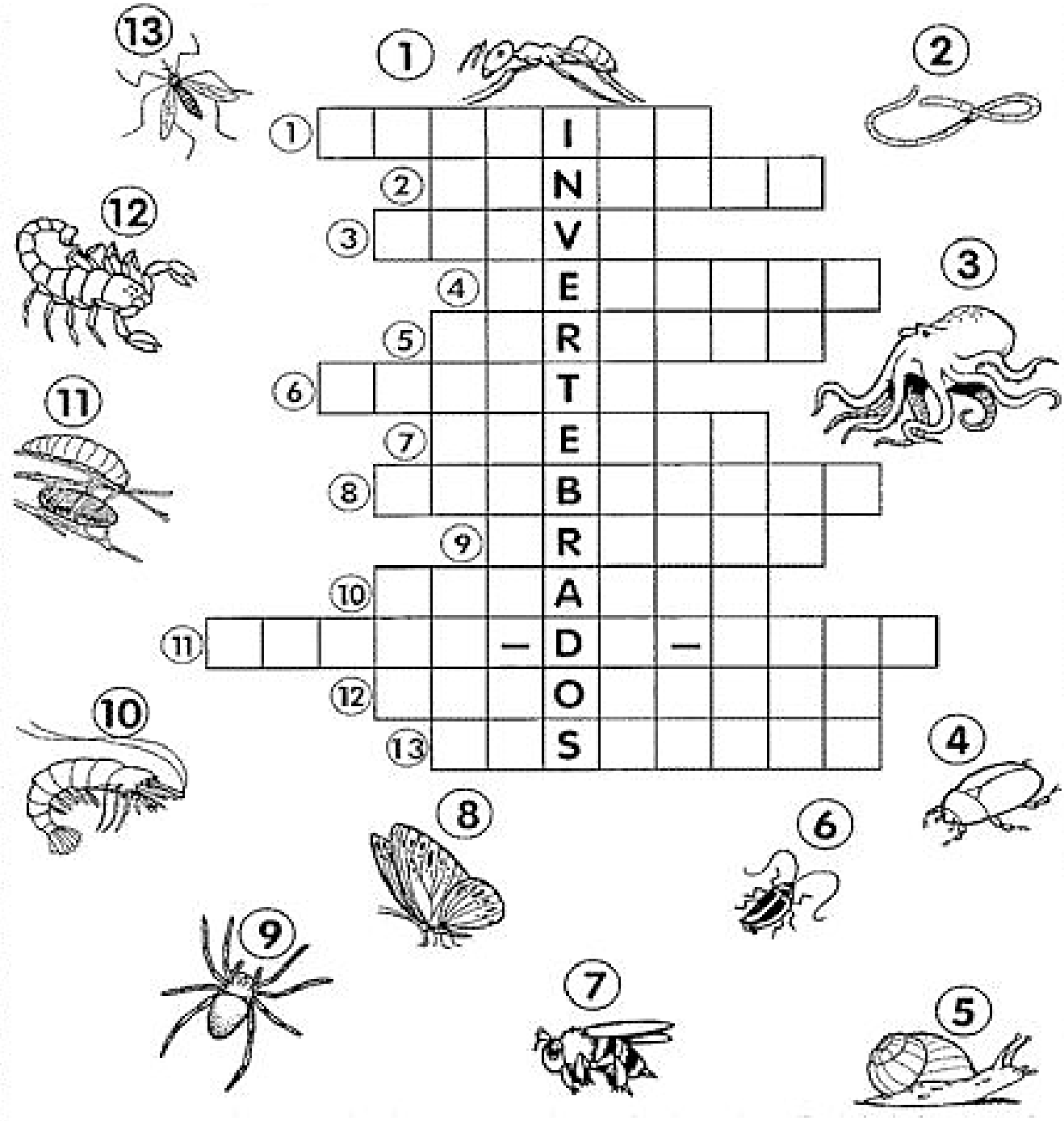



(EF03CI07JA) QUESTÃO 10 – Coloque V para as afirmações verdadeiras e F para as falsas.

( ) É possível viver sem água na Terra.

( ) A água que bebemos deve ser sem cor, sem cheiro e sem sabor.

( ) Geralmente nas cidades a água passa por estações de tratamento, onde recebe substâncias para matar os micróbios.

( ) A água que vai para a geladeira não precisa ser filtrada

( ) As caixas d'água devem ser bem tampadas.

( ) Podemos utilizar a água poluída para beber, cozinhar e para nossa higiene.

( ) A água boa para o consumo é a água potável.

(EF03CI07JA) QUESTÃO 11 – O nosso planeta contém mais água ou mais terra?

_____

(EF03CI07JA) QUESTÃO 12 – Escreva o nome de 3 lugares onde podemos encontrar água na natureza:

_____

_____

(EF03CI08JA) QUESTÃO 12 – Observe o dia e responda:

A) Data da observação: _____

B) Hora: _____

C) Pinte o quadrinho relacionado: como estava o tempo?

☐ ensolarado ☐ nublado ☐ chuvoso

(EF03CI08JA) QUESTÃO 13 – Observe a noite e responda:

A) Data da observação: _____

B) Hora: _____

C) Você conseguiu ver a Lua?

☐ Sim ☐ Não



D) Havia muitas estrelas no céu?

☐ Sim ☐ Não

E) Você gostou mais de observar o dia ou a noite? Por quê?

_____

_____

HISTÓRIA

(EF03HI12JA) QUESTÃO 1 – Identifique os lugares abaixo e escreva para que eles servem:

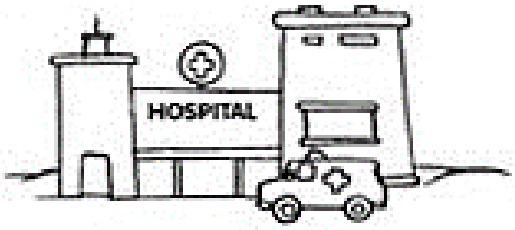













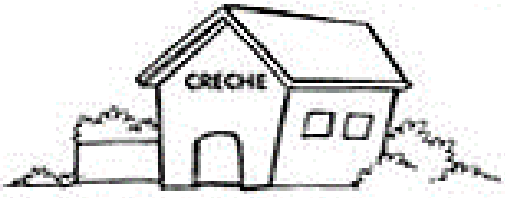

A cana-de-açúcar

Martim Afonso de Sousa deu início à agricultura da cana-de-açúcar no Brasil, em 1.530. Construiu o primeiro engenho e introduziu a cana em São Vicente, mas foi no Nordeste, principalmente em Pernambuco, que o cultivo se desenvolveu favoravelmente, devido ao clima úmido e ao solo, próprio para o plantio, chamado massapê.

Os senhores de engenho, proprietários de fazendas de cana-de-açúcar e de produção de açúcar tornaram-se ricos e poderosos.

A cultura da cana trouxe coisas boas e ruins para o Brasil, dentre elas: O trabalho dos escravos negros, o aparecimento de vilas no litoral do Nordeste e Recôncavo Baiano (região da Bahia), a cobiça de estrangeiros, principalmente holandeses, que invadiram o Brasil, o desenvolvimento da criação de gado.

O açúcar nessa época, era tomado com o vinho, servia de remédio e era importante produto do comércio mundial. A Holanda era responsável pelo transporte, refino e distribuição no mercado de toda Europa.

(EF04HI06JA) QUESTÃO 2 – Que produto foi introduzido no período colonial transformou-se em uma das principais culturas da economia brasileira?

A. ( ) cana de açúcar

B. ( ) batata

C. ( ) melancia

D. ( ) arroz

(EF04HI06JA) QUESTÃO 3 – Para ocupar o território, os portugueses passaram a cultivar cana-de-açúcar, utilizando primeiramente os índios como escravos. Mas, não demorou muito para começarem a trazer mão de obra da África para trabalhar nos canaviais. Sobre a vinda dos africanos para o Brasil no século XVI é correto afirmar que:

A. ( ) Vieram em busca de novas oportunidades de trabalho
B. ( ) Foram trazidos pelos portugueses na condição de escravo.
C. ( ) Vieram em busca de riquezas para serem exploradas.
D. ( ) foram obrigados a vir porque em sua terra passavam fome.

(EF04HI06JA) QUESTÃO 4 – Responda:

A. Quem trouxe e deu início ao cultivo de cana-de-açúcar no Brasil?

_____

_____

B. Como eram chamados os grandes proprietários das fazendas de cana-de-açúcar?

_____

Um pouco mais de leitura

QUESTÃO 5 – Leia o texto abaixo e responda o que se pede.

A função de sustentar a família é própria dos adultos e não das crianças.

A infância é uma fase para brincar, divertir-se, estudar e aprender.

O trabalho nessa fase da vida é prejudicial ao desenvolvimento e a saúde. Por isso as leis proíbem o **trabalho infantil** e toda forma de exploração de crianças e adolescentes.

No Brasil, todo e qualquer trabalho exercido por crianças e adolescentes menores de 16 anos, exceto na condição de aprendiz, é proibido por lei.

a. Conforme o texto, de quem é a responsabilidade pelo sustento da família?

_____

_____

b. De acordo com o texto, quais são as principais atividades que as crianças devem realizar durante a infância?

_____

_____

c. Do texto, concluímos que o trabalho infantil e:

( ) nocivo à saúde da criança e proibido por lei.
( ) benéfico às crianças e permitido por lei.

d. No Brasil, o trabalho infantil é:

( ) permitido por lei.
( ) proibido por lei.

QUESTÃO 6 – Pinte as cenas em que os direitos das crianças são cumpridos.







(EF03HI12JA) QUESTÃO 7 – Complete com as vogais adequadas.

Todo Estado está dividido em partes menores chamadas de

M		N		C		P			S

(EF03HI12JA) QUESTÃO 8 – Os municípios são governados pelo:

- ☐ governador
- ☐ prefeito
- ☐ presidente
- ☐ rei



(EF03HI12JA) QUESTÃO 9 – A câmara municipal é formada por:

- ☐ deputados
- ☐ vereadores
- ☐ senadores
- ☐ ministros

QUESTÃO 10 – Quem escolhe o prefeito e os vereadores de um município? De que forma?

_____

_____

(EF03HI12JA) QUESTÃO 11 – O que fazem os vereadores?

- ☐ Fazem as leis municipais e fiscalizam o governador do Estado.
- ☐ Governam e administram a cidade.
- ☐ Fazem as leis municipais e fiscalizam o prefeito.

(EF03HI12JA) QUESTÃO 12 – Como são chamados os assistentes nomeados pelo prefeito?

- ☐ ministros
- ☐ auxiliares
- ☐ secretários
- ☐ diretores

(EF03HI12JA) QUESTÃO 13 – Complete:



Você mora:

num país chamado...

num estado chamado...

num município chamado...

Além do município onde você mora, quantos municípios existem no Brasil?

Quem administra um município e quem faz as leis?

Quais são as outras cidades que você conhece?

Você mora na capital do seu estado?

Você mora:

na área rural ☐

na área urbana ☐

em um bairro ☐

no centro ☐



GEOGRAFIA

(EF03GE09JA) QUESTÃO 1 – Que recurso natural está sendo usado? Marque um X.

A) Pelo menino:

( ) água

( ) terra



B) Por este menino que está no campo:

( ) comida

( ) ar.



C) Na fabricação destes objetos:

( ) plantas

( ) minerais.



(EF03GE05JA) QUESTÃO 2 – Responda:

A) Recebemos calor:

( ) da água.

( ) do sol.

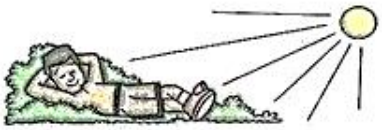

B) Onde construímos casas?

( ) na água.

( ) no solo.



C) Colhemos alimentos:

( ) das plantas.

( ) do ar.



A rosa-dos-ventos

Os pontos cardeais colaterais:



A rosa-dos-ventos representa os pontos cardeais (Norte, Sul, Leste, Oeste) em um mapa.

O sol é usado como referência para a orientação, porque diariamente ele aparece a Leste e desaparece a Oeste.

Se você apontar o seu braço direito para o local onde o sol aparece, terá o Leste. O braço esquerdo será Oeste. À frente estará o Norte e às costas, o Sul.

(EF03GE06JA) QUESTÃO 3 – Localizem na rosa-dos-ventos os pontos cardeais e os colaterais.

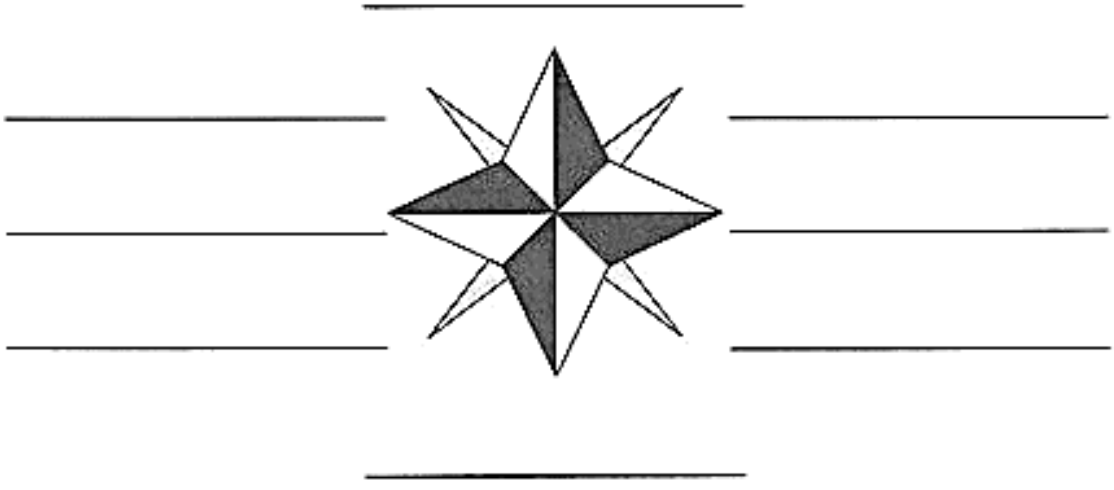

(EF03GE05JA) QUESTÃO 4 – Descubra no diagrama palavras que se referem à Zona Rural e suas atividades:

F	P	D	E	C	H	Á	C	A	R	A	S	O	P
A	A	G	P	E	Q	B	S	X	V	F	Í	A	V
Z	L	R	J	T	A	P	O	R	A	Ç	T	O	I
E	R	T	H	E	N	I	C	O	P	A	I	O	L
N	L	O	T	I	E	F	H	N	P	S	O	A	A
D	K	Y	E	P	O	V	O	A	D	O	S	C	S
A	G	J	O	A	F	N	E	G	T	I	A	O	V
S	P	R	G	R	A	N	J	A	S	E	T	L	I

A) As aves são criadas nas _____

B) Pequena propriedade para plantar mandioca, abóbora e criar galinhas

_____

C) Grande propriedade onde se faz criação de animais

_____

D) Local onde uma família passa o

_____



O meio ambiente é tudo o que nos cerca. O meio ambiente é natural, como as plantas, a terra, o ar, a água, mas também é transformado pelo homem, com a construção de residências e estradas.

(EF03GE04JA) QUESTÃO 5 – De acordo com o texto, o que podemos encontrar no ambiente natural?



(A) plantas, terra, ar e água.

(B) prédios, residências e fábricas.

(C) sítios, fazendas, lojas.

(D) comércios, ruas, avenidas.

Para conhecermos melhor o ambiente, devemos observar tudo ao nosso redor. A paisagem natural ou modificada pelo homem é muito importante. A paisagem natural é aquilo que vem da natureza, sem interferência da mão humana, como a vegetação, os rios, as praias, as florestas. A paisagem modificada é aquela que sofreu transformações em resultado da intervenção humana.

(EF03GE04JA) QUESTÃO 6 – De acordo com o texto paisagem natural é?



(A) O movimento de pessoas e veículos.

(B) É tudo o que podemos ver em um só lugar.

(C) É tudo que vem da natureza, sem interferência da mão humana.

(EF03GE04JA) QUESTÃO 7 – Existem paisagens que são formadas principalmente por elementos da natureza. Podemos afirmar que os elementos naturais abaixo são:

(A) as cidades e os bairros.

(B) os rios, os lagos, as montanhas e florestas.

(C) os comércios e máquinas

(D) as fazendas e prédios.

O homem modifica muito as paisagens, derrubando árvores, canalizando rios, modificando a forma dos terrenos para construir prédios, ruas avenidas, pontes, viadutos, etc. Por isso são chamadas de paisagens modificadas ou paisagens humanizadas.

(EF03GE04JA) QUESTÃO 8 – A paisagem pode ser constituída por uma grande variedade de elementos. Observe a imagem abaixo e responda:



A) Quais elementos naturais você observa nessa pintura?

_____

B) Quais são os elementos que foram construídos pelo homem?

_____

_____

C) Essa paisagem é:

( ) Natural

( ) Modificada

(EF03GE04JA) QUESTÃO 9 – Leia as afirmativas e marque apenas as verdadeiras.

A) O homem é o maior agente transformador da natureza.

B) Os elementos naturais são aqueles que o homem constrói.

C) Os elementos humanizados aumentam conforme a interferência do homem.

D) Quanto mais desenvolvida a comunidade, maiores serão as modificações introduzidas pelo homem à paisagem natural.

(EF03GE04JA) QUESTÃO 10 – As paisagens são dinâmicas. Elas sempre se modificam, não são permanentes ou fixas. Observe e compare as imagens a seguir e depois responda as questões.

1



2



3



A) O que mais chama sua atenção ao observar a sequência das imagens?

B) Observe atentamente as imagens e escreva três exemplos de alterações que a paisagem sofre.

ARTES

(EF15AR02JA) QUESTÃO 1 – Observe alguns tipos de Linhas

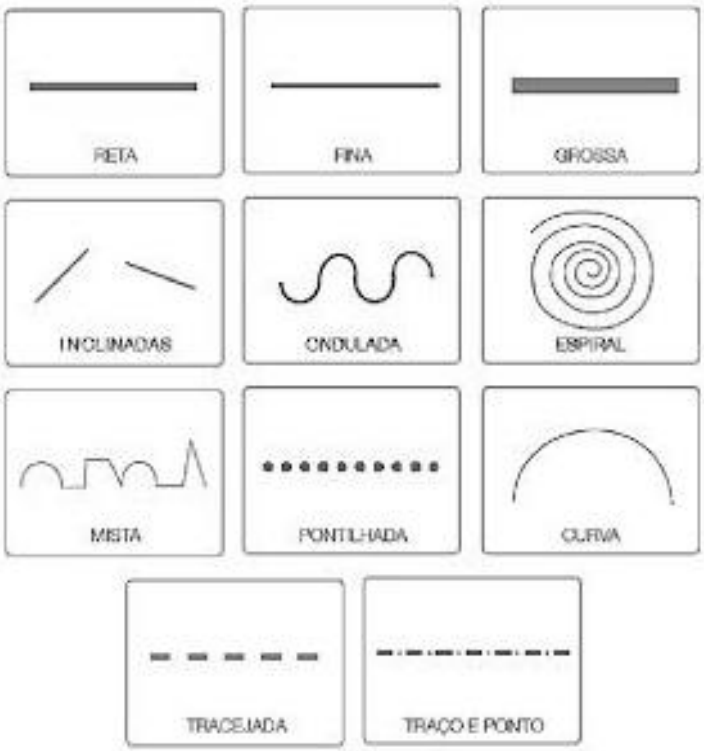

Agora é sua vez decore as roupas utilizando os tipos de linha que você aprendeu:



(EF15AR15JA) QUESTÃO 2 – Encontre no caça-palavras, os nomes dos instrumentos musicais de origem africana.

BERIMBAU
ATABAQUE
CUÍCA
AFOXÉ
AGOGÔ



A	W	C	I	C	A	D	E	M	T
F	K	A	T	A	B	A	Q	U	E
O	L	A	G	O	G	Ô	M	Z	U
X	O	L	A	G	O	P	I	L	Q
É	G	K	C	U	Í	C	A	J	F
S	K	Q	A	X	B	E	O	M	A
N	B	E	R	I	M	B	A	U	Z

(EF15AR15JA) QUESTÃO 3 – Agora, observe os instrumentos e identifique-os.

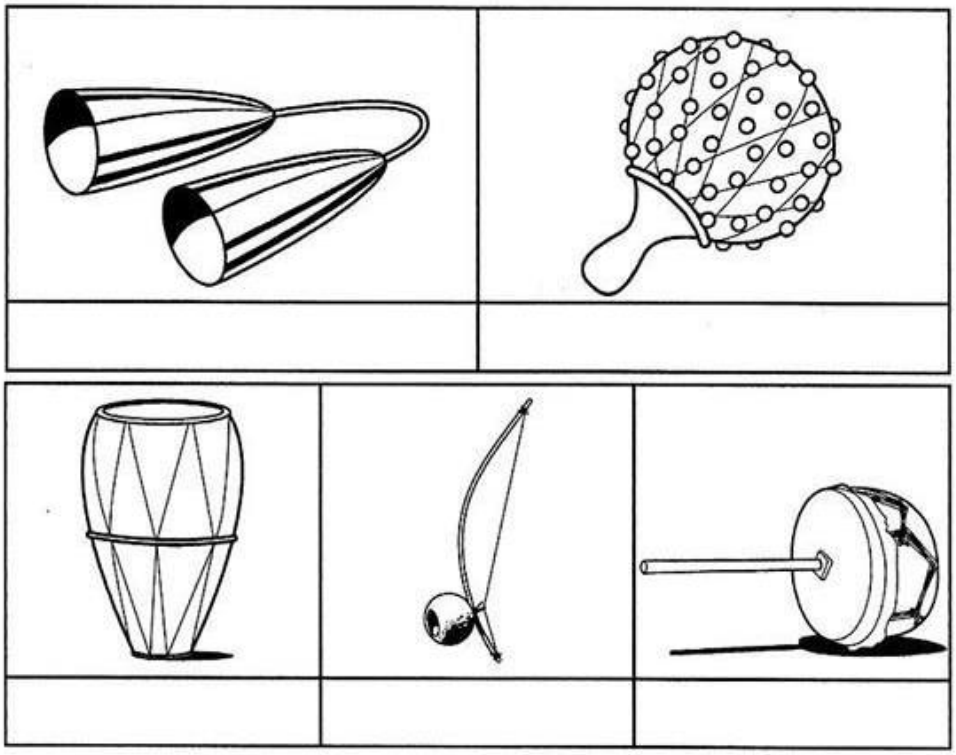

(EF15AR13JA) QUESTÃO 4:

HERANÇA AFRICANA

DIVERSAS DANÇAS



(EF15AR15JA) QUESTÃO 5 – Indique qual instrumento não faz parte da cultura afro-brasileira.

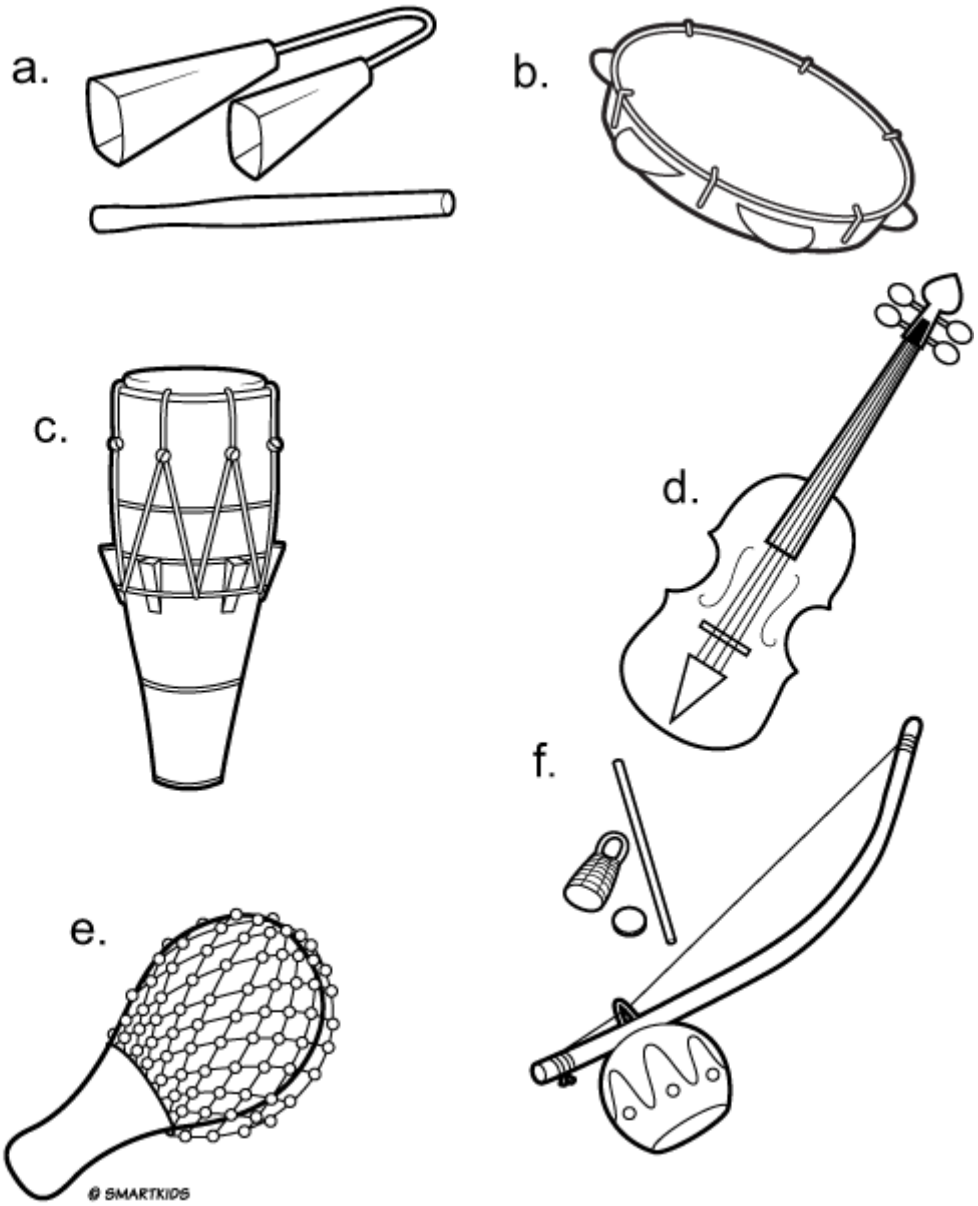

EDUCAÇÃO FÍSICA

(EF35EF05JA) QUESTÃO 1 – Faça a leitura abaixo e responda:

O BEISEBOL É UM ESPORTE MUITO POPULAR NOS ESTADOS UNIDOS. CRIANÇAS E ADULTOS PRATICAM O ESPORTE. NO BRASIL ELE É POUCO PRATICADO E CONHECIDO. O JOGO FOI CRIADO NOS ESTADOS UNIDOS EM 1839.



A) Coloque V para verdadeiro e F para falso, com base no texto.

( ) O texto se refere a prática esportiva beisebol.
( ) O beisebol é muito popular nos Estados Unidos.
( ) O jogo foi criado no Japão.
( ) O jogo foi criado nos Estados Unidos.
( ) O beisebol é muito praticado no Brasil.
( ) O esporte consiste em marcar pontos.

B) Complete:

Na dinâmica do jogo temos o _____ que arremessa a bola, passando pelo _____ e o _____.

(EF35EF05JA) QUESTÃO 2 – O que é necessário para a bola de futebol parada começar a se mover?

( ) Bater na bola com as mãos

( ) Bater a bola na parede

( ) Chutar a bola com os pés



(EF35EF05JA) QUESTÃO 3 – Enumere na ordem os movimentos que os jogadores fazem com a bola no campo até fazer o gol.











(EF35EF05JA) QUESTÃO 4 – Ache no diagrama abaixo o nome de cinco esportes.



F	P	E	E	T	I	P	U	C	V	R
U	E	S	H	A	N	D	E	B	O	L
T	A	G	O	C	A	J	U	S	L	F
E	U	R	C	T	I	A	S	T	E	A
B	N	I	A	R	C	O	A	O	I	S
O	A	M	B	O	R	D	U	N	A	O
L	B	A	D	M	I	N	T	O	N	X

