

CADERNO *de revisão*

2º ANO

ANOS INICIAIS

PREFEITURA DE JOÃO ALFREDO
UM NOVO TEMPO

PREFEITURA DE JOÃO ALFREDO
SECRETARIA MUNICIPAL DE EDUCAÇÃO, CULTURA E ESPORTES

“Educar é semear com sabedoria e colher com paciência”

Augusto Cury

2º Ano

- **PREFEITO DO MUNICÍPIO**
  José Antonio Martins da Silva
- **VICE-PREFEITO DO MUNICÍPIO**
  Adeildo Batista de Oliveira Filho
- **SECRETÁRIO DE EDUCAÇÃO DO MUNICÍPIO**
  Idney Kleiton Brito Dutra
- **DIRETOR DE ENSINO DO MUNICÍPIO**
  William Emanuell Batista de Oliveira
- **COORD. GERAL DO ENSINO FUNDAMENTAL - ANOS INICIAIS DO MUNICÍPIO**
  Elisangela Lima da Silva Fontes
- **PROFESSORES COLABORADORES - REDE DE ENSINO DO MUNICÍPIO**
  Luciene Maria de Melo
  Ana Valéria de Oliveira
  Alexandra Cecília Ferreira
  Luciana Ferreira da Silva Barbosa
  Maristela Almeida de Albuquerque Natal
  Dyana Maria da Silva Aguiar

Sumário - 2º ano


Lingua Portuguesa 1


Matemática 2


Ciências 3


História 4


Geografia 5


Artes 4


Educação Física 5

LÍNGUA PORTUGUESA

(EF02LP02JA)



A BOLHA REDONDINHA

Isabel Soares

REDONDINHA SOLTOU-SE LEVEMENTE
FLUTUANDO LINDA BOLHA NO AR,
OLHAVA ENCANTADA A SUA VOLTA
E SONHAVA ENQUANTO PODIA VOAR!

TÃO LONGE FOI REDONDINHA E SEU SONHO
COM O VENTINHO QUE PASSAVA LIGEIRO.
SUBIU ALTO DANÇANDO NO ORVALHO
DESMANCHOU-SE NA FOLHA DO COQUEIRO!

QUESTÃO 1 – Complete com nha, nhe, nhi, nho, nhu

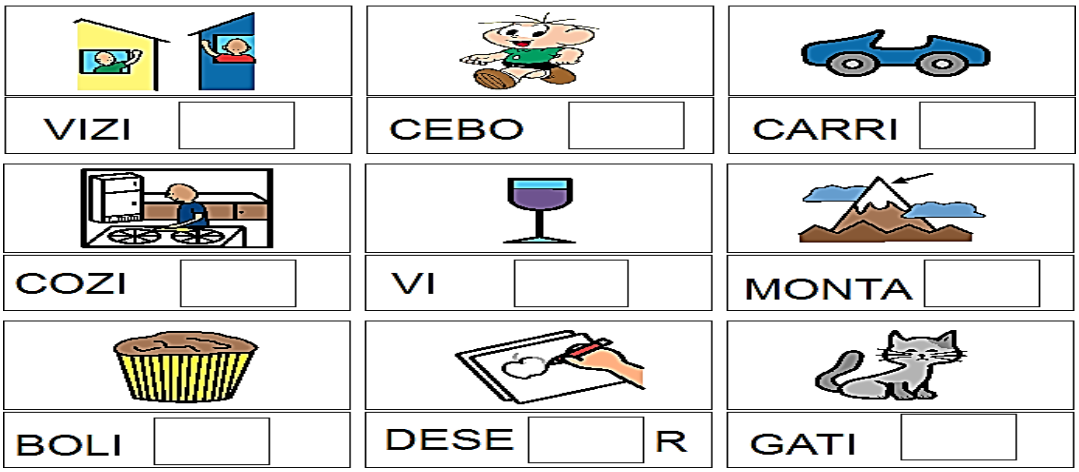

QUESTÃO 2 – Forme frases:



QUESTÃO 3 – Pinte o nome da figura:



(EF01LP07JA)

QUESTÃO 4 – Siga o pontilhado e forme a letra X:

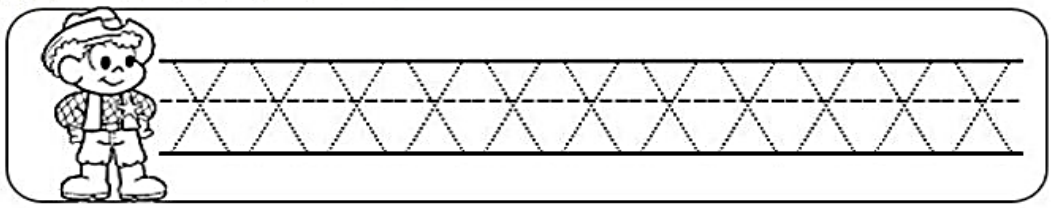

QUESTÃO 5 – Juntando as letrinhas formamos as sílabas:

+	A	E	I	O	U
X					

QUESTÃO 6 – Complete as palavras com as sílabas que faltam:

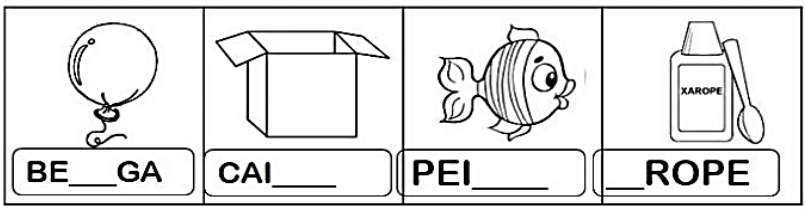

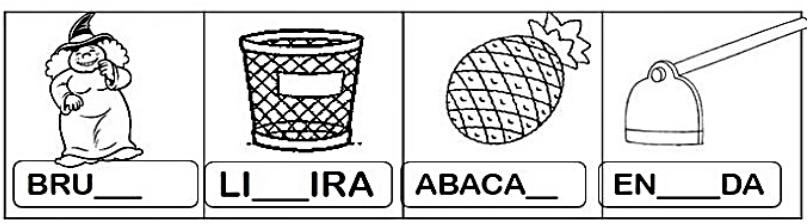

QUESTÃO 7 – Classifique as palavras abaixo de acordo com o som do X:

MEXER	PUXAR	XALE
EXATO	EXATAMENTE	ÊXITO
FLUXO	MAXILAR	PARADOXO
MÁXIMO	AUXÍLIO	PRÓXIMO

X com som de S	X com som de CH	X com som de CS	X com som de Z

(EF12LP18JA)
QUESTÃO 8 – Leia o Poema:



- Escreva o título do poema:

_____

- Escreva o nome do autor do poema:

_____

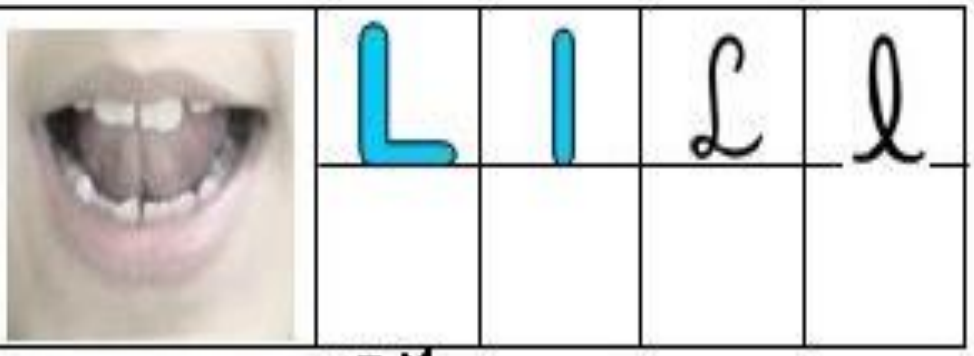

	L	l	ℒ	ℓ

__EÃO

__E__O

L__Ã__

_____

Tabela de associação

	a	e	u	o	i
ℒ					
ℓ					

QUESTÃO 9 – Pinte a palavra que representa a figura:



QUESTÃO 10 – Marque um X no nome de cada figura abaixo:

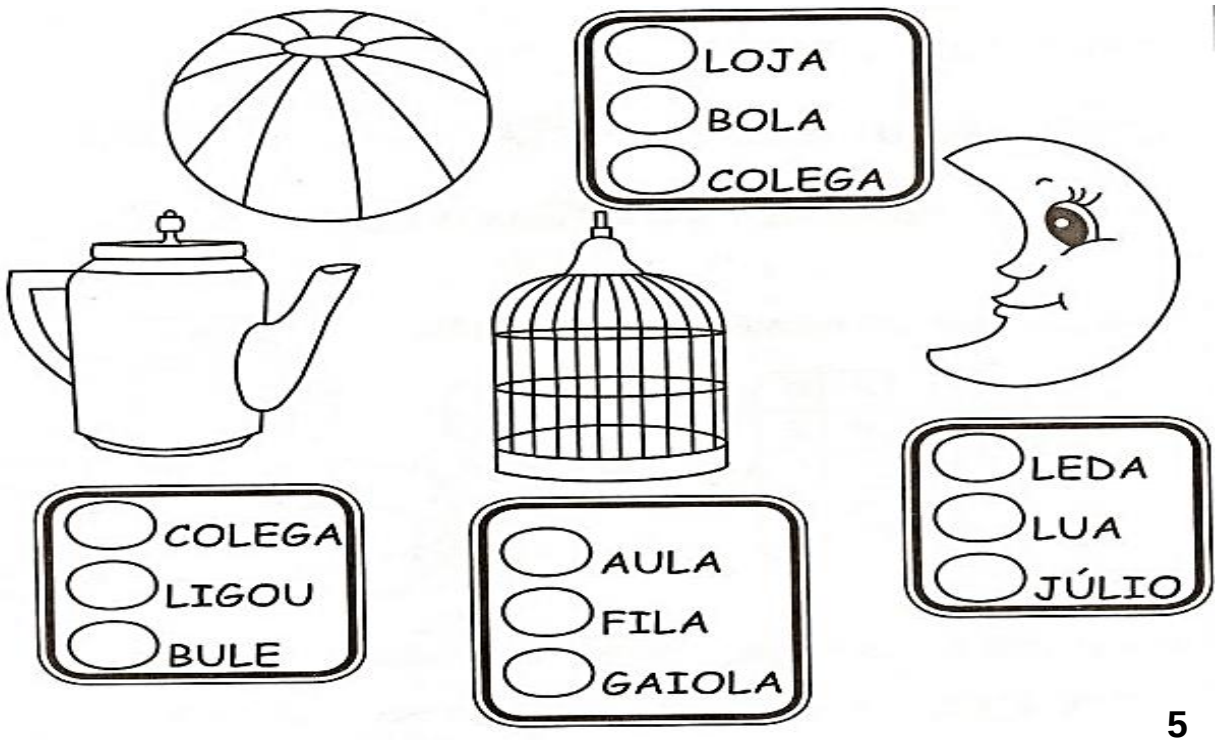

QUESTÃO 11 – Ligue as sílabas formando palavras:

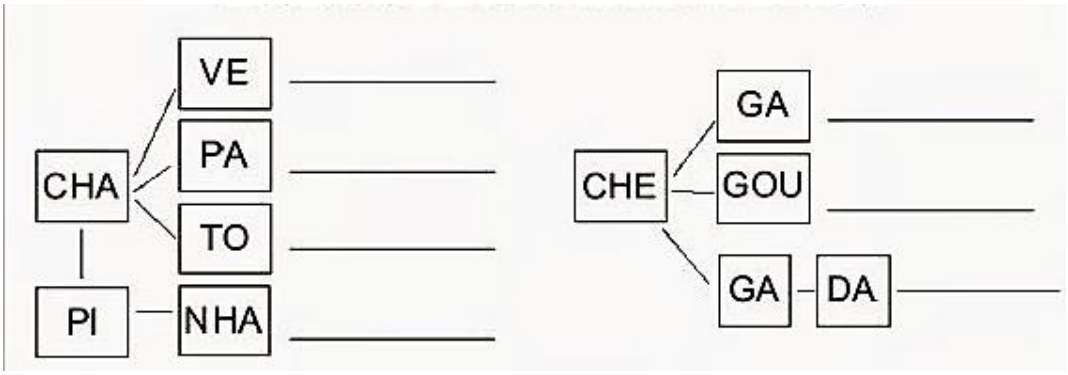

QUESTÃO 12 – Pinte as sílabas que formam os nomes dos desenhos:

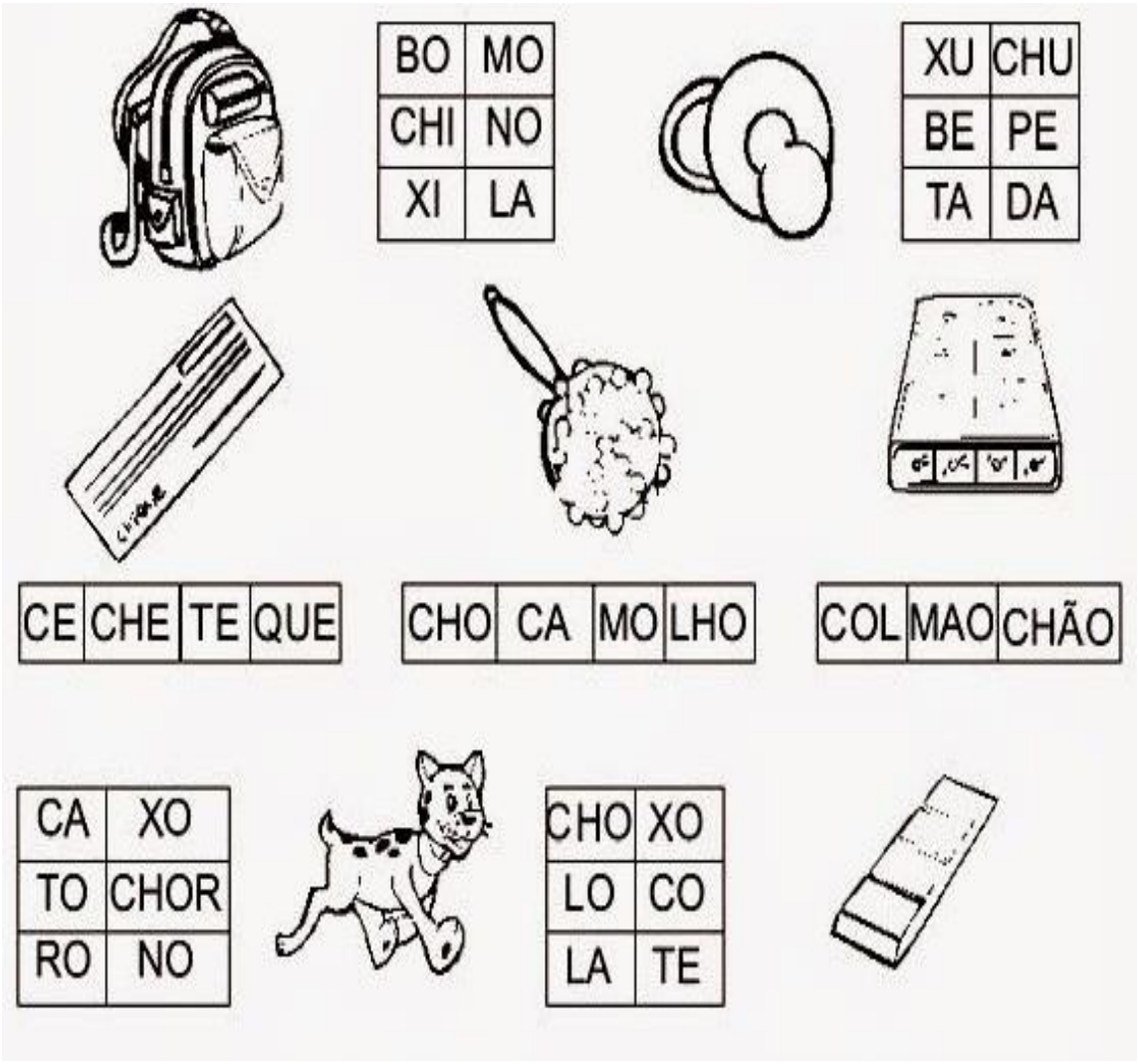

LEITURA: LENGA-LENGA

A CASA DO SEU DAMIÃO

AQUI ESTÁ A CASA DO SEU DAMIÃO.

AQUI ESTÁ O SACO DE GRÃO DE FEIJÃO
QUE ESTAVA NA CASA DO SEU DAMIÃO.

AQUI ESTÁ O RATO
QUE FUROU O SACO DE GRÃO DE FEIJÃO
QUE ESTAVA NA CASA DO SEU DAMIÃO.

AQUI ESTÁ O GATO
QUE PEGOU O RATO
QUE FUROU O SACO DE GRÃO DE FEIJÃO
QUE ESTAVA NA CASA DO SEU DAMIÃO.

AQUI ESTÁ O CÃO

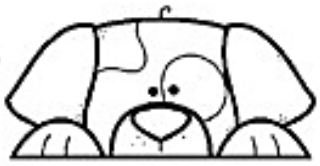

QUE MORDEU O GATO
QUE PEGOU O RATO
QUE FUROU O SACO DE GRÃO DE FEIJÃO
QUE ESTAVA NA CASA DO SEU DAMIÃO.



AQUI ESTÁ A VACA
QUE PISOU NO CÃO
QUE MORDEU O GATO
QUE PEGOU O RATO
QUE FUROU O SACO DE GRÃO DE FEIJÃO
QUE ESTAVA NA CASA DO SEU DAMIÃO.



AQUI ESTÁ O TATU
QUE ARRANHOU A VACA
QUE PISOU NO CÃO
QUE MORDEU O GATO
QUE PEGOU O RATO
QUE FUROU O SACO DE GRÃO DE FEIJÃO
QUE ESTAVA NA CASA DO SEU
DAMIÃO...



DOMÍNIO PÚBLICO.

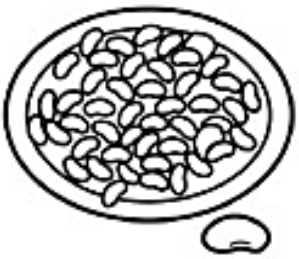

EF35LP10JA

QUESTÃO 13 – Ouçam a leitura feita pela professora do início de outras quadrinhas para a cantiga da Barata. Criem um verso que pode completar a quadrinha, combinando e rimando as palavras:

A BARATA DIZ QUE TEM
UM AVIÃO PRA VIAJAR.
É MENTIRA DA BARATA,
ELA
_____
_____
_____
_____

A BARATA DIZ QUE TEM
UM SOFÁ EM SUA SALA.
É MENTIRA DA BARATA,
ELA_____
_____
_____
_____
_____



A BARATA DIZ QUE TEM
UM MOEDOR DE CAFÉ.
É MENTIRA DA BARATA,
ELA
_____
_____
_____
_____

A BARATA DIZ QUE TEM
UM BRINCO QUE É DE PRATA. É MENTIRA DA BARATA, ELA
_____
_____
_____
_____
_____

EF12LP04JA

QUESTÃO 14 – Pesquisar para preencher a ficha do animal

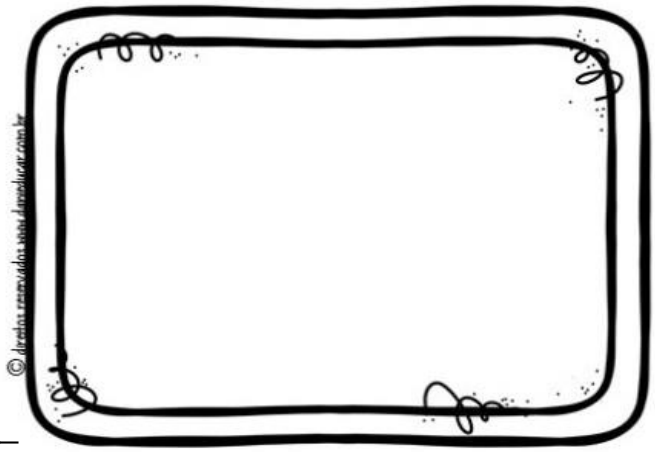

Nome do animal_____

Número de patas_____

Peso_____

Cobertura do corpo_____

Cor_____

Alimentação_____

_____

Região onde habita_____

(EF01LP06JA)

QUESTÃO 15 – Escreva o nome das figuras:



QUESTÃO 16 – Encaixe, na cruzadinha, as palavras do quadro e descubra a palavra chave:

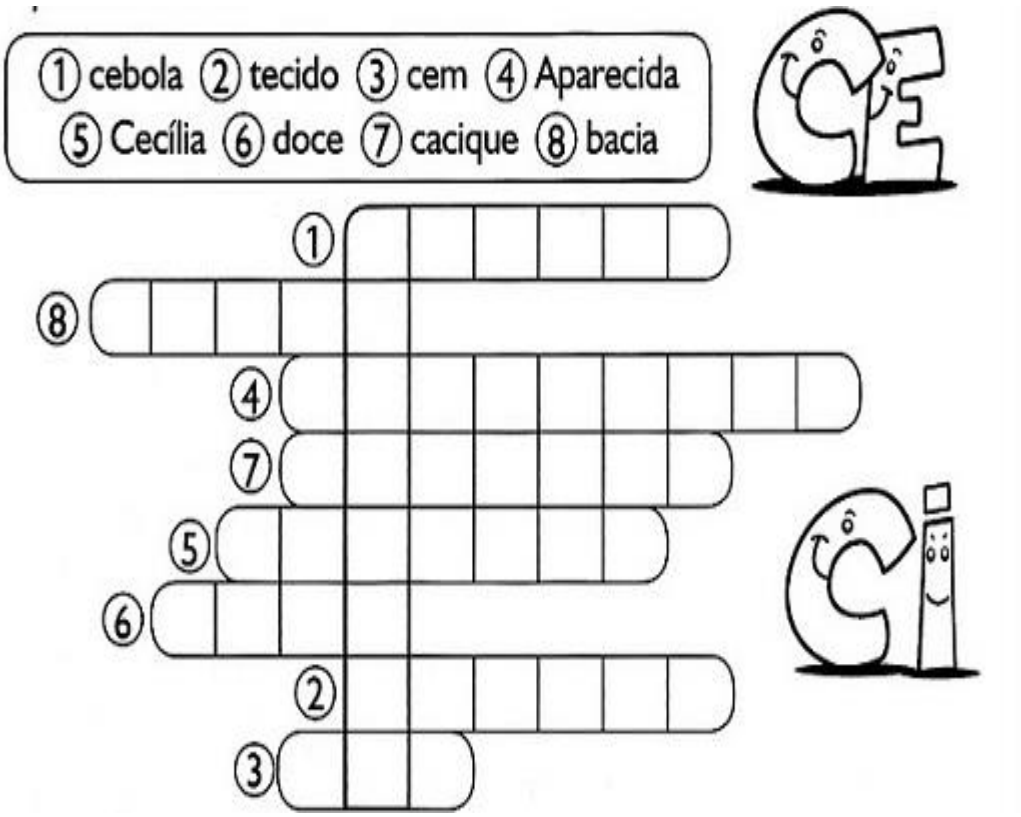

(**EF02LP02JA)**

QUESTÃO 17 – Leia e copie as palavras de acordo com a sílaba nh:

GALINHA	BANHISTA	ARIRANHA	DINHEIRO
NINHO	LENHA	MÃEZINHA	COZINHA
BANHEIRO	NENHUM	SAPINHO	MOINHO
DESENHISTA	PINHEIRO	NENHUMA	VINHO

NHA	NHE	NHI
_____	_____	_____
_____	_____	_____
_____	_____	_____
_____	_____	_____

NHO	NHU
_____	_____
_____	_____
_____	_____
_____	_____

QUESTÃO 18 – Faça como o modelo e circule a sílaba que tem nh

BOLA - BOLINHA	LATA - LATINHA
PATO _____	COPO _____
GATO _____	SAPO _____
CACHORRO _____	JANELA _____
RATO _____	BOLO _____
AMARELO _____	MÃO _____
CASA _____	CÃO _____
CESTA _____	MEIA _____
PEIXE _____	MINHOCA _____

QUESTÃO 19 – Ligue as sílabas e forme as palavras:

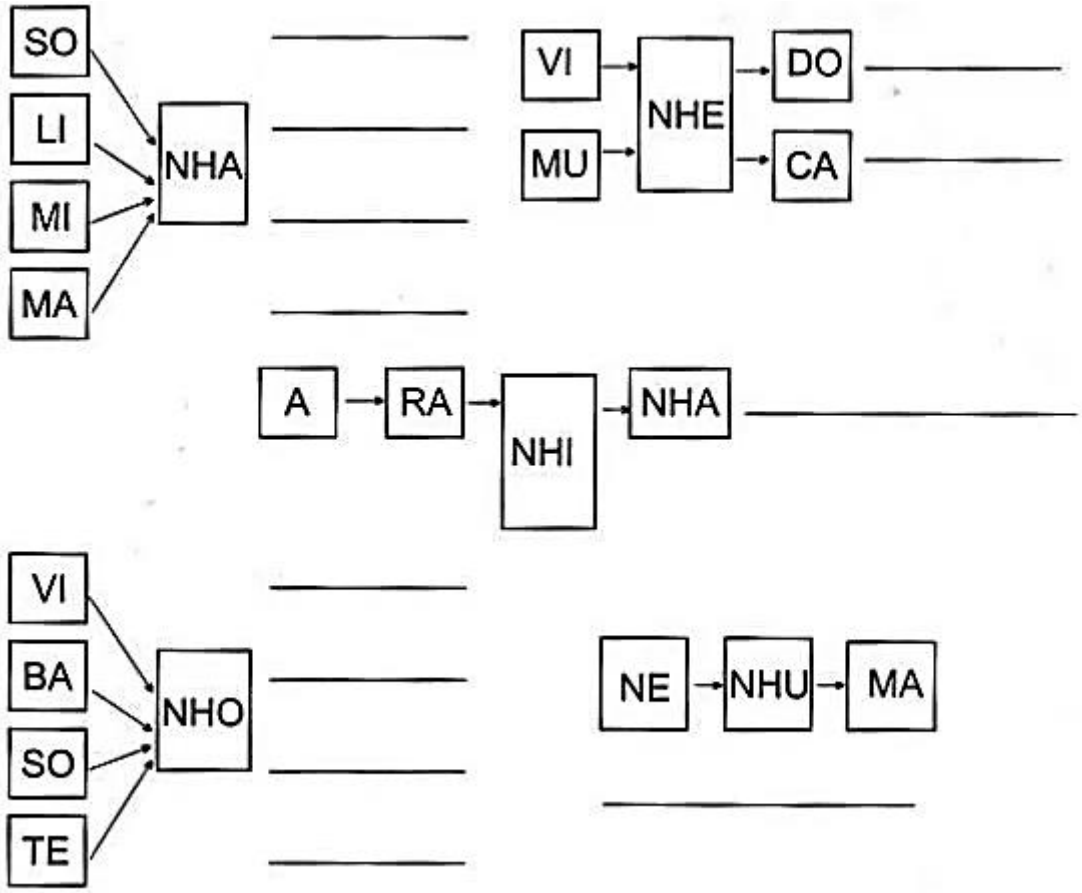

QUESTÃO 20 – Circule nas palavras abaixo, as sílabas com ch, lh e nh



QUESTÃO 21 – Classifique as palavras acima de acordo com a sílaba em destaque:

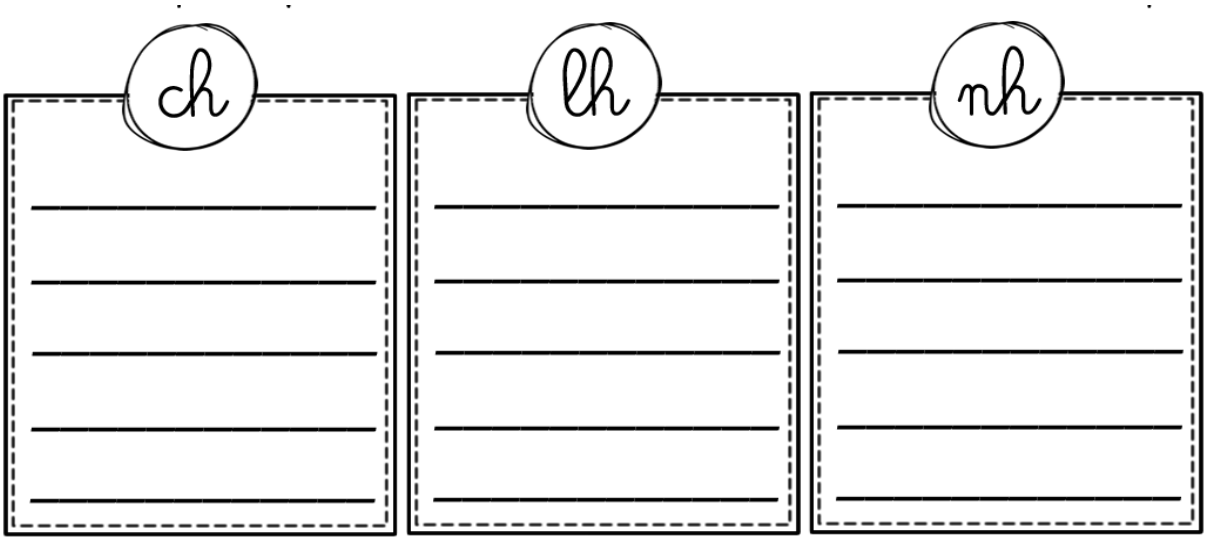

(EF01LP16JA)
Leia o texto:



QUESTÃO 22 – Responda:

a- A primeira palavra do texto é: _____

b- A última palavra do texto é: _____

QUESTÃO 23 – Circule no texto as palavras que rimam



(EF01LP16JA)

FESTA NO BREJO



A saparia desesperada
Coaxa, coaxa, coaxa.
O brejo vira que nem caixa de guerra.
Os sapos estão danados.

A lua gorda apareceu
E clareou o brejo todo.
Até à lua sobre o coro
Da saparia desesperada.

A saparia toda de Minas
Coaxa no brejo humilde.
Hoje tem festa no brejo!





Carlos Drummond de Andrade.

QUESTÃO 24 – O texto que você acabou de ler é:

( ) Um poema

( ) Texto narrativo

( ) Uma receita

QUESTÃO 25 – Quais animais estavam danados?

( ) Os patos

( ) Os sapos

( ) Os gatos

QUESTÃO 26 – Quem clareou o brejo?

( ) O sol

( ) A lua

( ) A estrela

QUESTÃO 27 – Separe aas sílabas das palavras:

a) SAPARIA: _____

b) BREJO: _____

c) FESTA: _____

d) COAXA: _____

e) DESESPERADA: _____

f) CAIXA: _____

g) GUERRA: _____

h) HUMILDE: _____

QUESTÃO 28 – Organize as sílabas e forme palavras:

 lho e co _____	 bo cha la _____	 lho ba tra _____
 li há to _____	 ra nha a _____	 re lha o _____
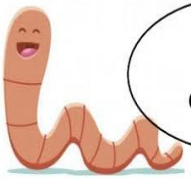 mi ca nho _____	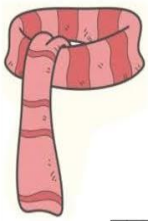 che ca col _____	 nha ri va _____
 ga nha li _____	 ce nha go _____	 ma no hu _____

Matemática

(EF01MA01JA)
Para indicar ordem, posição ou lugar, utilizamos os números ordinais.
Os números ordinais até o 10º são:



QUESTÃO 1 – Indique com o numeral ordinal a posição que cada desenho se encontra na sequência.



QUESTÃO 2 – Agora, complete:

a) A estrela é o elemento _____ da sequência.

b) O pinguim é _____ da sequência.

c) A _____ é o 4º elemento da sequência.

d) o 5º elemento da sequência é a _____.

e) A ovelha é o _____ elemento da sequência.

QUESTÃO 3 – Vamos ajudar as crianças a resolver as adições, levando cada uma delas ao resultado certo:



10

12

14

15

17

QUESTÃO 4 – Escreva o antecessor e sucessor dos números:

9	19	29	39
49	59	1	11
21	31	41	51

QUESTÃO 5 – Complete a sequência:



QUESTÃO 6 – Quem vem antes e depois?



QUESTÃO 7 – Calculando e completando:

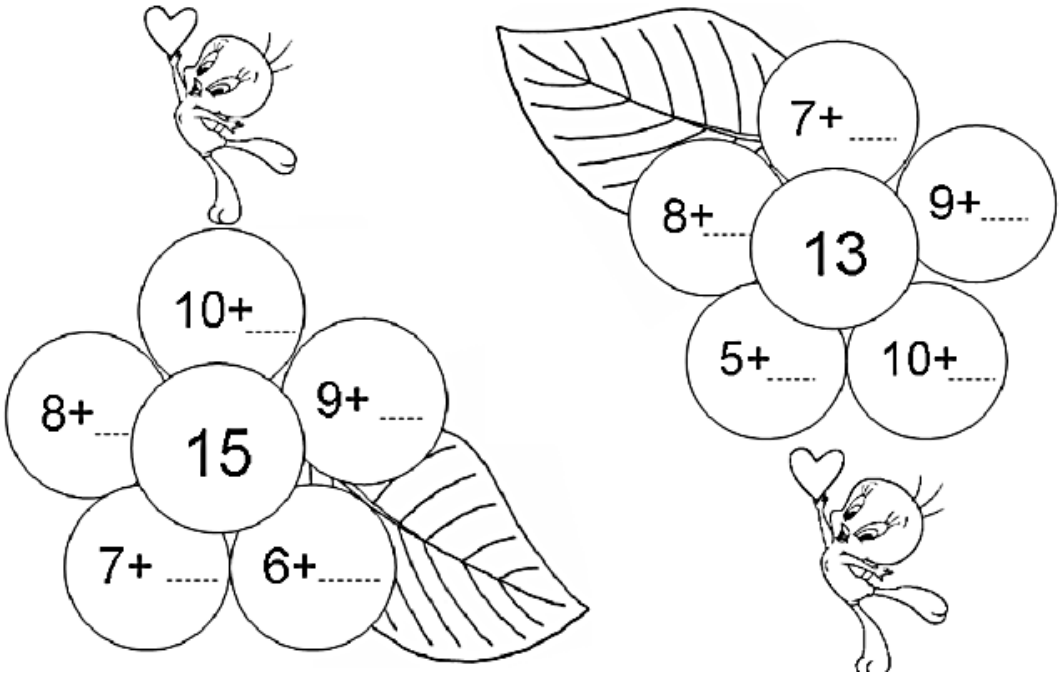

QUESTÃO 8 – Troque as parcelas de lugar e resolva as operações: Veja o modelo:

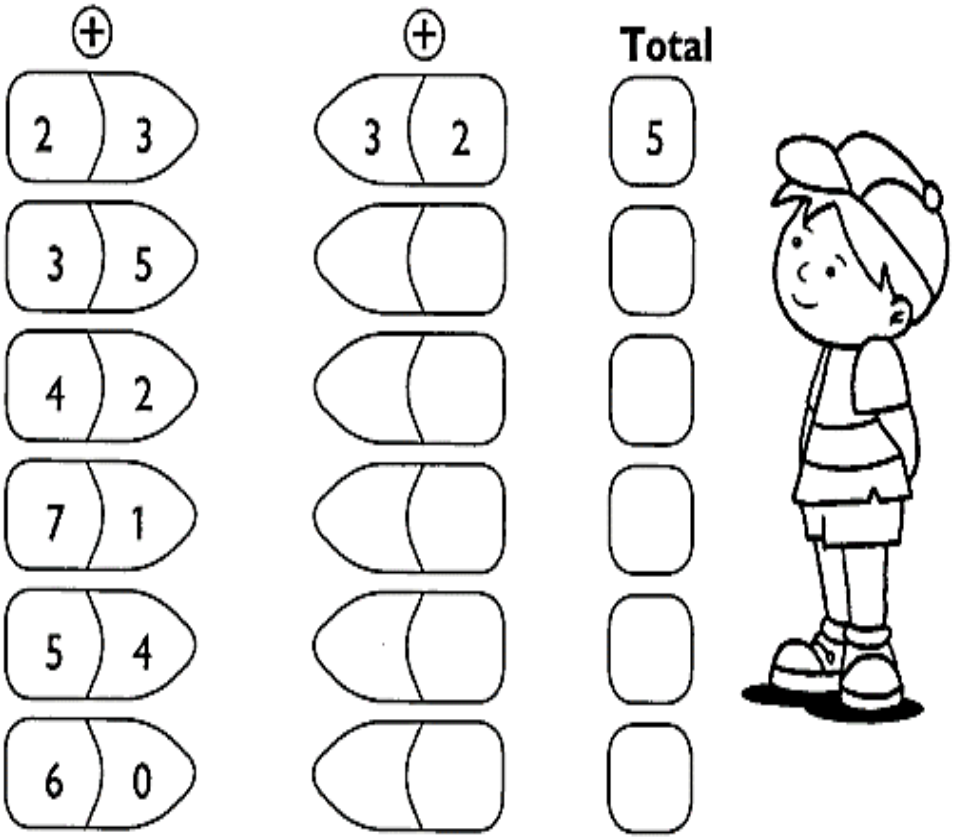

QUESTÃO 9 – Escreva as adições representadas na forma vertical:

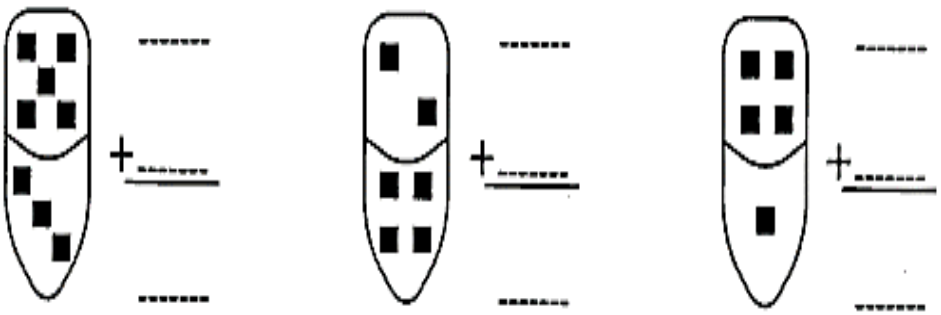

QUESTÃO 10 – Subtraia o número que se encontra na estrela e pinte da mesma cor o minuendo e diferença:



QUESTÃO 11 – Resolva os probleminhas:

	CÁLCULOS
O ônibus da escola de Mariana tem capacidade para 30 alunos. Hoje apenas 22 alunos foram. Quantos alunos faltaram? 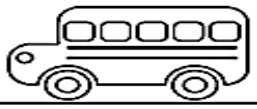	
Na casa de Mateus têm 10 laranjeiras, 1 mangueira, 2 limoeiros, 12 aceroleiras e 2 bananeiras. Quantas árvores tem na casa de Mateus, no total? 	
Junior tem uma coleção de carrinhos de brinquedos com 128 carrinhos. Ele quer dividi-los igualmente em quatro prateleiras. Quantos carrinhos cada prateleira terá? 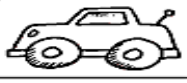	
Se a previsão é de que o dia amanheça em 20°C e passe para 33°C ao longo do dia. Quantos graus irá subir? 	

QUESTÃO 12 – Decomponha os números:

	CENTENA	DEZENA	UNIDADE
225			
387			
41			
934			
108			
596			

QUESTÃO 13 – Escreva o numeral que foi representado com a utilização do material dourado.

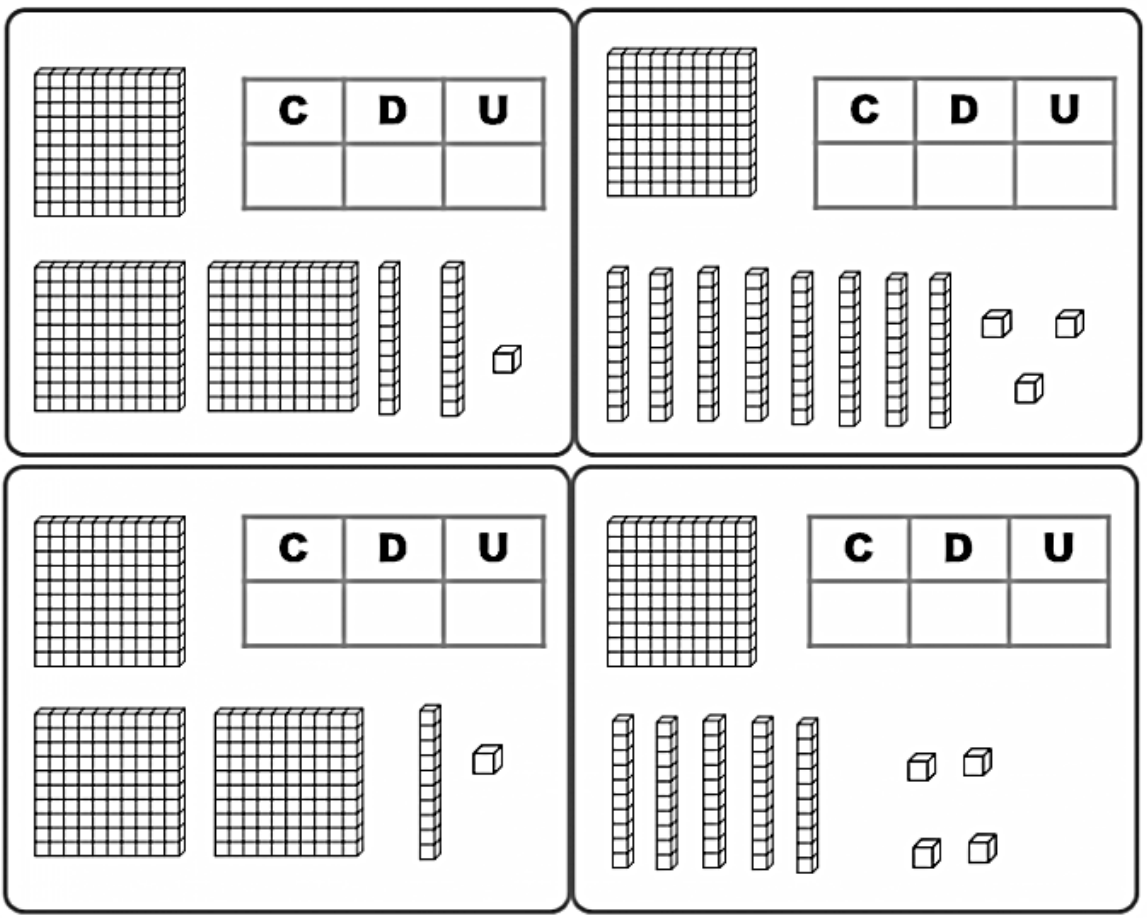

QUESTÃO 14 – Arme e resolva;

6 8 - 2 2 =

D	U

7 9 - 5 1 =

D	U

6 8 - 3 5 =

D	U

8 8 - 2 5 =

D	U

8 9 - 5 1 =

D	U

8 8 - 4 3 =

D	U

9 6 - 2 5 =

D	U

6 7 - 4 3 =

D	U

7 8 - 1 4 =

D	U

9 9 - 4 3 =

D	U



8 7 - 2 3 =

D	U

9 6 - 5 1 =

D	U

(EF01MA15JA)

QUESTÃO 15 – Observe os instrumentos utilizados para medir comprimentos:



Metro articulado



Fita métrica

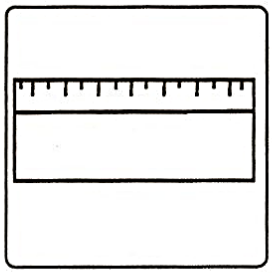

Régua

Complete:

a- Luísa usa a_____ na sala de aula.

b- A costureira usa a _____ para tirar as medidas.

c- O pedreiro trabalha com o _____

d- 1 metro tem_____ centímetros.

e- Meio metro tem_____ centímetros.

QUESTÃO 16 – Que dia da semana é hoje?

DOMINGO	SEGUNDA	TERÇA	QUARTA
QUINTA	SEXTA	SÁBADO	

QUESTÃO 17 – Que dia do Mês é hoje?



1	2	3	4	5	6	7	8	9	10
11	12	13	14	15	16	17	18	19	20
21	22	23	24	25	26	27	28	29	30
31									

QUESTÃO 18 – Qual o Mês do Natal ?

JANEIRO	ABRIL	JULHO	OUTUBRO
FEVEREIRO	MAIO	AGOSTO	NOVEMBRO
MARÇO	JUNHO	SETEMBRO	DEZEMBRO

QUESTÃO 19 – Agora anote o Dia , mês e ano da data de hoje :

_____DE_____DE_____

EF02MA01JA
QUESTÃO 20 – Pinte a sequência de João de 5 em 5:

1	2	3	4	5	6	7	8	9	10
11	12	13	14	15	16	17	18	19	20
21	22	23	24	25	26	27	28	29	30
31	32	33	34	35	36	37	38	39	40
41	42	43	44	45	46	47	48	49	50
51	52	53	54	55	56	57	58	59	60
61	62	63	64	65	66	67	68	69	70
71	72	73	74	75	76	77	78	79	80
81	82	83	84	85	86	87	88	89	90
91	92	93	94	95	96	97	98	99	100

REGISTRE:

5 - 10 - __ - __ - 25 - __ - __ - __ - __ - 50 - __ - __ - __ - __ -75 - __ - __ - __ - __ -100

QUESTÃO 21 – Coloque o número que em antes e depois:



	25	
	18	
	30	
	56	
	74	
	15	
	27	
	71	



	95	
	23	
	69	
	99	
	12	
	20	
	40	
	69	

Ciências

(EF01CI03JA)
Devemos ter bons hábitos de higiene para termos uma boa saúde.

QUESTÃO 1 – Ligue os objetos que estão faltando para as crianças fazerem uma boa higiene.



QUESTÃO 2 – Pinte a sequência de João de 5 em 5.



QUESTÃO 3 – Jogo dos sete erros:



EF02CI04JA

QUESTÃO 4 – Numere as partes da planta:



QUESTÃO 5 – Enumere as cenas de acordo com a sequência dos fatos.

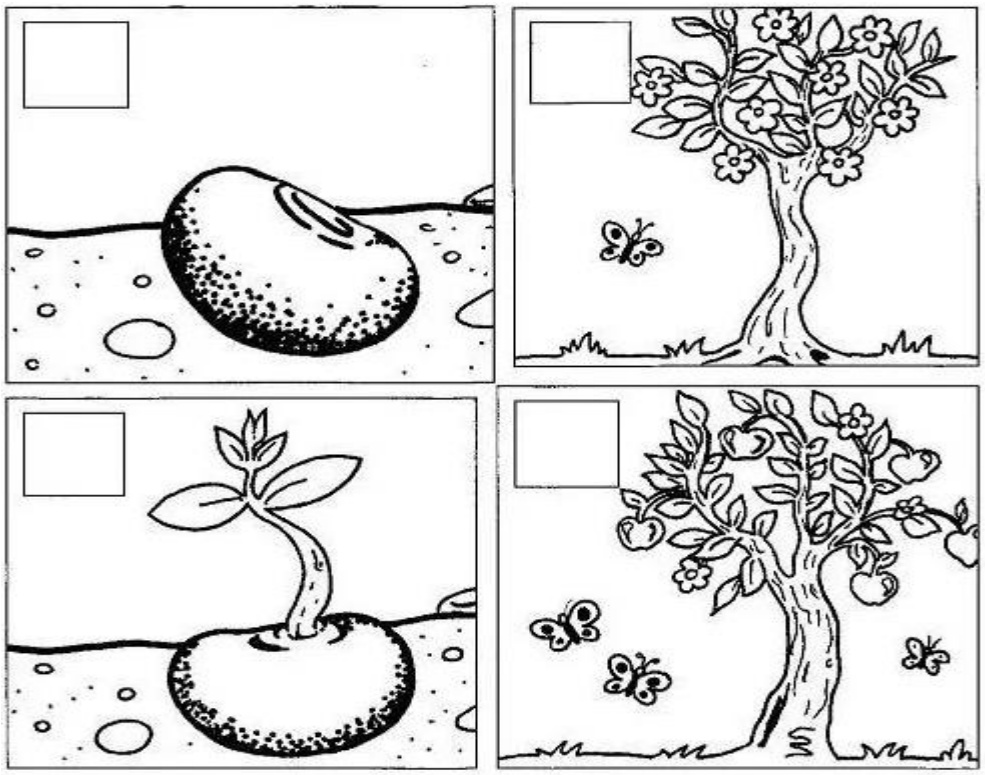

QUESTÃO 6 – O que podemos fazer para salvar o meio ambiente: Marque um X nas alternativas corretas e pinte a cena:



JOGAR LIXO NO CHÃO	RECICLAR TODO O LIXO	DERRUBAR TODAS AS ÁRVORES
PROTEGER A NATUREZA	NÃO DESPERDIÇAR A ÁGUA	JOGAR LIXO NO MAR E NOS RIOS

QUESTÃO 7 – Faça um X nos objetos que poluem o rio onde Chico gostaria de tomar banho:



História

QUESTÃO 1 – Pinte as figuras correspondentes às atividades que você faz em casa, nas horas de folga.



QUESTÃO 2 – Circule as figuras que indicam crianças brincando num espaço fora de casa. Em seguida faça um X na figura que representa o que você mais gosta de fazer.



QUESTÃO 3 – Pinte os brinquedos que você brinca



QUESTÃO 4 – Preencha a cruzada:

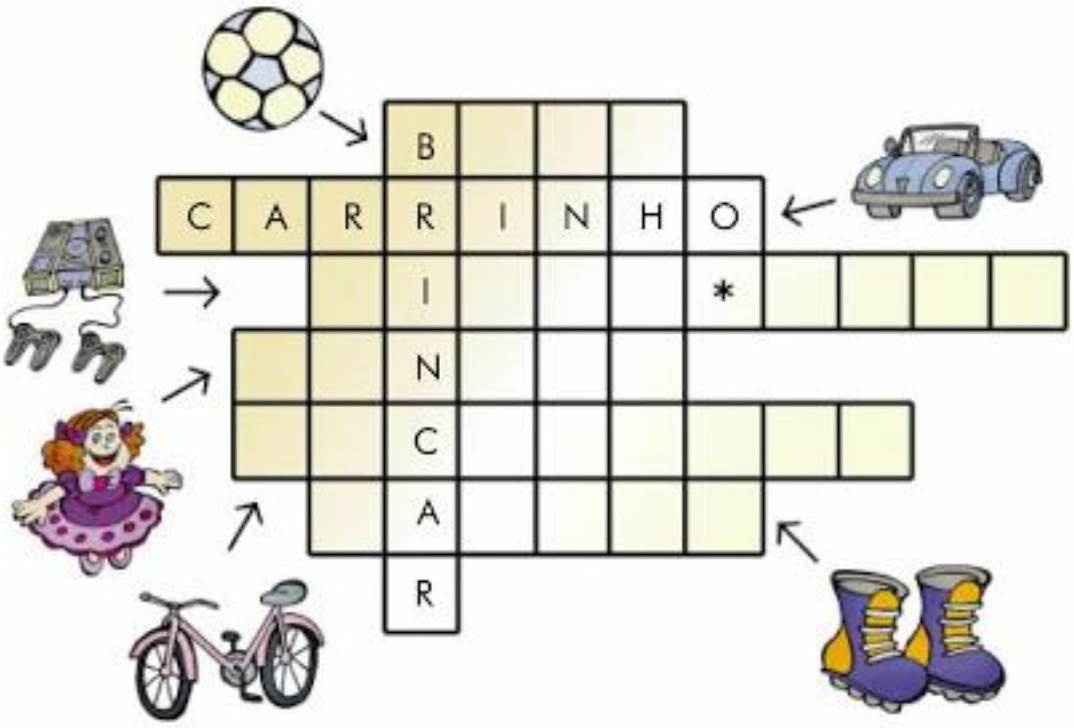

A família é o primeiro grupo do qual fazemos parte.

QUESTÃO 5 – Pinte as palavras que indicam as pessoas com quem você convive no seu dia-a-dia.

MOTORISTA DE ÔNIBUS	IRMÃO	AVÓS
PROFESSOR	PAIS	TIOS

QUESTÃO 6 – Você participa de vários grupos. Pinte os grupos aos quais você pertence.



QUESTÃO 7 – Pinte os desenhos que mostram como você ajuda em casa.



QUESTÃO 8 – Leia as frases e pinte os quadrinhos assim:

CERTO ERRADO

☐ SOMENTE OS ADULTOS DEVEM CUIDAR DA CASA.

☐ MUITAS MÃES TRABALHAM EM CASA.

☐ OS FILHOS TAMBÉM DEVEM AJUDAR NAS TAREFAS DO LAR

☐ O PAI DEVE AJUDAR NO SERVIÇO DE CASA

QUESTÃO 9 – Escreva, dentro dos retângulos, o nome das pessoas de sua família.



QUESTÃO 10 – Arrume as letras para formar as palavras. Escreva os nomes embaixo de cada porta-retrato.



EMAMÃ ÔVOV APIPA MÃOIR

_____ _____ _____ _____

QUESTÃO 11 – Pinte as diversões preferidas por sua família.

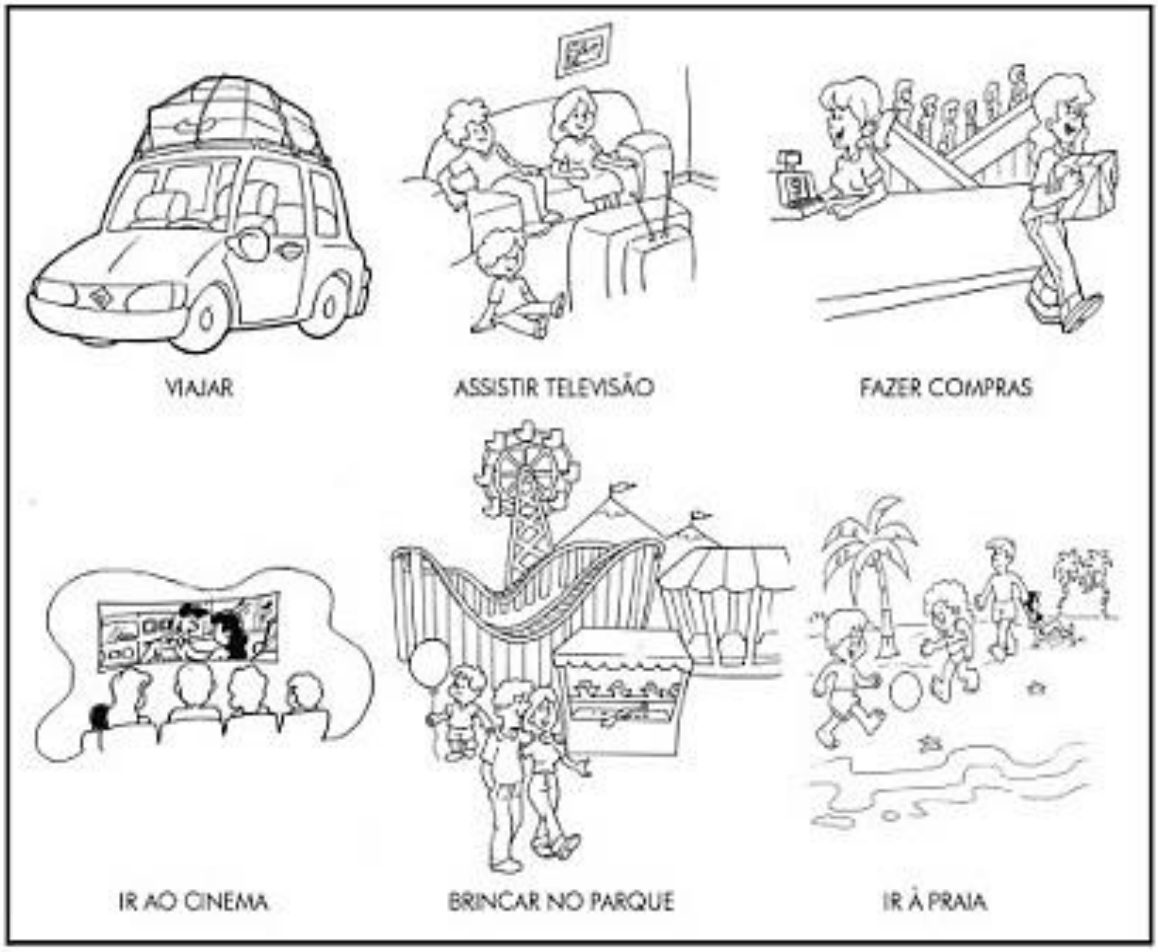

(EF01ER01JA)
QUESTÃO 16 – Observe as imagens abaixo e pinte somente as que demonstram amor ao próximo:













Geografia

QUESTÃO 1 – Observe as duas atitudes dos pedestres e pinte apenas a que estiver correta:



QUESTÃO 2 – Agora vamos pintar o semáforo e seu significado de acordo com a legenda:

Pare! **Atenção !** **Siga!**

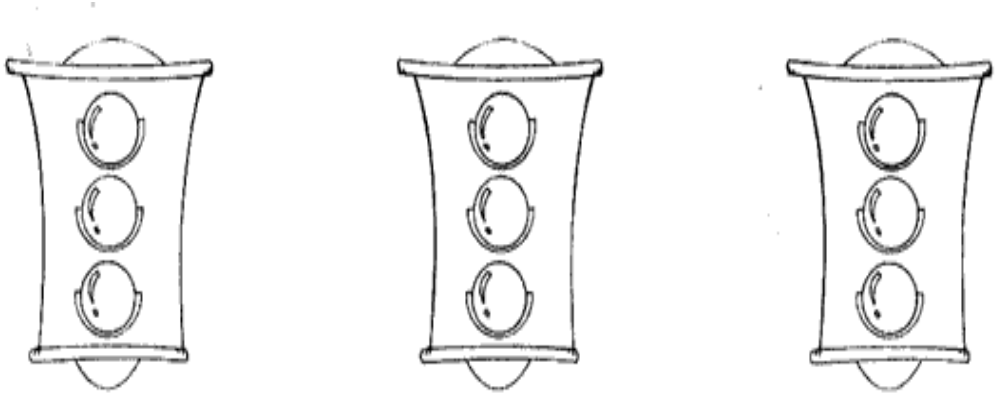

Vermelho **Amarelo** **Verde**

QUESTÃO 3 – Descubra o nome dos meios de comunicação completando com as letras que faltam:



Arte

(EF15AR02JA)

QUESTÃO 1 – Desenhando a folha de uma planta.



Educação Física

(EF12EF01JA)

Peteca

Peteca brinquedo que consiste em uma pequena base arredondada e achatada, geralmente de couro, á qual se fixam várias penas, e que se lança ao ar com a palma da mão.

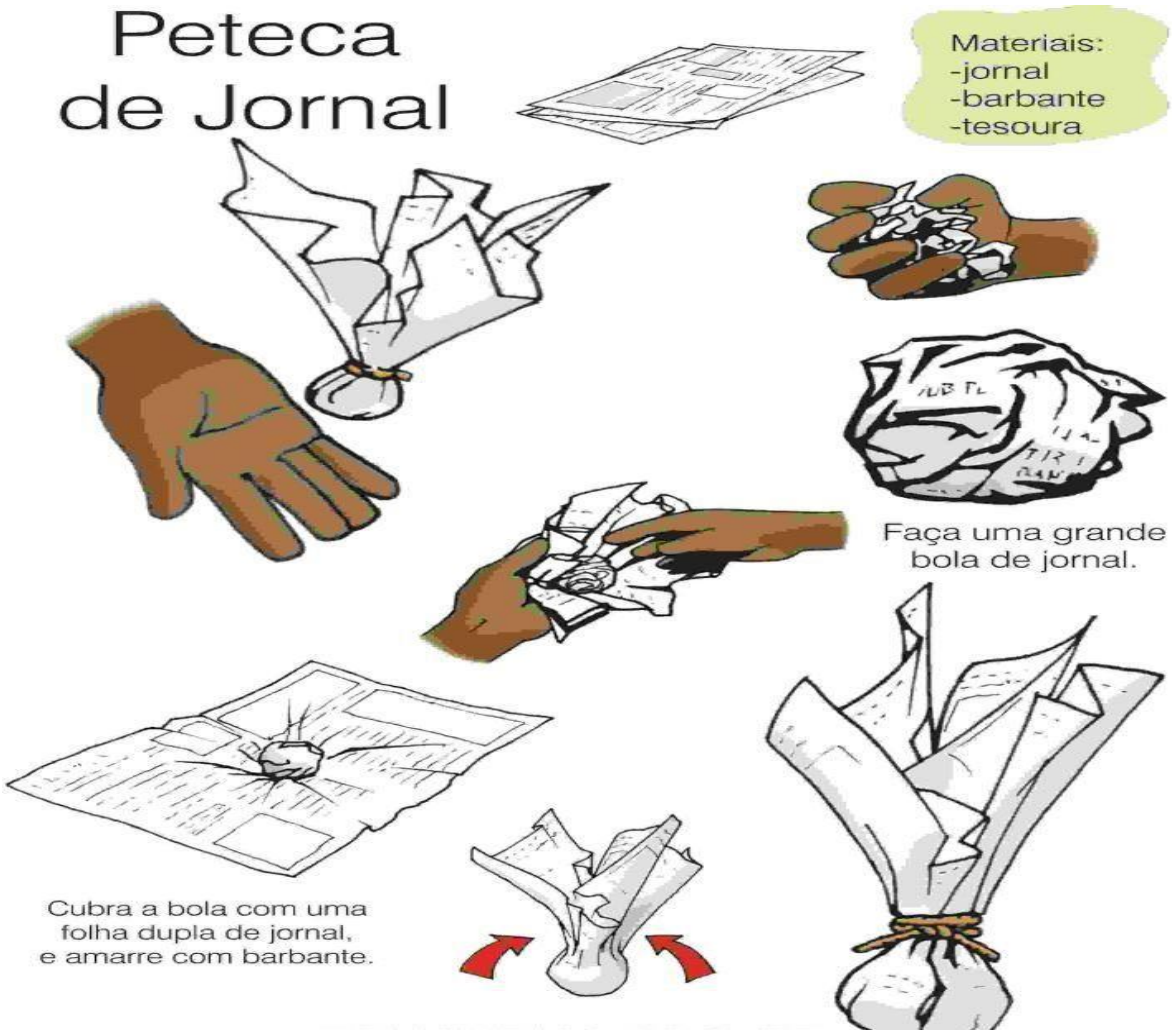

QUESTÂO 1 – Complete com as letras que estão faltando nos aparelhos de ginástica:

			
__RGOLAS	__ARRA __IXA	__AVALO __OM __LÇA	__OLO

		
__ARRAS __SSIMÉTRICAS	__RAVE	__ARRAS __ARALELAS