Avaliação 4º Ano
Festa Junina

Materiais Pedagógicos



EMEF BAIRRO BRAÇO GRANDE	3ª SÉRIE
Nome:	Data _____



O estouro da pipoca

Do contato de um inocente grão de milho amarelo com uma panela quente surge uma branquinha e apetitosa pipoca. Mas como será que isso ocorre? Será que isso é mágica?

Não, tudo depende da transferência de calor para dentro do milho, que faz a água evaporar, aumentando a pressão até que o milho estoure e vire pipoca.

A pipoca (do tupi antigo ***pira*** – pele + ***pok*** – estourar = **pele estourada**) é um prato brasileiro feito de uma variedade especial de milho que explode quando aquecido.

Seu nome em inglês é ***popcorn***.

Na Alemanha, onde poucas pessoas conhecem a pipoca, ela é comercializada apenas em pequenas escalas nos cinemas.

Maria Inês Bizzolto

Prof. Irineu Lopes

EMEF BAIRRO BRAÇO GRANDE	3ª SÉRIE
Nome:	Data _____

Interpretando o texto

a) Por que o texto que você leu é informativo? Explique com suas palavras.

_____

_____

b) Do contato de um inocente grão de milho amarelo com uma panela quente surge uma branquinha e apetitosa pipoca. Mas como será que isso ocorre?

_____

_____

c) A pipoca é um prato típico de qual país?

_____

_____

d) Como a pipoca é escrita em inglês?

_____

_____

e) Dê sua opinião. Em que ocasião você gosta de comer pipoca?

_____

_____

Consulte o texto e encaixe as respostas na cruzadinha.

(A) Nome do país onde a pipoca é popular.

(B) Grão amarelo usado para fazer pipoca.

(C) Local onde a pipoca é comercializada na Alemanha.

(D) É branquinha e apetitosa.



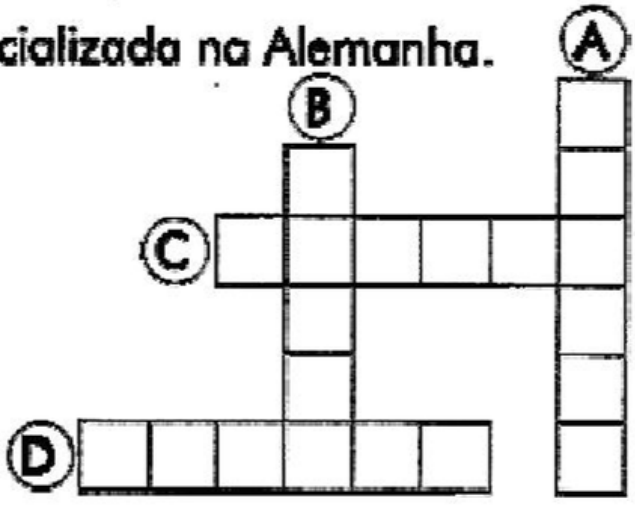

EMEF BAIRRO BRAÇO GRANDE	3ª SÉRIE
Nome:	Data _____

Redação; Produção de um texto



Crie uma história, baseando-se na ilustração, o que um simples e lindo balão pode causar.

Para que sua história fique bem rica, interessante e bonita relate o local onde está ocorrendo esta tragédia. Como estavam as pessoas antes da causa apresentada... enfim, seja bem criativo e mãos à obra!

Ah! Não se esqueça do título, pontuação, parágrafo e travessão quando houver fala do personagem!

_____

EMEF BAIRRO BRAÇO GRANDE	3ª SÉRIE
Nome:	Data _____

Reescreva a história da
"MENINA BONITA DO LAÇO DE FITA"







EMEF BAIRRO BRAÇO GRANDE	3ª SÉRIE
Nome:	Data _____

Observe os números e coloque-os em ordem crescente:

1.034	3.859	3.000	825	83	1.476	600	4.324	2.199



Agora, separe os números acima em:

Pares					
Ímpares					

Escreva os números, abaixo, por extenso:

1.034	
825	
1.476	
3.000	

Leia, pense e resolva:

Na semana da Festa Junina realizada em agosto pela Escola do Dirceu Rovari, em Pedro de Toledo, as vendas de cada dia da semana foram anotadas na seguinte tabela:



DIAS DA SEMANA	PIPOCA	BOLO DE FUBÁ	MAÇÃ DO AMOR
QUINTA-FEIRA	875	65	900
SEXTA-FEIRA	1.135	253	1.240
SÁBADO	934	94	1.019
DOMINGO	1.245	83	935

De acordo com a tabela acima, responda as questões 1 a 7:

1 – Em qual dia da semana foi vendido mais maçã do amor?

_____

2 – Quantas pipocas foram vendidas no sábado?

_____

3 – Em qual dia da semana vendeu menos bolo de fubá?

_____

4 – Que produto é menos vendido?

_____

5 – Juntando as vendas de sábado e domingo, quantas maçãs do amor foram vendidas?

R: _____

6 – Qual a diferença da quantidade de pipocas vendidas entre "domingo" e "sexta-feira"?

R: _____

7 – Mamãe comprou uma caixa contendo 48 saquinhos de pipocas e irá repartir entre seus 2 filhos. Quantos saquinhos de pipocas cada um ganhará?

R: _____

Complete a tabela:

	UM	C	D	U
Dois Mil				
Seiscentos e trinta e cinco				
Setenta e oito				
Quatro mil e quarenta				



EMEF BAIRRO BRAÇO GRANDE	3ª SÉRIE
Nome:	Data _____

Resolva as operações:

1.579 + 354 + 75 =	485 + 267 =
800 – 376 =	2.653 – 530 =
923 x 3 =	264 x 6 =
86 ÷ 2 =	69 ÷ 2 =