PREFEITURA DE MONTES CLAROS – MG
SECRETARIA MUNICIPAL DE EDUCAÇÃO
ESCOLA MUNICIPAL PROFESSORA MARIA DE LOURDES PINHEIRO

NOME COMPLETO:
ANO ESCOLAR: 2º __ PROFESSORA: _____ DATA: __/__/2021

AVALIAÇÃO 4º BIMESTRE – MATEMÁTICA

QUESTÃO 1: "BUZ" PRECISA CAMINHAR ATÉ O PARQUE AQUÁTICO, MAS PRECISA COLOCAR OS NÚMEROS QUE FALTAM... COMPLETE SEU CAMINHO E AJUDE AO "BUZ": EM SEGUIDA FAÇA O QUE SE PEDE AO LADO:

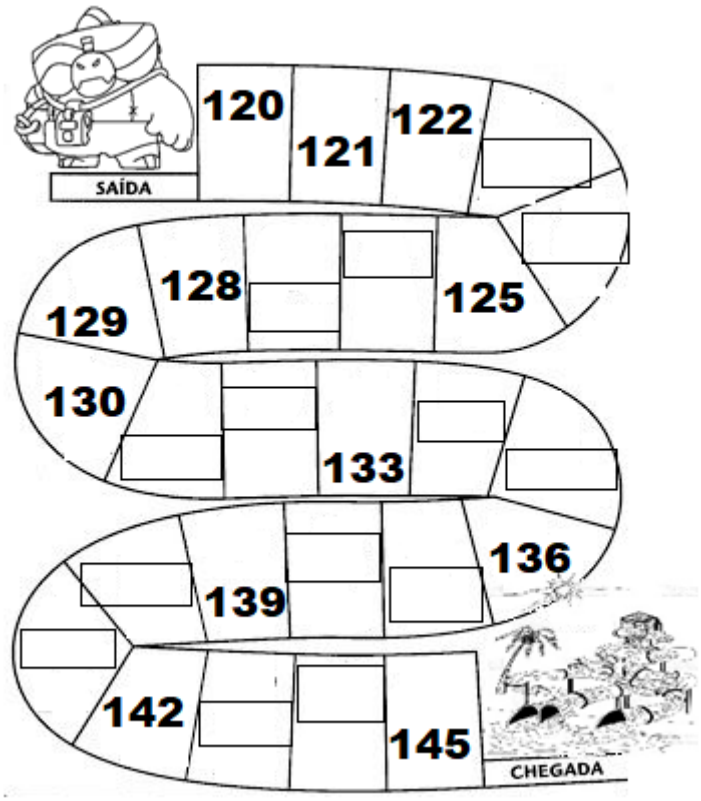

A) PINTE OS QUADRINHOS "PARES" DE VERDE E OS QUADRINHOS "ÍMPARES' DE VERMELHO.

B) ESCOLHA 4 DOS NÚMEROS QUE VOCÊ ENCONTROU E ESCREVA O NOME DESSES NÚMEROS.

☐ _____
_____

☐ _____
_____

☐ _____
_____

☐ _____
_____

QUESTÃO 2: "FRANK" PRECISA ACHAR O ANTECESSOR, O SUCESSOR OU O NÚMERO DO MEIO. QUE TAL AJUDÁ-LO?

A)



B)



C)



D)





QUESTÃO 3: USANDO CONTINHAS DENTRO DO QUADRO POSICIONAL ENCONTRE O RESUTADO DAS ADIÇÕES:

A) 219 + 110 =

	C	D	U
+			

B) 243 + 226 =

	C	D	U
+			

C) 333 + 222 =

	C	D	U
+			

QUESTÃO 4: USANDO CONTINHAS ESCONTRE O RESULTADO DAS SUBTRAÇÕES:

A) 37 – 14 =

	C	D	U
-			

B) 649 – 538 =

	C	D	U
-			

C) 527 – 305 =

	C	D	U
-			

QUESTÃO 5: PINTE O GRÁFICO DE ACORDO COM A QUANTIDADE DE QUILOGRAMAS QUE MEGUI COMEU DE CADA FRUTA. EM SEGUIDA RESPONDA ÀS PERGUNTAS ABAIXO:



BANANA: 3 KG

MAÇÃ: 2 KG

PERA: 5 KG

LARANJA: 6 KG

MORANGO: 9 KG

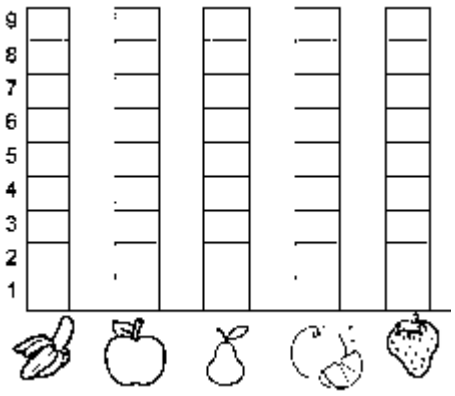

QUANTOS QUILOS DE BANANA E MAÇÃ ELA COMEU?

QUAL A DIFERENÇA DE PESO ENTRE A PERA E A LARANJA QUE MEGUI COMEU?

QUANTO QUILOS FALTAM PARA QUE A MAÇÃ ALCANCE O MESMO PESO DO MORANGO?

QUESTÃO 6: CADA CRIANÇA DESSA FILA CARREGA UM NÚMERO NO SHORTE. ESCREVA O NÚMERO DO SHORTE DA CRIANÇA DE ACORDO COM A COLOCAÇÃO INDICADA:



1º LUGAR:	4º LUGAR:	6º LUGAR:	9º LUGAR:
13º LUGAR:	2º LUGAR:	10º LUGAR:	
5º LUGAR:	11º LUGAR:	7º LUGAR:	
12º LUGAR:	3º LUGAR:	8º LUGAR:	



QUESTÃO 7: ROSA PRECISA ENCONTRAR UMA DÚZIA DE ESTRELAS. PINTE ESSE NÚMERO DE ESTRELAS DE VERMELHO. JÁ O CORVO PRECISA DE MEIA DÚZIA QUE VOCÊ IRÁ PINTAR DE AMARELO:



QUESTÃO 8: NA ESTANTE DE TIA NÁDYLA TÊM VÁRIOS OBJETOS, MAS ELA QUER GUARDAR CADA UM DE ACORDO COM SUAS CARACTERÍSTICAS LIGANDO A FORMA DO SÓLIDO GEOMÉTRICO CORRETO:

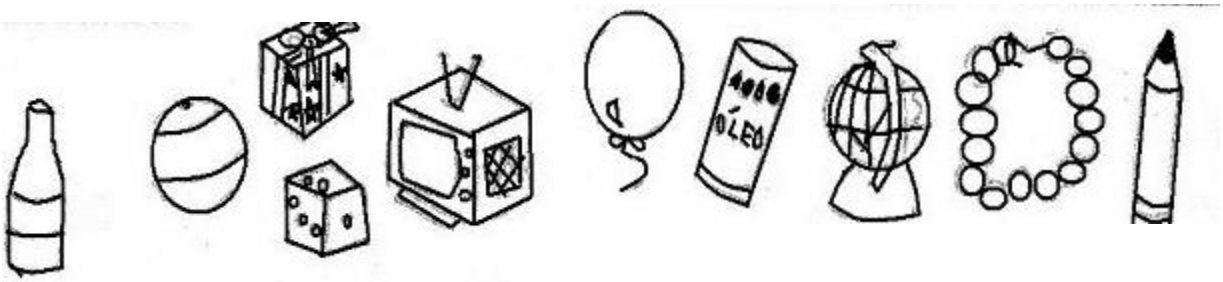

CUBO	CILINDRO	ESFERA

PREFEITURA DE MONTES CLAROS – MG
SECRETARIA MUNICIPAL DE EDUCAÇÃO
ESCOLA MUNICIPAL PROFESSORA MARIA DE LOURDES PINHEIRO

NOME COMPLETO:
ANO ESCOLAR: 2º __ PROFESSORA: _____ DATA: __/__/2021

AVALIAÇÃO 4º BIMESTRE – ENSINO RELIGIOSO

QUESTÃO 1: CADA RELIGIÃO ATRIBUI VALORES A UM ALIMENTO DIFERENTE. LIGUE O TIPO DE RELI GIÃO AO SEU ALIMENTO SAGRADO OU PROIBIDO:

AFRICANOS



BUDISMO



INDÍGENAS



JUDAÍSMO









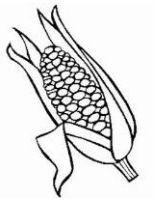

QUESTÃO 2: AS REL IGIÕES TAMBÉM USAM ESPAÇOS ESPECIAIS PARA DESENVOLVER A SUA FÉ. ENCONTRE NO CAÇA PALAVRAS O NOME DOS ESPAÇOS SAGRADOS PARA OS CRISTÃOS (**IGREJA),** INDÍGENAS **(NATUREZA),** CANDOMBLÉ (**TERREIRO)** E MULÇUMANOS (**MESQUITA):**



M	Q	W	E	W	N	T	W	R	T
E	Y	U	I	A	A	E	S	D	G
S	G	H	J	K	T	R	L	Ç	Z
Q	X	C	V	B	U	R	N	M	,
U	Z	C	I	G	R	E	J	A	B
I	N	M	Q	W	E	I	R	T	Y
T	U	I	O	P	Z	R	A	S	F
A	G	H	J	K	A	O	K	L	Ç
Z	C	V	B	N	M	M,	N	M	Q

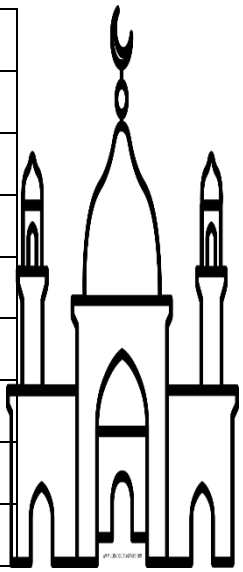

QUESTÃO 3: DESENHE O ESPAÇO SAGRADO QUE VOCÊ E SUA FAMÍLIA FREQUENTAM:

QUESTÃO 4: PARA COMEMORAR O NASCIMENTO DE SEU SALVADOR, OS CRISTÃO MARCARAM O NATAL PARA ESTA DATA. FAÇA UM BELO COLORIDO NA IMAGEM ABAIXO E EM SEGUIDA ESCREVA O QUE VOCÊ MAIS GOSTA NESSA DATA:



_____

_____