SORU AVCILARI
BRANŞ DENEME SERİSİ

30 TYT
SOSYAL DENEMELERİ

YÜKSEKÖĞRETİM KURUMLARI SINAVI
TEMEL YETERLİLİK TESTİ

Bilgi Sarmal

SOSYAL DENEMELERİ | TYT

SORU KİTAPÇIK NUMARASI							
0	0	0	0	0	0	0	0

T.C. KİMLİK NUMARASI															
ADI															
SOYADI															
SALON NO.										SIRA NO.					

ADAYIN DİKKATİNE!

DİKKAT! SINAV BAŞLAMADAN AŞAĞIDAKİ UYARILARI MUTLAKA OKUYUNUZ.

1. Kitapçık ve cevap kâğıdındaki size ait bilgileri ilgili bölümlere doğru olarak kodlayınız. Aksi taktirde sınav sonuçlarınıza ulaşmakta sorunlar yaşayabileceğinizi unutmayınız.
2. Cevap kâğıdınızdaki tüm alanları kurşun kalem kullanarak ve kutucukların dışına taşırmadan belirgin olarak işaretleyiniz.
3. Size verilen kitapçık türünü cevap kâğıdınızın ilgili bölümüne sınav başlangıcında işaretleyiniz.

Bu kitapçık kapağı öğrencilerimizin sınava daha gerçekçi hazırlanmaları amacıyla ÖSYM kitapçığı dikkate alınarak hazırlanmıştır.

TYT SOSYAL BRANŞ DENEMELERİ

TARİH ZÜMRESİ

Hasan BENLİOĞLU | Ali DEMİRHAN

COĞRAFYA ZÜMRESİ

İsmail ZEYBEK | Mecit Mümin POLAT

FELSEFE ZÜMRESİ

Engin ONÜÇ

DİN ZÜMRESİ

Mustafa SEDEF

BİLGİ SARMAL

Yayın Koordinatörü: Serbay YİĞİT

Yayın Editörleri: Özlem ŞİMŞEK ESER - Hilal AKDOĞAN

Dizgi / Grafik: Bilgi Sarmal Dizgi/Grafik

ISBN = 978-625-8070-65-1

Bu kitabın her hakkı yayınevine aittir.
Hangi amaçla olursa olsun, bu kitabın tamamının ya da bir kısmının, kitabı yayınlayan yayınevinin önceden izni olmaksızın elektronik, mekanik, fotokopi ya da herhangi bir kayıt sistemi ile çoğaltılması, yayınlanması ve depolanması yasaktır.

Bu testte sırasıyla, Tarih (1 – 5), Coğrafya (6 – 10), Felsefe (11 – 15), Din Kültürü ve Ahlak Bilgisi (16 – 20) dersi olmak üzere toplam 20 soru vardır.

1. Asya Hunlarında her yılın mayıs ayı ortalarında atalara kurban sunulurdu. Eski Türkler ölülerini; silâhları, kıymetli eşyası ve bazen altın ve gümüşle bezenmiş teçhizatlı atları ile gömerlerdi. Kök Türk ve Uygurlarda ruh kavramının yerine "tin" kelimesi kullanılıyordu. Ölümü nefesin kesilmesi, ruhun bedenden çıkıp uçması şeklinde tasavvur ediyorlar, böylece bazen "öldü" yerine "uçtu" diyorlardı.

Bu bilgiye göre Türkler ile ilgili,

I. ahiret inancına sahip olduklarına,
II. mezarlarında yaşam tarzlarını yansıtan izler bulunduğuna,
III. cenaze merasimlerine önem verdiklerine

ilgili aşağıdakilerden hangisi söylenebilir?

A) Yalnız I B) Yalnız II C) I ve II
D) I ve III E) I, II ve III

2. Büyük Selçuklu hükümdarı Tuğrul Bey'in siyasi yaşamındaki en büyük destekçisi eşi Altuncan Hatun'du. Melikşah'ın eşi Terken Hatun, devlet idaresinde son derece etkiliydi ve ayrı bir divanı vardı. Bazı meseleler, onunla olgunlaştırıldıktan sonra sultana sunulurdu. Harezmşahlar Hükümdarı Alaeddin Tekiş'in eşinin de ayrı divanı, sarayı, iktaları ve hatta başkenti bile vardı. Devlet memurlarını tayin eder veya görevden alabilirdi. Daha da önemlisi, sultanın emirleri onun tuğrası olmadan geçerli sayılmazdı.

Bu bilgilere göre ilk Türk İslam devletlerindeki devlet yönetiminin temel esasları ile ilgili aşağıdakilerden hangisi söylenebilir?

A) Ataerkil toplum yapısının etkili olduğu görülmektedir.
B) Erkek egemenliğine dayalı bir sistem benimsenmemiştir.
C) Kadınlar, sosyal hayatta erkeklerden üstün bir konuma sahiplerdir.
D) Hükümdar, kut anlayışından kaynaklı mutlak iktidar sahibidir.
E) Ülke idaresinde ikili yönetim anlayışı uygulanmıştır.

3. Osmanlı son dönemlerinde çıkan İnkılap gazetesinin 18 Temmuz 1909 tarihinde yayınlanan sayısında yer alan bir makalede, "Millet kelimesinin asrımızdaki siyasi manası, bir hükûmet teşkil eden ve bir bayrak altında yaşayan insanların birleşmesi şeklinde ifade edilir. Bugün her kim kendini Osmanlı kabul eder ve vazifelerini tamamıyla yerine getirirse bu devletin sahibidir, hissedarıdır." ifadelerine yer verilmiştir.

Bu makaledeki ifadeler dikkate alındığında Osmanlı toplumunun bir bütün hâline gelmesi için aşağıdakilerden hangisinin gerekli olduğu savunulabilir?

A) Meşrutiyetin ilan edilmesi
B) Tanzimat Fermanı'nın ilan edilmesi
C) Balkan Savaşlarının sona ermesi
D) Yabancı okulların açılması
E) Sened-i İttifak'ın imzalanması

4. I. Dünya Savaşı'ndan sonra toplanan Paris Barış Konferansı'nda Osmanlı Devleti'nin paylaşılmasıyla ilgili konularda uzlaşıya varılamadığından Osmanlı Devleti ile ilgili herhangi bir karar alınmadı. 18-26 Nisan 1920'de San Remo Konferansı'nda imzalanacak barış antlaşmasının koşulları hazırlandı. Antlaşma koşulları ile ilgili Osmanlı Devleti'nin çekimser davranması üzerine Yunan kuvvetleri 22 Haziran 1920'de taarruza geçti. Bu durum karşısında Paris'e giden Osmanlı heyeti Sevr Antlaşması'nı imzaladı.

Bu gelişmeler aşağıdakilerden hangisinin kanıtı olarak gösterilemez?

A) Osmanlı Devleti'nin I. Dünya Savaşı'ndan yenik ayrıldığının
B) Yunanistan'ın İtilaf Devletleri ile işbirliği yaptığının
C) Paris Barış Konferansı'nda bazı konuların çözüme kavuşturulamadığının
D) Osmanlı Devleti'nde yürütme gücünün varlığının sona erdiğinin
E) İtilaf Devletlerinin siyasi çıkarlar için askerî gücü kullandığının

BİLGİ SARMAL

Diğer Sayfaya Geçiniz.

5.

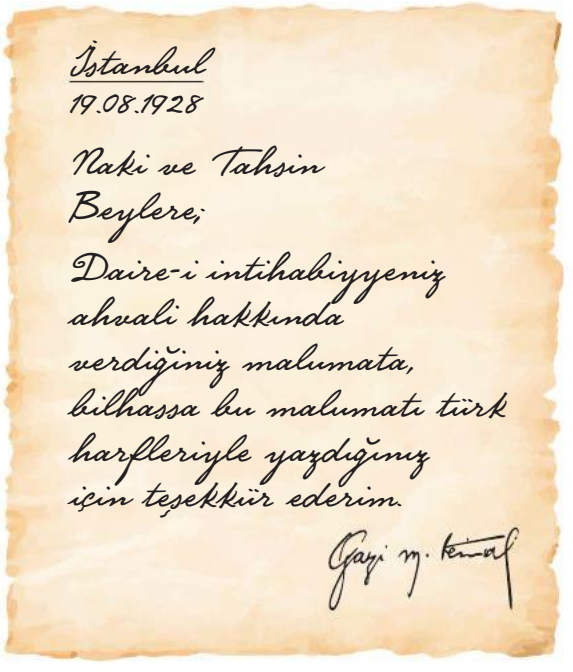

İstanbul
19.08.1928

Naki ve Tahsin
Beylere;

Daire-i intihabiyyeniz
ahvali hakkında
verdiğiniz malumata,
bilhassa bu malumatı türk
harfleriyle yazdığınız
için teşekkür ederim.

Gazi M. Kemal

Mustafa Kemal'in, Fransızca Öğretmeni Nakiyüddin Yücekök ve Tahsin Bey'e Yazdığı Teşekkür Yazısı (19.08.1928)

Mustafa Kemal'in bu yazısı dikkate alındığında Türkiye Cumhuriyeti'nde;

I. Soyadı Kanunu'nun kabul edilmesi,
II. Türk Tarih Kurumunun açılması,
III. Latin alfabesine geçiş sürecinin başlaması

gelişmelerinden hangilerinin yaşandığı söylenebilir?

A) Yalnız I B) Yalnız II C) Yalnız III
D) I ve III E) II ve III

6.

GAZETE

Bitlis'in Tatvan ilçesinde her yıl binlerce yerli ve yabancı turisti ağırlayan 2 bin 250 metre rakımdaki Nemrut Kalderası'nın, UNESCO'nun Küresel Jeopark Ağı'na dahil edilerek tüm dünyaya tanıtılması için çalışmalar sürüyor. Doğal güzellikleri, eşsiz manzarasının yanı sıra bünyesindeki sıcak ve soğuk gölleri, buz mağarası, buhar bacası ve biyoçeşitliliğiyle öne çıkan bölgede inceleme yapan akademisyenler, kalderanın taş ve toprak yapısını, bitki örtüsünü ve endemik bitki türlerini tespit ediyor.

Yukarıdaki haber metni ile aşağıdaki coğrafyanın alt dallarından hangisi doğrudan ilişkilendirilemez?

A) Klimatoloji B) Hidrografya
C) Jeomorfoloji D) Biyocoğrafya
E) Ekonomik Coğrafya

7. Yer altı ve yer üstü suları ile yağışlar tarafından beslenen göller; sahip olduğu su özellikleri bakımından tatlı, tuzlu, acı ve sodalı olabilir.

Göl sularının farklı özellikte olmasını;

I. bulunduğu yerin iklim koşulları,
II. göl çanağının kayaç yapısı,
III. gölü besleyen su kaynaklarının su özelliği

faktörlerinden hangileri etkiler?

A) Yalnız I B) I ve II C) I ve III
D) II ve III E) I, II ve III

BİLGİ SARMAL

8. Aşağıda dört farklı ülkeye ait nüfus piramitleri verilmiştir.

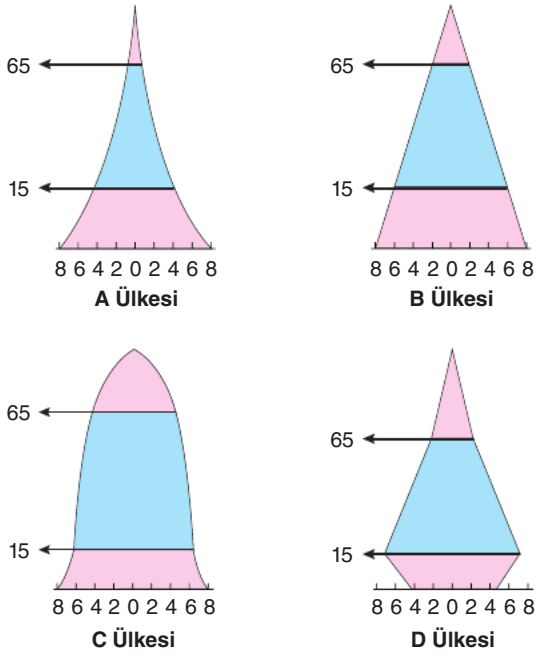

Bu nüfus piramitleri dikkate alındığında,

I. A ülkesinde, yaşlı nüfusun toplam nüfus içindeki oranı azdır.

II. B ülkesinde, ortalama yaşam süresi diğerlerinden uzundur.

III. C ülkesinde, doğurganlık oranı giderek artmaktadır.

IV. D ülkesinde, toplam nüfus içindeki kadınların oranı erkeklerin oranından fazladır.

ifadelerinden hangileri söylenemez?

A) I ve II B) I ve III C) II ve III
D) II ve IV E) III ve IV

9. Bölge sınırı, bölge belirlemede esas alınan kriterlere göre belirlenir. Belirlenen kriterin özelliği, oluşturulmak istenen bölgenin yeryüzündeki dağılış alanını etkiler.

Buna göre yeryüzünde iklimlerin dağılışına göre bir bölge sınıflandırılması yapılsa aşağıdakilerden hangisinin sınırı diğerlerinden daha az alan kaplar?

A) Step iklim bölgesi

B) Muson iklim bölgesi

C) Akdeniz iklim bölgesi

D) Ilıman Okyanusal iklim bölgesi

E) Sert karasal iklim bölgesi

10. I. Orman yangınları

II. Tektonik depremler

III. Sel ve taşkın

Yukarıdaki afetlerden hangilerinin meydana gelmesinde hem doğal hem de beşerî faktörlerin etkisi vardır?

A) Yalnız I B) Yalnız III C) I ve III
D) II ve III E) I, II ve III

11. Filozofun neyi anlamlı ya da anlamsız bulduğu, onun sahip olduğu düşünme biçimi kadar, kişiliğine ve huylarına da bağlıdır. Dolayısıyla kimi filozofların benzer ögeler ve uyum gördüğü yerlerde, başka bazı filozoflar sadece farklılıklardan oluşan bir karmaşa göreceklerdir. Bazı filozoflarca tanrısal olarak görülen kimi şeyler, başka filozoflarca, sadece rastgele bir araya gelen ilineksel olaylardan ibaret bir şey olarak değerlendirilecektir.

Bu parçada felsefenin hangi özelliği vurgulanmıştır?

A) Evrensel olması

B) Kurgusal olması

C) Öznel olması

D) Refleksif olması

E) Mantıksal olması

12. Platon'a göre gerçek varlık, düşünsel varlık olan 'idea'dır. Madde dünyası ise görüntüden ibarettir. Örneğin, dış dünyadaki ağaç kuruyunca yok olur; ancak 'idea'lar kalıcı olduğu için ağaç ideası hiçbir zaman yok olmaz. Platon böylelikle düşünceyi madde dünyasının üstüne çıkarmış olur.

Platon'un bu görüşlerinden aşağıdakilerden hangisine ulaşılabilir?

A) Gerçek olan tek tek nesnelerdir.

B) İdealar değişir, nesneler değişmez.

C) Varlık, insan bilincinden bağımsız olarak vardır.

D) Gerçek varlıktan söz edilemez.

E) Varlıkta belirleyici olan öznenin bilincidir.

BİLGİ SARMAL

13. İnsanın bilinmeyene duyduğu sempati, onu her zaman gizemli bir yolculuğa itmiştir. Bu arayışı; bazen tanrıda, bazen evrende, bazen de kendi iç dünyasında yapmıştır. Ancak insan elde ettiği şeylerden ve tekdüzelikten bir süre sonra sıkılarak keşifler ve bilinmeyenler âlemine tekrar yönelmiştir. Bu çabalar bilim denilen etkinliği ortaya çıkarmıştır.

Bu parçadan aşağıdaki yargılardan hangisine ulaşılabilir?

A) İnsanın bilme gücü sınırlı olduğu için tüm bilinmeyenleri açığa çıkaramaz.

B) Merak ve anlama güdüsü insanı bilimsel çalışmalara itmiştir.

C) Bilim, bütün toplumlar için vazgeçilmez bir etkinlik olmuştur.

D) İnsanın doğaya yönelmesindeki temel amacı onu kontrol altına almaktır.

E) Doğanın düzenini bozan insanın kendisidir.

14. Kritias'a göre şiddetin ve vahşetin sürdüğü doğa döneminde, insanlar hiçbir yasaya bağımlı değillerdi ve yalnızca içgüdülerine göre davranıyorlardı. Sonra, adaletin sağlanabilmesi için bir düzene gereksinimi olduklarını anladılar ve yasaları yaparak toplum durumuna geçtiler.

Bu parçada vurgulanan düşünce aşağıdakilerden hangisidir?

A) Toplumsal yaşam insan için zorunludur.

B) İnsanlar doğa durumunda daha mutluydular.

C) Her dönemin yönetim anlayışı farklıdır.

D) Otorite, insan doğasını baskı altına alır.

E) Toplumsal düzenin sağlanması, bireyin ahlaki yönden gelişmesi ile olanaklıdır.

15. Duyumlarla elde edilen izlenimleri bilgiye dönüştüren zihindir. Zihin bu dönüştürme işini kavramlarla yapar. Öyleyse kavramlar algıları birleştiren, bütünleştiren evrensel zorunlu koşuldur. Duyuların formları; zaman ve mekân, zihnin ki ise kategorilerdir. Kategoriler zihnin apriori formlardır; bilgi onlar aracılığıyla gerçekleşir.

Bu parçada aşağıdaki yaklaşımlardan hangisi savunulmuştur?

A) Kant'ın kritisizmi

B) Descartes'ın rasyonalizmi

C) Bergson'un entüisyonizmi

D) Protagoras'ın rölativizmi

E) Locke'un empirizmi

16. İslam, bilgi edinmeye büyük önem verir. İslam dinine göre insan, bilme ve öğrenme özellikleriyle var olmuştur. İnsanı diğer varlıklardan ayıran düşünme, anlama ve kavrama gibi özellikleridir. Kur'an-ı Kerim'de insanın bilen ve öğrenen bir varlık olduğuna işaret edilmiş aynı zamanda bilginin asıl kaynağının, insana bilmediklerini öğreten ve her şeyi bilen Yüce Allah olduğu ifade edilmiştir. Bilgi, İslam âlimleri tarafından ilim ve marifet kavramlarıyla ifade edilir. İlim, bir şeyi olduğu gibi ve gerçeğe uygun şekilde bilmektir. Marifet ise bir şey hakkında düşünerek derin bilgi ve anlayışa ulaşmaktır. Bilgi edinmenin farklı yolları vardır. Bunlar; selim akıl, doğru haber ve salim duyu organları olarak sıralanabilir.

Bu parçada aşağıdakilerden hangisine <u>değinilmemiştir</u>?

A) İslam'a göre bilginin temel kaynağının ne olduğuna

B) İnsanın bilgiye eğilimli bir varlık olarak yaratıldığına

C) Bilginin, İslam medeniyetinde hangi kavramlarla ifade edildiğine

D) Bilgi kavramının sosyal hayata olan etkisine

E) Bilgi edinmek için hangi yollara başvurulabileceğine

17. İslami literatürde din; Allah (c.c.) tarafından peygamberler aracılığıyla gönderilen, akıl sahiplerini kendi istek ve hür iradeleriyle hayırlı olan şeylere sevk eden ilahî kurallar bütünüdür.

Bu tanımdan hareketle,

I. İslam dini ilahi kaynaklıdır.

II. İnsanlar inançlarını özgürce tercih edebilmelidir.

III. Akıl, doğru yolu bulabilmek için tek başına yeterlidir.

yargılarından hangilerine ulaşılabilir?

A) Yalnız I B) I ve II C) I ve III

D) II ve III E) I, II ve III

18. İman kelime olarak; güven duyarak tasdik etmek, şüphe etmeden, gönül huzuruyla bağlanmak anlamına gelir. İslam dininde imanın kalp ile tasdik edilmesi (onaylanması) gerekir. Kalbin tereddüt duymadan inanması imanın gerçekleşmesi için en temel şarttır. Bir kimse mümin ve Müslüman olabilmek için Allah'tan (c.c.) başka ilah olmadığını ve Hz. Muhammed'in (s.a.v.) O'nun kulu ve elçisi olduğunu kalbiyle onaylamalıdır. Kalbiyle tasdik ettiğini diliyle ifade etmesi şart değildir. Ancak insani ilişkilerinde Müslüman muamelesi görebilmesi için Müslüman olduğunu dil ile ifade etmesi de önemlidir. Bir kimse diliyle iman ettiğini söylemesine rağmen kalbiyle bu söylemi onaylamazsa iman etmiş olmaz. Ancak kalben onayladığı hâlde, baskı altında olması gibi sebeplerle inandığını söyleyememesi o kimseyi mümin olmaktan çıkarmaz. Çünkü Allah (c.c.) insanların içinden geçeni de söylediklerini de bilmektedir. Kalpteki imanın dil ile söylenmesi, o kimsenin başkaları tarafından mümin olarak bilinmesi için gereklidir.

Bu parçadan aşağıdaki düşüncelerin hangisine ulaşılamaz?

A) İmanın esası kalp ile tasdiktir.

B) Allah, insanın neyi ne amaçla söylediğini bilir.

C) Müslüman, inancını amelleriyle desteklemelidir.

D) Dil ile ikrar sosyal ilişkiler açısından önem arz eder.

E) İmanın şüphe ve tereddütten arınmış olması gerekir.

19. İnsanların karakterlerinin oluşmasında çeşitli etkenler rol oynar. İslam kişiye kendisini yaratan ve yaşatan Yüce Allah'a (c.c.) karşı görev ve sorumluluklarının olduğunu, erdemli ve ahlaklı bir hayat yaşamanın gereğini, adaleti, merhameti, şefkati, iffeti, doğruluğu ve dürüstlüğü öğütler. Bunların bireysel ve toplumsal hayatta etkin olarak görülmesini ister. İnsanın tabiatına aykırı olan yalan söylemeyi, cana kıymayı, hırsızlık yapmayı, tembelliği, saygısızlığı, dedikoduyu, iftirayı yasaklar. Böylece kişinin mizacının oluşumuna ve bilinçli bir yaşam sürmesine katkı sağlamış olur.

Bu parçadan çıkarılabilecek en kapsamlı yargı aşağıdakilerden hangisidir?

A) Din, kişilik gelişimine etki eden önemli bir değerdir.

B) Ahlaki değerler sosyal huzurun temelini oluşturur.

C) İslam dini olumsuz tutum ve davranışları yasaklar.

D) İnsan, Allah katında yaptığı işlerle değer kazanır.

E) İnsan yaşadığı çevreden etkilenen bir varlıktır.

20. Üzerine gece karanlığı basınca bir yıldız gördü. "İşte Rabbim!" dedi. Yıldız batınca da, "Ben öyle batanları sevmem" dedi. Ay'ı doğarken görünce de, "İşte Rabbim!" dedi. Ay da batınca, "Andolsun ki, Rabbim bana doğru yolu göstermezse mutlaka ben de sapıklardan olurum" dedi. Güneş'i doğarken görünce de, "İşte benim Rabbim! Bu daha büyük" dedi. O da batınca (kavmine dönüp), "Ey kavmim! Ben sizin Allah'a ortak koştuğunuz şeylerden uzağım." dedi. "Ben hakka yönelen birisi olarak yüzümü, gökleri ve yeri yaratana döndürdüm. Ben Allah'a ortak koşanlardan değilim."

(En'âm; 76-79)

Hz. İbrahim'in gençlik dönemindeki tefekkürüne yer verilen bu ayetlerden hareketle aşağıdakilerden hangisini söylemek doğru olmaz?

A) Evrendeki işleyiş ile Allah'ın varlığı arasında ilişki kurmuştur.

B) Tevhid inancına sahip olduğunu bildirmektedir.

C) Allah'ın her türlü eksiklikten münezzeh olması gerektiğini düşünmektedir.

D) Aklının, doğru yolu bulması için tek başına yeterli olduğunu görmüştür.

E) Kavmini, yalnız Allah'a kulluk etmeye davet etmektedir.

BİLGİ SARMAL

Bu testte sırasıyla, Tarih (1 – 5), Coğrafya (6 – 10), Felsefe (11 – 15), Din Kültürü ve Ahlak Bilgisi (16 – 20) dersi olmak üzere toplam 20 soru vardır.

1.



TARİH HABER

Türk Dünyası 24.08.2022

TÜRK DÜNYASININ KONUŞTUĞU KEŞİF

Moğolistan'ın Ötüken bölgesinde bulunan, İkinci Kök Türk Devleti kurucusu İlteriş Kutlug Kağan'a ait olduğu belirtilen yazıt, Türk dünyasında büyük heyecan yarattı.

Moğolistan Arkeoloji Enstitüsü ve Uluslararası Türk Akademisi'nin yürüttüğü çalışmaların sonucunda bulunan yazıtın önemi hakkında Prof. Dr. Ali Akar, "Öncelikle İkinci Kök Türk Kağanlığı'nın yazılı kültürünün sadece elimizdeki bilgilerle sınırlı olmadığını, bunun çok daha eski zamanlara dayandığını görüyoruz. Şimdiye kadar Türklere ait ilk yazılı metinlerin VIII. yüzyıla ait olduğu bilinen Orhun Abideleri olduğu biliniyordu. Şimdi ise bir yüzyıl daha geri giderek Türklere ait ilk yazılı metinlerin VII. yüzyılda ortaya çıktığını söyleyebileceğiz." ifadelerini kullandı.

Bu gazete haberindeki bilgiler aşağıdaki yargılardan hangisinin kanıtı olarak gösterilebilir?

A) Kök Türkler, Asya Hun Devleti'nden önce devletlerini kurmuşlardır.

B) Yeni kaynakların bulunması mevcut tarihî bilgilerin değişmesine neden olabilir.

C) Antropoloji ve nümizmatik bilimi, yazıtların okunmasında tarih bilimine yardımcı olur.

D) Objektif tarih yazıcılığının temelleri, Orta Asya'da atılmıştır.

E) Türkler, Tarih Öncesi Dönemlerde yazılı kültür konusunda gelişmişlerdir.

2. Nizamü'l-Mülk, *Siyasetname* adlı ünlü eserinde şu ifadelere yer vermiştir: "Dergâhtan (saraydan) birçok mektuplar yazıyorlar; önemli bir iş olmadıkça saraydan bir şeyler yazmasınlar. Yazılan şey öyle etkili olmalıdır ki kimse ona el ve dil uzatmaya cesaret edememeli, verilen emirleri mutlaka yerine getirmelidir. Eğer bir kimsenin yüce divandan çıkan bir fermana hakaret ile baktığı, ona itaat etmekte gevşeklik ettiği anlaşılırsa o kişi sarayın yakınlarında da olsa şiddetle cezalandırılsın."

Buna göre Nizamü'l-Mülk'ün aşağıdakilerden hangisini savunduğu söylenebilir?

A) Devlet yönetiminde şeri esasların uygulanmasını

B) Veraset sisteminde değişikliğe gidilmesini

C) Halkın yönetime katılmasını

D) Hukuk sisteminin töreye dayandırılmasını

E) Devlet otoritesinin kanunlarla sağlanmasını

3. Kanuni Sultan Süleyman tarafından 1547 tarihinde Ferdinand'a bir Ahitname-i Hümayun verilmiştir. Bu ahitname, beş yıl süreyle geçerli olacak ve Habsburglar, Macaristan'da kendi hâkimiyetleri altında bulunan yerler karşılığında Osmanlı Devleti'ne her sene 30 bin altın gönderecektir. Ayrıca Eflâk, Boğdan ve Erdel Osmanlı toprağı olacak, Şarlken tarafından hiçbir şekilde Osmanlı topraklarına ve Kuzey Afrika sahillerine saldırı girişiminde bulunulmayacaktır.

Bu ahitname ile Kanuni Sultan Süleyman'ın aşağıdakilerden hangisini amaçladığı söylenemez?

A) Dış politikadaki nüfuzunu artırmak

B) Sınır güvenliğini sağlamak

C) Egemenlik alanını genişletmek

D) Balkanlardaki azınlık isyanlarını engellemek

E) Avrupa karşısında otoritesini güçlendirmek

BİLGİ SARMAL

4. Osmanlı Bahriye Nazırı Rauf Bey (Orbay) Mondros Mütarekesi ile ilgili; "Bu mütareke ile devletimizin istiklali, saltanatımızın hukuku tümüyle kurtarılmıştır. Bu mütareke; galip ile mağlup arasında yapılmış bir mütareke değil, savaş hâlinden çıkmak isteyen denk iki devletin aralarındaki düşmanlığı durdurmaları durumu gibi bir şeydir." demiştir.

Buna göre aşağıdakilerden hangisi Rauf Bey'in görüşlerinde yanıldığının göstergesidir?

A) ABD tarafından Wilson İlkeleri'nin yayımlanması
B) Osmanlı ordusunun Makedonya ve Galiçya'ya asker göndermesi
C) Anlaşma Devletleri'nin Anadolu'yu işgal etmeye başlaması
D) Almanya'nın Birinci Dünya Savaşı sonrası Versay Antlaşması'nı imzalaması
E) Rusya'nın Bolşevik İhtilali sonucunda savaştan ayrılması

5. **Atatürk,** "Bizim anlayışımıza göre siyasal kuvvet, millî irade ve egemenlik milletin bütün hâlinde ortak kişiliğine aittir; birdir, bölünemez, ayrılamaz ve başkasına bırakılamaz." **diyerek aşağıdaki inkılaplardan hangisinin temel gerekçesini açıklamıştır?**

A) Türk Tarih Kurumunun açılmasının
B) Kabotaj Kanunu'nun kabul edilmesinin
C) Tekke ve zaviyelerin kapatılmasının
D) Aşar vergisinin kaldırılmasının
E) Cumhuriyet'in ilanının

6. K ve L noktaları aynı meridyen üzerinde olmalarına karşın kış mevsiminde K noktasında Güneş L noktasından daha geç batmaktadır.

Bu durumun oluşum nedeniyle aşağıdakilerden hangisinin oluşum nedeni aynıdır?

A) Gece ve gündüzün ardalanması
B) Aydınlanma çemberinin yıl içerisinde yer değiştirmesi
C) Yerden yükseldikçe görüş alanının genişlemesi
D) Sürekli rüzgârların Kuzey Yarım Küre'de sağa sapması
E) Yer çekiminin Ekvator'dan kutup noktalarına gidildikçe artması

7. Aşağıda, Türkiye'deki bir il merkezinde bulunan meteoroloji istasyonuna ait aylık ortalama sıcaklık ve yağış grafiği verilmiştir.



Yalnızca grafikteki bilgiler dikkate alındığında aşağıdakilerden hangisi söylenemez?

A) Yağışlar kış döneminde kar şeklinde gerçekleşir.
B) Yaz ayları kurak geçmiştir.
C) Kış ayları en fazla yağışın düştüğü dönemdir.
D) Aylık sıcaklık ortalaması 30 °C'nin üzerine çıkmaz.
E) Aylar arasındaki en büyük yağış farkı 200 mm'den fazladır.

8. Aşağıdaki haritada bazı yerler numaralandırılarak gösterilmiştir.

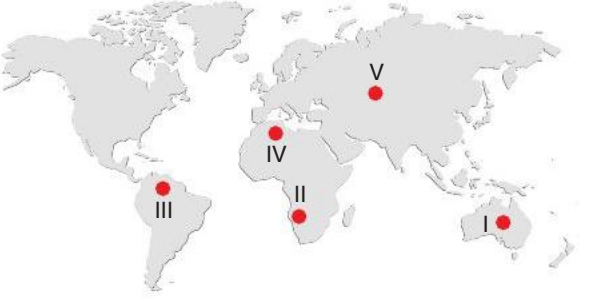

Numaralandırılan yerlerin hangisinin nüfusunun az olması diğerlerinden farklı doğal bir nedene bağlanabilir?

A) I B) II C) III D) IV E) V

BİLGİ SARMAL

9.



Almanya'nın Hamburg Limanı'ndan hareket eden bir petrol tanker gemisi Irak'ın Basra Limanı'na giderek petrol alacaktır.

Buna göre, bu geminin aşağıdaki boğaz ve kanalların hangisinden geçmesi beklenmez?

A) Malakka Boğazı
B) Cebelitarık Boğazı
C) Süveyş Kanalı
D) Hürmüz Boğazı
E) Babülmendep Boğazı

10. Kütle hareketlerinden olan heyelanlar; dünyanın birçok yerinde görülmeleri, büyük can ve mal kayıplarına yol açmaları ve yeryüzünde çok büyük değişikliklere neden olmaları bakımından ayrı bir öneme sahiptir.

Buna göre aşağıdakilerden hangisi heyelanların başlıca nedenleri arasında sayılmaz?

A) Toprağın suya doyması
B) Depremler ve volkanik faaliyetler
C) Yamaç dengesini bozan insan faaliyetleri
D) Tabakaların eğim doğrultusunda uzanması
E) Toprağın nadasa bırakılması

11. Antik Yunan toplumunu oluşturan üç büyük kabileden biri olan İyonyalılarda, denizcilik ve ticaretle geçimini sağlayan boş zamana sahip, zengin bir sınıf mevcuttu. Bu felsefenin gelişmesi için gerekli koşuldur. Bertrand Russell'ın söylediği gibi "Tembellik medeniyetin direğidir!" Boş karın ve işle dolu zamanda felsefe yapılmaz.

Bu parçada felsefenin varlığı aşağıdakilerden hangisine bağlanmıştır?

A) Kültürel etkileşime
B) Ekonomik zenginliğe
C) Merak eden insanların varlığına
D) Özgür düşünce ortamına
E) Bilimsel bilgi birikiminin artmasına

12. Michelangelo 1523 senesinde yazdığı bir mektupta Papa II. Julius'un kendisine Sistina Şapeli'nde "istediğini yapması"na izin verdiğinden söz ediyor. Buradaki "istediğini yapması", "istediği şeyin resminin yapılabileceği" anlamına gelmiyor, "bunun yerine … kendisine verilen temayı istediği tarzda işleyebileceği" anlamına geliyordu.

Bu durum aşağıdakilerden hangisiyle açıklanır?

A) Sanat, bazı süreçlerde baskı altına alınmıştır.
B) Sanata değer veren toplumlar ileri düzeyde olan toplumlardır.
C) Sanat, her dönemde yönetime muhalefet olmuştur.
D) Sanat, toplumdan beslenen bir etkinliktir.
E) Sanat, toplumsal sorunları dile getirmenin aracıdır.

BİLGİ SARMAL

13. Bir eseri veya belgeyi anlamak, onu izah etmek, yorumlamak insanın zihninde şekillenmiş olanın yeniden imal edilmesi ve üretilmesidir. Anlama ve yorumlama esnasında okunan metnin dilinin anlaşılırlığı ve sadeliği oldukça önemlidir. Okunan metnin dili ağır olursa okumayı gerçekleştiren kişi metni tam olarak anlayamaz ve metni doğru yorumlayamaz. Unutulmamalı ki anlamak ve yorumlayabilmek insanın en önemli özelliklerindedir. Doğada sadece insan anlar ve yorumlar.

Bu parçada felsefi metnin anlaşılmasında aşağıdakilerden hangisinin öneminden söz edilmiştir?

A) Metnin bütünlük içerisinde değerlendirilmesinin
B) Metni yazan filozofun hayatının bilinmesinin
C) Metnin dilinin basit ve açık olmasının
D) Metnin yazıldığı kültürel bağlamdan kopuk değerlendirilmemesinin
E) Metnin günlük yaşama etkisinin görülmesinin

14. Spinoza'ya göre insan; tutku ve düşünce ikilemi içerisinde yaşar. Tutkular, ruhun bulanık ve karışık yönünü oluşturur. Tutkular içerisindeki insan bir köledir. Düşünce durumunda ise özgürdür. Özgürlük erdemdir. Ahlakın amacı da insanın düşünce ile tutkularını yenmesidir. Ahlaki hayat, aklın tutkulara karşı savaşıdır, insanı tutkuların kölesi olmaktan kurtarıp, onu özgür kılmaktır.

Spinoza'ya göre, insanın özgür olması aşağıdakilerden hangisine bağlıdır?

A) Tanrısal iradeye boyun eğmesine
B) Toplumsal baskının ortadan kaldırılmasına
C) İnsanın kendisine sözünün geçmesine
D) Davranışlarının nedenlerini bilmesine
E) Tutku ve hazların doyurulmasına

15. Platon'a göre görünüşler alemi biz ölümlülerin içerisinde yaşadığı sürekli bir değişim hâlinde bulunan, gölge âlem de diyebileceğimiz bir alemdir. Oysa ki gerçek âlem öncesiz ve sonsuz olan, değişmeyen, ideal varlıkların âlemidir. İdealar, görünüşler (ya da oluş) alemindeki tüm varlıkların öncesiz, sonrasız örnekleridir. Görünüşler âlemindeki her "cins"in, idealar âleminde bir "idea"sı vardır. Ve her cins kendi ideasından pay aldıkça varlığa gelmektedir.

Platon'un bu görüşleri Orta Çağ felsefesindeki hangi yaklaşımın ortaya çıkmasına olanak sağlamıştır?

A) Kavram realizmi
B) Nominalizm
C) Konseptüalizm
D) Empirizm
E) Nihilizm

16. Samimiyet, ibadetteki olmazsa olmaz ilkelerden biridir. İslam dininde ibadetin samimiyetle, gönülden inanarak, dünyaya ait bir menfaat beklemeden sırf Allah (c.c.) için yapılması gerekir. Kur'an-ı Kerim'de "Rabb'inin adını an ve bütün benliğinle ona yönel." (Müzzemmil; 8) buyrularak ibadette samimiyetin önemine dikkat çekilmiştir. Kişinin samimiyetten uzak, Allah'ın (c.c.) huzurunda olduğunu unutarak yaptığı ibadetler Allah katında gerekli değeri ifade etmez. Kur'an-ı Kerim'de ibadetlerini içtenlikle yapan kimseler övülerek ancak bu bilinçle hareket edenlerin kurtuluşa ereceği bildirilir.

Bu parçada ön plana çıkan kavram aşağıdakilerden hangisidir?

A) İhlas
B) Tasdik
C) Mübah
D) Takrir
E) Tevekkül

BİLGİ SARMAL

17. Mahiyetleri farklı olsa da iman ve bilginin ortak alan ve özellikleri vardır. Bu nedenle iman ve bilgi birbirlerinden etkilenmekte, çoğu kez ayrılmaz bir birlikteliğe sahip olmaktadırlar. Bu bakımdan birer insan eylemi olan iman ve bilgi, birbirini besleyen iki kaynak konumundadır. Zira çoğunlukla insan, inanmak için bilgiye; bilgiye ulaşmak için de imana ihtiyaç duyar. Çünkü; hakkında hiçbir bilgiye sahip olmadığımız bir şeye inanmamız söz konusu olmadığı gibi, henüz bir ön kabul aşamasına gelmemiş bir problemi araştırıp bilgilenme ihtiyacı içinde olmak da söz konusu değildir.

Bu parçadan hareketle aşağıdakilerden hangisine ulaşılamaz?

A) İnancın, bilgi ile birlikte anlaşılabilir bir temelinin olduğuna

B) İnsanın içinde inancını araştırma güdüsünün olduğuna

C) İnsanın, merak eden ve merakını gidermeye çalışan bir varlık olduğuna

D) İnanılan tek gerçekliğin bilimin söylediği veya görebildiği olduğuna

E) İnsanın, inanmak istediği verileri aklıyla işleyip değerlendirerek bilgiyi ürettiğine

18. Habeşistan'a hicret eden Müslümanların başında bulunan Cafer b. Ebi Talib'in, Habeş Kralı Necaşi'ye hitaben yaptığı konuşmanın bir bölümü şöyledir: "Ey hükümdar! Biz yolunu şaşırmış bir kavimdik. Ağaçtan ve taştan yapılmış putlara tapar, onlardan yardım umardık. Biz bu hâlde iken Allah (c.c.), bizim içimizden asil soylu, doğru, güvenilir, iffetli olarak bildiğimiz birini peygamber olarak gönderdi. O, bizi bir olan Allah'a (c.c.) inanmaya ve yalnızca O'na ibadet etmeye çağırdı. Atalarımızdan miras kalan putlara tapmaktan bizleri kurtardı. Doğru söylemeyi, akrabalarla iyi ilişkiler kurmayı, komşuları gözetmeyi emretti. Kan dökmeyi, yalancı şahitlik yapmayı, yetim malı yemeyi ve namuslu kişilere iftira etmeyi ise yasakladı."

Bu parça aşağıdaki kavramlardan hangisiyle ilişkilendirilemez?

A) Tevhid

B) Asabiyet

C) Emanet

D) Sıla-i Rahim

E) Şirk

BİLGİ SARMAL

19. Düşüncede kalan ve uygulamaya aktarılmayan bir inanç meyvesiz bir ağaca benzer. Allah'a (c.c.) inanmanın meyve vermesi, imanın insan hayatında kendisini göstermesi demektir. Allah (c.c.) inancı insanların kalplerine yerleşip güçlenince onların davranışlarını etkiler. İnanan insanlar Allah'a (c.c.) karşı kulluk görevlerini yerine getirmeye çalıştıkları gibi insanlık için de daima faydalı olmaya gayret ederler. Allah'a (c.c.) inanmak kuru bir söz değildir. İslam dini, hayatın içinde kendini gösteren bir inancı değerli görmüştür. İslam; dinin temel hükümlerine inanılmasını, hükümlerinin uygulamaya konulmasını ve hayata yansımasını ister. Bu durum, dinin yaşanması bakımından önemli olduğu gibi imanın korunması bakımından da gereklidir.

Bu parçadan aşağıdaki yargıların hangisine ulaşılamaz?

A) İman ile amel arasında kuvvetli bir ilişki vardır.

B) İnanan insandan ahlaki ilkelere uygun davranışlar göstermesi beklenir.

C) İslamın inanç esasları insanlara vahiy yoluyla bildirilmiştir.

D) İslam'a göre iman, yaşamın her alanında kendini hissettirmelidir.

E) İbadetlere özen göstermek imanın güçlenmesini ve korunmasını sağlar.

20. "Kullarım sana beni sorduğunda (söyle onlara): Ben çok yakınım. Bana dua ettiği vakit dua edenin dileğine cevap veririm. O hâlde (kullarım da) benim davetime uysunlar ve bana inansınlar ki doğru yolu bulsunlar."

(Bakara; 186)

Bu ayetten,

I. Dua, tüm ibadetlerin özünde yer alır.

II. Allah (c.c.) ile kul arasında aracıya ihtiyaç yoktur.

III. Allah (c.c.) kendisine yapılan duaları karşılıksız bırakmaz.

sonuçlarından hangileri çıkarılabilir?

A) I ve II B) I ve III C) II ve III

D) Yalnız III E) I, II ve III

BİLGİ SARMAL

Bu testte sırasıyla, Tarih (1 – 5), Coğrafya (6 – 10), Felsefe (11 – 15), Din Kültürü ve Ahlak Bilgisi (16 – 20) dersi olmak üzere toplam 20 soru vardır.

1. **Ezgi:** Kut anlayışı ilahi bir kavramdır. Kağan, Tanrı istediği ve kendisine kut verildiği için hükümdardır. Ancak onun yöneticiliği kalıcı değildir. Tanrı'nın verdiği yetki yine onun tarafından alınabilir.

Mehmet: Kağanın devleti yönetmeye devam edebilmesi için üzerine düşen görevleri yerine getirmesi gerekir. Bu nedenle Türklerde kağanların tahta çıkarak icraatlarını gerçekleştirememesi veya herhangi bir sebeple devletin dağılması gibi olaylar, kağanın "kut"u hak etmediğinin göstergesi olarak anlaşılmıştır.

Diyalogda verilenler dikkate alındığında aşağıdakilerden hangisi hükümdarın "kut"**u hak etmediğinin göstergesidir?**

A) Bilge Kağan'ın kendisine karşı gelen boyların isyanını bastırması ve devletin birliğini sağlaması

B) Uygurların Bögü Kağan Dönemi'nde Manihaizm dinini kabul etmesi

C) II. Kök Türk Devleti'nde İnel'in kağanlığının yetersiz bulunarak kurultay kararı ile tahttan indirilmesi

D) Bumin Kağan'ın İl Kağan ünvanını alarak ülkenin batı kısmının idaresini kardeşi İstemi Yabgu'ya vermesi

E) Mete Han'ın Türkçe konuşan ve Türk soyundan olan toplulukları ilk kez Hun hâkimiyeti altına alması

2. (I) Divân-ı Hümâyun, merkez teşkilatının en önemli kurumu olup Orhan Bey zamanında kuruldu. (II) Divan-ı Hümayun, Danıştay, Yargıtay ve Anayasa Mahkemesi gibi çalışan bir meclisti. (III) Ayrıca padişahın yetkisinde bulunan yasama, yürütme ve yargı güçlerinin uygulama aracıydı. (IV) Padişahlar halifelik ünvanı taşımalarına rağmen, divanda karar alınacağı zaman gerekli durumlarda şeyhülislama danışırlardı. (V) Divanda alınan kararlar padişahın onayından sonra mühimme defterine (Divan kayıtlarının tutulduğu defter) kaydedilerek kanunlaşır ve yürürlüğe girerdi.

Parçada yer alan numaralanmış cümlelerin hangisi Osmanlı Devleti'nin teokratik bir yönetim anlayışına sahip olduğunun kanıtıdır?

A) I B) II C) III D) IV E) V

3. Tanzimat Fermanı, XIX. yüzyıldan itibaren yaşanan birtakım sorunların çözüme kavuşturulması amacıyla 1839 tarihinde ilan edilmiştir. Tanzimat Fermanı'nda geçen "eski idare usulünü tamamen değiştiren bu iradenin dost devletlere duyurulması" ifadesi Osmanlı Devleti'nin, Mısır Meselesi'nin görüşüleceği Londra Konferansı'ndan önce Avrupalı devletlerin desteğini kazanma arzusunun olduğunu göstermiştir.

Bu bilgilere göre Osmanlı Devleti ile ilgili aşağıdakilerden hangisi söylenebilir?

A) Islahatların gerçekleştirilmesinde Avrupalı devletlerin desteği alınmıştır.

B) Dış politikadaki birtakım gelişmeler, iç siyaset üzerinde etkili olmuştur.

C) Mısır Meselesi, Osmanlı Devleti'nin lehine çözüme kavuşmuştur.

D) Fransız İhtilali'nin etkileri ekonomik alanda kendini göstermiştir.

E) Azınlık isyanları, Osmanlı demokratikleşme hareketlerini hızlandırmıştır.

BİLGİ SARMAL

4. Mustafa Kemal, son Osmanlı Mebusan Meclisi'nin kapatılması üzerine: "...Osmanlı ulusunun siyasal egemenliğine ve özgürlüğüne indirilen bu son yumruk biz Osmanlılardan çok, yirminci yüzyılın uygarlık ve insanlığının kutsal saydığı bütün ilkelere; özgürlük, yurt ve ulus duygusu gibi bugünün insan topluluklarının temeli olan bütün ilkelere ve insanlığın genel vicdanına indirilmiş demektir." ifadelerini kullanmıştır.

Buna göre, Mustafa Kemal'in aşağıdakilerden hangisine tepki gösterdiği savunulabilir?

A) Sevr Antlaşması hükümlerinin uygulanmasına
B) Millî egemenlik ilkesinin yok sayılmasına
C) Saltanat yönetiminin devam etmesine
D) Manda himaye anlayışının kabul edilmesine
E) Osmanlıcılık fikrinin sona erdirilmesine

5.



1939 tarihine ait bu görsel, aşağıdakilerden hangisine kanıt olarak gösterilebilir?

A) Anadolu'daki Türk ve Müslüman nüfus azalmıştır.
B) Türkiye ve Suriye arasındaki ilişkiler düzelmiştir.
C) Hatay'ın anavatana katılması, Atatürk Dönemi'nde resmiyet kazanmıştır.
D) Türkiye Cumhuriyeti, savaşçı bir dış politika anlayışını benimsemiştir.
E) Misak-ı Millî doğrultusunda önemli bir adım atılmıştır.

6. Mehmet Bey, katıldığı bir tatil çekilişinin sonucunu cep telefonuna kısa mesaj olarak geldiğini görür. Mesajda, "Gündüzünüzü en uzun şekilde yaşayacağınız bir yerde iki gece bir gündüz tatil kazandınız, gideceğiniz şehrin enlem ve boylam dereceleri size daha sonra kısa mesaj olarak yollanacaktır." yazmaktadır.

Mehmet Bey'in tatile gideceği tarih 21 Haziran olduğuna göre, tatilini geçireceği yerin enlem ve boylam dereceleri aşağıdakilerden hangisi olabilir?

A) 41° Kuzey 29° Doğu
B) 5° Kuzey 30° Doğu
C) 55° Güney 75° Batı
D) 25° Güney 15° Doğu
E) 25° Kuzey 75° Doğu

BİLGİ SARMAL

7. I. Oluştukları kayacın dayanıklı olması
II. Nemli iklim bölgelerinde görülmeleri
III. Bitki örtülerinin zayıf olması

Yukarıdakilerden hangileri, peribacası ile kırgıbayırların geliştiği alanların ortak özelliği arasında gösterilemez?

A) Yalnız I B) Yalnız II C) I ve II
D) I ve III E) II ve III

8. I. Genellikle suyun az olduğu ya da hafif engebeli alanlarda kurulan yerleşmelere ülkemizin iç ve güneydoğu kesimlerinde rastlanır.
II. Meskenlerin sıra hâlinde bulunduğu yerleşmelere Doğu Karadeniz'in yüksek kesimlerinde rastlanır.
III. Yerleşmeler bulundukları arazinin özellikleri, yürütülen ekonomik faaliyetler ve kültürel özelliklere bağlı olarak çeşitli geometrik şekillere sahip olabilir.

Yukarıdakilerden hangileri Türkiye'deki kırsal alanlardaki yerleşmelerin doku ve şekil özellikleri arasında gösterilemez?

A) Yalnız I B) Yalnız II C) Yalnız III
D) I ve II E) II ve III

9.



Yukarıdaki haritada taranarak gösterilen alanlar aşağıdaki bölge türlerinden hangisine örnek gösterilebilir?

A) Endüstri bölgesi
B) Sık nüfuslu bölge
C) Çöl bölgesi
D) Dağlık bölge
E) Orman bölgesi

10. Büyük orman yangınlarıyla ilgili yapılan birçok araştırma, iklim değişikliğinin ve artan sıcaklıkların etkisine dikkat çekerek yangın ve iklim arasındaki ilişkiyi ele almıştır. Araştırmalar, iklim değişikliğiyle birlikte artan atmosferik kararsızlık, sıcaklığın yükselmesi, kuraklığın artması, sürekli olan sıcaklık dalgaları gibi meteorolojik ve iklimsel koşulların yangınların sayısında artışlara neden olduğunu göstermiştir.

Buna göre;

I. sıcaklığın yüksek olması,
II. bağıl nemin düşük olması,
III. rüzgârın şiddetli olması

durumlarından hangileri orman yangınlarının nedenlerindendir?

A) Yalnız I B) Yalnız II C) I ve II
D) II ve III E) I, II ve III

11. Felsefenin belirli bir vatanı olduğu düşünülür, coğrafyaların renginin düşünceleri boyadığına inanılır. Oysa Doğu ve Batı gibi geniş ve çoğunlukla ideolojik karşıtlıklar ortaya çıkaran ayrımlar felsefede birbirinden ayrılmayacak kadar iç içe girmiştir.

Bu parçada felsefenin hangi yönü vurgulanmıştır?

A) Refleksif olma
B) Yığılımlı ilerleme
C) Eleştirel olma
D) Evrensel olma
E) Şüphe duyma

BİLGİ SARMAL

12. Mikroskobun öncelikle, kılcal damarların incelenerek kan dolaşımının keşfedilmesinde, hücrenin ve yapısının anlaşılmasında belirleyici rolü oldu. Mikroskobun teknolojik gücünün gelişimine de bağlı olarak, özellikle biyolojide ve kimyada önemli bilimsel adımlar atıldı. Kısmen evrim kuramını da genetik kuramını da mikroskoba, elektron mikroskobuna ve spektrum analizine borçluyuz.

Bu parçada vurgulanan düşünce aşağıdakilerden hangisidir?

A) Teknolojik gelişmeler, teorik bilimsel çalışmaları yönlendirir.

B) Teknoloji, insanın yaşamını tehlikeye atmıştır.

C) Bilimin teknolojik boyutu, araştırma boyutunun önüne geçmiştir.

D) Her bilimsel çalışma teknoloji ile taçlanmak zorundadır.

E) Teknoloji sayesinde insan her bilinmeyeni açığa çıkaracaktır.

13. Devletten arındırılarak oluşturulan bir toplum içinde gereksiz mal ve hizmet üretimine ihtiyaç olmayacağından bireyler günümüzdeki gibi çok fazla çalışmak zorunda kalmayacak ve çalışma zamanla zevk için yapılan bir eylem hâline dönüşecektir. Böylesine bir toplumsal dönüşüm için ise şiddete başvurmak gerekmez. Yalnızca aklın gücüne inanan insanların diğer kişilere bu durumu açıklamaları yeterli olacaktır.

Bu parçada aşağıdakilerden hangisi savunulmaktadır?

A) Güçlü bir devlet otoritesi toplumsal düzenin güvencesidir.

B) Toplumda mal ve hizmet üretimini devlet düzenlemelidir.

C) Devlet ve onun insan doğasına uygun olmayan düzenlemeleri ortadan kaldırılmalıdır.

D) Toplumsal düzenin devamı özel mülkiyetin korunmasına bağlıdır.

E) İnsan doğasının bencilliği toplumsal karmaşaya neden olur.

14. Duyularla elde edilen verilere güvenilmeyeceği gibi aklın da insanı yanılttığı durumlar vardır. Akla dayanan ve birbiriyle çelişen felsefe sistemlerinin çokluğu bunun kanıtı sayılabilir. Oysa görüntülerin gerisindeki gerçeklik ise ancak sezgi ile kavranabilir. Sezgi, hayatı içsel anlamadır yani bireyin öznel yaşantısında hissettiğidir. Soyut olan ve dolayısıyla duyular tarafından erişilemeyen bir şeyle doğrudan temas kurmasını sağlar.

Bu parçada savunulan görüşler aşağıdaki yaklaşımlardan hangisi ile ifade edilir?

A) Rasyonalizm

B) Empirizm

C) Septisizm

D) Entüisyonizm

E) Kritisizm

15. "... Her varlık görünüş, her görünüş aynı zamanda varlıktır. Onlar adeta aynı özün birbirlerini tamamlayan iki manzarasıdır. Bize bir açıdan görünüş gibi gelen her şey, aslında varlığın bir manzarası, yani varlığın kendisidir."

Bu parçada savunulan düşünce aşağıdakilerden hangisidir?

A) Varlıkta görünüş ve öz ayrımını yapmak doğru değildir.

B) Varlıkta belirleyici olan özdür.

C) Görünüş yok olsa bile öz yok olmaz.

D) Varlıkta önce görünüş sonra öz gelir.

E) Değişen varlığın özü de değişir.

16. "Hiç kimse başka bir kimseyi fasıklıkla suçlamasın ve onu küfürle itham etmesin. Eğer itham ettiği kimse dediği gibi değilse, bu sıfatlar muhakkak itham edene döner."

(Buhari, Edeb, 44.)

Bu hadis İslam ahlakında yerilen tutum ve davranışlardan hangisiyle doğrudan ilişkilidir?

A) Kibir B) İftira C) Haset D) Gıybet E) Tecessüs

17. (I) Değer, bir milletin sahip olduğu sosyal, kültürel, ekonomik, bilimsel alanlardaki ögelerin bütününü ifade eder. (II) Maddi ve manevi olarak sınıflandırılabilir. (III) Maddi değerler; binalar, giysiler, araç-gereçler gibi bir toplumun kültürel, tarihî ve bilimsel ürünlerini içerir. (IV) Manevi değerler ise; bir toplumun gelenek, örf, adet ve inançları; duygu, düşünce ve davranışlarıdır. (V) Tarihî camiler gibi kültürümüzün bazı ögeleri ise hem maddi hem de manevi değerleri bünyesinde barındıran eserlerdir.

Bu parçada aşağıdakilerden hangisine değinilmemiştir?

A) Değerlerin kapsamına
B) Değerlerin çeşitlerine
C) Değerlerin örneklerine
D) Değerlerin kaynağına
E) Değerlerin değişebilirliğine

18. İnsan sosyal bir varlıktır. Toplum içinde huzurlu yaşamak için insanlar arasındaki ilişkileri düzenleyen bazı kurallara ihtiyaç vardır. Tarih boyunca birçok toplum, medeniyet gelip geçmiştir. Her toplumun insan ilişkilerini düzenlemek için yazılı veya yazısız bazı kuralları vardır. Bu kural ve ilkeler toplum düzenini sağlamada belirleyici olmuştur.

Bu parçadan hareketle;

I. Din
II. Örf, adet ve gelenekler
III. Hukuk

kavramlarından hangilerinin toplum düzenini belirlemede etkili olduğu söylenebilir?

A) Yalnız I B) I ve II C) II ve III
D) I ve III E) I, II ve III

19. İslam dini; Allah'ın varlığı, birliği, nübüvvet, ahiret gibi temel inanç esasları üzerine kuruludur. Allah'ın yeryüzüne gönderdiği tüm peygamberler insanları bu esasları kabule davet etmişlerdir. Hz. Âdem ile başlayan bu ilahi rehberlik Hz. Muhammed ile son şeklini almıştır. Bu sebeple tüm peygamberlerin İslam ve tevhid inancının davetçileri olduğu söylenebilir. Peygamberler, Allah'tan başka ilah olmadığı inancını bireysel ve toplumsal hayata yerleştirmeyi hedeflemişlerdir. Bu hedef aynı zamanda insan için dünya ve ahiret mutluluğunun da kaynağıdır. İnsanlık, tarih içerisinde ne zaman bu hedeften sapmışsa Yüce Allah bir peygamber göndermiş ve doğru yolu tekrar tekrar insanların önüne sunmuştur.

Bu parçada peygamberlerin hangi yönünden söz edilmiştir?

A) Tevazu sahibi olmaları
B) Teşri yapmaları
C) Günahsız olmaları
D) Fetânetli olmaları
E) Tebliğ edici olmaları

20. Hz. Muhammed'in (s.a.v.), dünyaya gelmeden önce babası, altı yaşında iken annesi, sekiz yaşında iken de dedesi vefat etmiştir. Daha çok küçük yaşlardayken büyük acılar yaşayan Hz. Muhammed (s.a.v.) hiçbir zaman hayata küsüp isyan etmemiştir. Dedesinin vasiyetiyle amcası Ebû Talib'in himayesinde yaşamaya başlamıştır. Ebû Talib ve ailesinin yakın ilgisine rağmen, ev işlerinde görev üstlenmiş, kendisine verilen işleri hakkıyla yerine getirmiş, amcasına ve yengesine saygıda kusur etmemiştir. Her daim alçakgönüllü olmuş, kimseyi kırmamaya özen göstermiştir. Ayrıca Hz. Muhammed (s.a.v.) zaman zaman çobanlık yapmak zaman zaman da ticaretle uğraşan amcasına yardım etmek suretiyle evin dışındaki işlerde de ailesinin yükünü hafifletmek için elinden geleni yapmıştır.

Hz. Muhammed'in bu özellikleri aşağıdaki ahlaki kavramlardan hangisiyle ilişkilendirilemez?

A) Sabır
B) Tevazu
C) Cömertlik
D) Yardımlaşma
E) Sorumluluk

BİLGİ SARMAL

Bu testte sırasıyla, Tarih (1 – 5), Coğrafya (6 – 10), Felsefe (11 – 15), Din Kültürü ve Ahlak Bilgisi (16 – 20) dersi olmak üzere toplam 20 soru vardır.

1. Moğolistan'da yapılan kazılarda Hunlara ait surlarla çevrili şehir kalıntıları bulunmuştur. Bu kalıntılar arasında en meşhur olanı "İvolga" şehridir. Hun şehirleri arasında önemli bir yere sahip olan İvolga, özgün Hun kent savunma sisteminin de en güçlü örneklerinden biri olarak kabul edilir.

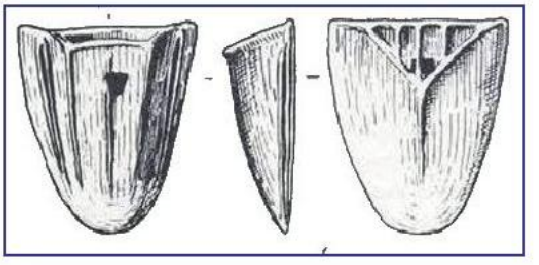

İvolga yakınlarında bulunan metal tarım aletleri

Bu bilgilere göre, İvolga'da yaşayan Hunlarla ilgili aşağıdakilerden hangisine ulaşılabilir?

A) Üretici toplum özelliği gösterirler.

B) Savaşçı özelliklerini kaybetmişlerdir.

C) Çok tanrılı bir din anlayışına sahiptirler.

D) Çin ve Bizans ile ticari ilişkiler kurmuşlardır.

E) Demokratik bir siyasi yapı ile yönetilmişlerdir.

2. Osmanlı Devleti'nde tımar sistemi uygulanırken Avrupa krallıklarında derebeylik sistemi bulunmaktaydı. Tımar ile derebeylik arasında büyük farklılıklar vardı. Feodaller toprağın gelirini almakla birlikte idari, hukuki ve mali bağımsızlığa sahipti ve kralın bunları azletme yetkisi yoktu. Ayrıca bulundukları yerde halkı kendi malı olarak görürlerdi. Tımar sisteminde ise tımar sahibi kendisine tahsis edilen topraklarda kiracı durumunda olup elindeki arazinin değil, belli görevleri yerine getirmek karşılığında buralardan toplanan ürün vergisinin sahibiydi.

Bu bilgilere göre,

I. Avrupa'daki merkezî otorite, Osmanlı Devleti'ne göre güçlü değildir.

II. Tımar sisteminin oluşturulmasında feodalite örnek alınmıştır.

III. Osmanlı Devleti'nin tımar sistemini uygulaması ticari faaliyetleri olumsuz etkilemiştir.

yargılarından hangilerine ulaşılabilir?

A) Yalnız I B) Yalnız II C) I ve II

D) I ve III E) II ve III

3.

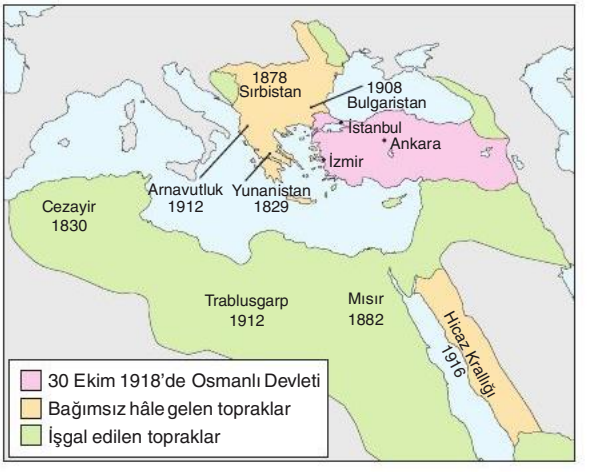

Osmanlı Devleti'nin XIX. yüzyıldan yıkılışa kadar yaşadığı toprak kayıpları

Haritada verilenler ile aşağıdaki yargılardan hangisinin birbirini desteklediği söylenemez?

A) Osmanlı Devleti, siyasi ve askerî alanda başarılı bir süreç izleyememiştir.

B) Kuzey Afrika ve Akdeniz'deki Osmanlı egemenliği giderek sona ermiştir.

C) Kendi devletini kuran ilk Balkan milleti Yunanlılardır.

D) Osmanlı padişahları halifelik makamının nüfuzunu etkili bir şekilde kullanmıştır.

E) Osmanlı Devleti çok uluslu devlet olma özelliğini giderek kaybetmiştir.

4. 4 Eylül 1919 tarihinde toplanan Sivas Kongresi, 11 Eylül'de çalışmalarını tamamladı. Erzurum Kongresi'nde alınan bazı kararlar genişletilerek kabul edildi. Ülkedeki bütün millî cemiyetler, Anadolu ve Rumeli Müdafaa-i Hukuk Cemiyeti adı altında birleştirildi. Batı Anadolu Kuvay-ı Millîye Birlikleri komutanlığına Ali Fuat Paşa atandı. Ayrıca ulusal direnişin sesini duyuracak olan İrade-i Millîye adında bir gazete çıkarılmasına karar verildi.

Bu bilgilere göre Sivas Kongresi'nde aşağıdakilerden hangisinin amaçlandığı söylenebilir?

A) Mebusan Meclisinin toplanmasını engellemek

B) İstanbul Hükûmeti ile iletişimi kesmek

C) Millî Mücadele'yi merkezileştirmek

D) Rejim değişikliğini gerçekleştirmek

E) Sevr Antlaşması'nı geçersiz kılmak

BİLGİ SARMAL

Diğer Sayfaya Geçiniz.

5. Mustafa Kemal Paşa, 1924 tarihli Meclis açılış konuşmasında şunları söylemiştir: "En önemli nokta, adalet telakkimizi, kanunlarımızı, adli örgütümüzü asrın icaplarına aykırı bağlardan kurtarmaktır… Millet seri ve kati adaleti temin eden, medeni, akla ve mantığa dayalı usuller istiyor… Medeni hukukta, aile hukukunda takip edeceğimiz yol ancak medeniyet yolu olacaktır."

Mustafa Kemal'in bu ifadeleri hukuk alanında;

I. halkçılık,
II. inkılapçılık,
III. laiklik

ilkelerinden hangileri doğrultusunda hareket edileceğinin kanıtı olarak gösterilebilir?

A) Yalnız I B) Yalnız II C) I ve II
D) I ve III E) I, II ve III

6. İzmir'den hareket eden bir araştırma grubu Güzel Atlar Diyarı Kapadokya bölgesine gidip, bölgenin en yüksek üç noktasından biri olan Uçhisar Kalesi'nden önce geniş bir alanı taramışlar. Daha sonra bölgedeki benzerine çok az rastlanan doğa harikası peribacalarını incelemek üzere Güvercinlik Vadisi'ne inmişlerdir.

Buna göre, araştırma gurubu incelemelerini yaparken coğrafyanın aşağıdaki alt dallarının hangisinden yaralanır?

A) Klimatoloji B) Hidrografya C) Kartografya
D) Biyocoğrafya E) Jeomorfoloji

7. Aşağıdaki haritada bazı deltalar numaralandırılarak gösterilmiştir.



Numaralandırılan deltaları oluşturan akarsular, aşağıdakilerden hangisinde doğru eşleştirilmiştir?

	I	II	III
A)	Kızılırmak	Yeşilırmak	Seyhan-Ceyhan
B)	Yeşilırmak	Kızılırmak	Seyhan-Ceyhan
C)	Fırat	Sakarya	Asi
D)	Kızılırmak	Gediz	Dicle
E)	Çoruh	Filyos	Büyük Menderes

8. TÜİK'in oluşturduğu Temmuz 2023 verilere göre Türkiye'nin nüfusu 85 milyon 279 bin 533 kişi olmuştur. Bir önceki yılda Türkiye nüfusu 84 milyon 680 bin 273 kişiydi. 2023 Temmuz ayı itibari ile 599 bin 260 kişilik bir nüfus artışı olmuştur.

Nüfus sayımı sonucunda, nüfus artışıyla birlikte aşağıdaki bilgilerden hangisine de ulaşıldığı söylenemez?

A) Nüfusun yaş gruplarına dağılımı
B) Konutların mimari özelliği
C) Erkek ve kadın nüfus oranı
D) Şehir ve kır nüfusunun dağılımı
E) Aktif nüfusun sektörel dağılım

BİLGİ SARMAL

9. Mekânı; amaca göre sınıflandırıp, sınırlandırarak çeşitli bölge türleri ayırt edilebilir. Bunlardan biri de hizmetlerin insanlara ulaştırılması ve mekânsal organizasyonun etkili olması amacıyla oluşturulan, belirli bir merkezden yönetilen işlevsel bölgelerdir.

Aşağıdakilerden hangisi sözü edilen bu bölgeye örnek gösterilebilir?

A) Himalaya dağlık bölgesi
B) Ekvatoral iklim bölgesi
C) Nil Havzası bölgesi
D) Karadeniz Ekonomik İşbirliği bölgesi
E) Tayga bitki örtüsü bölgesi

10. Aşağıdaki haritada bazı alanlar numaralandırılarak gösterilmiştir.

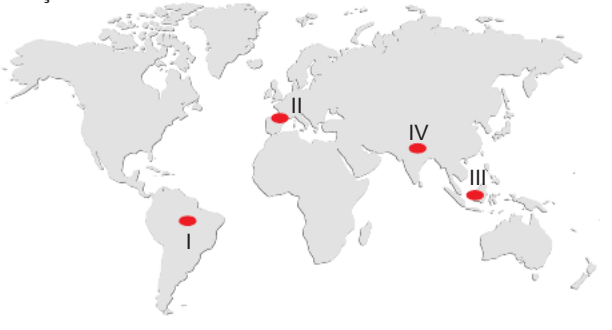

Yeryüzü şekilleri ve iklim özellikleri göz önüne alındığında, numaralı alanların hangilerinde çığ görülür?

A) I ve II B) I ve III C) II ve III
D) II ve IV E) III ve IV

11. Herhangi bir insanın, hatta bir bilim insanının algılanan, kavranan, kanıtlanan şeylerle genellikle yetindiği yerde, onlar hakkında düşünmek, soru sormak, yani onları problem hâline getirmek felsefenin özel yazgısı ve ödevidir.

Bu parçada felsefenin hangi özelliği vurgulanmıştır?

A) Sürekli bir sorgulama faaliyeti olması
B) Sistemli olması
C) Kendi içinde tutarlı olması
D) Evrensel olması
E) Topluma ışık tutması

12. Yaptıkları araştırma aynı paradigma üzerine kurulu olan insanlar bilimsel uygulamada aynı kurallara ve ölçütlere bağlıdırlar. Bu bağlılık ve bunun sonucu ortaya çıkan fikir birliği, olağan bilimin, yani bir başka deyişle, belirli bir araştırma geleneğinin doğması ve süregitmesinin ön koşuludur.

Bu parçada paradigmanın hangi yönü vurgulanmıştır?

A) Bilim insanları arasında ortak görüşler oluşturması
B) Bilimin pratik değerini artırması
C) Değişme ve gelişmeye açık olması
D) Kendi içinde tutarlı olması
E) Bilim etiğinin ortaya çıkmasına neden olması

BİLGİ SARMAL

13. Rousseau, insanın doğa durumunda özgür ve eşit yaşarken etrafında bulunan bir toprak parçasının kendine ait olduğunu kabul ettikten sonra, bu doğa durumunun sona erdiğini belirtir. Rousseau, bu durumu şöyle açıklar: "Bir toprak parçasının etrafını çitle çevirip 'bu bana aittir.' diyebilen, buna inanacak kadar saf insanlar bulabilen ilk insan, uygar toplumun kurucusu oldu. Bu durum doğa durumundaki eşitliği ortadan kaldırarak insanları birlikte eşit yaşamaya zorlayan bir sözleşmeye itmiştir."

Rousseau'ya göre uygar toplumun var olma nedeni aşağıdakilerden hangisidir?

A) İnsanın her yönden kendini geliştirmesi
B) Özel mülkiyetin ortaya çıkması
C) İnsanın ahlaki yönden zayıf olması
D) Bilim ve teknolojinin üst düzey gelişim göstermesi
E) Toplumsal yaşamın insan doğasına uygun olması

14. Aristoteles'e göre; algıyı doğuran nesnelerin, algıdan bağımsız olmaları gerekir. Varlık, algıdan ibaret olmayıp aksine var olduğu için algılanır. O hâlde algılarımız, algılarımızın konusu olan ve ondan bağımsız olan nesnel, gerçek bir dünyaya işaret ederler.

Aristoteles'in bu görüşleri aşağıdaki felsefe alt disiplinlerinden hangisinin konusunu oluşturur?

A) Ontoloji
B) Felsefi antropoloji
C) Etik
D) Epistemoloji
E) Siyaset

15. Kant'a göre bir davranış, arzu, haz veya yarar gözetilmeden, yalnızca ödevden dolayı yapılmışsa ahlaki bir davranıştır.

Buna göre;

I. trafik cezası yememek için hız kurallarına uyan kişinin davranışı,
II. babasından korktuğu için ders çalışan öğrencinin durumu,
III. gönüllü olarak bir yardım kuruluşunda çalışan kişinin durumu

hangileri Kant'a göre ahlaki eylem sayılmaz?

A) Yalnız I B) Yalnız II C) Yalnız III
D) I ve II E) II ve III

16. Hz. Peygamber, Muaz b. Cebel'i (r.a.) Yemen'e vali olarak gönderirken ona "Sana bir dava geldiğinde nasıl hüküm vereceksin?" diye sorar. Muaz "Allah'ın kitabına göre hüküm vereceğim." diye cevap verir. Hz. Peygamber; "Eğer o konu hakkında Allah'ın kitabında bir bilgi bulamazsan ne yapacaksın?" diye sorduğunda; Muaz da "Resulullah'ın sünneti ile karar vereceğim." der. Hz. Peygamber bu sefer; "Resulullah'ın sünnetinde de yoksa ne yapacaksın?" dediğinde, Muaz "O zaman kendi görüşümle bir karara varacak ve ona göre hüküm vereceğim." diye görüşünü bildirir. Bunun üzerine Hz. Peygamber, elini Muaz'ın göğsüne koyup "Elçisini muvaffak kılan Allah'a hamdolsun." buyurarak memnuniyetini dile getirir.

(Tirmizî, Ahkâm, 3)

Bu hadiste anlatılan olayda Muaz b. Cebel, hüküm verirken Kur'an ve sünnetten sonra aşağıdakilerden hangisine başvuracağını kastetmektedir?

A) Sadık haber
B) Salim duyular
C) Selim akıl
D) Hadis-i şerifler
E) Âlimlerin ortak görüşleri

BİLGİ SARMAL

17. "Andolsun biz, her ümmete, Allah'a kulluk edin, tâğûttan kaçının, diye peygamber gönderdik. Allah onlardan kimini doğru yola iletti, onlardan kimine de (kendi iradeleri sebebiyle) sapıklık hak oldu. Şimdi yeryüzünde dolaşın da peygamberleri yalanlayanların sonunun ne olduğunu görün."

(Nahl; 36)

Bu ayetten,

I. Allah her topluma ilahi rehberlikte bulunmuştur.

II. İnsanların doğru yoldan çıkmaları kendi tercihlerinin sonucudur.

III. Peygamberini yalanlayan tüm toplumlar Allah tarafından helak edilmiştir.

düşüncelerinden hangilerine ulaşılabilir?

A) I ve II B) II ve III C) Yalnız I
D) Yalnız III E) I, II ve III

18. Çocukluğu ticaretin içinde geçen Hz. Muhammed, yirmili yaşlarında, azimli, itibar sahibi, iyi ahlâklı, olgun hâl ve hareketleriyle, güvenilirliğiyle dikkatleri üzerine çeken bir tüccar olmuştu. Bu özelliği herkes tarafından bilindiği için, uzak yerlere giden kimseler, kıymetli eşyalarını ona emanet ederlerdi. Kervanlarının başında onun olduğunu bilmek mal sahiplerinin içini rahatlatırdı. Kervanın kazancını en doğru biçimde kervan sahibine bildireceğinden kimse şüphe etmezdi.

Aşağıdakilerden hangisi Hz. Muhammed'in bu özelliğiyle ilgili bir olay değildir?

A) Genç yaşta Hilfu'l-fudûl'a katılması
B) Veda hutbesinde konuşma yapması
C) Hacerü'l-esved olayında hakem olarak seçilmesi
D) Yaşadığı toplumda "Muhammedü'l-emîn" lakabı ile anılması
E) Emanetleri sahiplerine teslim etmesi için Hz. Ali'yi görevlendirmesi

19. "Andolsun zamana ki, insan gerçekten ziyan içindedir. Ancak, iman edip de sâlih ameller işleyenler, birbirlerine hakkı tavsiye edenler, birbirlerine sabrı tavsiye edenler müstesnadır."

(Asr; 1-3)

Aşağıdakilerden hangisi bu ayetlerde zarardan kurtulacağı belirtilen kimselerden biri değildir?

A) Emr-i bil ma'rûf nehyi a'nil münker ilkesi doğrultusunda hareket edenler
B) Kazanmak için her yolu mübah görenler
C) Dünya ve ahiret için iyi ve güzel davranışlarda bulunanlar
D) Allah'ın varlığına ve birliğine inananlar
E) Zorluklar karşısında direnç gösterip isyana düşmeyenler

20. "Bunlar; tövbe edenler, ibadet edenler, hamd edenler, oruç tutanlar, rükû' ve secde edenler, iyiliği emredip kötülükten alıkoyanlar ve Allah'ın koyduğu sınırları hakkıyla koruyanlardır. Mü'minleri müjdele."

(Tevbe; 112)

Aşağıdakilerden hangisi mü'minlerin bu ayette belirtilen özelliklerinden biri değildir?

A) Hatalarından dönmesini bilirler.
B) Vahyi anlamak için akıllarını kullanırlar.
C) Sosyal hayatta iyiliği yaymaya çalışırlar.
D) Allah'a kulluk görevlerini yerine getirirler.
E) Helal ve haramlar hususunda hassasiyet gösterirler.

BİLGİ SARMAL

Bu testte sırasıyla, Tarih (1 – 5), Coğrafya (6 – 10), Felsefe (11 – 15), Din Kültürü ve Ahlak Bilgisi (16 – 20) dersi olmak üzere toplam 20 soru vardır.

1. 22 yıl saltanat süren Türgeş hükümdarı Sulu Kağan için Müslüman Araplar zahmet ve sıkıntı veren anlamında "Ebu Müzahim" ismini kullanmışlardı. Askerî yönden, Sulu Kağan mükemmel bir kumandan ve dış politikada da usta bir siyasetçi idi. Maveraünnehir'i Emevilere dar etmiş, Emeviler Ceyhun ötesine geçmeye âdeta korkar olmuşlardı. Onun ölümü üzerine Emeviler askıya aldıkları taarruz politikalarını tekrar canlandırmışlardı. Aynı şekilde Çinliler de İpek Yolu'nun öneminden dolayı batı seferlerine yeniden başlamışlardı.

Buna göre Sulu Kağan'ın izlediği siyasetin;

I. İslamiyet'in Türkistan coğrafyasında yayılması,
II. halifelik makamının Türklere geçmesini,
III. Çin'in egemenlik alanının genişlemesi

durumlarından hangilerini olumsuz yönde etkilediği savunulabilir?

A) Yalnız I B) Yalnız II C) I ve II
D) I ve III E) I, II ve III

2. Osmanlı Devleti'nde yönetilenler sınıfından yönetenler sınıfına geçebilmek için devlete ve İslam dinine hizmet etmek ve görevinde başarılı olmak temel koşuldu. Nitekim XVI. yüzyılda, Osmanlıların en yüksek eğitim kurumlarından biri olan Fatih Medresesi müderrisliğine yükselenlerin yüzde 47'si reaya kökenli kimselerdi.

Buna göre, Osmanlı bürokrasisi ile ilgili aşağıdakilerden hangisine ulaşılabilir?

A) Gayrimüslimler de devlet memuru olabilmiştir.
B) Devlet adamları devşirmelerden oluşmuştur.
C) Fırsat eşitliğinin sağlanmasına çalışılmıştır.
D) Sosyal devlet anlayışı önemini kaybetmiştir.
E) Ulema sınıfının yönetimdeki etkisi azaltılmıştır.

3. Genç Osmanlılar Cemiyeti'nin temel amaçları arasında; Osmanlı tebaasına eşit haklar sağlanması, bu hakların kanun güvencesi altına alınması; meşrutiyet idaresinin kurulması ve vatanseverlik hissi ile fertlerin birbirlerine bağlanması yer almaktaydı. İzledikleri yol ikna ve telkindi. Fikirlerinin oluşmasında Türk, İslam ve Batı kültürünün etkisi vardı.

Buna göre, Genç Osmanlıların aşağıdakilerden hangisini savunması <u>beklenmez</u>?

A) Millî egemenliğin sağlanması
B) Hukuk devleti anlayışının yerleşmesi
C) Mutlak monarşi rejiminin korunması
D) Parlamenter sisteme geçilmesi
E) Osmanlıcılık fikrinin uygulanması

BİLGİ SARMAL

4. "Mısırlılar! Kostantiniye'deki hilafet makamına ve sultanınıza ne kadar derinden bağlı olduğunuzu biliyoruz. Bu yüzden Büyük Britanya, Türkiye'ye karşı savaşmak zorunda kalmış olmaktan derin bir üzüntü duymaktadır. Ama bu sultana karşı bir savaş değil, onun aklını çelen ve iktidarlarını cinayet ve terör yoluyla ayakta tutan Enver Paşa gibilerine karşı bir savaştır."

17 Kasım 1914 tarihinde İngiliz Hükûmeti tarafından yayımlanan yukarıdaki bildiriye göre, I. Dünya Savaşı ile ilgili aşağıdakilerden hangisine kesinlikle ulaşılamaz?

A) İngilizler, Müslümanların manevi değerlerini dikkate almaktadır.

B) Osmanlı Devleti, İtilaf Devletleri safında savaşa katılmıştır.

C) Osmanlı Devleti'nin savaşa katılmasında İttihat ve Terakki etkili olmuştur.

D) İngilizler, savaş yıllarında propaganda faaliyetleri yürütmektedir.

E) İngiltere Hükûmeti bölge halkının tepkisinden çekinmektedir.

5.



AKŞAM

Yeni fırka beyannamesini bugün hükûmete veriyor

Fırkaya şimdiye kadar, biri kadın olmak üzere yedi âza kaydedilmiştir

İsmet paşa Hz. yeni fırkadan bahsederken: «Samimî bir muhalefetin tekâmülüne yer bırakmak lâzımdır» diyorlar

Yeni fırkanın programı

Serbes cumhuriyet fırkası programının esaslarını neşrediyoruz

13 Ağustos 1930 tarihine ait bu gazete haberi dikkate alındığında aşağıdaki yargılardan hangisine ulaşılabilir?

A) Türk tarihinin ilk muhalefet partisinin kurulmasına karar verilmiştir.

B) Rejim karşıtları ülke içerisinde isyan hareketlerine girişmişlerdir.

C) Çok partili hayata geçiş konusunda önemli bir adım atılmıştır.

D) Devletçilik anlayışından liberal ekonomiye geçilmiştir.

E) Halifeliğin kaldırılması, meclis içinde bölünmelere yol açmıştır.

6.

- Su buharının büyük bir kısmı bu katmanda bulunduğu için, iklim olayları bu katmanda yaşanır.
- Güneş'ten gelen zararlı ışınları süzen ozon gazı bu katmanda yoğunlaşmıştır.
- Atmosfere giren gök taşları bu katmanda yanarak parçalanır.
- En dış katmandır. Dış sınırı kesin olmamakla beraber yaklaşık 10 bin km kabul edilmektedir.

Yukarıda atmosferin katmanlarından hangisinin özelliğine değinilmemiştir?

A) Ekzosfer B) Termosfer C) Mezosfer D) Stratosfer E) Troposfer

BİLGİ SARMAL

7. Aşağıda, Türkiye'de bir il merkezine ait yıllık ortalama sıcaklık ve yağış grafiği verilmiştir

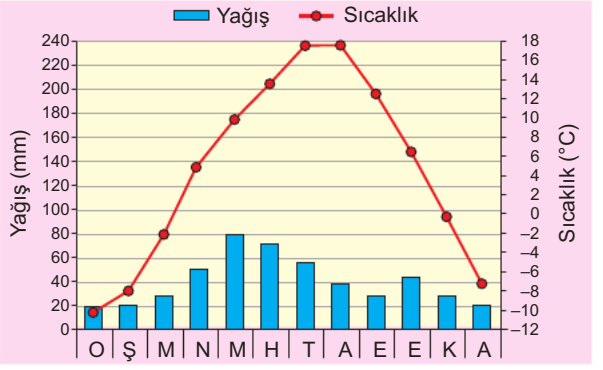

Grafikteki bilgiler dikkate alındığında bu il merkezinin aşağıdakilerden hangisi olduğu söylenebilir?

A) Aydın B) Gaziantep C) Kars
D) Ankara E) Tekirdağ

8. Coğrafya dersinde yaşadığı şehir hakkındaki bilgilerini aktaran bir öğrenci şehir nüfusunun %65'inin hizmet, %30'unun sanayi, %5'nin tarım sektöründe çalıştığını söylemiştir.

Buna göre öğrencinin yaşadığı şehrin;

I. nüfusun en fazla üçüncül ekonomik faaliyet alanında çalıştığı,
II. şehir dışına yoğun göç verdiği,
III. tarımsal verimin düşük olduğu

özelliklerinden hangilerine sahip olduğu <u>kesinlikle</u> söylenebilir?

A) Yalnız I B) Yalnız II C) I ve II
D) II ve III E) I, II ve III

9. I. Maki bitki bölgesi
II. Yoğun nüfuslu bölgeler
III. Deprem bölgeleri
IV. Ticaret bölgeleri

Farklı kriterlere göre belirlenen bölgelerin sınırları birbirine benzerlik gösterebilir.

Buna göre yukarıda verilen bölgelerden hangilerinin sınırları daha fazla benzerlik gösterir?

A) I ve II B) I ve III C) II ve III
D) II ve IV E) III ve IV

10. Erozyon; özellikle toprağın üst kısmının su, rüzgâr ve insanların çeşitli faaliyetleri sonucunda aşınarak taşınması olayıdır. Bu şekilde verimli katman olan A horizonunun taşınması ile toprak, verimliliğini kaybeder ve tarımsal amaç için kullanılamaz hâle gelir.

Buna göre;

I. eğimli arazilerin taraçalandırılması,
II. tarlaların eğime dik olarak sürülmesi,
III. tarım alanlarında nadas yöntemi ile ekim yapılması

uygulamalarından hangileri bu afete karşı alınacak önlemlerdendir?

A) Yalnız I B) Yalnız II C) I ve II
D) II ve III E) I, II ve III

BİLGİ SARMAL

11. "Atinalılar, siz Tanrı'nın bir vergisi olan beni mahkûm etmekle ona karşı bir günah işlemeyiniz dediğim zaman, sizin sandığınız gibi kendimi değil, sizi düşünüyorum. Çünkü gülünç bir benzetmeye müsaade edin. Beni öldürürseniz, hem büyük, hem cins, ama büyüklüğünden dolayı ağır ve dürtülmek isteyen bir ata benzeyen devleti yerinden oynatmak için, Tanrı'nın musallat ettiği benim gibi bir at sineğine kolay kolay bir halef (yerine) bulamazsınız, ben Tanrı'nın, devletin başına musallat ettiği bir at sineğiyim, her gün her yerde sizi dürtüyor, kandırıyor, azarlıyorum; peşinizi bırakmıyorum. Benim gibi bir kimseyi kolay kolay bulamayacaksınız; onun için, size kendinizi benden yoksun bırakmamanızı tavsiye ederim."

Sokrates'in bu görüşleri filozofun hangi özelliği ile ilişkilendirilebilir?

A) Eleştirel ve sorgulayıcı olma
B) Düzenli ve sistemli olma
C) Sabırlı ve kararlı olma
D) Yeniliklere kapalı olma
E) Toplumsal sorunlara duyarlı olma

12. Descartes'a göre insan öyle bir varlıktır ki bedeni ve zihni, iki ayrı düzenek gibidir. İlkinin niteliği yer kaplama iken, ikincisinin niteliği düşünmedir. Bu iki farklı cevher, birbiriyle irtibatını, beyinde bulunan kozalaksı bez sayesinde gerçekleştirir. Bu iki düzenek bir noktada birbirlerine değmektedirler. Zihin veya ruh, bu merkez bez vasıtasıyla bedeni etkiler, beden de zihni etkiler.

Descartes'ın bu görüşleri aşağıdaki yaklaşımlardan hangisi ile ifade edilir?

A) Fenomenalizm
B) İdealizm
C) Düalizm
D) Oluşçuluk
E) Materyalizm

13. "Kendi gözlemlerimiz bize her devletin iyi bir amaçla kurulmuş bir topluluk olduğunu gösterir. İyi diyorum, çünkü bütün insanlar yaşamlarında iyi saydıkları şeyi elde etmeye çalışırlar. Öyleyse bütün toplulukların en üstünü ve hepsini kapsayanı da, 'en yüksek iyi'yi amaç edinecektir. Bu bizim devlet dediğimiz topluluktur ve o topluluk türüne de siyasal diyoruz."

Aristoteles'in "Politika" **adlı kitabından alınan bu parçadan aşağıdaki yargılardan hangisine ulaşılabilir?**

A) Toplumsal yaşamda iyi olanı belirleyen bireylerdir.
B) Devletin varlık amacı toplum için iyi olanı ortaya koymaktır.
C) Her toplumun iyi olanı kendisine göredir.
D) İnsan toplumsal yaşamda mutsuz olur.
E) Toplumsal karmaşanın nedeni insanın kötüye eğilimli olmasıdır.

14. Evren, yaratılmış bir şey değildir. Eğer yaratılmış olsaydı, o takdirde, evrenin Tanrı tarafından belli bir anda yaratılmış olması ve evrenin yoktan var edilmiş olması gerekirdi. Yaratılışı kabul edebilmek için, her şeyden önce, evrenin var olmadığı bir anın varlığını, sonra da hiçlikten (yokluktan) bir şeyin çıkmış olduğunu kabul etmek gerekir. Bu ise bilimin kabul edemeyeceği bir şeydir.

Bu parçada Tanrı'nın varlığına karşı çıkılırken hangi argüman kullanılmıştır?

A) Her varlığın başka bir varoluş sebebi vardır.
B) Zihinde bulunan her kavramın gerçekliği olmak zorunda değildir.
C) Evrenin sonunun olması Tanrı'nın yokluğunun kanıtıdır.
D) Evrendeki düzenin bozulması Tanrı'nın istemeyeceği bir şeydir.
E) Tanrı kavramı salt insan zihninde yer alır.

BİLGİ SARMAL

15. Bilgimizin kaynağı algılarımızdır. Godwin için "algıların sonuçları insanların ahlaki karakterleridir." Bizler kendi yaşamlarımızda elde ettiğimiz tecrübelerle iyi ve kötünün ne olduğunu öğreniriz. Bundan dolayı daha önceden belirlenmiş bir iyi ve kötü bulunmamaktadır. İyi ve kötü ahlak, yaşamımızın tarihini oluşturan olaylarda aranmalıdır ve bu olaylar uygun olmayan eğilimlerden arındırılırsa kötü ahlak da dünyadan silinebilir.

Bu parça aşağıdaki sorulardan hangisine yanıt niteliğindedir?

A) İnsan eylemlerinde özgür müdür?
B) Ahlaki eylemin amacı nedir?
C) İnsan nasıl mutlu olur?
D) Evrensel ahlak yasası oluşturulabilir mi?
E) Özgürlük ve sorumluluk ilişkisi nasıldır?

16. Yalan üzere birleşmeleri aklen mümkün olmayan toplulukların aktara geldiği haberlere verilen isimdir. Bu haberler nesilden nesile kesintisiz olarak nakledilir. Bir haberin bu şekilde kabul görmesi için; her dönemde doğrulukları üzerinde ittifak edilmiş çok sayıda insan tarafından nakledilemesi, nakledenlerin sayısında azalmanın olmaması ve haberi nakledenlerin olayı görmüş veya duymuş olması gerekir. Kur'an-ı Kerim, günümüze kadar bu şekilde ulaştırılmıştır.

Bu metinde aşağıdaki kavramlardan hangisi anlatılmaktadır?

A) Sahih B) Mütevatir C) Hadis
D) Sünnet E) Vahiy

17. İnsan, maddi ve manevi ihtiyaçları olan bir varlıktır. İnsanın manevi ihtiyaçlarının başında inanmak gelir. İnsanlık tarihinin tüm zamanlarında ve tüm toplumlarda inanç bir gerçeklik olarak karşımıza çıkar. Çünkü inanma duygusu insana yaratılışında verilen bir özelliktir. İnsan bu özelliği dolayısıyla bir ve tek yaratıcıya inanma ihtiyacı duyar. Bunun yansımaları tarih boyunca insanlığın kültür, sanat ve medeniyet birikiminde açık bir şekilde görülmektedir. İnsan, dünya hayatı boyunca huzur ve güven içerisinde yaşamayı ister. İnsanlar ancak iman sayesinde hayatlarını belirsizlikten ve karmaşadan kurtarıp anlamlı hâle getirir. Bu yönüyle iman, insana niçin var olduğunu ve yaşadığı hayat içerisinde zorluklarla nasıl başa çıkacağını gösteren bir kaynaktır.

Bu parçada aşağıdakilerden hangisine <u>değinilmemiştir</u>?

A) Tevhid inancının doğuştan gelen bir ihtiyaç olduğuna
B) Allah'a imanın insanın anlam arayışına cevap verdiğine
C) Dinin toplumsal yapı üzerinde etkisinin bulunduğuna
D) Din olgusunun, insanın manevi ihtiyaçlarını karşılamasındaki etkisine
E) İmanın ancak ibadetlerle desteklendiğinde insanı huzura kavuşturabileceğine

BİLGİ SARMAL

18. İbadet sözlükte; kulluk etmek, itaat etmek, boyun eğmek, saygı duymak gibi anlamlara gelir. Dinî bir terim olarak ise; insanın Allah'ın (c.c.) rızasını kazanmak için kulluk görevini yerine getirmesi, O'nun emirlerine uyması ve yasaklarından kaçınmasıdır. İnsan Allah'a (c.c.) karşı sevgi, saygı ve itaatini en güzel şekilde ibadetle gösterir.

Aşağıdaki ayetlerden hangisi bu metinle ilişkilendirilemez?

A) "Hayır! Yalnız Allah'a kulluk et ve şükredenlerden ol!"
(Zümer; 66)

B) "(Rabbimiz!) Ancak sana kulluk eder ve yalnız senden yardım dileriz."
(Fâtiha; 5)

C) "Ey iman edenler! Rükû edin, secdeye kapanın, rabbinize ibadet edin, dünya ve âhiret için faydalı işler yapın ki kurtuluşa eresiniz."
(Hac; 77)

D) "Allah, kendisinden başka hiçbir ilah bulunmayandır. En güzel isimler O'nundur."
(Tâhâ; 8)

E) "Ben cinleri ve insanları, ancak bana kulluk etsinler diye yarattım."
(Zâriyât; 56)

19.
- "Hiçbiriniz kendisi için istediğini (mümin) kardeşi için istemedikçe (gerçek anlamda) iman etmiş olamaz."
- "İman etmedikçe cennete giremezsiniz, birbirinizi sevmedikçe de iman etmiş olmazsınız."

Hz. Muhammed (s.a.v.)

Bu hadislerde ortak olarak iman ile aşağıdakilerden hangisi arasındaki ilişkiye vurgu yapılmaktadır?

A) Müslümanlar arasındaki birlik ve beraberlik
B) İbadetlerde samimiyet ve süreklilik
C) Kamu hakkına özen göstermek
D) Anne babaya sevgi ve hürmet
E) Güzel ahlaki davranışlar

20. İslam ahlakı temelde Kur'an ve sünnete dayanır. Müslümanlar her dönemde davranışlarına referans olarak öncelikle Kur'an'ı Kerim'i esas almışlardır. Bununla birlikte Hz. Peygamberi de ahlaki hususlarda vazgeçilmez bir dayanak olarak görmüşlerdir. Zira Hz. Peygamber Müslümanlar için Kur'an-ı Kerim'in hayata geçirilmiş hâlidir.

Bu parça aşağıdaki sorulardan hangisine cevap olarak yazılmış olabilir?

A) Hz. Peygamber dini anlamda hüküm yetkisine sahip midir?
B) Kur'an-ı Kerim'in sosyal hayata yönelik ilkeleri nelerdir?
C) Müslümanlar ibadet şekillerini nereden öğrenmiştir?
D) Ahlakın tanımı ve boyutları evrensel midir?
E) İslam ahlakının kaynağı nedir?

BİLGİ SARMAL

Bu testte sırasıyla, Tarih (1 – 5), Coğrafya (6 – 10), Felsefe (11 – 15), Din Kültürü ve Ahlak Bilgisi (16 – 20) dersi olmak üzere toplam 20 soru vardır.

1.



Mayıs 2022 tarihinde Bilecik'teki kazılarda bulunan 8 bin 600 yıllık flüt

Bu bilgiye göre aşağıdakilerden hangisine ulaşılabilir?

A) Nümizmatik biliminin katkıları ile Anadolu'da önemli eserlerin ortaya çıkarıldığına

B) Maden Devri'ne geçilmesiyle birlikte dayanıklı aletlerin yapıldığına

C) Tarih Öncesi Devirlerde Anadolu'da sanatsal faaliyetlerin başladığına

D) Çeşitli hastalıkların tedavisinde müziğin etkili bir şekilde kullanıldığına

E) Taşınabilir sanat eserlerinin ilk örneklerinin Mezopotamya'da ortaya çıkarıldığına

2. "Savaşın bitimiyle Tuğrul Bey, Çağrı Bey ve İnanç Yabgu öğle üzeri, atlarından inerek secdeye vardılar ve bu büyük lütfundan dolayı Allah'a şükrettiler. Bütün Selçuk beyleri, kurultay kararı ile Tuğrul Bey'in sultanlığını ilan merasimi yaptılar. Bu merasimde savaş sahasında derhal çadır ve taht kurup Tuğrul Bey'i üzerinde oturttular ve bütün beyler onu Horasan hükümdarı olarak selamladılar. Böylece Büyük Selçuklu Devleti kuruluş sürecini tamamladı, Gazneli Devleti ise zayıflayarak bölgedeki etkinliğini kaybetti."

Dersinde bu anlatımı yapan Derya Hanım, aşağıdakilerden hangisinin sonuçları üzerinde durmaktadır?

A) Talas Savaşı

B) Miryokefalon Savaşı

C) Yassıçemen Savaşı

D) Dandanakan Savaşı

E) Pasinler Savaşı

3. Osmanlı Devleti'nin 1774 tarihinde Rusya ile imzaladığı Küçük Kaynarca Antlaşması'nın bazı maddeleri şunlardır:

- Kırım, Osmanlı Devleti'nden ayrılacak ve özerk bir yapıda olacak ancak halifelik makamına bağlı kalacaktır.
- Azak Kalesi Ruslarda kalacak ve Ruslar Karadeniz'de gemi bulundurabilecektir.
- Ruslar Osmanlı ülkesinde elçi bulundurma, Ortodoksların koruyuculuğunu üstlenme hakkına sahip olacaktır.
- Rusya, kapitülasyonlardan yararlanma hakkına sahip olacaktır.
- Osmanlı Devleti, Rusya'ya savaş tazminatı ödeyecektir.

Bu maddeler aşağıdakilerden hangisinin göstergesi olarak kabul edilemez?

A) Rusya'nın Osmanlı Devleti'nin iç işlerine karışma hakkı elde ettiğinin

B) Karadeniz'e kıyısı olan bölgelerdeki limanların önemini kaybettiğinin

C) Osmanlı Devleti'nin kuzey sınırlarının güvenliğinin tehlikeye düştüğünün

D) Uluslararası alanda Osmanlı Devleti'nin itibarının sarsıldığının

E) Rusya'nın sıcak denizlere inme politikasında önemli bir adım attığının

4. Damat Ferit Paşa, sadrazamlık yaptığı dönemlerde Anadolu'da oluşan ulusal gücü yok etmek için her türlü yolu denemiştir. Millî Mücadele yanlısı kişileri görevden almış, Millî güçleri dağıtmak için İtilaf Devletleri'nden yardımlar alarak askerî birlikler kurdurmuştur. Kuvay-ı İnzibatiye adıyla kurulan bu kuvvetler Kuvay-ı Millîyeciler üzerine gönderilmiştir.

Bu bilgilere göre Damat Ferit Paşa'nın aşağıdakilerden hangisini savunduğu söylenebilir?

A) Millî bağımsızlığı

B) Manda ve himayeyi

C) Ulusal egemenliği

D) Demokratik yönetimi

E) Parlamenter sistemi

BİLGİ SARMAL

5. Mustafa Kemal Atatürk'ün Millî Mücadele sonrası hedefleri özet olarak şunlardır:

1. Yeni ve modern bir Türk devleti kurulacak.
2. Din ve mezhep ideolojisinin yerine ulus devlet ideolojisi kabul edilecek.
3. Batı uygarlığını meydana getiren ilim ve vasıtaya bağlanılacak.
4. Yeni Türk devleti, kanun ve örgütlerini dünya ihtiyaçlarına göre düzenleyecek.
5. İlim, hayat için tek mürşit kabul edilecek.

Bu hedeflerden hangilerinde hem laiklik hem de milliyetçilik ilkesinin önemine değinildiği söylenebilir?

A) 1 B) 2 C) 3 D) 4 E) 5

6. Spora merakı olan Enes Bey 2024 yaz olimpiyat oyunlarının Fransa Paris'te gerçekleşeceğini öğrenmiş ve Fransa'nın bulunduğu yeri atlastan bularak incelemek istemiştir.

Buna göre Enes Bey'in aşağıdaki haritalardan hangisini incelemesi uygundur?

A) Afrika Fiziki Haritası
B) Dünya Siyasi Haritası
C) Aysa Siyasi Haritası
D) Türkiye Fiziki Haritası
E) Okyanusya Siyasi Haritası

7. Rüzgâr, basınç farklarının az ve mesafenin uzun olduğu yerlerde daha yavaş eser.

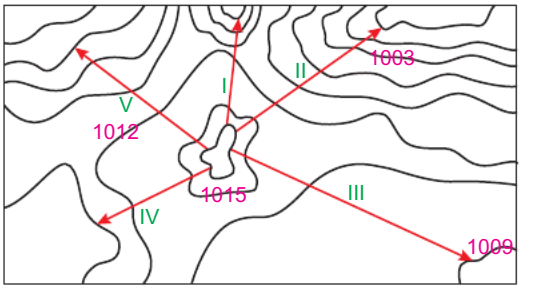

Buna göre yukarıdaki izobar haritasında gösterilen rüzgârlardan hangisi daha yavaş eser?

A) I B) II C) III D) IV E) V

8. Geçmiş dönemlerde göçebe yaşam tarzının etkisiyle sürekli göç etmek zorunda kalan insanlar, günümüzde de farklı sebeplerden dolayı göç etmektedir.

Buna göre insanlar;

I. daha iyi yaşam,
II. savaş,
III. afet

nedenlerinden hangilerine bağlı olarak zorunlu göç eder?

A) Yalnız I B) Yalnız II C) Yalnız III
D) I ve II E) II ve III

BİLGİ SARMAL

9. Yeryüzünde bütünüyle doğal faktörlerin karşılıklı etkileşimiyle meydana gelen sahip oldukları özellikleri itibariyle genelde bütünlük sağlayan bölgelere doğal bölge denir.

Buna göre aşağıdakilerden hangisi doğal bölgelere örnek verilebilir?

A) Dikey yönde kentleşen bölgeler
B) Seyrek nüfuslu bölgeler
C) Güneş enerjisinden elektrik üreten bölgeler
D) Yıllık ortalama sıcaklığı 20°C üzerinde olan bölgeler
E) Taş kömürü çıkarılan bölgeler

10. Ülkelerin hazırlıklı oluşlarına bağlı olarak afetlerin neden olduğu can ve mal kayıpları farklılık göstermektedir.



Buna göre, yukarıdaki haritada numaralandırılarak gösterilen ülkelerden hangisi gerçekleşecek aynı şiddetteki bir afetten daha az etkilenir?

A) I B) II C) III D) IV E) V

11. "İnsan hayatı Yunanlıların görkemli bir şekilde düzenledikleri olimpiyatlara benzer. Oraya gidenlerin bir kısmı çeşitli müsabakalara katılıp ödül almak ve ün kazanmak ister. Bir kısmı alışveriş yapmak için gider. Büyük bir kısmı da eğlenmek ve hoşça vakit geçirmek için orada bulunur. Fakat onların arasında zekaca seçkin ve özgürlüğe düşkün birkaç kişi daha bulunur ki, onların üne kavuşmak ve para kazanmak gibi bir kaygıları yoktur. Sadece olimpiyatlarda neler olup bittiğini anlamak ve anlamlandırmak için oraya gitmişlerdir. İşte bunun gibi biz insanlar bir başka âleme gitmek üzere şu hayat sahnesine gireriz. İçimizden bazıları şan-şeref, kimisi mal ve servet peşinde koşar. Birkaç kişi de vardır ki kendilerini varlığın hakikatini araştırmaya vakfetmişlerdir. İşte *filos sofos* (filozof) dediğim bu kimselerdir."

Pisagor bu görüşlerinde filozofların hangi özelliğinden söz etmiştir?

A) Bilimsel çalışmalara veri oluşturdukları
B) Hazlarının peşinde koştukları
C) Bilme ve anlama güdüsüyle hareket ettikleri
D) Kendilerini göstermeye çalıştıkları
E) İnsan yaşamına doğrudan katkıda bulundukları

12. Kuhn, her devri kendi kültürel şartları ve kavramsal sistemi içinde ele almayı savunmuştur. Buna göre teoriler, içinden çıktıkları tarihi-kültürel ortam içinde bir anlam kazanırlar. Ortam değişince, buna uygun yeni teoriler üretilir. Fakat bu yeni teori eskisiyle kıyaslanamaz. Çünkü, bakış açısı ele alınan mesele değişmiştir. Artık sorular değişmiş, dolayısıyla alınan cevaplar da değişmiştir. Eski sorular bu yeni sistem içinde anlamını kaybedebilmektedir. Bu bakımdan, yeni teori mantıki olarak eskisini içermemektedir.

Bu parçada verilenler bilimin hangi özelliğine bir eleştiridir?

A) Birikimli olarak ilerlemesi
B) Tutarlı olması
C) Yöntemli olması
D) Kanıtlanabilir olması
E) Basit ve anlaşılabilir olması

BİLGİ SARMAL

13. Devletin esas amacı bireyin biricikliğini yok etmek olduğu için, bireyler sahip oldukları bu yegâne değeri muhafaza edebilirlerse devletler amaçlarına ulaşamaz ve zamanla yok olurlar. Çünkü her devlet içinde barındırdığı kişilerin efendisi olmak ister ve bireyler bu efendilikten kendi iradelerine sarılarak kurtulabilirler.

Stirner'in bu görüşleri aşağıdaki yaklaşımlardan hangisi ile ifade edilir?

A) Egoizm B) Hedonizm C) Anarşizm D) Kapitalizim E) Demokrasi

14. Dostoyevski 'Suç ve Ceza'daki Raskolnikov karakteri, iç dünyasındaki sorunlar ve çatışmalarla canlı bir şekilde karşımıza konulur. Söz konusu roman kahramanı bize kendi suç ve ceza algımıza dair zengin ve verimli bir içgörü sağlayabilir. Bu bağlamda sanat yapıtları kendi ahlaki ve politik değerlerimizi sorgulamamıza hizmet edebilirler. Değerlerin bu sorgulanması, hem toplumsal rollerimizi hem de bizi biz yapan ahlaki ilkelerimizi kavramamız ve derinleştirmemiz açısından verimli olacaktır.

Bu parçada sanat eserinin hangi yönünden söz edilmiştir?

A) Kurmaca bir dünya oluşturması
B) Toplumsal problemleri dile getirmesi
C) Alımlayıcının kendisini irdelemesine olanak sağlaması
D) Doğal olanı ortaya koyması
E) Biçimle öz arasında denge kurması

15. Bir kreş öğretmeninin çok sorunlu bir çocuğa sabır gösterip ona anlayışlı davranmasının ahlaklı bir davranış olup olmadığını belirleyen temeldeki iyi niyettir. Eğer öğretmen kötü davranışının bir biçimde duyulacağını ve işsiz kalacağı korkusuyla böyle bir davranışta bulunmuşsa bu ödeve uygun bir eylemdir ancak ahlaki değildir. Fakat öğretmen yalnızca çocuğa kötü davranmaması gerektiğini düşünerek sadece iyi niyetle bu davranışı yapmışsa bu davranış ödevden doğan eylemdir ve ahlakidir.

Bu parçadan aşağıdaki yargılardan hangisine ulaşılabilir?

A) Koşulsuz, çıkar gözetmeden yapılan eylem ahlaklıdır.
B) Ahlaki eylemin amacı bilinemez.
C) Ahlaki yasalar görecelidir.
D) İnsan bencilliğini aşamaz.
E) Ahlaki kavramlar reddedilmelidir.

16. Bosna Hersek'teki Srebrenitsa katliamının acısını paylaşmak amacıyla ülkemizden çok sayıda kişi her yıl 8-11 Temmuz arası "Marş Mira (Barış Yürüyüşü)" etkinliğine katılmaktadır. Bu destek ülkemizin bu coğrafya kalbî bağlılığının önemli bir göstergesidir.

Bu parçada anlatılan uygulama aşağıdaki hadislerden hangisinin mesajıyla örtüşmektedir?

A) Her doğan, İslâm fıtratı üzerine doğar.
B) Mümin mümine karşı, parçaları birbirini bağlayıp tahkim eden bina gibidir.
C) Müslüman, dilinden ve elinden Müslümanların emin olduğu kimsedir.
D) Hayra vesile olan, hayrı yapan gibidir.
E) İki göz vardır ki, cehennem ateşi onlara dokunmaz: Allah korkusundan ağlayan göz, bir de gecesini Allah yolunda nöbet tutarak geçiren göz.

17. Yüce Allah insanları uyarmak için gönderdiği peygamberi, yine insanlar arasından seçmiştir. Çünkü peygamberlerin yaşadığı toplumu anlaması, toplumun sorunlarına çözüm bulabilmesi, onlara hitap edebilmesi ve onlara örnek olabilmesi için insanlar arasından seçilmiş olmaları gerekir. Nitekim Hz. Muhammed (s.a.v.) de ümmetinin sorunlarıyla ilgilenmiş, bu sorunlara çözüm yolları aramış, Allah'ın (c.c.) emir ve yasaklarına titizlikle uymuş ve ahlaki özellikleriyle ümmetine en güzel örnek olmuştur.

Bu parçadan peygamberlerle ilgili aşağıdakilerden hangisi çıkarılamaz?

A) İnsanlara örnek olarak sunulmuşlardır.
B) Yaşadıkları toplumun sorunlarıyla ilgilenmişlerdir.
C) İnsanlar arasından seçilmişlerdir.
D) Getirdikleri ilahi mesajlara önce kendileri uymuşlardır.
E) Gönderildikleri toplumun önde gelen aileleri arasından seçilmişlerdir.

BİLGİ SARMAL

18. "İman edip dünya ve ahiret için yararlı işler yapanlara Allah ecirlerini tam olarak verecek ve lütfundan onlara daha fazlasını da ihsan edecektir. Kulluğundan yüz çevirenlere ve kibirlenenlere gelince, onlara acı bir şekilde azap edecektir; bunlar kendileri için Allah'tan başka ne bir dost ne de bir yardımcı bulabileceklerdir."

(Nisâ; 173)

Bu ayet daha çok aşağıdaki kavramlardan hangisiyle ilişkilendirilebilir?

A) Sabır
B) Cihat
C) Tövbe
D) Salih amel
E) Sırat-ı müstakim

19. İnsan, doğası gereği yüce ve aşkın bir varlığa inanma ve sığınma eğilimindedir. Ancak bu eğilimi kimi zaman yaşamına tek yönlü olarak yansır. Zira çoğu insan zor bir durumla karşılaştığında, sıkıntılı zamanlarında Allah'ı hatırlar ve O'na yönelir. Rahata kavuştuğunda ise eski durumunu unutarak Rabbinden yüz çevirir.

Bu parçada sözü edilenleri destekleyen ayet aşağıdakilerden hangisidir?

A) "Onlar; başlarına bir musibet gelince, "Biz şüphesiz (her şeyimizle) Allah'a aidiz ve şüphesiz O'na döneceğiz." derler."

(Bakara; 156)

B) "Sizi rahimlerde dilediği gibi şekillendiren O'dur. Mutlak güç ve hikmet sahibi olan Allah'tan başka ilâh yoktur."

(Âl-i İmrân; 6)

C) "Allah'ın üzerinizdeki nimetini, sizden aldığı sağlam ahdini hatırlayın; o zaman, "Duyduk ve kabul ettik" demiştiniz. Allah'tan korkun; şüphesiz Allah kalplerin içindekini bilmektedir."

(Mâide; 7)

D) "İnsana bir zarar dokunduğu zaman Rabbine yönelerek O'na yalvarır. Sonra rabbi ona kendi tarafından bir nimet verdiği zaman daha önce Allah'a yalvardığını unutur ve Allah'ın yolundan saptırmak için O'na eşler koşar…"

(Zümer; 8)

E) "Nice ülkeler var ki onları helâk ettik. Azabımız onlara geceleyin yahut gündüz istirahat ederlerken geliverdi. Azabımız onlara gelip çattığında, "Biz gerçekten zalim kişilermişiz!" diye yakınmaktan başka söyleyecekleri söz kalmadı."

(A'râf; 4-5)

20. Peygamberimizin İslam'a davetine hız kesmeden devam ettiği Mekke döneminde Kureyş'in ileri gelenleri Ebu Talib'e gelerek: "Ey Ebu Talib! Kardeşinin oğlu ilahlarımızı, putlarımızı yok saydı. Dinimizi ayıpladı. Sen ya O'na mani olur bu işten vazgeçirirsin ya da aramızdan çekilir, bizi onunla baş başa bırakırsın. Sen karışmazsan biz O'nun hakkından geliriz. Yok eğer onu desteklemeye devam edersen, seninle de onunla da savaşırız." dediler. Ebu Talib kendisini tehdit edip giden dostlarının sözlerinden çok rahatsız oldu. Kavminin onunla ilişkilerini koparıp düşman kesileceği düşüncesi ona çok ağır geldi. Ama o, kavminin gönlünü hoş etmek için yeğeni Muhammed (sav)'i yalnız bırakmayı ve O'nu düşmanlarına teslim etmeyi de doğru bulmuyor, gönlü buna razı gelmiyordu. Çaresiz kalmıştı. Peygamber Efendimize haber gönderip yanına çağırttı. Hüzün dolu bir ifadeyle konuşmaya başladı: "Ey kardeşimin oğlu! Kavmin bana geldi, neler neler söyledi. Senin söylediklerini, yaptıklarını birer birer şikayet etti. Artık hem bana hem de kendine acı. Şu ihtiyar hâlimde taşıyamayacağım bir işi bana yükleme!" Peygamberimiz bu sözler karşısında çok üzüldü. Amcasının artık kendisine destek olmayacağını düşündü. Toparlanıp amcasına yönelerek şu tarihi cevabı verdi: "Ey amca! Allah'a yemin ederim ki güneşi sağ elime, ayı da sol elime verseler yine de bu davadan vazgeçmem, Ya Allah bu dini hâkim kılar ya da ben bu yolda yok olur giderim."

Hz. Muhammed'in bu olayda ortaya koyduğu tavır aşağıdaki ahlaki değerlerden hangisine örnek gösterilebilir?

A) Adalet
B) Hikmet
C) İffet
D) Şecaat
E) Müsamaha

BİLGİ SARMAL

Bu testte sırasıyla, Tarih (1 – 5), Coğrafya (6 – 10), Felsefe (11 – 15), Din Kültürü ve Ahlak Bilgisi (16 – 20) dersi olmak üzere toplam 20 soru vardır.

1.

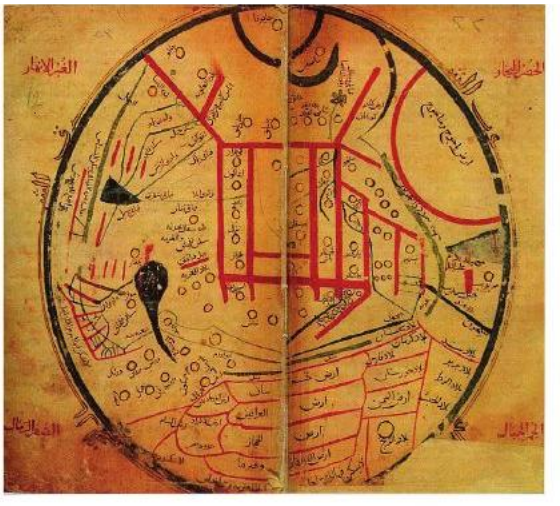

Kaşgarlı Mahmut'un XI. yüzyılda kaleme aldığı Divânü Lûgati't-Türk'te yer alan Türk Dünyası haritası

Bu haritayı inceleyen bir tarihçinin;

I. paleografya ve coğrafya biliminin verilerinden faydalanmak,

II. Coğrafi Keşiflerin, haritanın çizilmesindeki etkilerini ortaya koymak,

III. Anadolu ve Balkanlardaki İlk Çağ yerleşim bölgelerini araştırmak

çalışmalarından hangilerini yapması gereklidir?

A) Yalnız I B) Yalnız II C) Yalnız III D) I ve III E) II ve III

2. VI ve VII. yüzyıllardan itibaren Bizans ve Sasaniler arasında uzun süre devam eden savaşlar, Anadolu'daki sosyo-ekonomik düzenin bozulmasının en önemli sebeplerindendir. X. yüzyıla gelindiğinde ise Anadolu'da yaşayan Rumlar, Ermeniler, Süryaniler ve Araplar Bizans'ın uyguladığı politikalardan oldukça rahatsızdır. Özellikle vergilerin yüksek olması, isyanlar ve angarya yüzünden Anadolu halkı Bizans yönetiminde oldukça kötü şartlar altında yaşamaktadır.

Anadolu'nun bu durumunun aşağıdakilerden hangisini kolaylaştırdığı savunulabilir?

A) Türklerin Anadolu'ya hâkim olmasını

B) Haçlı Seferlerinin başlamasını

C) Bizans'ın merkezî otoriteyi güçlendirmesini

D) Atabeylik sisteminin uygulanmasını

E) Ticari hayatın canlanmasını

3. Meşrutiyet Dönemi'nde hukuk alanında atılan en önemli adımlardan biri de Mecelle-i Ahkâm-ı Adliye'nin hazırlanmasıdır. 1868-1878 yılları arasında Ahmet Cevdet Paşa başkanlığındaki ilmî bir heyet tarafından, İslam hukukuna bağlı kalınarak hazırlanan Mecelle, şeri mahkemelerde 1877-1926 yılları arasında hukuki kaynak olarak kullanılmış ve adliyede hukuk birliğinin temeli atılmıştır.

Bu bilgilere göre Mecelle ile ilgili aşağıdakilerden hangisi söylenemez?

A) Hukuk alanında önemli değişimleri beraberinde getirmiştir.

B) Laik bir niteliğe sahip değildir.

C) Cumhuriyetin ilk yıllarında da kullanılmıştır.

D) Azınlıkların tepkisine neden olmuştur.

E) Dinî esaslar dikkate alınarak hazırlanmıştır.

4.

- Amasya Genelgesi'nde; "Milletin bağımsızlığını, yine milletin azim ve kararı kurtaracaktır." kararı alınmıştır.
- Erzurum Kongresi'nde; "Kuvay-ı Milliye'yi etkin, millî iradeyi hâkim kılmak esastır." kararı alınmıştır.
- TBMM'nin açılması ile "TBMM'nin üstünde bir güç yoktur." kararı alınmıştır.
- Teşkilat-ı Esasiye Kanunu ile "Egemenlik kayıtsız şartsız milletindir." kararı alınmıştır.

Bu bilgiler dikkate alındığında, aşağıdakilerden hangisinin süreç içerisinde ortaya çıktığı söylenebilir?

A) Temsil Heyeti'nin yetki alanının genişlemesinin

B) Uluslararası alanda nüfuz kazanılmasının

C) Millî iradenin yönetimdeki etkisinin artmasının

D) Millî birlik ve beraberliğin gerçekleşmesinin

E) Ulusal bağımsızlığın sağlanmasının

BİLGİ SARMAL

5. Türkiye İktisat Kongresinde belirlenen esaslara göre;

- Türkiye, milli hudutları dâhilinde, lekesiz bir istiklal ile dünyanın sulh ve terakki unsurlarından biridir.
- Türkiye halkı millî hâkimiyetini, kanı ve canı pahasına elde ettiğinden, hiçbir şey feda etmez ve millî hâkimiyete müstenit olan (dayanan) meclis ve hükümetine daima zahirdir.

Buna göre Türkiye İktisat Kongresi'nde;

I. demokrasi,
II. bağımsızlık,
III. devletçilik

ilkelerinden hangisinin önemi üzerinde durulmuştur?

A) Yalnız I B) Yalnız II C) I ve II
D) I ve III E) II ve III

6. I. Soğuk iklim özelliklerine sahip alanlardaki insanlar, soğuktan korunmak için kalın kıyafetler tercih ederler.
II. İnsanlar enerji ihtiyaçlarını karşılamak için rüzgâr santralleri ve güneş panelleri kurarlar.
III. Çöl iklim bölgesinde yaşayan insanlar çöllerin karakteristik hayvanı olan deveyi ulaşım için kullanırlar.
IV. İnsanlar tarım ve yerleşim alanları açmak için ormanları tahrip ederler.

Yukarıdakilerden hangileri insanın doğaya etkilerine örnek verilebilir?

A) I ve II B) I ve III C) II ve III
D) II ve IV E) III ve IV

7. Yeryüzü şekillerinin bir kısmı, oluşumları için gerekli olan enerjiyi mantodaki konveksiyonel akımlardan alır. Bu enerjinin sonucunda meydana gelen iç kuvvetler yeryüzü şekillerinin oluşmasını sağlar.

Buna göre, aşağıdaki yeryüzü şekillerinden hangisinin oluşumu iç kuvvetlere bağlanamaz?

A) 

B) 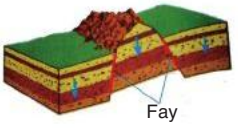

C) 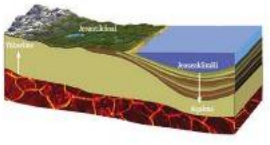

D) 

E) 

8. Tarihsel süreçte ilk yerleşmelerin genellikle su kaynaklarına yakın ve iklimin ılımlı olduğu yerlere kurulduğu görülür. Bu bölgelerin bir kısmının genellikle gelişimini sürdürüp günümüzde de nüfusun sıklaştığı alanlar arasında olduğu görülmektedir.

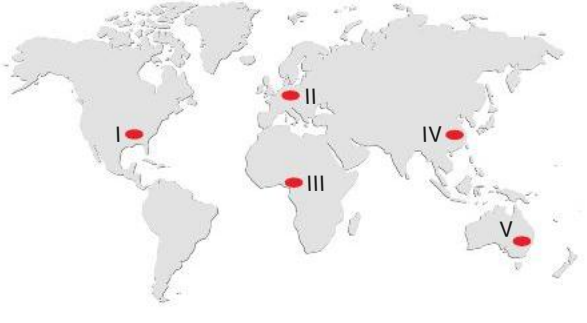

Haritada numaralandırılarak gösterilen yerlerin hangisinde sözü edilen duruma bağlı olarak nüfusun yoğunlaştığı söylenebilir?

A) I B) II C) III D) IV E) V

BİLGİ SARMAL

9.

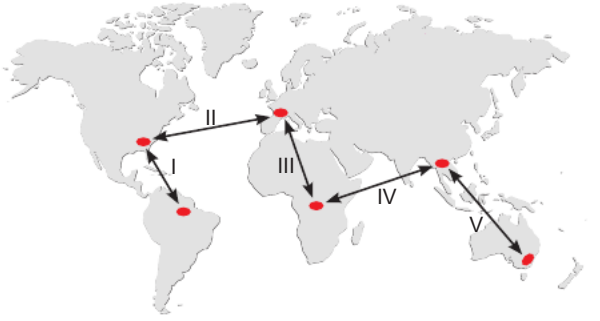

Haritada numaralandırılan bölgelerin hangisinde hava ulaşımı diğerlerinden daha fazladır?

A) I B) II C) III D) IV E) V

10. Aşağıdaki haritada bazı alanlar numaralandırılarak gösterilmiştir.

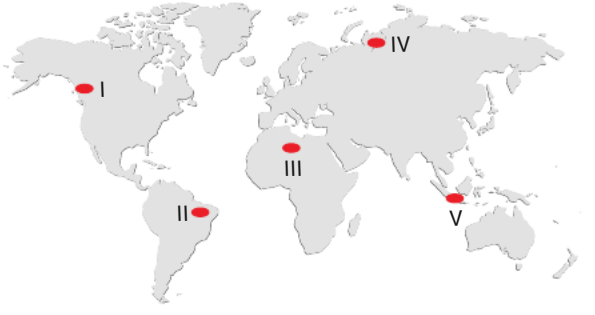

Bu alanların hangisinde afet oluşturabilecek büyüklükte; deprem, volkanik patlamalar ve şiddetli fırtınaların tümünün görülme olasılığı yüksektir?

A) I B) II C) III D) IV E) V

11. "Bir felsefe, ... Ele aldığı özel bir probleme getirdiği analitik ışık, aydınlatma bakımından özgün olabileceği gibi elde mevcut malzemeyi orijinal bir sentez içinde birleştirmesi bakımından da özgün olabilir. Hatta bu açıdan daha önceki filozofların öğretilerinde bulunan çeşitli görüş veya unsurları farklı bir düzenleme içinde sunan eklektik bir sistem de pekâlâ eklektik bir sistem olarak özgünlüğe sahip olabilir."

Bu parçada verilenler felsefenin hangi özelliği ile ilişkilendirilebilir?

A) Birikimli olma
B) Evrensel olma
C) Refleksif olma
D) Tutarlı olma
E) Merak ve hayrete dayanma

12. Kimileri sanatı sanat yapan özellikleri, yapıtı dış dünya ile olan ilişkilerinde arar. Kimileri sanatın ne olduğu sorusuna yanıtı sanatçıda arar. Sanatçının kişisel yaşantısı, duyguları yapıtına yansıdığı ölçüde o sanat yapıtı başarılı kabul edilir. Yine bir başka görüşe göre sanatın gerçekliği alımlayıcının heyecanında aranır. Bir diğer görüşe göre ise sanat yapıtının açıklanması, yorumlanması dışarıda bir yerde değil, yapıtın içindedir, biçimindedir. Sanatın özü yapıtın kendine özgü yapısında gizlidir.

Bu parçada vurgulanan düşünce aşağıdakilerden hangisidir?

A) Sanatın ne olduğuna kesin bir cevap verilemez.
B) Sanatta evrenselliği yakalamak zordur.
C) Sanatçı var olanı olduğu gibi aktarmak zorundadır.
D) Sanatta algılayan değil algılanan esastır.
E) Sanatın başarısı ele alınan konunun özgünlüğüne bağlıdır.

13. İnsan toplumunun tüm tarihsel gelişim seyri, yaşamın maddi açıdan yeniden üretimine ve dolayısıyla üretim, güç ve ilişkilerine göre biçimlenir. İnsan maddi açıdan nasıl yaşıyorsa öyle düşünecek ve eyleyecektir. Bir çoban çoban gibi düşündüğü için çoban değildir, tersine bir çoban gibi yaşadığı için bir çoban gibi düşünür. İnsanlar kendi yaşamlarını hangi üretim güç ve ilişkileri içinde sürdürüyorlarsa öyle düşünür ve davranırlar.

Bu parçada anlatılanlar aşağıdaki yaklaşımlardan hangisiyle paralellik gösterir?

A) Hermeneutik B) Nihilizm
C) Düalizm D) Materyalizm
E) İdealizm

BİLGİ SARMAL

14. Farklı iklimlerde ruhun nitelikleriyle insanın tutkuları birbirinden çok farklı olduğuna göre düzenlenecek kanunların da bu tutku ve niteliklerin farklılıklarına göre düzenlenmesi gerekir.

Montesquie bu görüşlerinde yasaların hangi yönünden söz etmiştir?

A) Fiziki koşullara göre değişiklik göstermesi gerektiği
B) Toplumsal düzeni sağlayan araçlar olması
C) Güçlü bir otoriteye dayanması
D) İnsan doğasından kaynaklanması
E) Farklı değerlerde olması

15. Locke "İnsan Zihni Üzerine Deneme" adlı yapıtında "Zihnin üzerinde hiçbir yazı bulunmayan, hiçbir tasarıma sahip olmayan beyaz bir kağıt gibi olduğunu varsayalım. Bunları nasıl kazanır? İnsanın her zaman meşgul ve sınırsız hayal gücünün kendisine hemen hemen sonsuz değişik biçimler verdiği bu geniş yığın, zihine nereden gelir? Zihin, aklın ve bilginin bütün malzemesini nereden alır? Buna tek sözcükle cevap veriyorum: "Deney" den. Bütün bilgimizin temeli deneydir ve o eninde sonunda deneyden çıkar."

Locke "İnsan Zihni Üzerine Bir Deneme" **adlı yapıtında belirttiği bu görüşlerle aşağıdakilerden hangisini savunmuştur?**

A) Deneyi yönlendiren akıl olduğu için bilgi akla dayanır.
B) Varlıkların sürekli değişmesi bilginin kesinliğini olanaksız hâle getirir.
C) Deneyim ve tecrübeler bilginin kaynağıdır.
D) İnsan kendisine sunulan her türlü bilgiden şüphe etmelidir.
E) Bilgi duyu ve akıl işbirliği ile kazanılır.

16. Güneydoğu Anadolu Bölgesi'nde 1995 yılında başlayan arkeolojik kazılar, bilim insanlarının uygarlığın kökeni üzerindeki düşüncelerini değiştirdi. Bu kazılar, insanlık tarihinin baştan yazılmasını gerekli kılacak kadar büyük önem taşımaktadır. Dekoratif yontulmuş taşları ve T biçimli sütunlarıyla 12 bin yıllık dairesel yapılar, Tarım Devrimi'nden ve hatta çanak çömlek yapımının icadından bile daha eskidir. Bu kadar eskiye dayandıkları için de tarımın uygarlığa yol açtığı fikri altüst olmuştur. (National Geographic Türkiye Dergisi, sy. Ocak 2016.)

Bu metin aşağıdakilerden hangisinin delilidir?

A) Bilimsel bilginin mutlak değil, değişebilir olduğunun
B) Vahiy olmadan bilginin bir anlam ifade etmediğinin
C) Aklın dini anlamada birinci koşul olduğunun
D) Bilginin gerçekliğinin bulunmadığının
E) Akıl, vahiy ve duyuların temel bilgi edinme yollarından olduğunun

17. Esma-i Hüsna olarak bilinen Yüce Allah'ın güzel isimleri, O'nu daha iyi tanımamızı sağlar. Bu isimlerden bazıları insanlarda da bulunabilen özelliklerle ilişkilendirilebilir. Burada dikkat edilmesi gereken Yüce Allah'a ait bu özelliğin insanınkinden farklı olmasıdır. Örneğin "Semi" Allah'ın işitmesini, "Basar" O'nun görmesini ifade eden isimlerdir. Allah, insana da görme ve işitme yetisi vermiştir. Ancak insanın işitmesi ve görmesi zaman, mekân, ışık, ses gibi, birtakım etkenlerle sınırlandırılmışken; Allah'ın özelliklerinde böyle bir sınır söz konusu değildir. Bu sebeple Allah'ın bu isimleri "Her şeyi duyan, her şeyi işiten" gibi genel ifadelerle anlaşılmalıdır.

Bu parçada anlatılmak isteneni ifade eden <u>en genel</u> yargı aşağıdakilerden hangisidir?

A) Allah'ın her şeye gücü yeter.
B) Allah, yarattıklarına benzemez.
C) İnsan, yaratılanların en şereflisidir.
D) Allah, insandan yapamayacağı şeyleri istemez.
E) Allah'a ait özellikler başka varlıklarda da bulunur.

18. İslam dininde, ibadetlerin insan davranışları üzerindeki etkisi önemli bir yer tutar. Kur'an-ı Kerim'de "…Namaz insanı kötülüklerden alıkoyar…" (Ankebut; 45) buyrularak namaz kılan kişinin kötü iş ve davranışlardan uzak durması gerektiği bildirilmiştir. Yine zekât ibadeti insanı cömertliğe ve yardımseverliğe yöneltir. İsrafı önler. İnsanın, kendisini başkalarının yerine koyabilmesini sağlayarak empati duygusunu güçlendirir. Oruç, sabrı öğretir. Hac, dil ve ırk ayrımı yapmaksızın Müslümanlar arasındaki kardeşliğe katkı sunar. Tüm bu ibadetler, insanın daha bilinçli bir yaşam sürmesine yardımcı olur.

Bu parçada aşağıdakilerden hangisi vurgulanmaktadır?

A) İman bilgi ilişkisi
B) İman amel ilişkisi
C) İman ibadet ilişkisi
D) İbadet ahlak ilişkisi
E) İbadet samimiyet ilişkisi

19 ve 20. soruları aşağıdaki parçaya göre cevaplayınız.

Peygamberimiz döneminde, Mahzumoğulları kabilesine mensup soylu bir kadın hırsızlık yapmış ve suçu sabit olmuş, cezalandırılmasına karar verilmişti. Kadının kabilesinden olan bazı kişiler, onun affedilmesi için Peygamberimize müracaat etmeye karar verdiler. Ancak doğrudan ona bir şey söylemeye cesaret edemedikleri için, Peygamberimizin çok sevdiği, oğlu gibi gördüğü, Zeyd b. Sabit'in oğlu Üsame'yi araya koydular. Peygamberimiz tarafından çok sevilen Hz. Üsame, durumu ona arz etti. Olay karşısında Peygamberimiz çok üzüldü ve şu net tavrı gösterdi: "Ey Üsame! Sen kötülükleri önlemek üzere Allah'ın koymuş olduğu cezalardan birinin affı hakkında mı benimle konuşuyorsun? Sizden önceki insanları helak eden, içlerinden zengin ve soylu birisi suç işlediği zaman onu cezasız bırakmaları, fakir ve zayıf biri suç işleyince de onun hakkında ceza uygulamaları idi. Vallahî, bu suçu işleyen Mahzum kabilesinden Fatıma değil, kızım Fatıma bile olsa, ayrım yapmaz ve cezasını verirdim!"

19. **Bu parçada aşağıdaki ahlaki ilkelerden hangisi vurgulanmaktadır?**

A) Dürüstlük
B) Güvenilirlik
C) Adalet
D) Sabır
E) Dayanışma

20. **Bu olayda Peygamberimizin göstermiş olduğu tavır günümüz evrensel hukuk ilkelerinden hangisiyle doğrudan ilişkilendirilebilir?**

A) Suçu ispatlanıncaya kadar herkes masumdur.
B) Kanun önünde her insan eşit muamele görür.
C) Savunma hakkı kutsaldır.
D) Suç ve ceza orantılıdır.
E) Her insan ifade özgürlüğü hakkına sahiptir.

BİLGİ SARMAL

Bu testte sırasıyla, Tarih (1 – 5), Coğrafya (6 – 10), Felsefe (11 – 15), Din Kültürü ve Ahlak Bilgisi (16 – 20) dersi olmak üzere toplam 20 soru vardır.

1.

"Tanrı buyurmuş size yeryüzünü al diye!
Başımla kut'umu da veriyorum al diye!
Gökteki Güneş ise yurdun bayrağı olsun,
İlimizin çadırı, yukarıdaki gök olsun.
Dünya devletim olsun,
Halkımız da çok olsun!
O hâlde sayılırım ben bir dünya kağanı,
Bana bağlıdır artık, dünyanın her dört yanı"

Oğuz Kağan Destanı'nda yer alan bu dizelerde Türklerdeki;

I. ikili sistem,
II. cihan hâkimiyeti,
III. ordu-millet

anlayışlarından hangilerine vurgu yapıldığı söylenebilir?

A) Yalnız I B) Yalnız II C) Yalnız III
D) I ve III E) II ve III

2. Çeşitli din, dil, milliyet ve kültüre mensup zümrelerden meydana gelen Osmanlı toplumu, hiçbir ayrım yapılmaksızın, eşitlikçi bir anlayışla huzur ve barış içerisinde yönetilmeye çalışılmıştır. Dinler arası çatışmayı ve hoşnutsuzluğu körükleyecek haksız bir uygulama söz konusu olmamıştır. Çeşitli dinî grupların, XIX. yüzyıla kadar Osmanlı yönetimine karşı herhangi bir başkaldırı hareketinin olmayışı, devlet yönetiminde söz konusu sistemlerin titizlikle uygulandığının en önemli göstergesidir.

Osmanlı Devleti'nin izlediği bu politikaların aşağıdakilerden hangisine ortam hazırladığı söylenemez?

A) Devletin uzun süre varlığını koruyabilmesine
B) Azınlıkların devlet yönetiminde söz sahibi olabilmesine
C) Toplumsal huzur ve refahın sağlanmasına
D) Gayrimüslimlerin millî kimliklerini koruyabilmesine
E) Halkın devlete olan bağlılığının kuvvetlenmesine

3. Osmanlılarda devlete ait toprakların kullanım hakkı; devletin denetiminde, üzerinde yaşayan halka aitti. Kiracı durumundaki halktan, toprağını sebepsiz yere işlemezse çiftbozan vergisi alınırdı. Ayrıca çiftçi toprağını üç yıl üst üste ekmezse o toprağa devlet el koyardı.

Osmanlı toprak sistemiyle ilgili bu bilgiler doğrultusunda, aşağıdakilerden hangisine ulaşmak mümkün değildir?

A) Devlet, toprak sisteminde belirleyici bir role sahiptir.
B) Toprağın mülkiyet hakkı, üzerinde yaşayan halkındır.
C) Köylü üzerinde güçlü bir denetim kurulmuştur.
D) Üretimde sürekliliği sağlamaya özen gösterilmiştir.
E) Toprağın her türlü denetimi devletin kontrolündedir.

4. I. Dünya Savaşı'nda Almanya, güçlü ve etkili denizaltılarıyla İngiltere'ye giden ABD'ye ait yardım gemilerini batırıyordu. Fakat bu durum devam ederse ABD, bir süre sonra Almanya karşısında savaşa katılabilirdi. Almanya bu durumu hiç istemediği için Meksika'yı ABD'ye karşı kışkırtmaya çalıştı. Böylece Meksika ile savaşacak olan ABD, I. Dünya Savaşı'ndan uzak kalacaktı. Ancak bu gizli planın ortaya çıkmasıyla ABD, İtilaf Devletleri safında savaşa dâhil oldu.

Bu bilgilere göre aşağıdakilerden hangisine ulaşılabilir?

A) Anlaşma Devletleri, ABD'nin katkısı ile savaştan galip olarak ayrılmışlardır.
B) Meksika ile ABD arasında uzun yıllar devam edecek mücadeleler yaşanmıştır.
C) Almanya, İngiltere ile tek başına savaşabilecek bir askerî güce sahip değildir.
D) Almanya, uygulamaya çalıştığı savaş stratejisinde başarılı olamamıştır.
E) Anlaşma Devletleri, ABD'nin savaşa girmesini engellemeye çalışmışlardır.

BİLGİ SARMAL

5. Osmanlı Dönemi'nde kadınlar;

- hukuk, eğitim ve sosyal alanlarda erkeklerle eşit haklara sahip olamamışlar,
- miras, boşanma, şahitlik, evlenmede rıza alınması gibi konularda ya geri bırakılmış ya da yok sayılmışlar,
- seçme ve seçilme gibi siyasi haklardan mahrum kalmışlardır.

Kadınlarla ilgili bu hususların Cumhuriyet Dönemi'nde değiştiğine aşağıdakilerden hangisi kanıt olarak gösterilemez?

A) 1935 seçimlerinde 18 kadın milletvekilinin meclise girmesi

B) Sabiha Gökçen'in 1937 yılında ilk kadın savaş pilotu ünvanını alması

C) Bedia Muvahhit'in 1923 yılında Ateşten Gömlek filminde rol alması

D) Müfide Ferit'in Türk Kadını dergisinde 1918 yılında köşe yazısı yazması

E) Gül Esin'in 1933 yılında ilk kadın muhtar seçilmesi

6. Yaşadığım yerde, günlük ve yıllık sıcaklık farkları fazladır. Kış mevsiminde yağan kar uzun süre yerde kalır. Dağların geniş yer tutmasından dolayı tarım alanları az ve ulaşım güçlükle sağlanır. Yakınımızdan geçen akarsudan hem içme suyu sağlar hem de tarımda sulama amacıyla yararlanırız. Ormanların üst sınırında yer alan dağ çayırları büyükbaş hayvancılık için oldukça elverişlidir.

Yukarıdaki paragrafta coğrafyanın hangi alt dalına değinilmemiştir?

A) Ekonomik coğrafya

B) Jeomorfoloji

C) Klimatoloji

D) Biyocoğrafya

E) Kartoğrafya

7. Aşağıdaki haritada bazı alanlar numaralandırılarak gösterilmiştir.



Numaralandırılan yerlerde yaygın olarak görülen toprak türü aşağıdakilerden hangisinde doğru verilmiştir?

	I	II	III
A)	Kahverengi orman	Çernozyom	Terra rossa
B)	Kahverengi bozkır	Çernozyom	Terra rossa
C)	Çernozyom	Podzol	Kahverengi bozkır
D)	Terra rossa	Kahverengi bozkır	Kahverengi orman
E)	Podzol	Terrarossa	Kahverengi orman

BİLGİ SARMAL

8. Aşağıda Türkiye'nin belirli yıllara ait nüfus artış hızı grafiği verilmiştir.

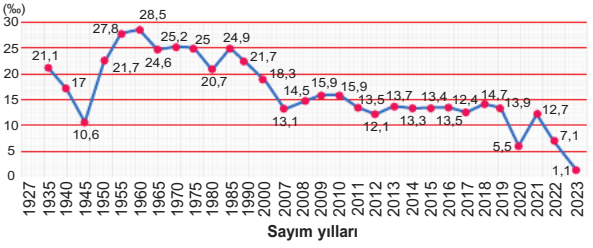

Grafiğe göre;

I. nüfus artış hızının bazı yıllarda artış gösterdiği,

II. nüfus miktarının bazı yıllarda azalış gösterdiği,

III. son yıllarda nüfus artış hızının genellikle değişmediği

yargılarından hangilerine ulaşılır?

A) Yalnız I B) Yalnız II C) I ve II

D) I ve III E) I, II ve III

9. Tarihi İpek Yolu, demir yolu hattıyla yeniden hayat buldu. 30 Ekim 2017 de ilk seferlerin gerçekleştiği Bakü-Tiflis-Kars demir yolu hattı sayesinde, Londra'dan kalkan bir tren Pekin'e kadar kesintisiz gidebilecek.

Aşağıdaki projelerden hangisinin hayata geçirilmesiyle, söz konusu Demir İpek Yolu'nun kesintisiz olması sağlanmıştır?

A) Osman Gazi Köprüsü

B) Marmaray

C) Bolu Tüneli

D) Fatih Sultan Mehmet Köprüsü

E) 18 Mart Çanakkale Köprüsü

10. Bitki örtüsünün zayıf olduğu alanlarda rüzgâra bağlı erozyon oluşur.

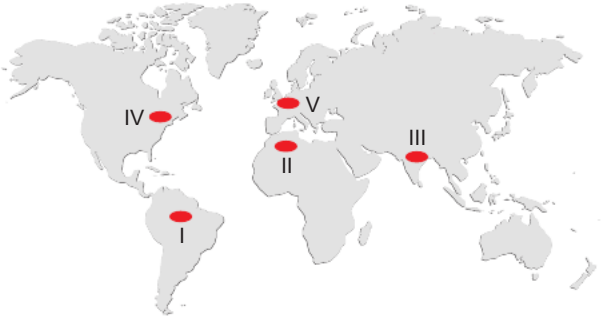

Buna göre, haritada numaralı alanların hangisinde rüzgâr erozyonu daha etkilidir?

A) I B) II C) III D) IV E) V

11. Platon'un en çok etkilendiği kişi kuşkusuz Sokrates'tir. Bu etki hem felsefi hem de kişisel bir etki olarak düşünülebilir. Nitekim Sokrates'in ölümü onda travmatik bir etki bırakmıştır. Böylesine 'düzgün', 'güzel' bir adamın Atina demokrasisi tarafından ölüme gönderilmesi, Platon'un demokrasiyle ilgili ön yargılarını oluşturmuştur diyebiliriz.

Bu parçadan aşağıdaki yargılardan hangisine ulaşılabilir?

A) Filozoflar deneyim ve yaşantılarına dayalı görüşler oluşturabilirler.

B) Filozofun görevi toplumsal problemlere çözüm üretmektir.

C) Felsefi birikimden beslenmeyen görüşlerin bir değeri yoktur.

D) Filozof görüşleriyle toplumsal yapıda köklü değişikliklere neden olur.

E) Filozoflar her zaman topluma ters düşen görüşler ileri sürmüşlerdir.

BİLGİ SARMAL

12. İnsan için doğru, ancak gördüğü, duyduğu, hissettiğidir; duyumlar da kişiden kişiye değiştiğinden, birinin mavi gördüğünü diğeri yeşil, birinin büyük gördüğünü başkası küçük gördüğünden, bundan, ne kadar kişi varsa o kadar da hakikat olduğu; kişinin doğrunun ve yanlışın ölçüsü bulunduğu, bütün insanlar için geçerli prensiplerin bulunmadığı ortaya çıkar.

Sofistlerin bu görüşlerinden aşağıdaki yargılardan hangisine ulaşılabilir?

A) İnsan sayısı kadar doğru vardır.
B) Genelin üzerinde uzlaştığı bilgi doğrudur.
C) Doğru bilginin kaynağı akıldır.
D) Bilgide doğruluk değil fayda esas alınmalıdır.
E) Duyu ve akıl birlikteliği doğru bilgiyi ortaya çıkarır.

13. İnsanın güzel bir orman ya da deniz manzarasına bakması ya da seyretmesi, oraya bir otel yapma amacını taşıyorsa bu ekonomik içerikli pratik bir tavır olacaktır. Fakat bir diğer kişi, söz konusu güzel orman ya da deniz manzarasına hiçbir pratik ilgi ve ahlaki yargı olmadan yalnızca zevk almak için bakıyorsa, estetik bir tavır ve deneyim içindedir. Bir doğa manzarasını ya da bir sanat yapıtını hiçbir pratik ve ekonomik beklenti ve ilgi olmadan algılamak, estetik bir algı ve deneyime işaret eder.

Buna göre estetik tavrın belirleyici özelliği aşağıdakilerden hangisidir?

A) Nesnede olanı yakalamaya çalışması
B) Çıkar gözetmeden güzeli araması
C) Sanatçıyla empati yapabilmesi
D) Doğal olana yönelmesi
E) Belirli bir sanatsal birikimi gerektirmesi

14. Her eser dönemin kendine özgü koşulları dikkate alınarak yorumlanırsa daha anlamlı olacaktır. Çünkü değişen sosyo-ekonomik vb kültürel, siyasi gelişmeler insanların bakış açılarını değiştirmektedir. Jeanrond'un belirttiği gibi; "Her okur, çeşitli açıklayıcı hareketler tarafından sınanan kendi özel okuma perspektifi tarafından bildirilen ve sevk edilen metni anlayacağından, böylece gerçekleşen metnin anlamı, her zaman bireysel okurların yeterliği ve performansına göre biçimlenecektir."

Bu metinde söz edilenler aşağıdaki yaklaşımlardan hangisi ile doğrudan ilişkilendirilir?

A) Hermeneutik
B) Yeni ontoloji
C) Varoluşçuluk
D) Diyalektik materyalizm
E) Mantıksal pozitivizm

15. Bilimi yapan ve yapacak olan varlıklar insanlardır. Her bilim insanının değerlerden tarafsız olma arzusunu taşıması ve bu arzuyu taşıyanların bunu başarabilme olasılığı oldukça düşük olacaktır. Yani ideal olarak bir değer tarafsızlığından söz etsek bile bunun uygulamada olması oldukça zordur.

Bu parçada bilimde hangi özelliği sağlamanın zorluğundan söz edilmiştir?

A) Olgusal olma
B) Tutarlı olma
C) Evrensel olma
D) Nesnel olma
E) Eleştirel olma

BİLGİ SARMAL

16. İslam dini kısa zamanda Arabistan Yarımadası'nın dışına yayıldı ve Suriye, İran, Irak, Mısır gibi bölgeler İslam coğrafyasının bir parçası hâline geldi. Bu bölgelerde yaygın olarak Hristiyanlık, Yahudilik, Mecusilik ve Zerdüştlük gibi inançlar hâkimdi. Müslümanlar fethettikleri bölgelerde bu din ve inanç mensuplarıyla bir arada yaşadılar. Dolayısıyla bazı Müslümanlar yaşadıkları coğrafyanın örf, âdet ve kültürlerinden etkilenerek İslam dininin anlaşılması, yorumlanması ve yaşanmasında farklı bir yaklaşım benimsediler. Ayrıca yeni Müslüman olanlar da dini anlamada eski inançlarının etkisinde kalmışlardı. Mesela hicri ikinci asırdan itibaren itikadi tartışma konuları arasında yer alan Allah'ın (c.c.) zatı ve sıfatları gibi konular İslamiyet'ten önce diğer din mensupları tarafından da tartışılmıştı.

Bu parçada aşağıdaki yargılardan hangisi vurgulanmaktadır?

A) İslam dini Hz. Peygamber döneminde geniş bir coğrafyaya yayılmıştır.

B) Farklı sosyal yapılar Müslümanların inanç sisteminin bozulmasına sebep olmuştur.

C) Kültürel değişim ve etkileşim dini yorum farklılıklarının sebeplerinden biridir.

D) Hristiyanlık ve Yahudiliğin birbiriyle benzeşen yönleri bulunmaktadır.

E) İtikadi mezhepler ibadetlerle ilgili sorular karşısında ortaya çıkmıştır.

17. "Ey iman edenler! Zannın çoğundan kaçının. Çünkü zannın bir kısmı günahtır. Birbirinizin kusurunu araştırmayın. Biriniz diğerinizi arkasından çekiştirmesin. Biriniz, ölmüş kardeşinin etini yemekten hoşlanır mı? İşte bundan tiksindiniz. O hâlde Allah'tan korkun. Şüphesiz Allah, tevbeyi çok kabul edendir, çok esirgeyicidir."

(Hucurât; 12)

Bu ayetin <u>öncelikle</u> aşağıdaki olumsuz davranışlardan hangisini engellemeyi amaçladığı söylenebilir?

A) Nankörlük B) Hırs C) Riya

D) İsraf E) Gıybet

BİLGİ SARMAL

18. "…Bu ay ve bu belde (Mekke) nasıl kutsal (korunmuş) ise canlarınız, mallarınız, namus ve şerefiniz de öylece mukaddestir (her türlü saldırıdan korunmuştur). Herkesin yaptığından kendisi sorumludur. Babanın işlediği suçtan oğlu sorumlu tutulmaz…"

(Hz. Muhammed, Veda Hutbesi)

Bu metinde aşağıdaki ilkelerden hangisi vurgulanmaktadır?

A) Suç ve ceza şahsidir.

B) Şüphe, sanık lehine işler.

C) Hüküm verecek kişi tarafsızdır.

D) Tüm insanlar kanunlar önünde eşittir.

E) Herkes hak arama hürriyetine sahiptir.

19. "Kur'an-ı Kerim, Allah'ın kitabıdır. Onda sizden öncekilerin bilgileri, sizden sonrakilerle ilgili haberler vardır. Ayrıca sizin aranızda meydana gelebilecek sorunların çözümü ondadır. O, doğru ile yanlışı birbirinden ayıran bir ölçüdür. O'nda her şey ciddidir, gayesiz bir kelam yoktur…"

Hz. Muhammed (s.a.v.)

Bu hadiste Kur'an-ı Kerim ile ilgili aşağıdakilerin hangisine değinilmemiştir?

A) İlahi kaynaklı olduğuna

B) Hakkı batıldan ayırdığına

C) Sosyal olaylarla ilgili hükümler içerdiğine

D) Bir amaca yönelik ve anlamlı sözlerden oluştuğuna

E) Kıyamet vakti ve alametleriyle ilgili bilgiler verdiğine

20. İslam'ı benimseyen ve bu dini bir yaşam tarzı hâline getiren Müslümanların, tarih boyunca farklı coğrafyalarda ortaya koydukları maddi ve manevi birikimlerin tümüne "İslam medeniyeti" denir. İslam medeniyetinin kaynağı vahiydir. Bu kaynaktan neşet eden bilgi ve irfan zamanla sanattan edebiyata, mimariden el sanatlarına, sözden müziğe Müslüman toplumların tüm eserlerinde kendini göstermiştir. İslam medeniyetinin oluşmasında özellikle Türk, Arap, Fars ve Hint kültürlerinin katkısı olmuştur. Müslümanlar, millet ve ümmet kavramlarını da İslam medeniyet kavramıyla ilişkili olarak kullanmışlardır. İslam milleti ya da İslam ümmeti denince, İslam medeniyetinin içine aldığı tüm milletlerin ruh ve ülkü birlikteliği de anlaşılır.

Bu parçadan İslam Medeniyeti ile ilgili olarak aşağıdakilerden hangisine çıkarılamaz?

A) Farklı kaynaklardan beslenmiştir.

B) İlahi emirler üzerine kurulmuştur.

C) Birden fazla coğrafyada kendini göstermiştir.

D) Sosyal hayatın birçok yönünde etkili olmuştur.

E) Irk taassubunu savunmuştur.

BİLGİ SARMAL

Bu testte sırasıyla, Tarih (1 – 5), Coğrafya (6 – 10), Felsefe (11 – 15), Din Kültürü ve Ahlak Bilgisi (16 – 20) dersi olmak üzere toplam 20 soru vardır.

1. Çinlilerin Juan Juan adını verdiği Avarlar, egemenlikleri altında yaşayan Kök Türklerin 552 yılında bağımsızlıklarını kazanmasından sonra zayıflayarak siyasi varlıklarını kaybetmişlerdir. Bu gelişme üzerine Avarların bir bölümü batıya göç ederek Orta Avrupa'ya yerleşmiş ve burada yeni bir devlet kurmuşlardır.

Bu bilgilerin;

I. Avarlar hem Asya'da hem de Avrupa'da devlet kurmuşlardır.

II. Avarların ana yurtlarından ayrılmasında Kök Türkler etkili olmuşlardır.

III. İslamiyeti benimseyen Avarlar, ulusal benliklerini korumuşlardır.

çıkarımlarından hangilerini doğruladığı söylenemez?

A) Yalnız I B) Yalnız II C) Yalnız III D) I ve II E) II ve III

2. **Gaznelilerin bağımsız devlet olmasında büyük etkiye sahip olan Sebük Tekin'in, oğlu Sultan Mahmut'a;** "Zulüm ve haksızlıkla bir malı alır ve hazinene koyarsan dünya ve ahiret düşmanım sen olursun. Halkın ekonomik durumundan haberdar ol ve ekonominin istikrarı için güvenilir adamlar tayin et. Hükümdarın en büyük düşmanının kendini beğenmişlik ve baskıcı yönetim olduğunu bil. Hak sahibinin hakkını ver. İktayı adaletli dağıt. Malı, senin ülkenin menfaati için çalışana bağışla..." **nasihatlarında bulunması;**

I. sosyal devlet anlayışı,

II. adaletli toplum yapısı,

III. aristokratik yönetim

unsurlarından hangilerinin sağlanmak istendiğine kanıt olarak gösterilebilir?

A) Yalnız I B) Yalnız II C) Yalnız III D) I ve II E) I, II ve III

3.



Abdülaziz adına düzenlenen ve sultanın da katıldığı Londra Guildhall'da gerçekleşen balo davetiyesi (1867)

Bu davetiye Osmanlı Devleti ile ilgili aşağıdakilerden hangisine kanıt olarak gösterilebilir?

A) Boğazlar Meselesi'nin çözüldüğüne

B) Meşrutiyet rejiminin ilan edildiğine

C) Denge siyasetinden vazgeçildiğine

D) Diplomasiye önem verildiğine

E) İlk dış borcun alındığına

4. Meclis çalışmaları esnasında hemen hemen hiç konuşmayan Tunceli Milletvekili Diyap Ağa, Meclisin Kayseri'ye taşınması tartışmaları sürerken söz istedi ve kürsüye çıktı. Salonu bir baştan bir başa süzdükten sonra: "Efendiler! Biz buraya kaçmaya mı geldik, yoksa dövüşerek ölmeye mi geldik?" dedi ve başka bir söz söylemeden kürsüden indi.

Diyap Ağa'nın yaptığı bu konuşma ve Meclis'te yaşanan gelişmelerde aşağıdakilerden hangisinin doğrudan etkisinin olduğu söylenebilir?

A) Ordunun temel ihtiyaçlarını karşılamak için Tekâlif-i Millîye Emirlerinin uygulanması

B) Sakarya Meydan Muharebesi'nde çok fazla kayıp verilmesi

C) Büyük Taarruz öncesi Mustafa Kemal'in başkomutanlık yetkisinin uzatılması

D) Fransa ile TBMM arasında Ankara Antlaşması'nın imzalanması

E) Kütahya-Eskişehir Muharebeleri'nde düzenli ordunun mağlup olması

BİLGİ SARMAL

5. Birinci Beş Yıllık Sanayi Planı, ekonomik kaynakların düzene sokulması ve devletçilik ilkesinin uygulanması açısından oldukça önemlidir. Birinci Beş Yıllık Sanayi Planı uzun bir hazırlık evresinden sonra 17 Nisan 1934'te yürürlüğe girmiş ve büyük oranda başarıyla yürütülmüştür. Plandan sonra Türkiye'de pek çok fabrika açılmış, bu başarının ardından da İkinci Beş Yıllık Sanayi Planı'nı hazırlamak için girişimler başlatılmıştır.

Buna göre Birinci Beş Yıllık Sanayi Planı'nın başarıya ulaşmasında;

I. liberal ekonomi politikalarının uygulanması,

II. ekonomik faaliyetlere devletin öncülük etmesi,

III. belli bir program çerçevesinde hayata geçirilmesi

durumlarından hangilerinin etkili olduğu söylenemez?

A) Yalnız I B) Yalnız II C) Yalnız III

D) I ve II E) II ve III

6. Aşağıdaki tabloda K, L ve M şehirlerinde, belirtilen tarihlerdeki gündüz süreleri verilmiştir.

Şehir	21 Mart	21 Haziran	23 Eylül	21 Aralık
K	12	14	12	10
L	12	16	12	8
M	12	11	12	13

Buna göre şehirlerin Ekvatora en yakından en uzağa doğru sıralanışı aşağıdakilerden hangisinde doğru verilmiştir?

A) K, L, M B) K, M, L C) L, K, M

D) L, M, K E) M, K, L

7. Ticaret yolları, yelkenli gemiler döneminde geniş alanlı rüzgâr sistemlerine bağlı olarak gelişmiştir.

Buna göre, Orta Amerika'dan Avrupa'ya giden yelkenli bir geminin hareketini sağlayan rüzgâr sistemi aşağıdakilerden hangisidir?

A) Alize rüzgârları B) Kutup rüzgârları

C) Batı rüzgârları D) Muson rüzgârları

E) Meltem rüzgârları

8.



Haritada numaralarla gösterilen alanların nüfus özellikleriyle ilgili olarak aşağıdakilerden hangisi yanlıştır?

A) I numaralı alanda sıcaklık ortalamaları düşük olduğundan nüfus seyrektir.

B) II numaralı alanda endüstri geliştiğinden nüfus yoğunluğu fazladır.

C) III numaralı alanda delta ovasının tarımsal verimliliğine bağlı olarak nüfus yoğundur.

D) IV numaralı alanda tarım ve endüstrinin gelişmesine bağlı olarak nüfus yoğundur.

E) V numaralı alanda yıllık yağış miktarı düşük olduğundan nüfus seyrektir.

9. Aşağıdaki haritada bazı alanlar numaralandırılarak gösterilmiştir.

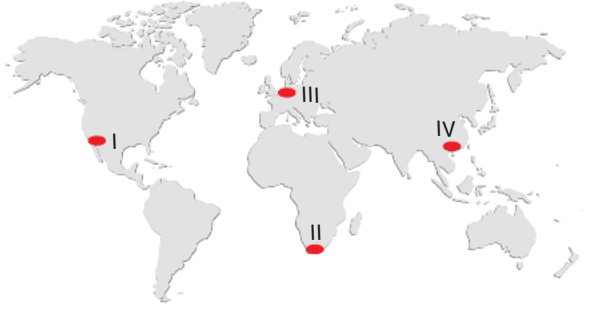

Bu alanlardan hangilerinin, Akdeniz ikliminin görüldüğü alanlar esas alınarak oluşturulacak doğal bölge sınırları içinde yer alması beklenir?

A) I ve II B) I ve III C) II ve III

D) II ve IV E) III ve IV

BİLGİ SARMAL

10. I. Volkanik patlamalar
II. Sel ve taşkın
III. Kasırga
IV. Heyalan

Yukarıdaki doğal afetlerden hangilerinin Türkiye'de görülme olasılığı daha azdır?

A) I ve II B) I ve III C) II ve III
D) II ve IV E) III ve IV

11. Descartes, varolan her şeyin ilk ilkelerinin ya da ilk nedenlerinin ruhta ya da zihinde bulunan gerçeklik tohumlarından farklı bir kaynaktan türemediğini Tanrı'nın bu ilke ve nedenleri doğuştan buraya koymuş olduğundan söz eder. Descartes'e göre duyuların insana verdiği bilgiler bir yana bırakılarak doğrudan zihinsel bilgiye, ruha, akla, zekâya dönmek gerekir. Çünkü bilinebilecek olan şeylerin tohumları olarak kavram ve düşünceler yalnızca zihinde doğal olarak verilmiş bulunurlar.

Bu parçada savunulan görüş aşağıdakilerden hangisidir?

A) Doğru bilgiye ulaşmak mümkün değildir.
B) Bilginin kaynağı düşüncedir.
C) Duyuların yetersizliği duyularla giderilir.
D) İnsan her şeyi bilmek konusunda yeterlidir.
E) Bilgi deneyim ve tecrübelere dayanır.

12. Bir ressam çeşitli renk ve figürlerle bir doğa manzarasını ya da insan bedenini taklit etmeye, resmetmeye çalışır. Bir tiyatro ya da roman yazarı, kendi yaşantısından süzdüğü bazı olayları tekrar dışavurmaya, farklı bir şekilde taklit etmeye çalışır. Bu bağlamda tüm sanatsal yaratım süreci, nesnel gerçekliği kendisine başlangıç noktası olarak almak durumundadır. Sanatsal etkinlik hem biçim hem de içerik açısından nesnel gerçeklikten, doğal malzemeden ayrı düşünülemez.

Bu parçada savunulan görüş aşağıdakilerden hangisidir?

A) Sanat, doğanın yansıtılmasıdır.
B) Sanat, içsel duyguların ortaya konulmasıdır.
C) Sanat, toplumsal problemlerin dile getirilme aracıdır.
D) Sanatı anlamak sanat tarihi ile olanaklıdır.
E) Sanatta esas olan öznedir.

13. Rönesans, keşifleri ve bilimsel gelişmeleriyle Orta Çağ'ın bilgiye duyduğu inancı sarsmış, inanılan kanılar (doksa) Antik Çağ'dan sonra yeniden sorgulanarak düşünce sahasında şüpheci bir tavrın alınmasına neden olmuştur. Bu tavır; dogmalardan akla uzanan, diğer bir deyişle kiliseden özneye varan bir hâldir.

Bu parçada Rönesans'ın hangi yönünden söz edilmiştir?

A) Çevirilerden beslendiği
B) Eleştirel olduğu
C) Yeni ve özgün kavramlar geliştirdiği
D) Orta Çağ felsefesinin devamı olduğu
E) Konu alanının sınırlı olduğu

14. Ben her bilim insanının kendi çalışmasında yapması gerekeni yaptım. Öncekilerin başarılarını minnettarlıkla karşıladım, onların yanlışlarını ürkmeden ortaya koydum, kendime gerçek olarak görüneni gelecek kuşağa ve sonrakilere emanet ettim.

Düşünürün bu görüşlerinden hareketle aşağıdaki yargılardan hangisine ulaşılabilir?

A) Bilimsel mirasa katkıda bulunmak esastır.
B) Bilimde deney ve gözlem yöntem olarak kullanılır.
C) Bilgi birikimini kullanmak yaratıcılığı engeller.
D) Her ulusun kendine özgü bilimi olamaz.
E) Bilim sonuçlarla anlam kazanan bir etkinliktir.

BİLGİ SARMAL

15. Egemenler; iktidarlarını geniş yığınlara onaylatmak, iktidarlarını korumak isteği içindedirler. Bu erekten dolayı egemenler, ön yargıları yaygınlaştırırlar. Ön yargılar, egemenlerin iktidarlarını sürdürmelerinin bir aracı olmaktadır. Ve yine egemenler, ön yargının aslında ne olduğunun bilincine sahiptirler. Böylece ön yargı, egemenlerin bilinçle başvurdukları, iktidarlarını sağlamlaştırmanın bir yalanı olmaktadır.

Bacon bu görüşlerinde aşağıdaki kavramların hangisinden söz etmektedir?

A) İdol B) Arkhe C) Töz
D) Episteme E) İdea

16. İslam dininin temel kaynakları Kur'an-ı Kerim ve Hz. Peygamber'in uygulamalarıdır. Hz. Peygamber hayattayken Müslümanların inanç ve ibadet alanıyla ilgili tüm sorunlarına çözüm getirdiği için Müslümanlar arasında dini konularda farklılaşmaya sebep olacak sistemli görüş ayrılıkları ortaya çıkmamıştır. Hz. Peygamber'in vefatından sonra İslam dini, Arap Yarımadası dışında da çeşitli bölgeler ve toplumlar arasında hızla yayılmış, böylece Müslümanlar farklı inanç, kültür, örf ve âdetlere mensup insanlarla karşılaşmışlardır. Yeni gelişmelerle Müslümanlar arasında ortaya çıkan siyasi ve dinî sorunlar ile bu sorunlara üretilen çeşitli çözümler, farklı yorumların ortaya çıkmasını da beraberinde getirmiştir. Böylece dinin anlaşılması ve uygulanmasıyla ilgili olarak zamanla, yorum veya ekol de diyebileceğimiz, fikrî ve beşerî oluşumlar ortaya çıkmıştır.

Bu parçada aşağıdaki kavramlardan hangisi vurgulanmaktadır?

A) İtikat B) Fıkıh C) Mezhep
D) Din E) Vahiy

17. İsraf genel olarak tutum ve davranışlarda ölçü dışına çıkmaktır. Yaygın olarak maddi olanakları gereksiz yere tüketmek ve savurganlık anlamında kullanılır. İsraf eden kimseye müsrif denir. Kur'an-ı Kerim'de Yüce Allah'ın ölçüsüz davrananları sevmediği belirtilir. İsrafın, nimetlere nankörlük olduğunu iyi bilen Hz. Peygamber Müslümanları bu konuda uyarmış, değeri bilinmeyen nimetin insanın elinden alınabileceğini belirtmiştir.

Bu parçadan aşağıdakilerden hangisine ulaşılamaz?

A) İsrafın tanımının ne olduğuna
B) İslam'ın ölçülü bir hayatı tavsiye ettiğine
C) Allah'ın verdiği nimetlerin kıymetinin bilinmesi gerektiğine
D) Zaman israfının kişiyi helake sürükleyebileceğine
E) Maddi olanakların yerinde kullanılmasının önemine

18. İslam dini bireysel ve sosyal hayatla iç içedir. Bu sebeple her çağda ve her yerde geçerli evrensel değerleri vardır. Tarihte olduğu gibi günümüzde de Müslümanlar, gelişen ve değişen zamanın etkisiyle çeşitli problemlerle karşılaşmaktadır. İslam'ın özüne aykırı hareket etmemek için bu güncel dini meselelerin çözümünde mutlaka gözetilmesi gereken birtakım temel ilkeler bulunur.

Aşağıdakilerden hangisi bu parçada sözü edilen ilkelerden biri değildir?

A) İnsan fıtratıyla çelişmemek
B) Sorunlara bütüncül yaklaşmak
C) Dinin kesin hükümlerine aykırı olmamak
D) İslam'ın temel amaçlarına uygun hareket etmek
E) Helaller ve haramları çağa göre yeniden düzenlemek

BİLGİ SARMAL

19. İslam dininde iman ve ibadet salt söz ve şekle indirgenebilecek kavramlar değildir. Allah'a inanan ve ibadet eden Müslüman bunu hayatının her alanında hissettirmelidir. Zira ibadetler, kişiyi yanlış işlerden uzak tutmuyor ve başkalarına zarar vermesine engel olmuyorsa tam olarak amacına ulaşamamış demektir. Günde beş vakit Allah'ın huzuruna çıkan, oruç tutan, zekât ve sadaka ibadetlerini yerine getiren bir Müslüman bu ibadetlerin kazandırdıklarını tüm hayatına aktarabildiğinde gerçek manada Allah'ın rızasına ulaşmış olacaktır.

Bu parçada verilmek istenen temel düşünce ile aşağıdaki ayetlerden hangisinin mesajı örtüşmektedir?

A) "Kitaptan sana vahyedilenleri oku, namazı özenle kıl. Kuşkusuz namaz hayâsızlıktan ve kötülükten meneder. Allah'ı anmak her şeyden önemlidir. Allah yaptıklarınızı bilir."
(Ankebût; 45)

B) "Sana ölüm gelinceye kadar Rabbine ibadet et."
(Hicr; 99)

C) "Kullarım, beni senden sorarlarsa, (bilsinler ki), gerçekten ben (onlara çok) yakınım. Bana dua edince, dua edenin duasına cevap veririm. O hâlde, doğru yolu bulmaları için benim davetime uysunlar, bana iman etsinler."
(Bakara; 186)

D) "Allah'ı bırakıp da -yakarmasından habersiz olduğundan- kıyamete kadar kendisine cevap veremeyecek olan şeylere ibadet ve dua eden kimseden daha şaşkın kim vardır?"
(Ahkâf; 5)

E) "De ki: "Kuşkusuz ben, kendisine içten bir inanç ve bağlılık göstererek Allah'a ibadet etmekle yükümlü kılındım."
(Zümer; 11)

20. Günümüzde ortaya çıkan meselelerden biri de kan bağışının dini açıdan değerlendirilmesidir. Kan bağışı, kan verilmesi gereken bir hastaya, sağlıklı bir insandan kan alınıp hastanın damarlarına bu kanın enjekte edilmesiyle gerçekleşir. Bu uygulamada dinen herhangi bir sakınca bulunmamaktadır. Günümüzde çeşitli sebeplerle bir anda kan ihtiyacı ortaya çıkabilmektedir. Bu duruma önlem alabilmek için başta Kızılay olmak üzere yetkili kuruluşlar insanları kan bağışına yönlendirmektedir.

Bu parça İslam'ın güvence altına aldığı beş temel değerden hangisiyle ilişkilidir?

A) Neslin korunması
B) Canın korunması
C) Malın korunması
D) Dinin korunması
E) Aklın korunması

BİLGİ SARMAL

Bu testte sırasıyla, Tarih (1 – 5), Coğrafya (6 – 10), Felsefe (11 – 15), Din Kültürü ve Ahlak Bilgisi (16 – 20) dersi olmak üzere toplam 20 soru vardır.

1. Hammurabi, hazırlattığı kanunnamenin giriş bölümünde tanrılar tarafından seçildiğini ve çıkardığı kanunların kendisine Güneş Tanrısı Şamaş tarafından verildiğini belirterek şunları söylemiştir: "…Enlil'in çağırdığı Çoban Hammurabi'yim ben. Babil'in adını büyüten, efendisi Marduk'un gönlünü hoş eden, halkına bolluk suyu temin eden, memleketin koruyucusu, kralların kralıyım ben. Marduk insanları doğru idare etmek ve memleketin idaresini ele almakla beni görevlendirdiği zaman memleketin diline doğruluk ve adalet koydum."

Buna göre Babil Kralı Hammurabi ile ilgili aşağıdakilerden hangisi söylenemez?

A) Meşruiyetini ilahi bir güce dayandırmıştır.

B) Sosyal devlet anlayışını benimsemiştir.

C) Dine dayalı bir hukuk anlayışı oluşturmuştur.

D) Soylu sınıfın yönetimdeki etkisini arttırmıştır.

E) Monarşiye dayalı bir rejim uygulamıştır.

2. Türklerin yaşadığı toprakları gezen Budist bir seyyah, Karaşar ve Kuca'da yapılan ticarette altın sikkeler, gümüş sikkeler ve küçük bakır sikkeler kullanılmakta olduğunu yazmış ve bu sikkelerle ilgili, "Altın sikkeler Bizans Solidi, gümüş sikkeler Sasani, küçük bakır sikkeler ise Çin Wuzhu sikkeleriydi. Bu sikkeler dışında yerel bakır sikkeler de kullanılmaktaydı." demiştir.

Bu bilgilere göre Türklerle ilgili aşağıdaki yargılardan hangisine ulaşılabilir?

A) Madencilik alanında Çinlilerden etkilendiklerine

B) Komşu devletlerle ticari ilişkiler kurduklarına

C) Tarım ürünleri satıp hayvansal ürünler aldıklarına

D) Sosyal devlet anlayışını benimsediklerine

E) Ticari faaliyetlerde Orta Asya ile sınırlı kaldıklarına

3.

Osmanlı Devleti'nin Kırım Savaşı esnasında Fransa ve İngiltere'den ilk dış borcunu alması

↓

1879 tarihine kadar Avrupalı devletlerden 17 kez borç alınması

↓

Osmanlı Devleti'nin Muharrem Kararnamesi'ni ilan etmesi

↓

---- kurulması

Bu diyagramda boş bırakılan yere aşağıdakilerden hangisi getirilmelidir?

A) Osmanlı Bankası'nın

B) Düyun-ı Umumiye'nin

C) Millî İktisat Nezareti'nin

D) Millî Mahsulat Anonim Şirketi'nin

E) Nafia Vekaleti'nin

4. Bir tarihçi, Atatürk Dönemi'nde Türkiye'deki ekonomi politikaları ile ilgili makale hazırlayacaktır.

Tarihçinin hazırlayacağı çalışmada aşağıdaki ifadelerden hangisini kullanması doğru olmaz?

A) Siyasal bağımsızlık, ekonomik bağımsızlıkla desteklenerek tam bağımsızlığa ulaşılmaya çalışılmıştır.

B) Alınan tedbirler sonucunda Türkiye, birçok alanda kendine yetecek bir konuma gelmiştir.

C) Bu dönemde kurulan İş Bankası, ticaret ve sanayi yatırımlarını desteklemiş, daha sonra kurulan bankalara da örnek olmuştur.

D) Aşar vergisinin kaldırılmasıyla devlet, en büyük vergi kaynağından vazgeçmiştir. Çiftçiye verimli üretim yapma yolu açılmıştır.

E) 1929 Dünya Ekonomik Krizi'nden sonra Türkiye, Avrupa ülkelerine yüklü miktarda borç vermiştir.

BİLGİ SARMAL

5.



1930'lu yıllarda Avrupa'da siyasi rejimler

Haritadaki bilgiler dikkate alındığında aşağıdakilerden hangisine ulaşılamaz?

A) Almanya ve İtalya'da baskıcı yönetim anlayışının benimsendiğine

B) Akdeniz'e kıyısı olan ülkelerde demokratik rejimlerin yaygın olduğuna

C) Bazı ülkelerde krallık ve demokratik rejimlerin birlikte uygulandığına

D) Balkan devletlerinde genellikle otoriter rejimlerin etkili olduğuna

E) Fransa ve İsviçre'de monarşiye dayalı yönetimin uygulanmadığına

6. Yıllık yağış miktarının fazla olduğu iklim bölgelerinde toprağın daha fazla yıkanmasından dolayı toprak içerisinde tuz ve kireç oranı daha azdır.

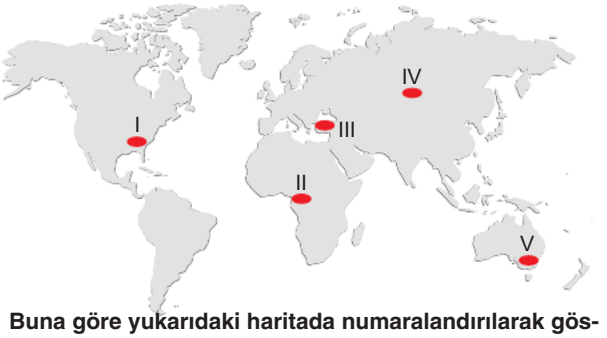

Buna göre yukarıdaki haritada numaralandırılarak gösterilen yerlerden hangisinde toprak içerisinde tuz ve kireç oranı daha azdır?

A) I B) II C) III D) IV E) V

7.

Milletler Ligi Finali

Türkiye 3 - 1 Çin (Maç sonucu): Filenin Sultanları'ndan tarihi başarı!
−5. saat diliminin merkez boylamının yerel saatini kullanan Arlington'da (Texsas/ABD) 16 Temmuz Pazar günü 17.30'da başlayan büyük mücadeleyi A Milli Kadın Voleybol Takımımız, Çin'i setlerde 3-1 yenerek şampiyon oldu. Dünyanın birçok ülkesinde canlı olarak izlenen bu mücadelede FIVB Milletler Ligi'nde ikinci kez finale çıkan A Milli Kadın Voleybol Takımımız, şampiyonluk madalyasını kazanarak bir ilki başardı.

Haber metnine göre 3.saat diliminin merkez boylamının yerel saatini kullanan Türkiye'de bu başarılı mücadele canlı olarak hangi tarih ve saatte izlenmiştir?

A) 16 Temmuz 22.30

B) 17 Temmuz 17.30

C) 16 Temmuz 17.30

D) 17 Temmuz 01.30

E) 16 Temmuz 09.30

BİLGİ SARMAL

8. İnsanların herhangi bir sebepten dolayı yaşadıkları yeri terk ederek başka bir yere kalıcı şekilde yerleşmesine ya da geçici şekilde yer değiştirmesine göç denir. Göçler; doğal, siyasi, sosyal veya ekonomik nedenlerden dolayı gerçekleşebilir.

Buna göre aşağıdakilerden hangisi göçlerin ekonomik nedenlerine örnek verilebilir?

A) Kültürel farklılıkların etkisi
B) Toprakların miras yoluyla parçalanması
C) Su kıtlığının yaşanması
D) Sınır değişikliklerinin yapılması
E) Daha iyi yaşam koşullarının tercih edilmesi

9. **Aşağıdaki ülkelerden hangisi okyanuslara açılabilmek için İstanbul ve Çanakkale boğazlarını kullanmak zorunda değildir?**

A) Gürcistan B) Rusya C) Romanya
D) Bulgaristan E) Ukrayna

10. Doğa olaylarının afete dönüşmesinde; jeomorfolojik, jeolojik klimatolojik özelliklerin yanında beşerî faaliyetlerin de etkisi bulunmaktadır.

Buna göre;

I. hortum,
II. orman yangını,
III. tusunami,
IV. sel ve taşkın

afetlerinden hangilerinin meydana gelmesinde beşerî faaliyetlerin etkisi fazladır?

A) I ve II B) I ve III C) II ve III
D) II ve IV E) III ve IV

11. Resim yapmak için renkler ve şekillere; renkler ve şekillerden oluşan resimler yapmak için boya, fırça ve tuvallere ihtiyaç duyarız. Müzik yapmak için seslere ve ses çıkarmaları için çeşitli müzik aletlerine ihtiyaç duyarız. Şiir yazmak için duygu, düşünce ve metaforlara; duygu, düşünce ve metaforlar için dile ve sözcüklere; dil ve sözcükler için harfleri ve imlayı sembolize eden fiziksel şekillere ihtiyaç duyarız.

Bu parçadan hareketle aşağıdaki yargılardan hangisine ulaşılabilir?

A) Her sanat kendine özgü araçlarla ortaya çıkar.
B) Sanat dalları birbirlerini tamamlar.
C) Sanat dalları arasında ayrım yapmak doğru değildir.
D) Farklı araçlarla da olsa her sanat dalı aynı şeyi ifade eder.
E) Görsel sanatlar her zaman daha kalıcıdır.

12. Varlık ancak özne tarafından algılanıyorsa gerçektir ve düşünen ruh, bilginin özünü oluşturmaktadır. Varlığın bilgisi mekân, zaman ve toplumsal sınırlamalardan yalıtılmış soyut öznenin bilinç yapısına göre şekillenmekte ve öznelerin farklı ahlaki değerleri, seçimleri, sezgileri ve akıl yapıları gerçekliği göreli, parçalı ve çoklu kılmaktadır.

Bu parçada savunulan düşünce aşağıdakilerden hangisidir?

A) Varlık, maddeden oluşmuştur.
B) Varlığı bilmek olanaksızdır.
C) Varlıkta esas olan ideadır.
D) Varlıkta değişme esastır.
E) Varlığın gerçekliği insandan bağımsızdır.

BİLGİ SARMAL

13. Aydınlanmacılar, aklın evreni anlayabileceği ve evrenin insan ihtiyaçlarına boyun eğeceği inancına sıkıca tutundular. Akıl, büyük ölçüde önceki yüzyılların bilimsel başarılarından esinlenen bu filozofların tanrısı hâline geldi. Bu başarılar onları, fizik bilimlerinin kavram ve tekniklerini kullanarak, tabii kanunların evrensel uygulanabilirliği üzerine kurulu, evrenin yeni bir tanımına götürdü ve onlar, akıl ve gerçek üzerine kurulu yeni bir dünya meydana getirme işini tanzim ettiler. Fakat vahiy, gelenek veya kudretten ziyade, kendisinin çifte direği olan akıl ve gözlem üzerinde temellenen gerçek, bu dönemin entelektüellerinin en önemli amacı hâline geldi.

Bu parçada Aydınlanma felsefesinin hangi yönü üzerinde durulmaktadır?

A) Doğanın insana ait yetilerce bilinebileceğini savunması
B) İnsanın sınırları olan bir varlık olarak görülmesi
C) Önceki felsefelerin devamı olarak ortaya çıkması
D) Aklın önüne inancı alması
E) Doğal düzenin önüne geçilemeyeceğini savunması

14. Hume, gözlem sayısı ne kadar çok olursa olsun, mantıkça sınırsız bir genel önermeye varılamayacağını söyler. Hume'a göre, gözlem yeterince sık olursa, bundan bir genel önerme çıkarılabilir. Fakat bu mantıki değil, psikolojik bir olgudur. Geleceğin, tabiat kanunlarının düzenliliğine uygun olarak, geçmiş gibi olacağı ispat edilemez. Çünkü gelecek gözlemlenemez, mantıkla, akıl yürütülerek de ispatlanamaz.

Hume'un bu görüşleri;

I. bilimsel yasaların kesinliğinin tartışılmasına,
II. insanların bilimden uzaklaşmasına,
III. bilimin gelişim hızının yavaşlamasına

unsurlarından hangilerine yol açmıştır?

A) Yalnız I B) Yalnız II C) Yalnız III
D) I ve II E) II ve III

15. Ahlaki inançlar, yargılar ve argümanlar; bilimsel yargılarla, argümanlardan tamamen farklıdır. İyi ve kötü, doğru ve yanlış gibi ahlaki terimler, bilimsel terim ve yüklemlerin tam tersine, doğal özellikleri göstermezler; aynı şekilde moral yargılar da ne matematiksel bilimlerdeki yargılara benzer bir biçimde kanıtlanabilir ne de doğa bilimlerindeki yargılara benzer bir şekilde gözlem veya deneyim yoluyla doğrulanabilir.

Bu parçada ahlaki yargıların hangi özelliğe sahip olduğu savunulmaktadır?

A) Nesnel olma
B) Tutarlı olma
C) Kanıtlanabilir olma
D) Toplumsal ilişkileri düzenleme
E) Göreceli olma

16. İnsanların düşünme ve anlama yetenekleri birbirinden farklıdır. İnsanın içinde bulunduğu psikolojik, sosyal, kültürel ve ekonomik şartlar, onun din anlayışı üzerinde etkili olur. Bu durum, dinin farklı anlayış ve uygulama biçimlerinin ortaya çıkmasına zemin hazırlamıştır. Din, Allah'ın (c.c.) peygamberler aracılığıyla insanlara gönderdiği ilahi mesajları içerirken din anlayışı bu mesajların insanlar tarafından içinde bulundukları şartlara göre algılanma ve yorumlanma biçimlerini ifade eder. Bundan dolayı din tek iken din anlayışları birden çok olabilir. Ayrıca din değişmez, din anlayışı değişebilir. Dolayısıyla dinin yanlış anlaşılmasından kaynaklanan sorunlar, dine mâl edilemez.

Bu parçadan aşağıdakilerden hangisi <u>çıkarılamaz</u>?

A) Din vahye dayanır.
B) Din anlayışları evrenseldir.
C) Din anlayışlarındaki farklılıklarda insan unsuru etkilidir.
D) Toplumsal ve kültürel şartlar din anlayışlarını etkiler.
E) Din anlayışı dinin bizatihi kendisi olarak kabul edilemez.

BİLGİ SARMAL

17. Yüce Allah tüm peygamberleri insanlar arasından seçmiştir. Bunun en temel nedeni, Peygamberlerin getirdikleri ilkelerin insanlar tarafından örnek alınabilmesini sağlamaktır. İnsanlığa örnek olarak sunulan son peygamber Hz. Muhammed de insani ve nebevi yönüyle ön plana çıkmaktadır. Burada önemli olan Hz. Peygamber'in de bizler gibi bir insan olduğunu göz önünde bulundurmakla beraber onun Allah'tan vahiy aldığını, dinin öncüsü ve öğreticisi olduğunu da unutmamaktır.

Bu parçada verilenleri destekleyen ayet aşağıdakilerden hangisidir?

A) "Biz seni başka değil, ancak müjdeleyici ve uyarıcı olarak bütün insanlara gönderdik; fakat insanların çoğu bunu bilmek istemiyorlar."
(Sebe'; 28)

B) "Muhammed içinizden hiçbir erkeğin babası değildir, fakat o Allah'ın elçisidir ve peygamberlerin sonuncusudur. Allah her şeyi bilmektedir."
(Ahzâb; 40)

C) "Doğrusu insanların İbrahim'e en yakın olanı, ona tâbi olanlar, şu Peygamber (Hz. Muhammed) ve iman edenlerdir. Allah da müminlerin dostudur."
(Âl-i İmrân; 68)

D) "(Ey Muhammed!) Şüphesiz sen öleceksin ve şüphesiz onlar da öleceklerdir. Sonra şüphesiz siz kıyamet günü Rabbinizin huzurunda muhakeme edileceksiniz."
(Zümer; 30-31)

E) "(Ey Muhammed) De ki: "Ben, yalnızca sizin gibi bir insanım. Şu var ki bana, ilâhınızın, sadece bir ilâh olduğu vahyolunuyor..."
(Kehf; 110)

18. Hz. Muhammed'in Suudi Arabistan'ın güneyinde, Yemen sınırındaki Hristiyan Necran'lılara yazdığı mektubun ardından onunla görüşmek için 60 kişilik bir din adamı grubu geldi. Necran heyeti ikindi namazından sonra Mescid-i Nebi'ye girdiler. İbadet vakitleri yaklaşmıştı. Kalkıp Rasulullah'ın mescidinde ibadetlerini edâya başladılar. Ashab onlara engel olmak istedi, fakat Rasulullah: "Onları bırakın." dedi. Bunun üzerine doğu istikametine yönelip ibadetlerini yerine getirdiler.

Bu uygulama İslam'ın aşağıdakilerden hangisine önem verdiğinin göstergesidir?

A) Yaşam hakkına
B) İnanç özgürlüğüne
C) Eğitim faaliyetlerine
D) Özel yaşamın gizliliğine
E) Ekonomik adalete

19. "Ey iman edenler! Kendinizi tanıtıp izin almadan ve içinde oturanlara selâm vermeden kendi evlerinizden başka evlere girmeyin. Sizin için daha iyi olanı budur; umulur ki düşünüp anlarsınız. Eğer o evlerde bir kimse bulamazsanız -size izin verilmedikçe- oralara girmeyin. Size "Kabul edemiyoruz, dönün." denirse hemen dönün; bu sizin için daha nezih bir davranıştır. Allah bütün yaptıklarınızı bilmektedir. İçinde kimsenin oturmadığı ve kendinize ait eşya bulunan evlere girmenizde sizin için bir sakınca yoktur. Allah açıkladığınızı da bilir, gizlediğinizi de!"
(Nûr; 27-29)

Bu ayetlerde aşağıdakilerin hangisinden sakınılması hususunda uyarıda bulunulmaktadır?

A) Mahremiyet ihlali
B) Gıybet ve iftira
C) Yalan ve hile
D) Haset
E) Kibir

20. Bir gün Medine'de bir kısım Yahudi din adamı Resulullah'a (s.a.v.) gelerek: "Ey Allah'ın Resulü biz, sana, kitabına, Musa'ya, Tevrat'a ve Üzeyr'e iman ediyoruz. Fakat bunların dışındaki kitapları ve peygamberleri tanımıyor ve kabul etmiyoruz." derler. Hz. Muhammed de (s.a.v.) "Hayır, Allah'a, bütün peygamberlerine, Muhammed'e ve kitabı Kur'an'a ve ondan önceki her kitaba iman ediniz." buyurur. Onlar ise bunu yapmayacaklarını beyan ederler. Bu olay üzerine Nisâ suresinin 136. ayeti nazil olur.

Bu parçadan aşağıdakilerin hangisine ulaşılamaz?

A) Allah'ın gönderdiği peygamberler arasında ayrım yapılamaz.
B) Hz. Üzeyr, kendisine kitap verilen peygamberlerdendir.
C) Kur'an'dan önce de ilahi kitaplar gönderilmiştir.
D) Yahudilerin bir kısmı Hz. Muhammed'in peygamberliğini kabul ettiklerini beyan etmiştir.
E) İnanç esasları bir bütün olarak ele alınmalıdır.

BİLGİ SARMAL

Bu testte sırasıyla, Tarih (1 – 5), Coğrafya (6 – 10), Felsefe (11 – 15), Din Kültürü ve Ahlak Bilgisi (16 – 20) dersi olmak üzere toplam 20 soru vardır.

1. Emevi Dönemi'nde Türkistan'a yaptığı seferler ve savaşlar ile ünlenen komutan Kuteybe bin Müslim: "Türkler vatanlarına çok bağlı olup onun için çırpınırlar. Basra'dan Umman Denizi sahiline götürülen ve iple bağlı olan bir deve nasıl fırsat bulunca kendi vatanına gitmek için inlerse Türkler de uzak memleketlere gittikleri zaman vatanı için bir devenin üzüldüğünden daha çok üzülürler. Zira Türkleri diğer milletlere üstün kılan amiller, vatanlarının hususiyetleridir ve bunu idrakleridir."

Bu bilgiye göre Türkler ile ilgili aşağıdakilerden hangisi söylenebilir?

A) Gaza düşüncesini benimsedikleri
B) Millî şuura sahip oldukları
C) İslam devletleri ile barışçıl ilişkiler kurdukları
D) Siyasi birliklerini sağlayamadıkları
E) Batı yönünde göç hareketlerinde bulundukları

2. Karahanlılarda çoğunlukla zengin Müslüman tüccarların sınır boylarında, ticaret yolları üzerinde ve bozkırlarda yaptırdıkları ribatlar hem tüccarlar ve gazilerin sığınağı hem de İslam davetçilerinin karargâhı idi. X. yüzyılda Maveraünnehir'de on bin civarında ribat bulunuyordu.

Bu bilgiye göre ribatlarla ilgili aşağıdakilerden hangisine ulaşılamaz?

A) Kervansarayların işlevini yerine getirdiğine
B) Derviş ve âlimlerin İslamiyet'i yaymalarına katkı sağladığına
C) Anadolu'nun Türkleşmesi sürecinde önemli bir yeri olduğuna
D) Ticari faaliyetleri kolaylaştırdığına
E) Toplumun farklı alanlardaki ihtiyaçlarına cevap verdiğine

3.



Sultan I. Bayezid'in Venedikli bir ressam tarafından çizilen portresi



Yavuz Sultan Selim'in, Nakkaş Osman tarafından yapılmış bir minyatürü

Görseller dikkate alındığında Osmanlı Devleti ile ilgili aşağıdaki yargılardan hangisine ulaşılabilir?

A) Tahta çıkan hanedan üyeleri her zaman resim sanatına önem vermişlerdir.
B) Sanatsal çalışmalar Ehl-i Hiref teşkilatı tarafından yürütülmüştür.
C) Osmanlı sanatının gelişmesinde İslam kültür ve medeniyetinin etkisi vardır.
D) Kuruluş dönemlerinden itibaren Avrupa tarzı sanat anlayışı benimsenmiştir.
E) Padişahlar görsel sanatlar ile ilgili çalışmalara karşı değildir.

4. Lozan Antlaşması ile çözüme kavuşturulan Boğazlar ve Hatay meselesi, II. Dünya Savaşı arifesinde tekrar gündeme gelmiştir. Bu dönemde Avrupa'da yaşanan devletler arasındaki siyasi gerginlikleri doğru okuyan ve akıllı bir politika takip eden Türkiye, yapılan antlaşmalarla Hatay ve Boğazlar üzerindeki egemenlik haklarını geri kazanmıştır.

Parçada yer alan altı çizili ifade ile aşağıdakilerden hangisi anlatılmak istenmiştir?

A) Birinci Dünya Savaşı sonrası Milletler Cemiyeti'nin kurulması
B) Almanya ve İtalya'nın yayılmacı bir politika izlemesi
C) 1929 Dünya Ekonomik Krizi'nin yaşanması
D) Ankara Antlaşması (1926) ile Musul'un kaybedilmesi
E) Türkiye ve Yunanistan arasında Nüfus Mübadelesi ile ilgili sorunlar yaşanması

BİLGİ SARMAL

Diğer Sayfaya Geçiniz.

5. Mustafa Kemal 1 Mart 1924 tarihinde yaptığı bir konuşmada, "Memleket kamuoyunda tartışılan eğitim ve öğretimin birleştirilmesinin zaman kaybetmeksizin uygulanması lüzumunun farkındayız. Bu yolda gecikmenin zararları ve bu yolda acele etmenin ciddi ve derin faydaları hızlı kararlara vesile olmalıdır." demiştir.

Mustafa Kemal'in bu sözleri doğrultusunda aşağıdaki inkılaplardan hangisinin gerçekleştirildiği söylenebilir?

A) Türkiye İktisat Kongresinin yapılması
B) Türk Dili Tetkik Cemiyetinin kurulması
C) Erkan-ı Harbiye Vekaletinin kaldırılması
D) Tevhid-i Tedrisat Kanununun çıkarılması
E) Köy Enstitülerinin açılması

6. Aşağıdaki haritada bazı yerler numaralandırılarak gösterilmiştir.



Numaralandırılan yerlerde yaygın olan doğal bitki örtüsü aşağıdakilerin hangisinde doğru verilmiştir?

	I	II	III
A)	Orman	Maki	Bozkır
B)	Maki	Orman	Bozkır
C)	Bozkır	Orman	Maki
D)	Orman	Bozkır	Maki
E)	Maki	Bozkır	Orman

7. **Türkiye'de yer alan akarsuların özellikleri ile ilgili olarak,**

I. Taşımacılık yapmaya elverişlidirler.
II. Genellikle geniş ve tabanlı vadilerde yavaş bir akışa sahiptirler.
III. Boyları kısa, su toplama havzaları küçüktür.
IV. Yağmur, kar, buz ve kaynak suları ile bazen de göl sularıyla beslenmektedirler.

yargılarından hangileri doğrudur?

A) I ve II B) I ve III C) II ve III
D) II ve IV E) III ve IV

8.

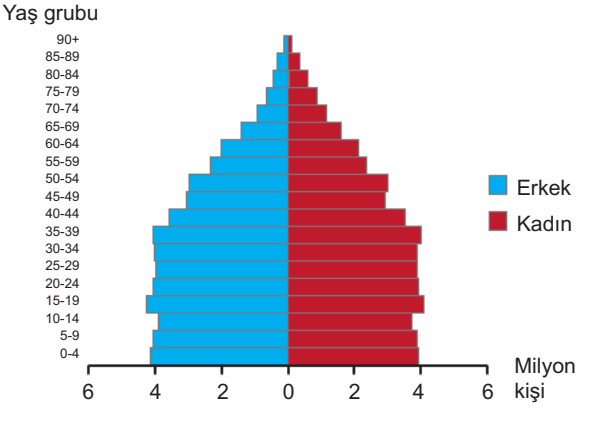

Yukarıda verilen nüfus piramidinden aşağıdakilerden hangisi hakkında bilgi elde edinilemez?

A) Aritmetik nüfus yoğunluğu
B) Nüfusun yaş gruplarına dağılışı
C) Bağımlı nüfus sayısı
D) Ortalama yaşam süresi
E) Nüfusun cinsiyet durumu

BİLGİ SARMAL

9. Sahip olduğu doğal ve beşerî özellikler dikkate alınarak dünya üzerinde şekilsel bölgeler oluşturulabilir. Bunlardan bazıları aynı zamanda birden çok şekilsel bölge içerisinde yer alabilir.



Buna göre haritada koyu renkle gösterilen alan aşağıdaki bölge türlerinden hangisi içerisinde yer almaz?

A) Yoğun nüfuslu bölge
B) Sanayi bölgesi
C) Batı kültür bölgesi
D) Göç alan bölge
E) Şiddetli deprem bölgesi

10.

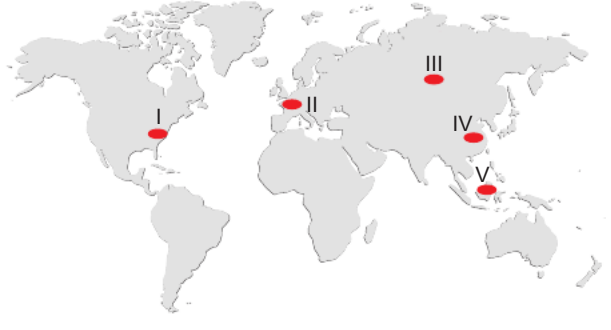

Haritada gösterilen alanların hangisinde kuraklık yaşamsal faaliyetleri diğerlerine göre daha az etkiler?

A) I B) II C) III D) IV E) V

11. Epiktetos, sorgulanmadan kullanılan terimlerin, anlamlarına bakılmaksızın yaşama tatbik edildiği için insanları yanlışa ya da tartışmaya sevk ettiğini söylemektedir. Ona göre güzel, iyi, kötü, doğru, yanlış gibi kavramlar anlamları bilinmeden herkesin rastgele kullandığı kavramlardır. Kavgalar, çatışmalar ve savaşlar hep bundan doğar. Biri bu doğrudur derken, başka biri doğru değildir dediği için anlaşma olmamaktadır. Öyleyse yanlışlarımızı önleyecek ve inançların delice atışlarından bizi kurtaracak olan kuralı aramak gerekmektedir. İşte bu sorgulamayı kazandıracak olan, görünüşlerin arkasındaki gerçekliği elde etme özelliği olan felsefedir.

Bu parçada felsefenin hangi işlevine değinilmiştir?

A) Yeni ve özgün kavramlar geliştirmesi
B) İnsanın öz bilincini geliştirmesi
C) Toplumsal hoşgörüyü geliştirmesi
D) Bilimsel sonuçların sentezini yapması
E) Terimlerin anlamlarına dair çözümlemeler yapması

12. A.Camus, *Denemeler* adlı eserinde "Sanat bence, en büyük sayıda insanı, ortak acılar ve sevinçlerle coşturacak görüntüleri, biçimleri bulmaktır. Demek ki sanat, sanatçıyı insanlardan ayrılmamaya zorlar; onu, en gündelik ve en evrensel gerçeğe bağlar. Ve çok kez, kendilerini başkalarından ayrı gördükleri için, sanatı seçenler kısa bir zaman sonra anlarlar ki, sanatlarını ve başkalıklarını ancak herkesle benzerliklerini ortaya koyarak gösterebilirler. Sanatçı, kendini bu başkalarına gidip gelme ile yoğurur." der.

Bu parçadan aşağıdaki yargıların hangisine ulaşılabilir?

A) Sanat, tek başına tadı çıkarılan bir şey değildir.
B) Sanat her şeyin üstünde düşünülmesi gereken bir etkinliktir.
C) Sanat eserinin güzelliği alımlayıcının değerlendirme biçimine göre değişir.
D) Sanatın işlevi toplumsal sorunlara çözüm bulabilmesidir.
E) Sanat eseri ancak içine doğduğu toplumda değer görür.

BİLGİ SARMAL

13. "Tanrı düşüncesi iyiliğin ta kendisidir ve bizler bunu çok iyi biliriz, çünkü hem kusursuz Efendimiz (Hz. İsa) tarafından vahiy edilmiştir hem de bize bir egemen tarafından buyrulduğu üzere O'nun iradesine tabiyiz. Ama sizin erdem anlayışınız insanidir; sorumluluğunu da insani bir otorite üstlenmiştir. Dolayısıyla tatbik ettiğiniz ahlak hem bütünlüğü itibariyle hem de erdemli bir yaşama ulaşmanın gereği olarak eksiktir/yetersizdir. İnsanoğlunun neyin iyi olduğuna işaret edebilecek akli kapasitesi, onu sahiplenme yetisinden daha fazla değildir; biri ne kadar kolay aldanabilirse, diğeri bir o kadar kolay küçümseyebilir." sözleriyle Tertullianus insanın Tanrı'yla olan ilişkisine dair savunusunu ortaya koymuştur.

Bu parçaya göre aşağıdaki yargılardan hangisine ulaşılabilir?

A) İyi bir insan olmanın yolu doğru kararlar vermektir.

B) Erdemli olmanın yolu Tanrı'nın vahiylerine göre eylemektir.

C) İnsan iyiyi faydasına göre belirler.

D) Ahlaklı olmak için hem inanmak hem de aklı kullanmak gerekir.

E) İnsan aklı iyiyi ortaya çıkarmada tek yoldur.

14. İnsanın uçma isteği belki de insanlık tarihi kadar eskidir. İlkel insanların, mağara duvarlarına yaptıkları resimler uçma hayallerinin göstergesidir. 11. yüzyılda İngiltere'de bir papazın kanat takarak manastırın tepesinden atladığı ve bacağını kırdığı bilinmektedir. İmam Cevheri de Nişabur'daki bir caminin damına çıkarak, vücuduna sardığı kanatla uçacağını ilan etmiş ve kendini boşluğa bırakarak hayatını kaybetmiştir. Bunlar ve benzeri birçok başarısız girişime rağmen insanlık uçma ile ilgili girişimlerinden vazgeçmemiş ve her denemede kendini biraz daha geliştirmiştir. Günümüzdeki havacılık faaliyetlerinde gelinen noktada her başarısız girişimin de katkısı olduğu bilinmektedir.

Bu parçada anlatılanlar bilimin hangi özelliğine örnek olarak gösterilebilir?

A) Nesnel olmasına

B) Sistemli olmasına

C) Olgusal olmasına

D) Birikimli olarak ilerleme

E) Varlığı bütünsel inceleme

15. Nietzsche, insanın ahlaki değerleri olduğu gibi benimsemesi yerine yeni değerler oluşturması gerektiğini savunur. İnsan, değerleri hazır bulmaz. Ona, iyinin kötünün ne olduğunu anlatacak ve açıklayacak üstün bir otorite yoktur. İnsan yapayalnızdır, hayatının anlamını ve bağlanacağı değerleri yeni baştan kendisi oluşturmak zorundadır.

Bu parçada vurgulanan düşünce aşağıdakilerden hangisidir?

A) Ahlaki değerleri oluşturan toplumsal yapıdır.

B) İyi ve kötünün ölçütünü belirleyen bir otorite olmalıdır.

C) İnsan bütün değerlerini özgürce oluşturmalıdır.

D) Ahlaki değerler nesnel bir özellik taşımaktadır.

E) İnsanın, değerleri hazır bulması üretkenliğini engeller.

16. "İyilik, yüzlerinizi doğu ve batı taraflarına çevirmeniz(den ibaret) değildir. Asıl iyilik, Allah'a, ahiret gününe, meleklere, kitap ve peygamberlere iman edenlerin; mala olan sevgilerine rağmen, onu yakınlara, yetimlere, yoksullara, yolda kalmışa, (ihtiyacından dolayı) isteyene ve (özgürlükleri için) kölelere verenlerin; namazı dosdoğru kılan, zekâtı veren, antlaşma yaptıklarında sözlerini yerine getirenlerin ve zorda, hastalıkta ve savaşın kızıştığı zamanlarda (direnip) sabredenlerin tutum ve davranışlarıdır. İşte bunlar, doğru olanlardır. İşte bunlar, Allah'a karşı gelmekten sakınanların ta kendileridir."

(Bakara; 177)

Bu ayetten aşağıdaki yargılardan hangisine <u>ulaşılamaz</u>?

A) Kur'an-ı Kerim'de inanç esasları hakkında bilgi verilmektedir.

B) İslam dini paylaşma ve yardımlaşmaya önem vermektedir.

C) Allah'a iman etmeyenlerin, yaptıkları iyi işler de boşa gitmektedir.

D) Müslümanlar ibadetlerine özen göstermelidir.

E) Yüce Allah, Müslümanlardan güvenilir olmalarını istemektedir.

BİLGİ SARMAL

17. Hz. Âdem'den (a.s.) Hz. Muhammed'e (s.a.v.) kadar bütün peygamberler İslam peygamberidirler. Çünkü bütün peygamberler insanları Allah'tan başka ilah olmadığı inancına çağırmışlardır. Bu inancın temelinde; Allah'ın (c.c.) tek olduğu, eşi, benzeri ve ortağının bulunmadığı, gücünün her şeye yettiği, inanılacak ve sığınılacak tek merciin Yüce Allah olduğu gerçeği bulunmaktadır.

Bu parçada aşağıdaki kavramlardan hangisi üzerinde durulmaktadır?

A) Ubudiyyet
B) Fıtrat
C) Tevhid
D) Akide
E) Tefsir

18. İbadetlerin temel amacı kişiyi Allah'ın (c.c.) rızasına ulaştırmaktır. Yüce Allah'ın insanın yapacağı ibadetlere ihtiyacı yoktur. İnsanların, emirlerine uymayıp yasaklarından kaçınmamasının O'na herhangi bir zararı olamaz. Ancak insan Allah'a (c.c.) olan şükrünü, sevgi ve saygısını gösterebilmek için ibadetlere ihtiyaç duyar. İbadetler, insanın ruhunu yüceltir, onu kötülüklerden arındırır. İbadetler, imanın kalpte kök salmasını sağlar. Çünkü ibadetler imanın yaşanması ve tadına varılması demektir.

Bu parçadan hareketle ibadet kavramıyla ilgili olarak aşağıdakilerden hangisi <u>söylenemez</u>?

A) İnsanları kötü iş ve davranışlardan uzak tutar.
B) İnsana zamanın değerini öğretir.
C) Allah'a olan bağlılığın göstergesidir.
D) İnsanın manevi yönüne hitap eder.
E) İmanın hayata geçirilmiş şeklidir.

19. Hz. Peygamberin vefatının ardından İslam dini yayılmaya devam etmiş, zamanla farklı kültür ve coğrafyalarda yaşayan birçok toplum İslamiyet'le tanışarak Müslüman olmuştur. Bu durum yaşamda karşılaşılan benzer problemlere farklı dini çözüm ve referanslar üretilmesine yol açmıştır. Geçmişleri, kültürleri ve yaşadıkları çağ farklı olan Müslümanların, karşılaştıkları dini soru ve sorunlara ürettikleri çözümler de doğal olarak farklılık göstermiştir. Burada göz ardı edilmemesi gereken en önemli nokta, bu çeşitli çözümlerin belli bir kritere dayanması, İslam'ın temel prensipleriyle çelişmemesidir. Bu sebeple tarih boyunca İslam dininin kesin ve değişmez ilkeleri korunmuştur.

Bu parçadan,

I. Din anlayışlarındaki yorumlar İslam'ın temel ilkelerine aykırı olmamalıdır.
II. Kültür, coğrafya ve zaman din anlayışlarının farklılaşma sebeplerindendir.
III. Hz. Peygamber döneminde de dini konularda farklı sistematik yorumlar ortaya çıkmıştır.

düşüncelerinden hangilerine ulaşılabilir?

A) I ve II B) I ve III C) II ve III
D) Yalnız I E) I, II ve III

20. Her milletin kendine has değerleri vardır. Bu değerler toplumda yaşayan bireylerin birlikte ve barış içinde yaşamasına katkı sağlar. Bir toplumda yaşayan insanların sahip oldukları farklılıkların çatışmaya dönüşmesini engelleyen temel etken o toplumun benimsediği ortak değerlerdir. Özgürlük, bağımsızlık, adalet, insan haklarına riayet gibi değerler topluma yön vererek farklılıkların çatışmaya değil zenginliğe dönüşmesini sağlar. Bu değerlerin bireyler tarafından benimsendiği toplumlarda, insanlar birbirlerine sevgi ve saygıyla yaklaşırlar. Bu da paylaşma, kaynaşma ve dayanışmayı güçlendirir.

Bu parçadan değerler ile ilgili çıkarılabilecek <u>en kapsamlı yargı</u> aşağıdakilerden hangisidir?

A) Toplumdan topluma farklılık gösterir.
B) Bir arada yaşama bilincini geliştirir.
C) Bireysel hakların teminatıdır.
D) Özgürlük duygusuna dayanır.
E) Sosyal değişime katkı sağlar.

BİLGİ SARMAL

Bu testte sırasıyla, Tarih (1 – 5), Coğrafya (6 – 10), Felsefe (11 – 15), Din Kültürü ve Ahlak Bilgisi (16 – 20) dersi olmak üzere toplam 20 soru vardır.

1. Büyük Selçuklu Veziri Nizamülmülk; Irak-ı Arab, Irak-ı Acem, Horasan, Maveraünnehir, Suriye ve Anadolu'nun çeşitli şehirlerinde Nizamiye Medreselerini kurdu. Bizanslı ünlü düşünür Psellos Konstantinos; "Bağdat'ta kurulan Nizamiye Medreseleri'nde doğan yıldızlar, bir gün Bizans'ın güneşini söndürebilirler." derken, bu medreselerin ilerideki rolüyle ilgili çok önemli bir gerçeğe değinmiş oluyordu. Bu medreselerde yetişen âlimler sayesinde, birkaç yıl sonra Bizans'ın güneşi, Selçuklular karşısında sönmeye başladı.

Bu bilgilere göre Nizamiye Medreseleri ile ilgili aşağıdakilerden hangisi söylenebilir?

A) İslam kültür ve medeniyetinin Batı medeniyeti karşısında üstün bir konuma gelmesini sağlamıştır.

B) Selçukluların Balkanlara yerleşme sürecinde önemli katkıları olmuştur.

C) Abbasi Devleti'nin İslam dünyası üzerindeki nüfuzunu arttırmasına yol açmıştır.

D) Batılı bilim insanlarının medreselerde ders vermeye başlamasına zemin hazırlamıştır.

E) Avrupa'da İslam kültürünün yayılmasına ve Rönesans'ın başlamasına neden olmuştur.

2. II. Murat, 1443'te Edirne sınırlarındaki Ergene Irmağı üzerine 392 metre uzunluğunda bir köprü, köprünün girişine yolcuların misafir edilebileceği kervansaray, imaret, cami ve medreseden oluşan bir külliye inşa ettirmiş; topluma karşılıksız hizmet sunan bu kurumlara bir gelir kaynağı olarak da hamam ve dükkânlar yaptırmıştı. Vergiden muaf tuttuğu bir göçebe grubunu köprünün bakımı ve korunması için buraya yerleştirmişti.

Bu bilgilere Osmanlı Devleti ile ilgili aşağıdakilerden hangisine ulaşılamaz?

A) Halkın temel ihtiyaçlarını karşıladığına

B) Rumeli'de hâkimiyet kurduğuna

C) Devşirme sistemini uyguladığına

D) Ticari faaliyetleri geliştirmeye çalıştığına

E) İskân siyaseti izlediğine

3. II. Viyana Kuşatması öncesinde Avusturya Kralı Leopold Osmanlılara karşı Avrupalı devletlerden yardım istemiş, Papa Osmanlıların esasen bütün Hristiyan dünyasını hedeflediğini ve Viyana'nın Avrupa'ya açılan bir kapı olduğunu söylemiştir. Kısa süre sonra da Lehistan, Venedik ve Alman prenslikleri Avusturya'ya yardım etmek için harekete geçmişlerdir.

Buna göre II. Viyana Kuşatması'nın aşağıdakilerden hangisi üzerinde etkili olduğu savunulabilir?

A) Osmanlı Devleti'nin denge siyaseti izlemesinde

B) Avrupa'da haçlı zihniyetinin canlanmasında

C) Kapitülasyon antlaşmalarının geçersiz olmasında

D) Osmanlı yönetiminin diplomatik girişimlerde bulunmasında

E) Avrupa'da mezhep birliğinin sağlanmasında

BİLGİ SARMAL

Diğer Sayfaya Geçiniz.

4. Halide Edip Hanım, 22 Mayıs 1919 tarihinde gerçekleşen Kadıköy Mitingi'nde şu konuşmayı yapmıştır: "Heyecanlarımız söndürülse bile göğsümüzde milliyetten yapılmış bir kalp vardır. Hürriyeti kaybedilmiş bir milletin kızı olarak istiklalime nasıl ulaşacağımı ilan etmem, kollarımızı bağlamak isteyenler için dikkate şayan olmalı. Oğluma masallarda Fatihleri, Yavuzları anlatacağım. Mendilinde, kitabında, cüzdanında, fesinde hep İzmir'i görecek. Ölürken ona, babamdan kalan altın Fatihalı kılıcı, rafta sarılı duran bayrağı bir miras olarak vereceğim. Kulağına bir vasiyet söyleyeceğim, işte o günden itibaren galiplerin taktığı zincirler çözülmeye mahkûmdur. Çünkü o gün oğlumun kalbine ektiğim hürriyet çiçekleri açacak, bir isyan olarak taşacak."

Parçada yer alan bilgiler dikkate alındığında altı çizili ifadenin ortaya çıkmasının temel gerekçesinin aşağıdakilerden hangisi olduğu söylenebilir?

A) Osmanlı Devleti'nin Mondros Ateşkes Antlaşması'nı imzalaması

B) Anadolu'da TBMM'ye karşı İtilaf Devletlerinin kışkırtmasıyla isyanların çıkması

C) İstanbul Hükûmeti'nin Sevr Antlaşması'nı kabul etmesi

D) Eskişehir-Kütahya Muharebelerinde Yunan ordusunun başarı kazanması

E) ABD Başkanı tarafından Wilson İlkeleri'nin yayınlanması

5. I. Beş Yıllık Kalkınma Planı ile Anadolu birçok modern sanayi tesisine kavuşmuş, özel sektörün hemen hemen hiç gitmediği yerlerde kurulan bu tesisler sayesinde bölgeler arasında adaletin sağlanması hedeflenmiştir.

Devletçilik ilkesinin gereği olarak yapılan bu uygulamaların aynı zamanda hangi Atatürk ilkesiyle ilişkili olduğu savunulabilir?

A) Laiklik B) Halkçılık C) İnkılapçılık D) Cumhuriyetçilik E) Milliyetçilik

6. I. Yaşadığınız kasabanın aritmetik nüfus yoğunluğu ne kadar?

II. Yaşadığınız kasabada hangi tarım ürünleri yetiştirilmektedir?

III. Kasabanızın iklim özellikleri nelerdir?

IV. Kasabanız su ihtiyacını nereden sağlıyor?

V. Kasabanızın başlıca yeryüzü şekilleri nelerdir?

Yukarıdaki sorularla yoklanmak istenen bilgilerden hangileri beşerî coğrafyanın konuları arasındadır?

A) Yalnız I B) I ve II C) I ve III D) IV ve V E) I, III, IV ve V

7. Aşağıda üç yerin iklim özellikleri verilmiştir:

I. Sıcaklık ortalaması 25 °C civarında olup günlük ve yıllık sıcaklık farkı oldukça azdır. Yıllık yağış miktarı 2000 mm civarında olup, yağışın yıl içinde dağılışı düzenlidir. Bitki ve hayvan çeşitliliğinin en fazla olduğu iklim bölgesidir.

II. Günlük sıcaklık farkı yüksektir. Yıllık yağış miktarı 200 mm'nin altındadır. 30° dinamik yüksek basınç alanı üzerindeki karalar ile Asya ve Kuzey Amerika kıyılarının iç kesimlerinde etkilidir. Kuraklığa dayanıklı bitkiler bulunur.

III. Sıcaklık ortalaması, 0 °C nin altında olup, yıllık ve günlük sıcaklık farkı yüksektir. Yıllık yağış miktarı 250 mm civarındadır. Doğal bitki örtüsü yaz döneminde yeşeren kısa boylu ot ve yosunlardan oluşur.

Bu üç yerde etkili olan iklim tipleri aşağıdakilerden hangisinde doğru olarak verilmiştir?

	I	II	III
A)	Ekvatoral	Çöl	Tundra
B)	Okyanusal	Step	Kutup
C)	Muson	Savan	Karasal
D)	Ekvatoral	Çöl	Kutup
E)	Akdeniz	Savan	Step

BİLGİ SARMAL

8. Aşağıda bir ülkenin 1980 ve 2023 yıllarına ait nüfus piramitleri verilmiştir.

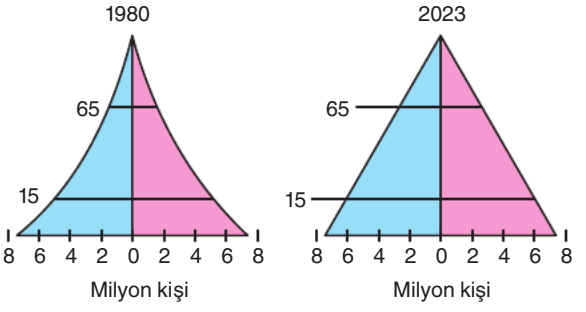

Bu ülkenin nüfus yapısında meydana gelen değişimle ilgili olarak aşağıdakilerden hangisi söylenebilir?

A) Ortalama yaşam süresi azalmıştır.
B) Yaşlı nüfus oranı artmıştır.
C) Çocuk ölüm oranı artmıştır.
D) Kırsal nüfus oranı artmıştır.
E) Şehirleşme oranı azalmıştır.

9. Mekânsal yapıyı ve mekân üzerindeki ekonomik ve kültürel işleyişi daha iyi organize edebilmek amacıyla oluşturulan bölgelere işlevsel bölgeler adı verilir.

Buna göre aşağıdakilerden hangisi işlevsel bölgelere örnek verilebilir?

A) Büyük Okyanus Bölgesi
B) Himalaya Dağlık Bölgesi
C) Doğu Karadeniz Projesi Bölgesi
D) Sert Karasal İklim Bölgesi
E) Yağmur Ormanları Bölgesi

10. **Aşadakilerden hangisi kütle hareketlerine yol açan faktörler arasında gösterilemez?**

A) Yamaç dengesini bozan insan faaliyetleri
B) Arazinin eğimli olması
C) Volkanik aktivite sonucu gelişen sismik hareketlilik
D) Deniz tabanında tortulanma oluşumu
E) Toprağın suya doygun hâle gelmesi

11. Bilimlerdeki gelişmelerin önceleri felsefenin alanının daralmasına yol açacağı düşünülmüştü. Hızla gelişen bilimlerin yanında, felsefenin varlığı tehlikeye düşmüş görünüyordu. Sonuçta felsefeye düşen işin sadece bilimleri temel almak, onların kavramlarını, kullandıkları dili, bu dili oluşturan önermelerin yapı ve kuruluşunu incelemek olduğu düşünüldü. Buradan bilim felsefesi doğdu.

Bu parçaya dayanarak aşağıdaki yargılardan hangisine varılabilir?

A) Bilimle felsefe arasındaki ilişki, felsefenin ortadan kalkması ile sonuçlanmıştır.
B) Felsefenin konusunu sadece bilimle sınırlamak felsefenin doğasıyla çelişir.
C) Felsefe her dönemde, o döneme özgü yaşantı biçiminin özelliğini taşımıştır.
D) Hızla gelişen bilimlerin etkisiyle, bilimi konu edinen bir felsefe dalı ortaya çıkmıştır.
E) Felsefe ile bilim arasında tarih boyunca karşılıklı bir etkileşim olmuştur.

BİLGİ SARMAL

12. F. Bacon'a göre bilimsel bir kuramın ön koşulu deney ve gözlemdir. Deney yoluyla nesnel dünyadan alınan gözlem verileri düzenlendikten sonra bizi genele götürecek tekil durumlar saptanmalıdır. Çünkü tecrübe ederek "tabiat üzerinde yapılacak araştırmalar sonucu" aksiyomlar türetilecek ve bu "aksiyom" elde etme işi en genel aksiyomlar elde edilinceye kadar bir sıra ile ve atlama yapılmaksızın devam edecektir. Ancak bu yöntemle elde edilen bilginin güvenilir olduğu söylenebilir.

Buna göre Bacon'un bilimde önerdiği yöntem aşağıdakilerden hangisidir?

A) Tümdengelim
B) Tümevarım
C) Analoji
D) Diyalektik
E) Fenomenolojik

13. Günümüzde insanların en çok kullandıkları bilgi edinme yollarından biri internettir. Kitle iletişim araçlarından farklı olarak internet üzerinden bilgiye daha hızlı ulaşmak ve farklı kaynaklardan enformasyonun farklı yönlerini değerlendirmek mümkündür. Yaşanılan en büyük sıkıntılardan biri içeriği oluşturanın kimliğinin kimi zaman anonim olarak kalması ya da içeriğin çok fazla el değiştirmesinden kaynaklı olarak sağlamlığını kaybetmesidir.

Bu parçadan aşağıdaki yargılardan hangisine ulaşılır?

A) İnsanın bilgisi bilginin sınırı değildir.
B) Çoğunluğun üzerinde uzlaştığı bilgiler doğrudur.
C) Bilginin güvenilirliği bir sorundur.
D) Bilgi deneye dayalı olduğunda güvenilirdir.
E) İnsan sayısınca doğru vardır.

14.
- Sokrates'e göre sosyal düzen için devlet gereklidir ve devlet erdemli kişiler tarafından idare edilmelidir. Bilen insan erdeme yönelir, bilgisizlik erdemsizliği doğurur.
- Platon'a göre devlet, insanların iyi ve doğru bir yaşam sürmesi için ortaya çıkmıştır. Bu şekilde bir yaşam iyi ideasının bilgisine sahip, erdemi bilgelik olan filozofların yönetimi ile mümkün olabilir.
- Aristoteles'e göre insan ancak belli bir toplumsal ve siyasal düzen içinde var olabilir. Devletin görevi insanların mutluluğunu sağlamaktır.

Bu üç filozof için ulaşılabilecek ortak yargı aşağıdakilerden hangisidir?

A) Devlet, etik ilkeler üzerine kurulmuş bir yapıdır.
B) İktidara sahip olmanın koşulu filozof olmaktır.
C) Devletin ortaya çıkması ortak iradeye dayanır.
D) Devlet otoritesi birey haklarından önceliklidir.
E) İktidarın kaynağı insanların güvenlik ihtiyacıdır.

15. Herakleitos evrende tüm olup bitenin değişimden ibaret olduğunu savunur. Kalıcı olan şeylere itiraz ettiği fragmanında şöyle söylemektedir: "Her şey ateş ile takas olur, ateş de her şeyle; tıpkı altın ile malların ve mallar ile altının takas edilmesi gibi."

Bu parçadan Herakleitos'un varlık anlayışı ile ilgili aşağıdakilerden hangisine ulaşılabilir?

A) Değişim sadece görünüştedir.
B) Var olan her şeyin özü maddi değişimlerdir.
C) Varlığın oluş süreçlerini yöneten ruhtur.
D) Her şey değişim içindedir.
E) Değişimi meydana getiren atomlardır.

16. Kıdem, Allah'ın ezelî ve kadîm olması demektir. Bu sıfat, Allah'ın yaratılmamış olduğunu, O'nun olmadığı hiçbir zamanın bulunmadığını ifade eder. Çünkü zamanı ve mekânı yaratan da Allah'tır. Allah'ın dışındaki bütün varlıkların sözgelimi güneşin, ayın, dünyanın, yıldızların, gezegenlerin, insanların, hayvanların, bitkilerin yaratıldıkları ve var olmaya başladıkları bir zamanları vardır. Çünkü bu varlıklar önceleri yok iken sonradan Allah'ın yaratmasıyla var olmuşlardır. Hâlbuki Allah böyle değildir. O'nun varlığının evveli ve başlangıcı yoktur. Çünkü O, varlığı zorunlu varlıktır. Geriye doğru ne kadar gidilirse gidilsin O'nun olmadığı bir zaman düşünülemez.

Bu parçada aşağıdakilerden hangisi vurgulanmaktadır?

A) Allah'ın her şeyi bilen olması
B) Allah'ın yoktan var eden olması
C) Allah'ın her şeye kudreti yeten olması
D) Allah'ın varlığının evveli ve ahirinin olmaması
E) Allah'ın bitki, hayvan ve her türlü canlıyı yeniden diriltен olması

BİLGİ SARMAL

17. Bir kimsenin Müslüman olabilmesi için, Allah'ın varlığı ve birliğine şüphe etmeden iman etmiş olması gerekir. Bu imanın dil ile ifade edilerek açığa vurulması, her ne kadar kesin bir şart olmasa da, kişinin toplum içerisinde Müslüman muamelesi görmesi açısından önemlidir. Bir kimsenin iman ettiği ancak kendisinin söylemesiyle bilinebilir. Bu durumda o kişi insanlar tarafından mümin olarak tanınıp bilinir ve Müslüman muamelesi görür. Ölünce cenaze namazı kılınır ve Müslüman mezarlığına defnedilir. Bu sebeple bir kimsenin Müslüman olduğunu ifade etmesi imandan bir parça olmamakla birlikte dünyevi açıdan önemli bir gereksinimdir.

Bu parçada aşağıdakilerden hangisi arasındaki ilişki vurgulanmaktadır?

A) İman bilgi
B) İman ikrar
C) İman amel
D) İman ahlak
E) İman tasdik

18. Hz. Peygamberin uygulamalarında bulunmayan herhangi bir davranışın ibadet olarak kabul edilmesi veya mevcut ibadet şekillerinde artırma ya da eksiltme yapılması dinimizce kabul edilemez davranışlardandır. Bu konuda Hz. Muhammed (s.a.v.) şöyle buyurmuştur: "Sözlerin en doğrusu Allah'ın Kitabı'dır. Yolların en iyisi Muhammed'in yoludur. İşlerin en kötüsü (dinde) sonradan uydurulanlardır…"

Bu parçada aşağıdaki kavramlardan hangisi üzerinde durulmaktadır?

A) Bid'at B) Niyet C) İhlas
D) Tövbe E) İhsan

19. İnsan Allah'ın koruması ve gözetimi altında olan bir varlıktır. O yeryüzünde yalnız, terk edilmiş ve amaçsız değildir. Yaşamını sürdürmesi için ihtiyaç duyduğu tüm gereksinimler kendisine verilmiştir. Doğru ile yanlışı ayırabilsin diye akıl sahibi kılınmış, doğru yolu bulabilmesi için kendisine ilahi kitaplar ve peygamberler gönderilmiştir. Yüce Allah (c.c.) insanı belirsizlik ve karanlık içinde bırakmamıştır. Tüm bu sebepler dolayısıyla da insan, dünyada yaptığı her işten sorumlu tutulacaktır.

Bu parçada verilmek istenen temel düşünce ile aşağıdaki ayetlerden hangisinin mesajı örtüşmektedir?

A) "İnsan, kendisinin başıboş bırakılacağını mı zanneder." (Kıyâmet; 36)

B) "İnsanlardan öylesi de vardır ki, dünya hayatına ilişkin sözleri senin hoşuna gider. Bir de kalbindekine (Sözünün özüne uyduğuna) Allah'ı şahit tutar. Hâlbuki o, düşmanlıkta en amansız olandır." (Bakara; 204)

C) "Allah, akıl ve duyularla idrak edilemeyeni de edileni de bilir; O üstündür, hikmet sahibidir." (Tegâbün; 18)

D) "Mutlak hükümranlık elinde olan Allah aşkındır, cömerttir ve O'nun her şeye gücü yeter." (Mülk; 1)

E) "O inkârcılar Kur'an'ı işittikleri zaman, seni gözleriyle devireceklermiş gibi bakar, "Şüphe yok o bir delidir." derler." (Kalem; 51)

20. Bir gün sahabeler Resulullah'ın (s.a.v.) yanında bulundukları bir sırada aniden (daha sonra Cebrail a.s. olduğunu öğrendikleri) bir adam gelir ve peygamberimize sorular sormaya başlar. Bu sorulardan birine Hz. Peygamber (s.a.v.): "Allah'a O'nu görüyormuşsun gibi ibadet etmendir. Çünkü her ne kadar sen onu görmüyorsan da o seni muhakkak görür." cevabını verir.

Bu metinde aşağıdaki kavramlardan hangisi ön plana çıkmaktadır?

A) Sabır
B) Cihat
C) İhsan
D) Tevhid
E) Tevekkül

BİLGİ SARMAL

Bu testte sırasıyla, Tarih (1 – 5), Coğrafya (6 – 10), Felsefe (11 – 15), Din Kültürü ve Ahlak Bilgisi (16 – 20) dersi olmak üzere toplam 20 soru vardır.

1.

- Yunanistan'da arhon (yönetici) adı verilen kanun adamlarının oluşturduğu kanunlar, zenginliğe dayalı ayrıştırıcı uygulamaları ortadan kaldırmıştır.
- Roma hukukunun temelini oluşturan 12 Levha Kanunları'nın şekillenmesinde patricilerin uygulamalarına karşı çıkan pleplerin ayaklanmaları etkili olmuştur. Bu ayaklanmaları bastırmak amacıyla kanunlar ıslah edilerek ilk defa yazılı hâle getirilmiştir. Bu kanunlarla Roma halkının görev ve sorumlulukları, toplumsal ilişkiler gibi pek çok konuya açıklık getirilmiştir.

Buna göre, Yunan ve Roma hukukunda aşağıdakilerden hangisinin amaçlandığı söylenebilir?

A) Dine dayalı uygulamalara son vermek
B) Sınıflar arasındaki sorunlara çözüm getirmek
C) Otokratik devlet düzenini kurmak
D) Ordunun siyasete müdahalesini engellemek
E) Milliyetçilik düşüncesini yaymak

2. Zeynep, "Karasuk kültürünün ardından gelen Tagar kültürü için, kendinden önceki Türk kültürlerinin bir sentezi ve gelişmiş şeklidir." demiştir. Batuhan ise, "Bu bölgede tunçtan bıçak, ok uçları, küçük hayvan heykelleri, çeşitli hayvan tavsirleri ve otağ şeklinde ağaç evlere rastlanmıştır." bilgisini eklemiştir.

Zeynep ve Batuhan'ın Tagar kültür bölgesiyle ilgili bu tanımlamaları doğrultusunda,

I. Batuhan, bölgenin sanatsal bazı özelliklerine örnekler vermiştir.
II. Zeynep, Karasuk kültürünün Tagar kültürüne göre günümüze daha uzak bir zaman diliminde ortaya çıktığını vurgulamıştır.
III. Batuhan'ın verdiği bilgilerden bölge insanının savaşçı bir niteliğe sahip olduğu anlaşılmaktadır.

yargılarından hangilerine ulaşılabilir?

A) Yalnız I B) Yalnız II C) I ve II
D) I ve III E) I, II ve III

3.

Osmanlı Devleti'nde Tanzimat Dönemi Öncesi Mahkemeler

Şerî Mahkemeler

Müslüman halk arasında çıkan anlaşmazlıklar ile Müslümanlarla gayrimüslimler arasında çıkan anlaşmazlıklara bakardı.

Cemaat Mahkemeleri

Gayrimüslimlerin din ve mezhep yönünden bağlı oldukları mahkemelerdi. Bu mahkemeler daha çok şahıslarla ilgili olarak aile ve miras hukuku gibi davalara bakardı.

Konsolosluk Mahkemeleri

Bu tür mahkemelerde kapitülasyonlardan faydalanan yabancı devletler kendi aralarındaki sorunları çözerdi.

Tabloda verilenlere göre Osmanlı Devleti ile ilgili aşağıdakilerden hangisi söylenebilir?

A) Hukuk anlayışı millet sistemi esasına göre düzenlenmiştir.
B) Gayrimüslimler hukuk üstünlüğü ilkesine göre hareket etmemişlerdir.
C) Osmanlı topraklarındaki yabancılar, örfi hukuka tabiidir.
D) Osmanlı Devleti Avrupa'da kendisine bağlı konsolosluk mahkemeleri kurmuştur.
E) Bütün mahkemelerde yargıçlık görevini "kadı"lar yürütmüştür.

BİLGİ SARMAL

Diğer Sayfaya Geçiniz.

4. Büyük Taarruzla beraber Yunan ordusunu mağlup eden Türk birlikleri, 9 Eylül tarihinde İzmir'i kurtarmıştı. Türk kuvvetleri Yunanlıların elinde bulunan Trakya'yı da geri almak için Çanakkale Boğazı'na doğru yürüyüşe geçmişti. Ancak Çanakkale Boğazı'nı kontrol altında tutan İngilizler, böyle bir ilerleyişi kendilerine bir saldırı olarak gösterip Türkleri durdurmaya çalışmışlardır.

Bu bilgilere göre,

I. Türk ordusu vatan topraklarının tamamını kurtarmayı hedeflemektedir.

II. İngilizler işgal bölgelerinin elde kalmasına çalışmaktadır.

III. İstanbul Hükûmeti, TBMM ile ortak hareket etme kararı almıştır.

yargılarından hangilerine ulaşılabilir?

A) Yalnız I B) Yalnız II C) Yalnız III
D) I ve II E) II ve III

5. I. TBMM; savaş koşullarında çalıştığı için hızlı karar alıp uygulayabilmek adına güçler birliği ilkesini benimsemiş, yasama ve yürütme yetkisini kendinde toplamıştı. Bu ilke doğrultusunda yürütme organının belirlenmesinde meclis hükûmeti sistemini uygulamıştı. Ancak bu sistemle bakanların uyumlu bir şekilde çalışması zor oluyordu.

Bu gelişmelerin aşağıdakilerden hangisine ortam hazırladığı söylenebilir?

A) Saltanatın kaldırılmasına
B) Ankara'nın başkent ilan edilmesine
C) Halifeliğin kaldırılmasına
D) Cumhuriyetin ilan edilmesine
E) Lozan Konferansı'nın toplanmasına

6. "Bugün tüm ülkelerde Güneş'in doğuşuyla batışı arasındaki süre, Dünya'nın kendi ekseni etrafındaki dönüş süresinin yarısına eşit olarak yaşanacaktır." **diyen bir coğrafya öğretmeni, bu sözü aşağıdaki tarihlerden hangisinde söylemiş olabilir?**

A) 23 Eylül B) 3 Ocak C) 21 Haziran
D) 4 Temmuz E) 21 Aralık

7. Aşağıda bir yörenin topoğrafya haritası verilmiştir.

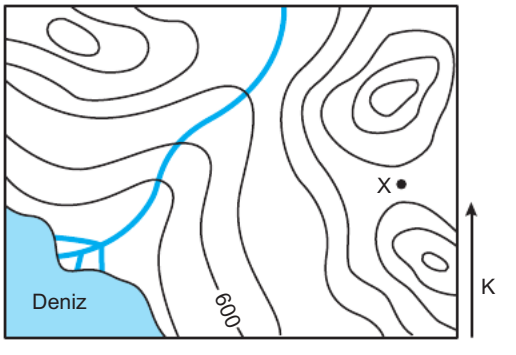

Bu haritada "X" ile gösterilen alanda aşağıdaki yer şekillerinden hangisi bulunur?

A) Delta B) Boyun C) Kapalı çukur
D) Tepe E) Falez

8. Aşağıdaki grafikte Türkiye'de yıllara göre kır ve şehir nüfus oranları verilmiştir.

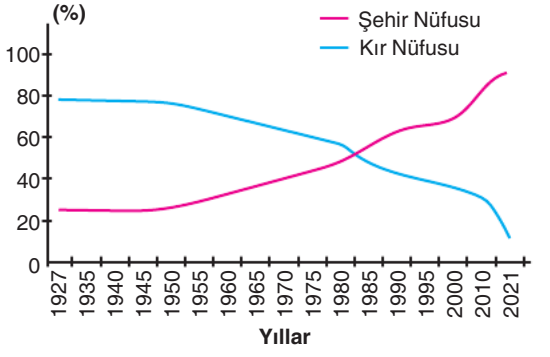

Grafikteki bilgilere göre aşağıdaki yargılardan hangisine ulaşılamaz?

A) 1927-1980 yılları arasında, kır nüfus oranı şehir nüfus oranından fazladır.

B) 1927-1950 yılları arasında kır ve şehir nüfus oranında fazla değişiklik olmamıştır.

C) 1950 yılından sonra şehirlerde doğum oranı yüksek olduğundan nüfus oranı yükselmiştir.

D) Şehir nüfus oranı, 1985 yılında kır nüfus oranından fazladır.

E) Kır ve şehir nüfus oranlarının değişmesi, aritmetik nüfus yoğunluğunu etkilememiştir.

9. Deniz ve okyanusları birbirine bağlayan kanalların açılması, deniz ticaretinde kullanılan su yollarının öneminin azalmasına ya da artmasına neden olmuştur.

Buna göre;

I. Panama Kanalı'nın açılması Macellan Boğazı'nın önemini artımıştır.

II. Süveyş Kanalı'nın açılması Ümit Burnu'nun önemini azaltmıştır.

III. Süveyş Kanalı'nın açılması Akdeniz limanlarının önemini artırmıştır.

yargılarından hangilerine ulaşılabilir?

A) Yalnız I B) Yalnız II C) I ve II

D) II ve III E) I, II ve III

10. Aşağıdaki haritada bazı alanlar numaralandırılarak gösterilmiştir.

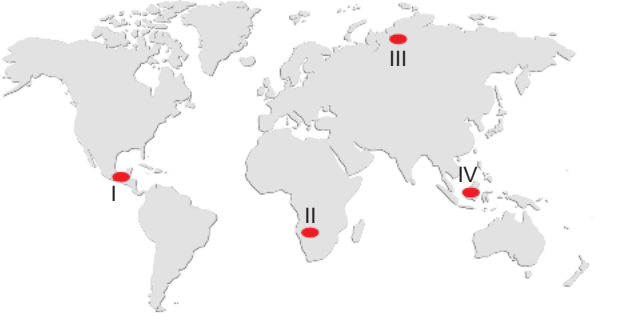

Numaralı alanların hangilerinde deprem tehlikesi, diğerlerinden daha azdır?

A) I ve II B) I ve III C) II ve III

D) II ve IV E) III ve IV

BİLGİ SARMAL

11. Matematik ile bir teoremi, fizik ile bir doğa yasasını, tarih bilimi ile geçmişte yaşamış insan topluluklarının nasıl yaşadığına dair bazı şeyler öğrenirsiniz. Ancak felsefede sorulacak sorular, gidilecek yollar, fark edilecek yenilikler her zaman vardır.

Parçada aşağıdakilerden hangisi vurgulanmaktadır?

A) Felsefi bilgi nesneldir.
B) Felsefe daima yolda olmaktır.
C) Felsefe ile bilimin yöntemleri farklıdır.
D) Felsefi görüşler yaşadığı çağı aşarlar.
E) Felsefe hakikati bulma amacındadır.

12. Duyularımız, durmadan değişen ve içinde birçok var olanın bulunduğu bir gerçeği tanıtmaktadır bize. Ama değişen ve çokluk gösteren bu gerçek aslında bir hayaldir; bir kuruntu ve aldanıştır. Asıl varlık, ne ortaya çıkan ne de yok olup giden bir şeydir. Asıl varlık kendi kendisiyle özdeştir.

Aşağıdakilerden hangisi bu parçadaki görüşlere karşı bir tez oluşturur?

A) Varlık içine kapalı bir bütündür.
B) Varlık zamanda yer almasa da vardır.
C) Gerçek varlık ideal bir nitelik taşır.
D) Aslolan durmaksızın bir oluş içindedir.
E) Varlıklar bölünmez ve birdir.

13. James, pratik kişiler olarak, eğer yaşamayı sürdüreceksek, bu konularda kuşku içinde kalmamızın olanaksız olduğu savını ileri sürdü. Örneğin, geçmişte bizi beslemiş olan yiyeceklerin gelecekte bizi zehirlemeyeceklerini varsaymamız gerekir. Bazen de yanılırız; ve de ölürüz. Bir fikrin doğruluğu onun "gerçek olgu'larla" uyum içinde olup olmamasıyla sınanamaz; çünkü bu gerçek-olgulara hiçbir zaman ulaşamayız. Sınama onun yaşamımızı iyileştirmedeki ve arzularımızı gerçekleştirmedeki başarısını ölçmekle yapılır.

B.Russel'ın *Sorgulayan Denemeler* adlı eserinden alınan bu parçada eleştirilen ve savunulan bilginin doğruluk ölçütü aşağıdakilerden hangisinde doğru sırayla verilmiştir?

A) Uygunluk – tutarlılık
B) Tutarlılık – tümel uzlaşım
C) Tümel uzlaşım – yarar
D) Yarar – tutarlılık
E) Uyguluk – yarar

14. Tekilliğin ve biricikliğinle
Ne kadar özgür olsan da
Eylemlerin sadece kendini değil
Tüm insanlığı bağlamakta
Çünkü varoluşun tüm gizemi
Bu dünyadaki etkin bulunuşunda
Özgür iradenin kararlarını
Bilincin üstüne almanın aydınlığında

Bu şiirde vurgulanan kavram aşağıdakilerden hangisidir?

A) Sorumluluk
B) Adil olma
C) Ölçülülük
D) Erdemli olma
E) Mutluluk

BİLGİ SARMAL

15. Nominalizm; genel kavramları gerçek saymayıp birer addan ibaret bulan öğretidir. Nominalizme göre genel kavramlar (tümeller) birtakım seslerden başka bir şey değildirler ve bunlar insanların düşünce biçimlerine yakıştırdıkları birer addır, bunların hiçbir gerçeklikleri yoktur.

Bu parçaya dayanarak aşağıdaki yargılardan hangisine ulaşılabilir?

A) Kavramların kendi başına gerçekliği yoktur.

B) Nesnelerin varlığı kavramlara bağlıdır.

C) Kavramlar ayrı bir varlık olarak gerçekliktir.

D) Tikeller, varlıklarını tümellere borçludur.

E) Kavramın gerçekliği işaret ettiği nesnede görülür.

16. Ön yargı genelde olumsuz anlamda kullanılır. Bir kimse veya bir şeyle ilgili olarak önceden edinilmiş peşin hüküm, peşin fikir olarak tanımlanabilir. İslam dini, olaylar ve kişilerle ilgili kesin ve net bilgiye dayanmayan olumsuz ön kabullere karşı çıkar. Bir konuda hüküm verirken belli bir bilgi ve birikime dayanılmasını ister. Aksi hâlde kul hakkına girilebileceği ve yanlış bir karara varılacağı konusunda inanları uyarır.

Bu metinle aşağıdaki ayetlerden hangisinin mesajı daha fazla örtüşmektedir?

A) "Ey iman edenler! Zannın çoğundan sakının; çünkü bazı zanlar günahtır…"
(Hucurat; 12)

B) "Ey iman edenler! Allah'tan korkun ve gerçekten iman etmiş iseniz faizden kalanı bırakın."
(Bakara; 278)

C) "Arkadan çekiştiren, ayıp kusur arayan, servet toplayan ve onu sayıp duran herkesin vay hâline!"
(Hümeze; 1-2)

D) "Yeryüzünde böbürlenerek yürüme. Çünkü sen yeri asla yaramazsın, boyca da dağlara asla erişemezsin."
(İsra; 37)

E) "Mümin erkekleri ve mümin kadınları işlemedikleri şeyler yüzünden incitenler, bir iftira ve apaçık bir günah yüklenmişlerdir."
(Ahzab; 58)

17. Müminler kesinlikle kurtuluşa ermiştir. Onlar ki namazlarında derin bir saygı hâli yaşarlar. Anlamsız, yararsız şeylerden uzak dururlar. Zekâtı verirler. İffetlerini korurlar.
(Mü'minûn; 1-5)

Bu ayetlerden mü'minlerle ilgili,

I. İbadetlerinde samimiyet ve ihlâsla hareket ederler.

II. Paylaşma ve yardımlaşmaya özen gösterirler.

III. Boş ve faydasız işlerle zaman kaybetmezler.

özelliklerinden hangilerine ulaşılabilir?

A) I ve II B) I ve III C) Yalnız II
D) II ve III E) I, II ve III

BİLGİ SARMAL

18. ... (Şöyle diyerek dua ediniz): "Rabbimiz! Unutur veya yanılırsak bizi cezalandırma! Bizden öncekilere yüklediğin gibi bize de ağır yük yükleme! Üstesinden gelemeyeceğimiz şeyleri boynumuza borç kılma! Bizi bağışla, ayıplarımızı ört ve bize rahmetinle muamele buyur! Sen bizim sahibimiz ve yardımcımızsın; artık inkârcı topluluğa karşı bize yardım et!"

(Bakara; 286)

Bu ayette ibadetle ilgili temel ilkelerden hangisi vurgulanmaktadır?

A) Kolaylık
B) Samimiyet
C) Sabır
D) Güç yetirebilirlik
E) İstikrar

19. "Allah, gökleri ve yeri yaratan, gökten yağmur indiren ve onunla size rızık olarak türlü meyveler çıkaran, emri gereğince denizde yüzmek üzere gemileri emrinize veren, nehirleri de hizmetinize sunandır. O, âdetleri üzere hareket eden Güneş'i ve Ay'ı sizin hizmetinize sunan, geceyi ve gündüzü sizin emrinize verendir. O, İstediğiniz şeylerin hepsinden size verdi. Eğer Allah'ın nimetlerini saymaya kalkışsanız sayamazsınız. Şüphesiz insan çok zalimdir, çok nankördür."

(İbrâhîm; 32-34)

Bu ayetlerde Yüce Allah'ın isim ve sıfatlarından hangi ikisi bir arada zikredilmektedir?

A) Kıdem-Rahîm
B) Tekvin-Rezzâk
C) Beka-Vedûd
D) Basar-Alîm
E) İrade-Kahhâr

20.
- "Kalpler ancak Allah'ı anmakla huzur bulur."

(Rad, 13:28)

- "Kitaptan sana vahyolunanı oku, namazı da dosdoğru kıl. Çünkü namaz, insanı hayâsızlıktan ve kötülükten alıkoyar. Allah'ı anmak (olan namaz) elbette en büyük ibadettir. Allah, yaptıklarınızı biliyor."

(Ankebût, 29:45)

Bu ayetlerde ibadetle ilgili vurgulanan ortak husus aşağıdakilerin hangisinde verilmemiştir?

A) İbadet, insanın hayatına anlam katar, dengeli ve huzurlu bir yaşam biçimi oluşturur.
B) İbadetle iç ve dış dünyasını huzursuz eden birtakım kirlerden arınan insan, bu sayede insanî olgunluğa erişir.
C) İbadetlerde kolaylık ve güç yetirebilirlik esastır.
D) Hayatın zorlukları karşısında bunalıma düşen ve ümitsizliğe kapılan insan ibadet sayesinde çıkış yolu bulur.
E) İnsan öncelikle Allah'ın emrettiği şeyleri yapmaya ve yasakladıklarından kaçınmaya çalışmalıdır.

BİLGİ SARMAL

Bu testte sırasıyla, Tarih (1 – 5), Coğrafya (6 – 10), Felsefe (11 – 15), Din Kültürü ve Ahlak Bilgisi (16 – 20) dersi olmak üzere toplam 20 soru vardır.

1.





II. Kök Türk Devleti'ne ait gümüş geyik heykeli ve altın taç

Görseller dikkate alındığında Kök Türklerle ilgili,

I. İslam devletleriyle yakın ilişkiler kurmuşlardır.
II. Sanatsal faaliyetlerde gelişme göstermişlerdir.
III. Tarım ve hayvancılığa önem vermişlerdir.

yargılarından hangilerine ulaşılabilir?

A) Yalnız I B) Yalnız II C) I ve II
D) I ve III E) II ve III

2. 1648 tarihinde birçok devlet temsilcisinin bir araya gelip imzaladıkları Westphalia Antlaşması ile Avrupa siyasetinde dinî etkenlerin yerini diplomasi almış ve uluslararası alanda modern devletler hukukunun temelleri atılmıştır. Evrensel imparatorluklar yerini ulusal krallıklara ve ulus devletlerine bırakmıştır.

Buna göre aşağıdakilerden hangisinin ortaya çıkmasında Westphalia Antlaşması'nın doğrudan etkili olduğu söylenebilir?

A) Osmanlı Devleti'nin toprak kayıpları yaşaması
B) Almanya'da Reform Hareketlerinin başlaması
C) Avrupa'da Otuz Yıl Savaşları'nın yaşanması
D) Papanın uluslararası ilişkilerdeki etkisinin azalması
E) Coğrafi Keşiflerle Avrupalıların zenginleşmesi

3. İkinci Meşrutiyet'in ilanından sonra 1909 yılında Kanun-ı Esasi'de yapılan değişikliklerle;

I. Bakanlar Kurulu, Mebuslar Meclisi'ne karşı sorumludur.
II. Padişah, veto ettiği bir yasa tasarısı değişmeden mecliste kabul edilirse bu tasarıyı onaylamak zorundadır.
III. Padişahın meclisi kapatma iradesine sınırlama getirilmiştir.

maddeleri kabul edilmiştir.

Bu maddelerden hangileri ile millet iradesi yönetimde etkili olmaya başlamıştır?

A) Yalnız I B) Yalnız II C) I ve III
D) II ve III E) I, II ve III

4. Eylül 1919 tarihinde General J. G. Harbord başkanlığındaki bir heyet, Doğu Anadolu illerini ziyaret etmiştir. Harbord, 22 Ekim 1919'da "Yakın Doğu'da Hakikatler" adındaki raporunu ABD Başkanı Wilson'a sunmuştur. General Harbord Raporu'nda; Ermenilerin Anadolu'da katledildikleri iddialarının doğru olmadığı, Anadolu'nun ABD için gerekli kaynaklara sahip olmadığı, Anadolu'da işgale karşı mücadele edenlerin kesin kararlı oldukları bilgilerine yer verilmiştir. Bu rapor başkan tarafından Amerikan senatosuna gönderilmiş ve senato 24 Mayıs 1920'de manda konusunu 23'e karşı 52 oyla reddetmiştir.

Bu bilgilere göre "Yakın Doğu'da Hakikatler" **raporu aşağıdakilerden hangisinin kanıtı olarak gösterilebilir?**

A) TBMM'nin ABD tarafından hukuken tanındığının
B) Ermeni lobisinin ABD Hükûmeti'ni etkilediğinin
C) Anadolu'daki azınlıkların çoğunlukta olduğunun
D) Milliyetçilik akımının önemini kaybettiğinin
E) Ermenilerin iddialarının doğru olmadığının

BİLGİ SARMAL

Diğer Sayfaya Geçiniz.

5. Mustafa Kemal Atatürk, "İlim ve fennin yaşadığımız her dakikadaki safhalarının gelişimini anlamak ve ilerlemelerini zamanında takip etmek şarttır. Bin, iki bin yıl önceki ilim ve fen lisanının koyduğu kuralları, şu kadar bin yıl aynen uygulamaya kalkışmak, elbette ilim ve fennin içinde bulunmak değildir." demiştir.

Buna göre, Atatürk'ün aşağıdakilerden hangisini savunduğu söylenemez?

A) Laiklik ilkesi doğrultusunda bir eğitim sistemi oluşturmak

B) Kültürel ve millî kimliğin, toplumsal yaşam üzerindeki etkisini azaltmak

C) Muasır medeniyetler seviyesine çıkmak için çaba göstermek

D) Modern dünyanın ortaya koyduğu esaslar çerçevesinde üniversite reformu gerçekleştirmek

E) Toplum hayatına yön veren çağdaş bir hukuk sistemi kurmak

6.

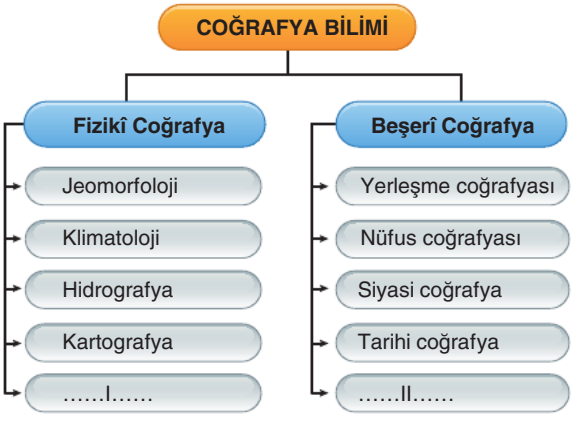

Yukarıdaki şemada numaralandırılarak boş bırakılan alanlara sırasıyla aşağıdakilerden hangisi yazılmalıdır?

	I	II
A)	Ekonomik Coğrafya	Biyocoğrafya
B)	Biyocoğrafya	Ekonomik Coğrafya
C)	Tarım Coğrafyası	Turizm Coğrafyası
D)	Enerji Coğrafyası	Ulaşım Coğrafyası
E)	Afetler Coğrafyası	Matematik Coğrafya

7.



Haritada koyu renkle gösterilen alanların iklim özellikleri dikkate alındığında bu alanlarda yaygın olan bitki örtüsü aşağıdakilerden hanginde doğru olarak verilmiştir?

A) Step B) Savan C) Maki D) Tundra E) Çayır

8. Genellikle yıllık yağış miktarının fazla ve kış mevsiminin ılık geçtiği yerlerin nüfus yoğunluğu fazladır.

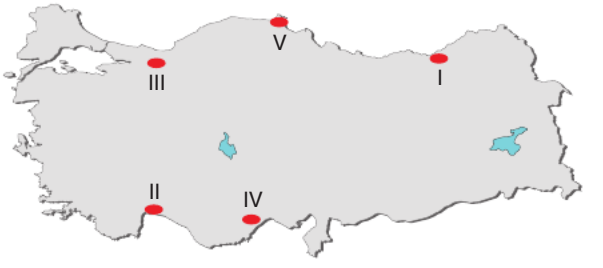

Haritada numaralı şehirlerin hangisi bu genellemeye uymaz?

A) I B) II C) III D) IV E) V

9. Doğal beşerî ve ekonomik özellikler bakımından kendi içinde benzerlik gösteren ancak çevresine göre farklılık gösteren yerlere bölge denir.



Buna göre, haritada numaralandırılarak gösterilen alanların hangisi deprem risk bölgesi içerisinde yer almaz?

A) I B) II C) III D) IV E) V

10.

GAZETE

ABD'de şiddetli kutup soğukları nedeniyle en az 58 kişi yaşamını yitirdi. Teksas eyaleti başta olmak üzere ülkenin iç, orta ve güney kısımlarını etkileyen şiddetli kar ve buzlanma, olumsuz durumların yaşanmasına neden oldu. Söz konusu bölgelerde milyonlarca kişiyi etkileyen elektrik kesintilerinin yaşanmasının ardından Teksas'ta, 14 milyon kişiyi etkileyen binden fazla su sistemi hasar gördü.

Haber metnine göre;

I. meteorolojik kökenli bir afet yaşandığı,

II. afetin can ve mal kaybına neden olduğu,

III. afetin oluşmasında beşerî faktörlerin etkili olduğu

bilgilerinden hangilerine ulaşılabilir?

A) Yalnız I B) Yalnız II C) I ve II D) I ve III E) II ve III

11. Devlet yönetiminde görev alan hükümetler; içte ve dışta çeşitli politikalar izler. Bu politikalarla hem devlet düzeninin devamlılığı hem de vatandaşların refah düzeyini yükseltmek amaçlanır. Bu politikaların doğru veya yanlış oldukları ise farklı görüşlerin muhalefeti ile ortaya çıkar. Yasaklarla fikirlerin ya da politikaların yanlışlığını anlama imkânı yoktur. Doğru politikalara ancak yanlış politikalar eleştirilerek ulaşılabilir.

Bu parçada, devlet yönetiminde aşağıdakilerden hangisinin önemi belirtilmek istenmiştir?

A) Bireylerin ahlakça olgunlaşmalarını sağlamanın

B) Farklı görüşlerin tartışılabildiği bir ortamın

C) Çıkabilecek sorunlara karşı önlem alabilmenin

D) Eğitim seviyesi yüksek bireyler yetiştirmenin

E) Vatandaşlar arasında eşitliği sağlamanın

12. Her varlık madde ve formdan meydana gelir. Bir şeyin değişmesi, formunun değişmesi anlamına gelmez. Çünkü hiçbir form, başka bir forma dönüşemez. Değişen ve başka başka formlar alan, maddedir. Örneğin mermer maddedir; heykel formu eklendiği zaman heykelin kendisi ortaya çıkar. Mermer bu durumda olabilirliktir, imkândır. Mermer maddesi, değişik formlar alabilir. Heykel formunu alabildiği gibi, merdiven basamağı formunu da alabilir. Bu durumda ne merdiven basamağı formu ne de heykel formu değişmiştir. Değişen sadece madde olarak mermerdir.

Bu parçadaki görüşten hareketle aşağıda verilenlerden hangisine ulaşılamaz?

A) Varlık, madde ve form niteliğini taşır.

B) Madde değişebilir; form, değişmez bir niteliktir.

C) Madde, farklı şeyler olabilme potansiyelini kendinde taşır.

D) Madde ve form belli süreçler içerisinde var olur.

E) Evren sürekli bir değişim içerisindedir.

BİLGİ SARMAL

13. K. Popper "Hayat Problem Çözmektir" adlı eserinde "Bilimin çıkış noktasının duyusal algılarımız ya da duyusal gözlemlerimiz olduğunu eskimiş bilim kuramları öğretirlerdi hâlâ da öğretiyorlar. İlk bakışta bu gayet akılcı ve ikna edici görünmektedir, oysa kökten yanlıştır. Bu, kolaylıkla şu tezle gösterilebilir: Problem yoksa gözlem de olmaz. Gelişme kuramı açısından bakıldığında, tıpkı mikroskoplarımız ve dürbünlerimiz gibi, duyu organlarımız da problemlerin ve çözüm denemelerinin sonucudur. Bu da göstermektedir ki, problem, biyolojik açıdan bakıldığında, gözlemden ve duyu algılarından önce gelmektedir: Gözlemler veya duyusal algılar, çözüm denemelerinde önemli yardımcı araçlardır ve yanılgıları ortadan kaldırmada başrolü oynarlar." demiştir.

Bu parçadan aşağıdaki yargıların hangisine ulaşılamaz?

A) Bilimsel yöntemin ilk aşaması bir sorun ortaya koymaktır.

B) Duyular problemi çözme aşamasında kullanılan araçlardır.

C) Bilimde sorun, çözüm ve olası hataları yanlışlama sırası izlenmelidir.

D) Duyular bilimsel yanılgıları yanlışlamada önemli bir yere sahiptir.

E) Nesnel dünya ile ilgili bilgimiz sadece duyusal izlenimlere dayalıdır.

14. Erdemli olmak güç, her şeyde ortayı bulmak zor iştir. Öfkelenmek veya para harcamak herkesin yapabileceği kolay bir şeydir ama bunların kime, ne kadar, ne zaman, niçin, nasıl yapılacağı ne herkesin bileceği bir şeydir ne de kolaydır. Kalypso'nun öğütlediği gibi ortayı arayanın önce ona daha karşıt olandan uzak kalması gerekir.

Bu parçada aşağıdakilerden hangisi vurgulanmaktadır?

A) Erdemli olmanın ölçütü olmalıdır.

B) Erdemli davranış iyi niyetle yapılmalıdır.

C) Erdemli olmak gündelik hayatta işe yarar.

D) Erdemli olmak ahlak kurallarına uygun olmaktır.

E) Erdemli olmak ölçülü olanı bulmaktır.

15. Ahmet Cevizci, *Felsefe Tarihi* eserinde "Orta Çağ felsefesi kendisine öte dünyasal bir bilginin hâkim olduğu bir felsefedir. Başka bir deyişle, Yunan'da insanın temel probleminin bu dünyada ve kent-devleti sınırları içinde mutluluğa erişmek olduğu kabul edilmişti; Yunan'da, insanın bu problemi çözebilecek güce sahip bulunduğuna ve kendi çabasıyla iyi ve mutlu bir hayata ulaşabileceğine inanılmışken, Orta Çağ'da problemler, yeryüzündeki hayattan ziyade, bu dünyadan sonraki hayatla ilgili olan problemlerdir. Aranan mutluluk, bu dünyadaki mutluluk değil ebedi bir saadettir." demiştir.

Buna göre Orta Çağ felsefesi ile ilgili;

I. Antik Yunan felsefesinin devamı niteliğindedir.

II. Felsefenin alanı olan etik, teolojiye dayandırılmıştır.

III. Uhrevi mutluluk esas alınmıştır.

yargılarından hangileri söylenebilir?

A) Yalnız I B) Yalnız II C) Yalnız III

D) I ve II E) II ve III

16. "Allah, O'ndan başka ilah yoktur; diridir, her şeyin varlığı O'na bağlı ve dayalıdır. Ne uykusu gelir ne de uyur. Göklerde ve yerde ne varsa hepsi O'nundur. O'nun izni olmadıkça katında hiçbir kimse şefaat edemez. Onların önlerinde ve arkalarında olanları O bilir. O'nun ilminden hiçbir şeyi -dilediği müstesna- kimse bilgisi içine sığdıramaz. O'nun kürsüsü gökleri ve yeri içine almıştır. Onları korumak kendisine zor gelmez. O yücedir, mutlak büyüktür."

(Bakara; 255)

Bu ayetlerde Yüce Allah'ın güzel isimlerinden hangisine değinilmemiştir?

A) Hayy B) Kahhâr C) Kayyûm

D) Alîm E) Azîm

17. Hz. Muhammed'in (s.a.v.) peygamberlik görevlerinden biri de temsil görevidir. Temsil; öncü olmak, nasıl yapılacağını örnekleme yoluyla göstermek anlamına gelir. Hz. Peygamber inanç, ibadet, ahlak başta olmak üzere her hususta Müslümanlar için rehberdir.

Bu parçadaki görüşleri destekleyen ayet aşağıdakilerden hangisidir?

A) "Biz her peygamberi kendi kavminin diliyle gönderdik ki onlara (Allah'ın emirlerini) iyice açıklasın…"
(İbrahim; 4)

B) "Biz seni ancak bütün insanlara müjdeleyici ve uyarıcı olarak gönderdik. Fakat insanların çoğu bilmezler."
(Sebe; 28)

C) "De ki: "Ben de ancak sizin gibi bir insanım, (Ne var ki) bana, 'Sizin ilah'ınız ancak bir tek ilâhtır.' diye vahyolunuyor…"
(Kehf; 110)

D) "İçinizden Allah'ın lutfuna ve ahiret gününe umut bağlayanlar, Allah'ı çokça ananlar için hiç şüphe yok ki, Resulullah'ta güzel bir örneklik vardır."
(Ahzab; 21)

E) "De ki: "Ben size, 'Allah'ın hazineleri benim yanımdadır.' demiyorum. Ben gaybı da bilmem. Size 'Ben bir meleğim.' de demiyorum. Ben sadece, bana gönderilen vahye uyuyorum…"
(Enam; 50)

18. Din; akıl sahiplerini kendi hür iradeleriyle şimdiki hâlde (dünyada) salâha, gelecekte (ahirette) felâha sevkeden, peygamberin bildirdiği gerçekleri benimsemeye çağıran, Allah (c.c.) tarafından konulmuş kanunlar bütünüdür.

Bu tanımda din olgusu ile ilgili olarak aşağıdakilerin hangisine <u>değinilmemiştir</u>?

A) Amacına
B) Kaynağına
C) Muhatabına
D) Özgürlükle ilişkisine
E) Hükümlerinin evrenselliğine

19. Abbasi halifesi Mansur tarafından kurulan bu şehir İslam medeniyetinin önemli bir kültür ve ilim merkeziydi. Şehirde kurulan en önemli medrese Büyük Selçuklu vezir Nizamü'lmülk adına kurulan Nizamiye medreseleridir. Ayrıca Beytü'l-Hikme gibi tercüme ve ilim akademileri de burada bulunuyordu. Camiler, özellikle Mansur Camii büyük bir öğretim merkezi idi. Çok sayıda şair, tarihçi ve âlimin yaşadığı şehir, sahaflarıyla da ünlüydü.

Bu parçada sözü edilen İslam Medeniyetinde önemli bir yere sahip olan şehir aşağıdakilerden hangisidir?

A) Horasan
B) Endülüs
C) Bağdat
D) Kurtuba
E) Nişabur

20. "Yedi sınıf insan vardır ki Yüce Allah kendi gölgesinden başka hiçbir gölge bulunmayan kıyamet gününde bunları kendi arşının gölgesinde muhafaza edecektir. Bunlar; adaletli devlet başkanı, Allah'a (c.c.) ibadet ederek temiz bir hayat içinde büyüyen genç, gönlü mescitlere sevgiyle bağlanmış olarak namazı kılan kimse, Allah (c.c.) için seven ve bu sevgi ile birleşip bu sevgi ile ayrılan kişi, sağ elinin verdiği sadakayı sol eli bilmeyecek derecede gizli sadaka veren kişi, tenha yerlerde Allah'ı (c.c.) anıp gözleri yaş döken takvalı kişi."
(Buhârî, Zekât 16)

Bu hadis aşağıdaki sözlerden hangisiyle <u>ilişkilendirilemez</u>?

A) Haksızlık karşısında susanlar dilsiz şeytanlardır.
B) İbadetin en hayırlısı gençlikte yapılandır.
C) Bir iyilikten daha iyi olan şey, yaptığın iyiliği unutmak ve asla onu başa kakmamaktır.
D) İsraf, nimetin elden alınmasına sebeptir.
E) Namaz, dinin direğidir.

BİLGİ SARMAL

Bu testte sırasıyla, Tarih (1 – 5), Coğrafya (6 – 10), Felsefe (11 – 15), Din Kültürü ve Ahlak Bilgisi (16 – 20) dersi olmak üzere toplam 20 soru vardır.

1.



İsviçre'nin Bern kenti yakınlarında keşfedilen 3.500 yıl öncesine ait altın manşetli protez el, bronz iğne ve saç aksesuarı

Bu bilgilere göre Avrupa medeniyetleri ile ilgili aşağıdakilerden hangisine ulaşılamaz?

A) Madencilik alanında gelişmelerin yaşandığına
B) Gündelik hayatı kolaylaştıracak aletlerin yapıldığına
C) Anatomi konusunda bilgi sahibi olunduğuna
D) Farklı maden türlerinin kullanıldığına
E) Anadolu uygarlıklarından etkilenildiğine

2. XV. yüzyıl Osmanlı tarihçilerine göre, Ertuğrul Bey önderliğindeki Kayı Boyu, Selçuklu Sultanı I. Alâeddin Keykubat tarafından Ankara yakınlarındaki Karacadağ'a yerleştirilmiştir. Kayıların gösterdiği gayretten dolayı Sultan; Söğüt'ü kışlak, Domaniç'i de yaylak olarak Kayılara vermiş ve Kayıları Bizans'a karşı uç beyi olarak görevlendirmiştir.

Bu bilgilere göre Kayı Boyu ile ilgili aşağıdakilerden hangisine ulaşılabilir?

A) Konargöçer bir yaşam tarzı benimsediklerine
B) Moğol akınlarına karşı mücadele ettiklerine
C) Ticari faaliyetlerde geliştiklerine
D) Anadolu'ya yerleşen ilk beylik olduklarına
E) Bizans'ın iç işlerine karıştıklarına

3. 1905 tarihinde Fransa'da çıkarılan bir kanunda şu kararlar alınmıştır:

- Cumhuriyet, inanç özgürlüğünü güvence altına alır. Her türlü ibadetin, hiçbir kısıtlama olmaksızın serbest gerçekleştirilmesini sağlar.
- Cumhuriyet, hiçbir dini resmî din olarak tanımaz, herhangi bir din kurumuna maaş ya da ödenek anlamında destek vermez.

Bu bilgilere göre, Fransa Hükümeti'nin aşağıdakilerden hangisini korumaya çalıştığı söylenebilir?

A) Kadın erkek eşitliğini
B) Laik yönetim anlayışını
C) Gelenekçi toplum yapısını
D) Devletçi ekonomik sistemi
E) Sosyalist devlet yapısını

4. İstanbul Hükümeti, Ankara'da yeni bir meclisin açılmasını engellemek amacıyla şeyhülislamdan fetva alarak Millî Mücadele hareketini halifeye karşı bir ayaklanma olarak göstermeye çalışmıştır.

İstanbul Hükümeti'nin bu tutumunun;

I. yasama organının yönetimdeki etkinliğini artırmak,
II. Temsil Heyeti'ni halk desteğinden yoksun bırakmak,
III. İtilaf Devletleri arasında ikilik çıkarmak

amaçlarından hangilerine yönelik olduğu söylenebilir?

A) Yalnız I B) Yalnız II C) Yalnız III
D) I ve II E) II ve III

BİLGİ SARMAL

Diğer Sayfaya Geçiniz.

5. "Bu son senelerin inkılap hayatında, hummalı fedakârlıklarla dolu mücadele hayatında, milleti ölümden kurtararak kurtuluş ve istiklale götüren azim ve faaliyet hayatında, her millet ferdinin çalışması, gayreti, fedakârlığı geçmiştir. Bu anlamda en ziyade yücelterek anılmak ve daima şükranla tekrar edilmek lazım gelen bir himmet vardır ki o da Anadolu kadınlarının göstermiş olduğu çok ulu, çok yüksek, çok kıymetli fedakârlıktır."

Atatürk'ün bu sözleri aşağıdakilerden hangisine kanıt olarak gösterilebilir?

A) Millî Mücadele'de düzenli ordunun daha etkili olduğuna

B) Kadınların Osmanlı zamanından itibaren önemli haklar elde ettiğine

C) Kurtuluş Savaşı'nın kazanılmasında uluslararası çıkar çatışmalarının etkili olduğuna

D) Bağımsızlığın topyekûn bir mücadeleyle kazanıldığına

E) İnkılapların, Millî Mücadele yıllarından itibaren gerçekleştirildiğine

6. **Coğrafya bilimi;**

I. dünyadaki sınırlı doğal kaynakların daha akılcı kullanılması,

II. bir canlının anatomik yapısını anlama,

III. doğal ve beşerî süreçlerin birbirleriyle etkileşimini kavrayabilme

katkılarından hangilerini bireye kazandırır?

A) Yalnız I B) I ve II C) I ve III

D) II ve III E) I, II ve III

7.

- İskandinav ülkelerinde konutların yapımında ahşap malzeme kullanılmaktadır.
- Kuzey Afrika ülkelerinde konutlar kerpiçten yapılmaktadır.

Buna göre, konut yapımında kullanılana malzemenin seçiminde aşağıdakilerden hangisi etkilidir?

A) Doğal koşullar

B) Aritmetik nüfus yoğunluğu

C) Kültürel özellikler

D) Toprak türü

E) Yer altı kaynakları

8.

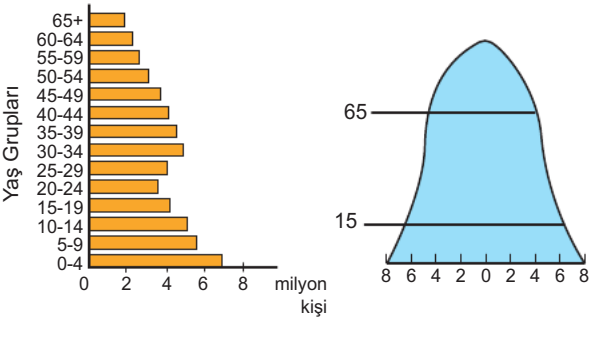

Yukarıda verilen nüfus piramidine göre,

I. Belirli bir süreçte düşük olan doğum oranları sonradan artış göstermiştir.

II. Piramidin üst kısmının geniş olması yaşlı nüfus oranının fazla olmasından kaynaklanır.

III. Gelişme seviyesi düşük olan ülkelere aittir.

yargılarından hangileri söylenirse doğru olur?

A) Yalnız I B) I ve II C) I ve III

D) II ve III E) I, II ve III

BİLGİ SARMAL

9. Bölge sınırları, bölgeyi oluşturma amacı ve ölçütlerine göre değişiklik gösterebilir.

Sınırlardaki bu değişiklik;

I. tayga bitki örtüsü bölgesi,
II. karstik kayaçlar bölgesi,
III. kuru tarım bölgesi,
IV. organize sanayi bölgesi

türlerinin hangilerinde daha kısa sürede gerçekleşebilir?

A) I ve II B) I ve III C) II ve III
D) II ve IV E) III ve IV

10. İnsanlar, ekonomik faaliyetlerini geliştirmek ve yaşamsal faaliyetlerini kolaylaştırmak için doğal çevrede değişimler meydana getirmektedir. Bu değişimlerin önemli bir kısmını dağlık bölgelerin dar kıyı şeritlerinde denizin doldurulmasıyla elde edilen alanlar üzerinde yapılan ulaşım projeleri oluşturur.

Aşağıdaki havalimanlarından hangisi bu projelere örnek verilebilir?

A) Antalya B) İstanbul C) Samsun
D) Bursa E) Ordu-Giresun

11. Felsefenin konusu MS 4. yüzyılda doğadan insana yönelmiştir. Bu yön değiştirmede amaç işe yarar becerikli yurttaşlar yetiştirmektir. Eski Yunanda o sıralarda başlamış olan demokrasiye doğru bir gidiş, bu gelişme, politika alanında başarıyla çalışabilecek bilinçli yurttaşları gerektiriyordu. Sofistler bu gereksinimi karşılamak için kent kent dolaşıp para karşılığı dersler vermişlerdir.

Parçadan hareketle aşağıdaki yargılardan hangisine ulaşılabilir?

A) Siyasetle uğraşan filozoflar başka alanlarda da faaliyet göstermişlerdir.
B) Felsefi düşünce aristokrasi ve demokrasi ile hiçbir zaman uzlaşı gösterememiştir.
C) İlkçağ siyaset hayatının şekillenmesinde filozofların etkisi olmuştur.
D) Eski Yunanda felsefe en alt sınıfın uğraştığı bir disiplin olmuştur.
E) Yunan filozofları biat kültürünü yerleştirme çabası içine girmişlerdir.

12. Felsefe, birtakım gizli hikmetlerle dolu olduğu görüntüsü veren, bazı ağırbaşlı ve saygıdeğer insanlarca dile getirilen gizemli kavramlarla bezenmiş, adeta çözülmemek üzere hazırlanmış bir bilmece değildir. Gündelik hayatın bizzat içinden yükselen bir etkinlik olarak felsefe, aslında yaşamın diğer olgularından çok uzaklarda ya da onlardan çok farklı değildir. Sözgelimi kimi zaman o, soğuk algınlığı kadar basit bir şeydir, kimi zaman kalp krizi kadar dramatiktir. Kimi zaman ise, sözgelimi bir veba kadar vurucu ve yıkıcı bir şeydir.

Parçadan çıkarılabilecek yargı aşağıdakilerden hangisidir?

A) Felsefe, metafizik alana ilişkin fikirler üretir.
B) Felsefe, yapmak sadece entelektüellerin işidir.
C) Felsefe, her zaman eğlenceli ve dinamiktir.
D) Felsefe, hayatın içinde gerçekleşen bir etkinliktir.
E) Felsefe yapmadan da yaşam sürdürülebilir.

13. Sokrates cesur, ölçülü gibi tek tek eylemlerin ne olduğunu sormaz; bütün işi gücü 'cesaret', 'ölçülülük' sözlerinin (kavramlarının) anlamına ait sorular sorup bunları cevaplandırmaktır. 'Cesaret nedir?' bu soru, cesur veya korkak kimselerle, bunların eylemleriyle ilgili bir bilme yahut da yaptırma ihtiyacından çıkmaz. Sokrates, bir erdem sözü olarak 'cesaret' ile neyin anlaşıldığını aydınlatmaya çalışır. Bu durum bazı felsefe sorularında daha iyi belirir. 'Şuur nedir?' sorusu belli hiçbir eylemde kök salmaz. Sözlüğünde "şuur" bulunmayan bir insan, birçok eylemlerindeki şuura rağmen, bu felsefe sorusunu sormaz, soramaz. Oysa ki, felsefe sorusu eylemlerden çıkan bir soru olsaydı, sorması gerekirdi.

N. Uygur'un "Bir Felsefe Sorusu Nedir?" **adlı makalesinden alınan bu parçada felsefi soruların hangi özelliği vurgulanmıştır?**

A) Gündelik yaşamın örgüsü içinde oluşması
B) Gereksinim sonucu ortaya çıkması
C) Reel gerçekliğe uygun olması
D) Bireyin davranışlarını şekillendirmesi
E) Kavramın neliğine ilişkin olması

14. Bilim, insanın içinde yaşadığı doğayı ve toplumu, hatta kendisini anlamasını, kavramasını ve bu alandaki olayları açıklayabilmesini sağlar. Ama sadece bununla kalırsa bilimsel bilgi pasif, durağan bir bilgi; insan kafasında bir süs olur. Oysa bilimsel bilgi sadece anlama, kavrama ve açıklamakla yetinmez, kişide bir güç hâline gelir, onun tabiatı kendi ihtiyaçları doğrultusunda kullanabilmesini ve değiştirmesini sağlar.

Bu parçada aşağıdakilerden hangisinin öneminden söz edilmiştir?

A) Bilimin günlük yaşama yönelik uygulanmasının

B) Bilimsel çalışmada araştırma alanının sınırlarının çizilmesinin

C) Bilim insanları arasındaki iş birliğinin

D) Bilimsel araştırma amacına uygun yöntem kullanmanın

E) Bilimsel araştırmada tarafsız olmanın

15. T.Mengüşoğlu *İnsan Felsefesi* adlı eserinde "Gerçekten bir bütün olarak somut insan, ancak yapıp-etmelerinde, bu yapıp-etmeleriyle gerçekleştirdiği başarılarında ortaya çıkar. Ancak bu fenomenlerde ve başarılarda insanı somut bir bütün olarak kavrayabilir, anlayabiliriz. Bu fenomenler, ya doğrudan doğruya insanın başarılarıdır ya da temelini insanın varlık-yapısında bulan yeteneklerdir Örneğin dil, konuşma böyle bir fenomendir. Çünkü dil insanla birlikte ortaya çıkan bir varlık alanıdır. Bu fenomen ve başarılar, insan varlığının taşıyıcısıdır; yani onlar olmadan insan yaşayamaz; hiç olmazsa, şimdi ve tarihte karşılaştığımız şekliyle yaşayamaz. Nerede insanla karşılaşırsak, orada bu fenomen ve başarılarla da karşılaşırız." demiştir.

Buna göre aşağıdaki yargılardan hangisine <u>ulaşılamaz</u>?

A) İnsan ürettiği değerler bütünü içinde anlaşılmalıdır.

B) Dil insanın oluşturduğu ontolojik bir yapıdır.

C) İnsan ontolojik temelli antropolojik bir varlıktır.

D) İnsan oluşturduğu idelerle varlığını anlamlandırır.

E) İnsan varlık bağlarından bağımsız olarak ele alınmalıdır.

16. Ekmel (Mükemmel) Varlık Delili: Bu delil Allah'ın (c.c.) varlığını insanın zihninde oluşan bir düşünceden hareketle ispatlamaya çalışır. Bu düşünce Fârâbî, İbn Sînâ gibi hem İslam hem de Batılı felsefeciler tarafından kabul edilmiştir. Buna göre insanın zihninde mükemmel varlık düşüncesi mevcuttur. Bu düşünce insanın kendi ürettiği bir şey değildir. Böyle bir varlığın mutlaka olması gerekir. İşte bu mükemmel varlık düşüncesi insana kendisi mükemmel olan Allah'tan (c.c.) gelmiştir.

Bu metne göre aşağıdaki yargılardan hangisine ulaşılabilir?

A) İnsan mükemmel bir şekilde yaratılmıştır.

B) Evren tesadüf eseri meydana gelmiştir.

C) Bütün bilim insanları Allah'ın birliğini kabul etmişlerdir.

D) Yaratıcının varlığı akla dayalı olarak kanıtlanabilir.

E) Allah kullarına merhametle muamele etmektedir.

BİLGİ SARMAL

17. İman; İslam dininde belirtilen temel esaslara inanmayı ifade eder. Bu esaslar Kur'an-ı Kerim'de açık bir şekilde belirtilmektedir. Amel ise; dünya ve ahirette ceza veya mükâfat konusu olan, iradeye dayanan her türlü iş ve davranış demektir. Aslında tasdik ve ikrar da ameldir. Fakat amel deyince daha çok davranışlar anlaşılmaktadır. İman ile amel arasında sıkı bir ilişki vardır. Çünkü insan inandığı gibi yaşaması gereken bir varlıktır. Bu yüzden iman kendini fiillerde ve davranışlarda gösterir. Kanaatler değişince davranışların değişmesi bu sebeptendir. Davranışlar Allah'ın (c.c.) isteğine uygun olduğu ölçüde anlam kazanır. Bu sebeple dinimizde her türlü güzel iş ve davranış ibadet olarak değerlendirilmektedir.

Bu parçada anlatılan temel düşünce ile aşağıdaki sözlerden hangisi ilişkilendirilebilir?

A) Ayinesi iştir kişinin, lafa bakılmaz! Şahsın görünür rütbe-i aklı, eserinde.

B) Danışan dağlar aşmış danışmayan düz yolda şaşmış.

C) Sevinçler paylaştıkça çoğalır; üzüntüler paylaştıkça azalır.

D) Kişi sevdiğiyle beraberdir.

E) Anlayana sivrisinek saz, anlamayana davul zurna az.

18. Farz, dinin mükelleften yapılmasını kesin ve bağlayıcı şekilde istediği iş ve davranışlardır.

Buna göre aşağıdakilerden hangisi farz kapsamında değerlendirilemez?

A) Abdest almak

B) Zekat vermek

C) Oruç tutmak

D) Hacca gitmek

E) Kurban kesmek

19. Allah (c.c.) yaşatandır. O sadece yaratmakla kalmaz aynı zamanda yaşatır. O bütün hayatların kaynağıdır. Yüce Allah hücre ve atomlardan bitkilere, kuşlardan insanlara kadar her canlıya hayat vermiştir. Balığın yüzmesi, kuşun uçması ve kedinin koşması Allah'ın (c.c.) verdiği hayat özelliğiyle olur. İnsanın doğması, nefes alıp vermesi ve hareket etmesi de bu sayededir. Hayat, kendisi de diri, canlı ve hayat sahibi olan Allah'tan (c.c.) gelir.

Bu parçada Yüce Allah'ın güzel isimlerinden hangisine vurgu yapılmaktadır?

A) Hayy B) Semi C) Bâsıt D) Kadîr E) Azîm

20. İnsanlardan bazıları da vardır ki inanmadıkları hâlde "Allah'a ve ahiret gününe inandık." derler. Akıllarınca Allah'ı ve iman edenleri kandırmaya kalkışıyorlar; hâlbuki onlar farkında olmadan yalnızca kendilerini aldatmış oluyorlar. Kalplerinde bir bozukluk vardır, Allah da onlardaki bozukluğu arttırmıştır. Yalan söylemeleri yüzünden, kendilerine acı veren bir azap da vardır. Onlara "Yeryüzünde düzeni bozmayın." denildiğinde, "Hayır, biz yalnızca ıslah edenleriz." derler. Biline ki, gerçekten bozanlar onların ta kendileridir, ama farkında olmuyorlar. Onlara "Diğer insanlar gibi siz de iman edin." denildiğinde, "Akılsızların inandıkları gibi biz de inanalım mı?" derler. Biline ki, asıl akılsızlar onlardır, fakat bilmezler. İman edenlerle karşılaşınca "İnandık." derler, şeytanlarıyla baş başa kaldıklarında ise "Biz sizinleyiz, biz yalnızca (onlarla) alay etmekteyiz." derler. Asıl onlarla alay eden ve azıp saparak dolaşmalarına izin veren Allah'tır. Doğruya karşılık sapkınlığı satın alanlar işte onlardır. Bu sebeple ticaretleri kâr etmemiş ve doğru yolu da bulamamışlardır.

(Bakara; 8-16)

Aşağıdakilerden hangisi bu ayetlerde yerilen tutum ve davranışlardan biri değildir?

A) İki yüzlülük

B) İnsanları aldatma

C) Masum insanlara iftira atma

D) Yeryüzünde karışıklık çıkarma

E) Başkalarının arkasından konuşma

BİLGİ SARMAL

Bu testte sırasıyla, Tarih (1 – 5), Coğrafya (6 – 10), Felsefe (11 – 15), Din Kültürü ve Ahlak Bilgisi (16 – 20) dersi olmak üzere toplam 20 soru vardır.

1. Çinli bir elçi Uygur ülkesini gezdikten sonra; "Zenginler at eti, fakirler ise koyun eti ile ördek eti yiyorlardı." tespitinde bulunmuştur.

Bu bilginin Uygurlar ile ilgili aşağıdaki yargılardan hangisi ile çeliştiği söylenebilir?

A) Manihaizm'in tüm kaidelerini benimsemişlerdir.
B) Hayvancılık faaliyetlerine önem vermişlerdir.
C) Savaşçı özelliklerini kaybetmemişlerdir.
D) Sosyal statüye uygun beslenme alışkanlıkları vardır.
E) Çin ile ticari ilişkileri geliştirmişlerdir.

2. İslam âlimlerinden Râvendî, Selçuklu hükümdarı Melikşah ile ilgili, "Bu padişah eski hükümdarların yüksek huyları ile iyi ahlâklarının yolunu takip eder ve onlara benzer. Geçmiş kağanların memnun kalınacak yöntemlerini kendine önder ve kılavuz yapmıştır. Selçuklu sultanlarının eskiden göstermiş oldukları adaleti ve siyaset yollarını kullanmış, bunlara yeni kaideler ilave ederek tazelemiş ve canlandırmıştır." ifadelerini kullanmıştır.

Buna göre Melikşah Dönemi'nde Büyük Selçuklu Devleti'nin temel özellikleri ile ilgili aşağıdakilerden hangisi söylenebilir?

A) İslami esaslar ile Fars kültürü, idari teşkilatlanmanın ana unsurlarıdır.
B) Ele geçirilen topraklarda yaşayan devletlerin sistemleri benimsenmiştir.
C) Toplumsal huzur ve refahın sağlanmasında askerî güç etkin bir şekilde kullanılmıştır.
D) Eski Türk devlet gelenekleri geliştirilerek devam ettirilmiştir.
E) İslam dünyasında siyasi birlik sağlanarak yayılmacı bir politika izlenmiştir.

3.



Emirgan Kız Ortaokulu Öğrencileri (1893)



Kadınlar Dünyası Dergisi (1914)

Osmanlı son dönemlerine ait bu görsellerden yola çıkarak aşağıdaki yargılardan hangisine kesinlikle <u>ulaşılamaz</u>?

A) Kadınlar, toplumsal hayatta yer almışlardır.
B) Kızların eğitimi ile ilgili çalışmalar yapılmıştır.
C) Kadınlar, üst düzey memuriyetlerde çalışmışlardır.
D) Basın yayın hayatında kadınlar da rol almışlardır.
E) Kadınlar, çeşitli haklara sahip olmuşlardır.

4. "Türkiye'nin gerçek sahibi ve efendisi, hakiki üretici olan köylüdür. O hâlde, herkesten daha çok refah, mutluluk ve servete hak kazanmış ve layık olan köylüdür. Efendiler! Milletimiz çiftçidir. Milletin çiftçilikteki çalışmasını yeni ekonomik tedbirlerle son hadde eriştirmeliyiz. Köylünün çalışmasının neticeleri ve verimlerini kendi menfaati lehine son hadde çıkarmak ekonomik siyasetimizin temel ruhudur."

Atatürk'ün bu sözüyle, aşağıdakilerin hangisi arasında doğrudan bir ilişki olduğu <u>söylenemez</u>?

A) Yüksek Ziraat Enstitüsü'nün açılması
B) Tarım Kredi Kooperatifleri'nin oluşturulması
C) Tarım araç ve gereçlerinin modernleştirilmesi
D) Aşar vergisinin kaldırılması
E) Tevhid-i Tedrisat Kanunu'nun çıkarılması

5.

- 5 Haziran 1926 Ankara Antlaşması ile Musul ve Kerkük, İngiliz mandasındaki Irak'a bırakıldı.
- 13 Haziran 1928 tarihinde Fransa ile imzalanan bir antlaşma ile Osmanlı borçları konusunda ortak bir karar alındı.
- 30 Ekim 1930'de Türkiye ve Yunanistan arasında imzalanan Dostluk, Tarafsızlık, Uzlaşma ve Hakem Antlaşması ile Nüfus Mübadelesi sorunu çözüme kavuşturuldu.

Tarih Öğretmeni Eray Bey dersinde bu bilgileri paylaştıktan sonra öğrencilerine, "Türk dış politikasının temel özellikleri ile ilgili neler söylenebilir?" diye sormuştur.

Buna göre öğrencilerin aşağıdakilerden hangisini söylemesi doğru olur?

A) Güçlü devletlerle siyasi ve ekonomik iş birliği içerisine girilmiştir.

B) Devletçilik ilkesi dış siyasi esasların belirlenmesinde belirleyici olmuştur.

C) İmzalanan antlaşmalarda her zaman Türkiye'nin lehine kararlar alınmıştır.

D) Lozan Antlaşması'ndan arta kalan sorunlar çözüme kavuşturulmaya çalışılmıştır.

E) Uluslararası teşkilatlara katılmama anlayışı benimsenmiştir.

6.

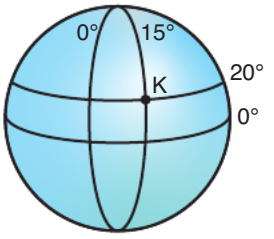

Şekle göre K noktasının;

I. göreceli konumu,

II. mutlak konumu,

III. bitki örtüsü,

IV. bulunduğu saat dilimi

bilgilerinden hangilerine kesinlikle ulaşılabilir?

A) I ve II B) I ve III C) II ve III D) II ve IV E) III ve IV

7. Aşağıda bir yörenin yıllık yağış ve sıcaklık ortalamaları verilmiştir.

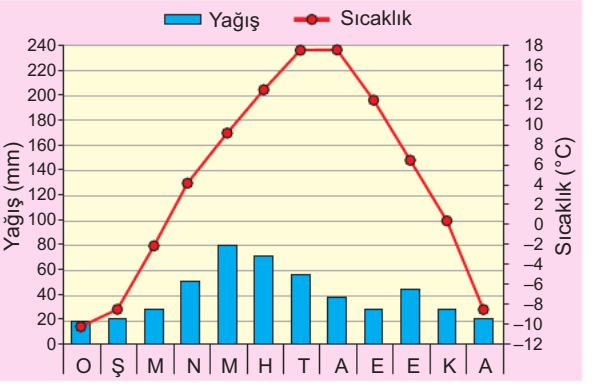

Grafikteki bilgiler göz önüne alındığında, bu yöreyle ilgili olarak aşağıdaki yargılardan hangisine ulaşılamaz?

A) Kuzey Yarım Küre'de yer almaktadır.

B) Yıllık yağış miktarı 400 mm'nin üzerindedir.

C) En kurak mevsim kıştır.

D) Yağış rejimi düzensizdir.

E) Yıllık sıcaklık farkı 15 C° civarındadır.

8. **Nüfusla ilgili olarak aşağıda verilen özelliklerden hangisinin ortaya çıkmasındaki temel etken yanlış olarak verilmiştir?**

	Özellik	Temel etken
A)	Batı Avrupa'da nüfus yoğundur.	Endüstri
B)	Sibirya'da nüfus seyrektir.	İklim
C)	Nil Deltası'nda nüfus yoğundur.	Tarım
D)	Himalayalar'da nüfus seyrektir.	Yeryüzü şekilleri
E)	Orta Avustralya'da nüfus seyrektir.	Yükselti

BİLGİ SARMAL

9. Aşağıdaki haritada İzmir ve Tokyo limanları gösterilmiştir.



İzmir'den Tokyo'ya kuru üzüm taşıyacak bir geminin, en kısa yolu izlemesi için sırasıyla hangi kanal ve boğazlardan geçmesi gerekir?

A) Süveyş Kanalı, Babülmendep Boğazı, Malakka Boğazı
B) Süveyş Kanalı, Hürmüz Boğazı, Malakka Boğazı
C) Panama Kanalı, Macellan Boğazı, Bering Boğazı
D) Korint Kanalı, Dover Boğazı, Çanakkale Boğazı
E) Kiel Kanalı, Hürmüz Boğazı, Bering Boğazı

10. Orman yangınları genellikle aşırı sıcaklarda, kurak ve rüzgârlı günlerde artış göstermektedir.

Yangın mevsimi olarak da adlandırılan bu dönemlerde yerden, havadan ve uzaydan yapılan gözlemlerle olası yangınlara anında müdahale edilmektedir.

Buna göre, aşağıdakilerden hangisi orman yangınlarıyla etkin mücadele yöntemlerinden biri değildir?

A) Ormanlık alanlarda yollar açmak
B) Yangında görev alacak personeli eğitmek
C) Yangın söndürme havuzları inşa etmek
D) Yerleşim alanlarını orman çevresine kurmak
E) Yangın söndürme araçlarını yaygınlaştırmak

11. "Çok fazla şeye kesin gözüyle bakmak, kumdan kaleler inşa etmek gibidir. Düşüncelerinizin temelleri, inanmak istediğiniz kadar sağlam değildir ve sizi mutlu kılma ihtimalleri yoktur."

Pyrrhon bu görüşlerinde aşağıdaki yargılardan hangisini savunmuştur?

A) Yeterince çalışma yapılırsa her bilgi kesinleşir.
B) Bilginin kaynağı akıldır.
C) İnsan zihni doğuştan bilgi yüklüdür.
D) Doğru bilgiye ulaşmak mümkün değildir.
E) Düşünceler eylem alanına geçmelidir.

12. "Bir adam dört kişiye bir miktar para verdi. 'Bu para ile işinize yarayanı alın!' dedi. Dört kişiden biri; 'Bu parayla engür alalım.' dedi. Öbür arkadaşı Arap idi. 'Aksilik etme!' dedi. 'Ben engür istemem, ineb isterim.' Onlardan birisi Türk idi. 'Ben ineb istemem, üzüm isterim.' dedi. Rum olan bir başkası: 'Bırakın bu lafları! Bu para ile istafil alalım.' dedi. (İstafil Rumca, ineb Arapça, engür de Farsça üzüm demektir). Derken dört kişi birbirleri ile çekişmeye, dövüşmeye başladılar. Çünkü adların anlamından haberleri yoktu. Onlar ahmaklıklarından, birbirlerine yumruk atıyorlardı. Çünkü zihinleri bomboş, bilgisizlikle dolu idiler. Orada çeşitli dil bilen, sır sahibi üstün bir er bulunsa idi onları uzlaştırır, barıştırırdı.

Bu parçada aşağıdakilerin hangisinden yakınılmaktadır?

A) Kavramların anlamlarının sürekli değişmesinden
B) İletişimde dile dayalı yaşanan aksaklıklardan
C) İnsanların yeni kavramlar üretememesinden
D) Kavramların oluşturulma aşamasının zorlu olmasından
E) Kavramları inceleme konusu yapan etkinliklerin az olmasından

BİLGİ SARMAL

13. Düşünce kendine yöneldiğinde kendini geliştirebilme, yenileyebilme, "eskimiş" yanlarını yıkma gücüne sahiptir. Düşünce alanında yenilenmenin temel koşulu eleştiridir. Eskilerde eksik, sorunlu, işlemez olarak bulunanların eleştiriyle yıkıldığı alana kuram oluşturan düşünce yerleşecektir.

Bu parçada düşüncenin kendini yenilemesi aşağıdaki tutumlardan hangisine bağlanmıştır?

A) Önceki görüşlere bağlı kalma
B) Var olan sorunlar üzerinden yola çıkma
C) Sorgulayıcılığı esas alma
D) Bilgide faydayı esas alma
E) Bilimsel verilerin dışına çıkmama

14. Aristoteles, insanın varlığı ve algısından tümüyle bağımsız bir şey hakkında konuşulamayacağını, bilgi sahibi olunamayacağını düşünür. Örneğin bir "balık" kavramından söz edebilmek, onun özelliklerini bilebilmek, hakkında yargıda bulunabilmek için bir şekilde bir yerlerde birilerinin algısına bir balık denk gelmiş olması gerekir ki bir varlık olarak "balık" bilginin nesnesi ve konusu olabilsin.

Bu parçaya göre Aristoteles'in aşağıdaki yargılardan hangisine karşı çıkması beklenir?

A) Asıl varlıklar bu dünyanın ötesinde, başka bir evrendedir.
B) Varlıklar, özünün korunduğu bir değişim hâlindedir.
C) Bilginin bir noktada duyulara dayanması gerekir.
D) Varlığın akıldan bağımsız, görünür bir yönü vardır.
E) Bilginin nesnesi duyulur dünyanın içindedir.

15. Bir kuşaklık kısacık zaman dilimi içinde o kadar değişim oldu ki: Leonardo, Mikelanj ve Raphael, şaheserlerini ürettiler. Kolomb, Yeni Dünya'yı keşfetti; Luther Katolik Kilisesine başkaldırdı ve değişimi başlattı; Kopernik güneş merkezli bir dünya sentezini kurdu ve bilimsel devrime ön ayak oldu. Rönesans insanı birden bire üst insan statüsüne yükseldi. Geleneksel otoriteleri yıktı ve kendi hür iradesine dayalı bir hakikati kurmayı başardı.

Bu parçada Rönesans dönemine ilişkin aşağıdakilerden hangisi vurgulanmıştır?

A) İnsanın özgürleşmesi sadece siyasi değişimlerle mümkündür.
B) Dinsel otoritelere bağlı kalma insanın doğasında vardır.
C) Coğrafi Keşifler ve otoritelere başkaldırı bu dönemin felsefesini etkilemiştir.
D) Bilimsel ve felsefi gelişmeler dinin ve inancın etkisiyle mümkündür.
E) Sanattaki değişimler düşünce dünyasındaki değişimleri etkilemede yetersiz kalmıştır.

16. İnsanın madde ve ruh olmak üzere iki farklı yönü bulunmaktadır. Yani insan, madde ve ruhtan meydana gelmiş bir canlıdır. İnsanın görünen vücudu maddi yönünü, görülmeyen ruh da manevi yönünü ifade etmektedir. Mahiyet ve hakikatini tam olarak bilemediğimiz ruhumuz, vücudumuzla birleşince hayat meydana gelir. Bu durum da insanı canlı tutan, insana esas insan olma özelliği kazandıran şeyin ruh olduğunu gösterir. İnsandan söz ederken onun sadece bedenini ve bedensel ihtiyaçlarını anlatmak, eksik bir anlatım olacaktır. Çünkü onun yeme, içme, uyuma vb. bedensel ihtiyaçları olduğu gibi manevi ihtiyaçları da vardır. İnsan Yüce Allah (c.c.) tarafından yaratılmıştır ve dolayısıyla O'nun kuludur. O hâlde insanın, yaratılış itibariyle Allah'ı (c.c.) bilmek, bulmak ve verdiği nimetlere karşın kulluk görevlerini yerine getirmek gibi manevi ihtiyaçları da bulunmaktadır.

Bu parçadan insan ile ilgili aşağıdakilerden hangisine ulaşılabilir?

A) Bedensel yönünün önemsiz olduğuna
B) Dünya ve ahiret dengesini gözetemediğine
C) Vahiyle desteklenerek doğru yola çağrıldığına
D) İman etmesinin fıtri ihtiyaçları arasında yer aldığına
E) İyi davranışlarda bulunarak günahlarından arındığına

BİLGİ SARMAL

17.
- "Her kim Kâbe'ye gelir, kötü söz söylemez, büyük günahlardan çekinir, küçük günahları işlemekte ısrar etmezse, günahlarından arınarak anasından doğduğu günkü gibi tertemiz olarak döner."

(Buhârî, Hacc, 4)

- "Bir kimse, inanarak ve sevabını sadece Allah'tan bekleyerek ramazan orucunu tutarsa, geçmiş günahları bağışlanır."

(Buhari, Savm, 7)

Aşağıdaki yargılardan hangisi verilen hadislerdeki ortak vurguyla örtüşmektedir?

A) Bazı ibadetler hükmü gereği diğerlerinden ayrılır.
B) İbadetler, insana yeni bir başlangıç fırsatı sunar.
C) Müslüman, imanına uygun davranışlar sergilemelidir.
D) İbadetler, Müslümanlar arası birlik ve beraberliğe katkı sağlar.
E) Yüce Allah tüm insanların şirk dışındaki günahlarını affedecektir.

18. Temîm ed-Dârî, Şam'dan Medine'ye yağ kandiller ve ip getirdi. Medine'ye vardığında cuma günüydü. Hizmetçilerinden Ebû'l-Berrâd, kandilleri iple astı, yağ koyarak fitil taktı. Güneş batınca da tutuşturdu. Allah'ın elçisi mescide gelince bir de baktı ki mescit apaydınlık. Temîm ed-Dârî'nin yaptığını öğrenince şöyle buyurdu: "Sen İslam'ı aydınlattın. Allah da seni dünyada ve ahirette nurlandırsın."

(İbn Mâce, Mesâcîd, 9)

Bu hadiste aşağıdakilerden hangisi vurgulanmaktadır?

A) İslam yeniliklere açık bir dindir.
B) Peygamberimiz arkadaşlarını kırmamaya özen göstermiştir.
C) Cami ve mescidler İslam'ın en önemli merkezidir.
D) Medine, her dönemde kutsal kabul edilen bir şehirdir.
E) Dinde bid'atlardan kaçınılmalıdır.

19. "Ey insanlar! Sizleri bir erkekle bir dişiden yarattık ve birbirinizle tanışmanız için sizi kavimlere ve kabilelere ayırdık. Allah katında en değerliniz en takvalı olanınızdır. Allah her şeyi bilmektedir ve her şeyden haberdardır."

(Hucurât; 13)

Bu ayetin öncelikle aşağıdaki olumsuzluklardan hangisini engellediği söylenebilir?

A) Haset
B) İsraf
C) Gösteriş
D) Irkçılık
E) Nankörlük

20. İmanın en önemli unsuru kişinin inanması gereken konuları kalbi ile onaylamasıdır. İman, Allah'ın (c.c.) varlığını, birliğini, sıfatlarını, peygamberlerini, ahiret gününü ve bunlardan başka inanılması gereken her şeyi kalp ile onaylama ve bu onayı dil ile söyleme şeklinde ifade edilebilir. Kişi iman konusunda herhangi bir baskı veya tehdit altında olmadan iman ettiğini dile getirmelidir. Bir kişi kalbiyle inanmadığı hâlde diliyle inandığını söylerse mümin olamaz.

Bu parçada imanın;

I. Tasdik,
II. Amel,
III. İkrar

kavramlarından hangileri ile ilişkisinden söz edilmiştir?

A) I ve II B) I ve III C) II ve III
D) Yalnız I E) I, II ve III

Bu testte sırasıyla, Tarih (1 – 5), Coğrafya (6 – 10), Felsefe (11 – 15), Din Kültürü ve Ahlak Bilgisi (16 – 20) dersi olmak üzere toplam 20 soru vardır.

1. Kutadgu Bilig, Türk İslam edebiyatının günümüze kadar ulaşan ilk eseri olma özelliğine sahiptir. Yusuf Has Hacip, eserini 1070'te Doğu Karahanlı Hükümdarı Uluğ Kara Buğra Han'a Türkçe olarak sunmuştur. Eserde insanların hem bu dünyada hem de ahirette mutluluğu elde edebilmek için nasıl bir yaşam sürmeleri gerektiği bilgisi verilmiştir. Ayrıca insanın sosyal hayattaki ve devlet nizamındaki görev ve sorumluluklarına değinilmiş, ideal Türk devlet anlayışının özellikleri anlatılmıştır. Bu bakımdan eser bir siyasetname olarak nitelendirilmektedir.

Yusuf Has Hacip'in kaleme aldığı bu eser ile aşağıdakilerden hangisini hedeflediği söylenebilir?

A) İslam kültürü ile Türk kültürü arasındaki temel farklılıkları belirlemek
B) Hükümdarların sert tedbirler vasıtasıyla iktidarını güçlendirmesini kolaylaştırmak
C) Soy esasına göre yönetim kadrolarının oluşturulmasını sağlamak
D) Devlet ile halk arasındaki bağları güçlendirerek toplumsal huzuru tesis etmek
E) Türkçenin farklı uluslar tarafından öğrenilmesini sağlamak

2. Osmanlı Devleti'nde insan haklarının gelişmesinde etkili olan Tanzimat Fermanı'nda yer alan bazı esaslar şunlardır:

- Herkese can, mal ve namus güvencesi tanınmıştır.
- Yargılanmadan kimsenin cezalandırılmaması kararlaştırılmıştır.
- Müsadere (devletin kişilerin mallarına el koyması) usulü kaldırılmıştır.
- Rüşvet ve iltimas (haksız yere kişilere ayrıcalık tanıma) yasaklanmıştır.

Bu bilgiler dikkate alındığında aşağıdakilerden hangisine ulaşılamaz?

A) Toplumda eşitlik anlayışının geliştirilmeye çalışıldığı
B) Halkın yönetime katıldığı
C) Özel mülkiyet hakkının korunduğu
D) Yaşam hakkının korunduğu
E) Miras bırakma güvencesinin sağlandığı

3. Balkan Savaşları öncesi Batı Trakya, Makedonya, Arnavutluk ve Doğu Trakya Osmanlı Devleti'nin egemenliğindeydi. Karadağ'ın saldırısıyla başlayan I. Balkan Savaşı'nda; Sırbistan, Bulgaristan ve Yunanistan'ın da savaşa katılmasıyla birlikte Osmanlı Devleti kısa sürede yenilgiye uğradı. Büyük devletlerin arabuluculuğu neticesinde yapılan Londra Antlaşması (30 Mayıs 1913) ile Osmanlı Devleti, Midye-Enez hattının batısında kalan topraklarını kaybetti.

Balkan Savaşları'nda yaşanan bu gelişmelerin aşağıdakilerden hangisine ortam hazırladığı savunulamaz?

A) Osmanlı Devleti'nin uluslararası alanda prestij kaybına uğramasına
B) Balkanlardan Anadolu'ya yönelik Türk göçlerinin başlamasına
C) Osmanlı topraklarındaki azınlık nüfusunun azalmasına
D) Trablusgarp Savaşı'nın kaybedilmesi ve Kuzey Afrika'daki Osmanlı egemenliğinin sona ermesine
E) Osmanlı yönetiminin önemli ekonomik sorunlarla karşı karşıya kalmasına

4. **16 Mart 1921 tarihinde TBMM ile Sovyet Rusya arasında imzalanan Moskova Antlaşması'nın;**

- Her iki taraftan birinin tanımadığı devletler arası bir antlaşmayı diğeri de tanımayacaktır.
- Sovyet Rusya, Misak-ı Millî'yi tanıyacaktır.
- Sovyet Rusya kapitülasyonlardan vazgeçmiştir.
- Boğazların geleceğine Karadeniz'e kıyısı olan ülkelerin katılacağı konferansta karar verilecektir.
- Batum, Gürcistan'a bırakılacaktır.
- Osmanlı Devleti ile Çarlık Rusyası arasında yapılmış olan antlaşmalar geçersiz sayılacaktır.

maddeleri dikkate alındığında aşağıdakilerden hangisine ulaşılamaz?

A) Sevr Antlaşması'nın Sovyet Rusya tarafından tanınmadığına
B) TBMM'nin bağımsızlık ilkesi doğrultusunda hareket ettiğine
C) Misak-ı Millî'den taviz verildiğine
D) Boğazların uluslararası statüye sahip olduğuna
E) Osmanlı Devleti'nin Sovyet Rusya ile ittifak kurduğuna

BİLGİ SARMAL

Diğer Sayfaya Geçiniz.

5. Mustafa Kemal bir konuşma esnasında "Şair Mehmet Emin Yurdakul'un ilk defa Manastır Askerî İdadisinde öğrenci iken okuduğum 'Ben bir Türk'üm, dinim, cinsim uludur.' mısralarıyla başlayan şiirinde bana ulusal benliğimin gururunu tattıran ilk anlatımı bulmuştum." demiştir.

Buna göre Mehmet Emin Yurdakul'un, Mustafa Kemal üzerindeki etkisi ile ilgili aşağıdakilerden hangisi söylenebilir?

A) Laiklik anlayışının oluşması
B) Demokrasi düşüncesinin olgunlaşması
C) Milliyetçilik fikrinin gelişmesi
D) Liberal fikirlerin benimsenmesi
E) Bilimsel düşüncenin şekillenmesi

6. Aşağıdaki şekilde 40° Kuzey paralelinde yer alan K, L, M, N ve O merkezlerinde aynı anda Güneş'in gökyüzündeki konumları gösterilmiştir.

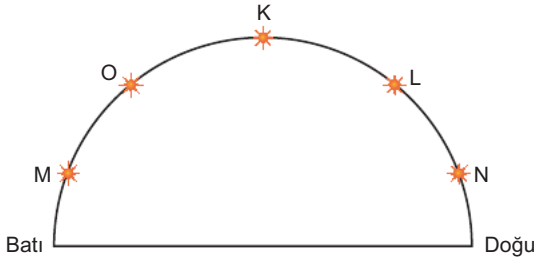

Buna göre hangi merkez diğerlerinden daha doğudadır?

A) K B) L C) M D) N E) O

7. Aşağıda bir bölgenin topoğrafya haritası verilmiştir.

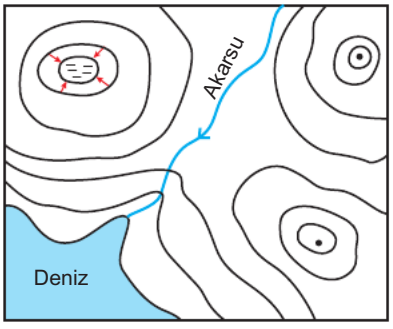

Topoğrafya haritasında aşağıdaki yeryüzü şekillerinden hangisi yoktur?

A) Delta B) Vadi C) Kapalı çukur
D) Yamaç E) Doruk

8. Nüfusun dağılışını iklim, yer şekilleri, toprak yapısı gibi doğal faktörler etkilerken tarım, sanayi, ulaşım, ticaret gibi beşerî faktörler de etkilemektedir.

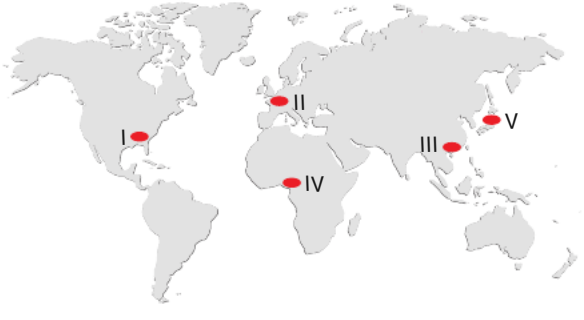

Buna göre haritada numaralandırılarak gösterilen alanların hangisinde nüfusun yoğun olması sanayi faaliyeti ile açıklanamaz?

A) I B) II C) III D) IV E) V

BİLGİ SARMAL

9. I. Siyasi bölgeyi oluşturan ülkelerde aynı iklim özellikleri görülür.

II. Siyasi bölge sınırları, yeni ülkelerin birliğe katılmasıyla genişler.

III. Siyasi bölgelerin tümünde, birliğe üye ülkeler ortak para birimi kullanır.

IV. Siyasi bölgeler zamanla işlevini yitirip ortadan kalkabilir.

Siyasi bölgelerle ilgili olarak yukarıdaki yargılardan hangileri kesinlikle doğrudur?

A) I ve II B) I ve III C) II ve III
D) II ve IV E) III ve IV

10. Bir bölgede nem miktarının geçici dengesizliğinden kaynaklanan su kıtlığı olarak tanımlanabilen kuraklık, doğal bir iklim olayıdır ve herhangi bir zamanda ve yerde meydana gelebilir. Kuraklık genellikle yavaş gelişir ve uzun bir dönemi kapsar.

Buna göre, aşağıdaki afetlerden hangisinin gelişimi kuraklıkla benzerlik gösterir?

A) Deprem B) Çığ C) Sel ve taşkın
D) Heyelan E) Erozyon

11. "Geçmediğin kapının gıcırtısını, sınamadığın acının sancısını bilemezsin."

Mevlana'nın bu sözleri aşağıdaki yaklaşımlardan hangisiyle ilişkilendirilebilir?

A) Rasyonalizm B) Kritisizm
C) Empirizm D) Rölativizm
E) Pragmatizm

12. Sokrates'e göre filozofun görevi bireyde saklı bulunan bilgileri alay ve doğurtma yöntemiyle ortaya çıkarmak için bireye yardımcı olmak, kılavuzluk yapmaktır. Bunun için başlangıçta karşısındakinin bilgilerinin yetersizliğini gösterir. Daha sonra karşısındakine sorulan sorularla doğuştan sahip olduğu bilgileri hatırlaması için yardımcı olur.

Sokrates'in bilginin açığa çıkarılması amacıyla kullandığı yöntem ile ilgili aşağıdakilerden hangisi söylenemez?

A) Süreç soru sorarak başlatılır.
B) Sunulan kanıtlar ile karşı tarafa doğru bilgi öğretilir.
C) Yeni sorularla, verilen cevapların güçsüzlüğü gösterilir.
D) Doğuştan gelen bilgiler ortaya çıkarılmaya çalışılır.
E) Tartışmaya dayalı bir yöntemdir.

13. Gölgeler dünyasındasın
Kaldır artık gözünden perdeyi
Görünenin ötesinde
Varlığın gerçekliğini gör
Gör ki sanıların yerini
Hakikate bıraksın
Gerçekliğin soluk gölgesi
Erdemin ışığıyla aydınlansın.

Bu şiir felsefenin hangi alt disiplinleri ile ilişkilendirilebilir?

A) Estetik – Ontoloji – Siyaset
B) Ontoloji – Epistemoloji – Etik
C) Epistemoloji – Siyaset – Estetik
D) Ontoloji – Estetik – Etik
E) Epistemoloji – Estetik – Din

BİLGİ SARMAL

14. Tao, "evrenin yolu, yasası, düzeni" gibi anlamları içinde barındıran bir kavramdır. Evrende varlıkların değişimi sürekli bir kaynaktan beslenir. Bu kaynak Tao'dur fakat o tüm değişimlerin içinde değişmeden kalır. O, evrenin adsız yasasıdır. H.J.Storig *İlk Çağ Felsefesi* adlı eserinde Lao Tse'nin Tao kavramını ile ilgili şöyle dediğini belirtmektedir: "Kişi içinde bulunduğu yerin yasasına uyar. Yer Göğün yasasına uyar. Gök Tao'nun yasasına uyar. Tao ise kendi yasasına uyar." Lao Tse usanmadan "Sonsuz Tao'nun adı yok." "Tao gizlidir, adsızdır." "Adını bilemiyorum, ama ona Tao diyorum." diye bir kaç kez bu durumu bildirir.

Bu parçadan aşağıdakilerden hangisine ulaşılabilir?

A) Evrendeki değişimin determinist yapıda olduğuna
B) Bilinemeyen bir şeyin var olamayacağına
C) Evrenin yasasının kavranılamayacağına
D) Gerçek varlığın duyusal olarak algılanabileceğine
E) Değişimin duyusal bir yanılgı olduğuna

15. Mükemmel varlık düşüncesi mükemmel olmayan bir varlıktan kaynaklanamaz. O hâlde mükemmel varlık düşüncesi ancak kendisi de mükemmel olan bir varlıktan yani Tanrı'dan çıkabilir. Dolayısıyla Tanrı'nın varlığı, insanın kendisini düşünen bir varlık olduğu düşüncesi kadar doğal bir şekilde kendini duyurur.

Bu düşünceler Tanrı ile ilgili aşağıdakilerden hangisini doğrular?

A) Varlığın ne olduğu şüphelidir.
B) Varlık doğası gereği mükemmelidir.
C) Doğaya müdahale etmediği düşünülmüştür.
D) İnsanın düşünmesi ancak Tanrı'nın düşünmesi ile oluşur.
E) İnsandaki mükemmel varlık düşüncesi Tanrı'nın mükemmel oluşuna bağlıdır.

16. Uçsuz bucaksız tüm kâinatın ve içindeki her şeyin yaratıcısı olan Allah'a (c.c.) kulluk etmek, verdiği sayısız nimetlere teşekkür etmenin en güzel yollarından biridir. Çünkü Rabbimiz evrendeki her şeyi insanın faydalanması için yaratmıştır. Kul Allah'a (c.c.) karşı olan görevlerini yerine getirerek aynı zamanda kendisine verilen bu nimetlerin şükrünü de eda etmiş olur. Bu vazifeler insanın Allah'a (c.c.) olan inancını pekiştirir ve O'na olan bağlılığını artırır. Ahlakını güzelleştirir, kötü duygularını yok eder. Günah işlemekten alıkoyar. Böylece kişi, başıboş yaratılmadığını bildiğinden dünyada yaptıklarının ahirette hesabını vereceği bilinciyle hareket eder. Bu da onun kendisiyle, Rabbiyle ve çevresiyle olan ilişkilerini düzenlemesine katkı sağlar.

Bu parça aşağıdaki kavramlardan hangisi ile ilişkilendirilemez?

A) Tevekkül B) Takva C) Hamd
D) İbadet E) Sorumluluk

17. Ahlakî değerlerin daima geçerli, çağlar üstü, nesnel değerler mi, yoksa zamandan zamana, kişiden kişiye, toplumdan topluma değişen göreceli değerler mi olduğu, felsefenin olduğu kadar teolojinin de önemli konularından biridir. Bazı tarihi ve antropolojik veriler birtakım normların değiştiğini göstermektedir. Fakat yine de tarih boyunca değişmeyen temel değerlerin varlığından bahsedilebilir. Bu tez İslâm'ın temel özellikleriyle de uyumludur. Çünkü İslam'a göre insan doğuştan gelen bir ahlaki eğilime sahiptir. Temel ahlakî prensipler, tarihin her döneminde geçerli olma talebini devam ettirir. Zira bu prensipler bir ölçüde değişime mesafelidir ve herkes için geçerli olma isteğini taşır.

Bu parçada ahlaki değerlerin hangi özelliği üzerinde durulmaktadır?

A) Evrenselliği B) Faydacılığı C) Bireyselliği
D) İşlevselliği E) Saygınlığı

BİLGİ SARMAL

18. Dua, Allah Teâlâ'nın yüceliği karşısında kulun aczini itiraf etmesi, isteklerini O'na arz ederek O'nun lütuf ve yardımını dilemesidir. Kâinatta varlıkların her biri kendi dilince Rabbini tesbih edip O'na dua etmektedir. Kur'an-ı Kerim'de "De ki: Duanız olmasa Rabbim size ne diye değer versin..." (Furkan suresi, 77. ayet) buyrularak duanın önemine işaret edilmiştir. Dua, kulun Rabbi katında değer kazanmasını sağlar. Dua doğrudan Allah'a (c.c.) yapılır. O'ndan başka varlıklara dua edilmez. "Yalnız sana ibadet eder, yalnız senden yardım dileriz." (Fatiha suresi, 5. ayet) Duada sabırlı olmak önemlidir. Ayrıca duaya konu olan istek ve niyazların hayırlı işlere yönelik olması gerekir.

Bu parçaya göre duaya dair aşağıdakilerden hangisine ulaşılamaz?

A) Yüce Allah kullarının kendisine dua etmesini istemiştir.
B) İnsan Yüce Allah'a dua etmeye muhtaçtır.
C) Yüce Allah kullarının bütün dualarını kabul etmektedir.
D) Dua insanı Yüce Allah'a yakınlaştırmaktadır.
E) Yüce Allah kendisine dua eden kulunu sevmektedir.

19. Din, Allah'ın bir kanunudur ve birtakım hükümlerin, hakikatlerin mukaddes bir mecmuasıdır ki bunu peygamberleri vasıtasıyla insanlara lütuf ve ihsan buyurmuştur. Bu kanun, insanları hayra götürür; insanlar, bu ilahî kanun hükümlerine kendi güzel tercihleriyle riayet ettikçe doğru yolu bulmuş, hidayet üzere bulunmuş olurlar, dünyada da ahirette de selamete, saadete kavuşurlar.

(Ömer Nasuhi Bilmen)

Bu tanıma göre din ile ilgili aşağıdakilerden hangisi söylenemez?

A) İlahi kurallar bütünüdür.
B) Allah'ın kullarına bir ikramıdır.
C) Her iki cihan mutluluğunu kazandırır.
D) Fıtrattan gelen inanma ihtiyacını karşılar.
E) İnsanın seçimlerine bağlı olarak fayda sağlar.

20. Hz. Muhammed (s.a.v.) şöyle buyurdu: "Yatağına girip yatmak istediğin zaman şu duayı oku: 'Allah'ım! Kendimi sana teslim ettim. İşimi sana havale ettim. Azabından korkup, sevabını umup sırtımı sana dayadım. Senden (azabından) korunmanın ve güvende olmanın tek yolu, ancak sana (rahmetine) sığınmaktır. İndirdiğin kitabına ve gönderdiğin Nebi'ye inandım.' Eğer o gece ölürsen, fıtrat (İslam) üzere ölürsün."

(Buhârî, Deavât, 6.)

Bu hadis aşağıdaki kavramlardan hangisiyle ilişkilendirilebilir?

A) Müsamaha
B) Tevazu
C) Tevekkül
D) Taassup
E) Diğergamlık

BİLGİ SARMAL

Bu testte sırasıyla, Tarih (1 – 5), Coğrafya (6 – 10), Felsefe (11 – 15), Din Kültürü ve Ahlak Bilgisi (16 – 20) dersi olmak üzere toplam 20 soru vardır.

1. Bir ürünün ihtiyaçtan fazla üretilmesiyle ortaya çıkan ürüne artı ürün denilmiştir. Tarımla geçinen toplumlarda kuraklığın ve beraberinde gelen kıtlığın önemli bir sorun olması sulamalı tarımı zorunlu kılmıştır. Bu yüzden sulama kanallarının yapılmasıyla üretim artmış ve ürün fazlası yani artı ürün ortaya çıkmıştır.

Buna göre artı ürünün aşağıdakilerden hangisinin ortaya çıkmasında etkili olduğu söylenemez?

A) İhtiyaç dışındaki ürün fazlalığı ve ticaretin gelişmesi

B) Toplum içinde esnaf, tüccar, zengin, fakir gibi toplumsal sınıf ayrımlarının belirginleşmesi

C) Büyük toprak sahiplerinin güçlerini ve otoritelerini arttırmaları

D) Tahıl ambarı olarak da kullanılan tapınaklardaki rahiplerin toplum içerisindeki saygınlıklarının artması

E) Kral Yolu'nun öneminin azalması ve toplumlar arası ilişkilerin zayıflaması

2. Osman Gazi, ilk dönemlerden itibaren Ahilerle yakın ilişkiler kurmuştu. Hatta bazen yeni bir yerin fethedilmesi konusunda ve fethedildikten sonra bu bölgenin nasıl örgütleneceği konusunda ahilere danışırdı. Ayrıca Ahiler göçebe Türkmen topluluklarının yerleşik hayata geçirilmesinde Osmanlılara yardımcı olurlardı.

Bu bilgilere göre aşağıdakilerden hangisinin uygulanmasında Ahilerin Osmanlı Devleti'ne katkı sağladığı söylenebilir?

A) İskân siyaseti

B) İltizam sistemi

C) Denge politikası

D) Müsadere sistemi

E) Veraset anlayışı

3. (I) 1877-1878 Osmanlı-Rus Savaşı (93 Harbi) ve arkasından imzalanan Berlin Antlaşması'nın sonuçları, Osmanlı Devleti için çok ağır oldu. (II) Sırbistan, Karadağ ve Romanya Osmanlı Devleti'nden ayrılarak kendi devletlerini kurdular. (III) Osmanlı Devleti, 5.5 milyon insanın yaşadığı 212 bin km^2 lik bir toprak parçasını kaybetti. (IV) Kaybedilen topraklarda yaşayan yüz binlerce insan, Osmanlı'nın geride kalan topraklarına göç etmek zorunda kaldı. (V) Osmanlı Devleti yüklü miktarda savaş tazminatı ödemek zorunda bırakıldı.

Parçada numaralarla gösterilen cümlelerden hangisi, Osmanlıcılık fikrinin amacına ulaşmadığının kesin bir göstergesidir?

A) I B) II C) III D) IV E) V

4.



Birinci Dünya Savaşı Sonrası İngiltere ve Fransa Manda Himaye Bölgeleri

Haritada verilenler aşağıdakilerden hangisine kanıt olarak gösterilebilir?

A) Arap topraklarında milliyetçilik fikrinin etkili olduğuna

B) Millî Mücadele yıllarında İngiltere ile savaş yapılmadığına

C) Gizli antlaşmaların Orta Doğu'da uygulanmaya çalışıldığına

D) Osmanlı Devleti'nin Balkanlardaki sınırlarını koruduğuna

E) Sevr Antlaşması'nın esasları çerçevesinde sınırların belirlendiğine

BİLGİ SARMAL

Diğer Sayfaya Geçiniz.

5. **Türkiye Cumhuriyeti'nin** "ağa, hacı, hoca, hafız, bey, paşa, hanım, hanımefendi" **gibi eski toplum zümrelerini belirten ünvanları yasaklaması aşağıdakilerden hangisinin devamı niteliğindedir?**

A) Kıyafet değişikliğinin
B) İzmir İktisat Kongresi'nin toplanmasının
C) Ölçü ve tartı sistemlerinin değiştirilmesinin
D) Soyadı Kanunu'nun çıkarılmasının
E) Yeni Türk alfabesinin kabul edilmesinin

6. İnsanlar artan ihtiyaçlarını karşılamak için doğaya müdahalelerde bulunur. Bu müdahalelerin bazıları doğanın işleyişini uyumluyken bazıları da uyumsuz olup doğanın işleyişine zarar vermektedir.

Buna göre aşağıdaki insan faaliyetlerinden hangisi doğaya uyumludur?

A) Sanayi atıklarının akarsulara bırakılması
B) Dere yataklarına yerleşimlerin kurulması
C) Güneş panellerinden elektrik enerjisi elde edilmesi
D) Tarım alanlarının endüstri bölgelerine dönüştürülmesi
E) Ormanların tarım alanlarına dönüştürülmesi

7. **Silindirik projeksiyon yöntemi ile çizilmiş dünya siyasi haritasında aşağıdaki ülkelerin hangisinde hata oranı daha azdır?**

A) İtalya B) İran C) Rusya D) Endonezya E) Kanada

8.



Yukarıda Türkiye'de bazı merkezler ve bu merkezlerin nüfusunun seyrek olma nedenleri verilmiştir.

Buna göre verilen merkezlerle ilgili nedenlerden hangisi yanlıştır?

A) I B) II C) III D) IV E) V

9.



Harita üzerinde işaretlenmiş alanlar ortak bölge sınıflandırılması içinde yer alsaydı aşağıdakilerden hangisi doğru olurdu?

A) Dağlık bölge
B) Çöl bölgesi
C) Orman bölgesi
D) Deprem bölgesi
E) Heyelan bölgesi

BİLGİ SARMAL

10.



Haritada taralı olarak gösterilen alanda çığ afetinin yaygın olmasında;

I. killi toprağın varlığı,

II. kar yağışının fazla olması,

III. arazinin eğimli olması

faktörlerinden hangileri etkilidir?

A) Yalnız I B) Yalnız II C) I ve II

D) I ve III E) II ve III

11. Kötülük, hiç kuşku yok ki iyi bir şey değildir. Fakat o, iyiliğe katkı yapan bir şey olarak görülebilir. Buna göre eğer yoksulluk var olmasa insanların yoksullara yardım etme gibi ahlaki bakımdan iyi olan eylemleri temelsiz kalır. İnsanların kendilerini boş vererek yoksulların ve güçsüzlerin yardımına koşmaları ve böylelikle yüce ve mükemmel insanlar hâline gelmeleri, ancak yoksulların ve güçsüzlerin varlığıyla anlam kazanır.

Bu parçaya dayanarak aşağıdaki yargılardan hangisine ulaşılabilir?

A) İnsanlar özü temiz varlıklar olarak dünyaya gelmişlerdir.

B) Kötülük hiçbir zaman insanların yararına görülemez.

C) Tanrı, evrendeki bütün kötülükleri insanların yararına dönüştürür.

D) Kötülüğün var oluşu, daha yüksek ahlaki iyiliklere yol açtığı için haklı kılınabilir.

E) Evrendeki mükemmel düzen Tanrı'nın evrene karıştığını kanıtlar.

12. Felsefe, fikirler dünyasını gözler önüne sererek kişiye, onun normal olarak düşüneceğinden daha dikkatli, daha yöntemli ve daha derinlemesine düşünmesi için belli duygu, düşünce ve alışkanlıklar kazandırır. Tabir yerinde ise felsefe, öğrencinin kendi zihin kaslarını geliştirmesine yardım eder. Ona eleştiri yaparken kullanabileceği araçları sağlar.

Bu parçada felsefenin hangi yönünden söz edilmiştir?

A) Konuların olgusal boyutundan uzak durması

B) Sistemli ve sorgulayıcı düşünüş kazandırması

C) İçeriğinin zaman göre değişmesi

D) Tanımını yapmanın zor olması

E) Sorular üzerinden yürüyen bir etkinlik olması

13. İnsanın var oluş gereği-yasası onu doğanın bir parçası hâline getirmiştir. Ancak insan aynı zamanda doğa ile çok etkili bir mücadeleye girmiş ve doğayı çoğunlukla kendi avantajları doğrultusunda yönlendirmesini bilmiştir. İnsanın doğaya karşı tek başına mücadele etme gücünden mahrum oluşu, iş birliğinin gerekliliğini ortaya çıkarmış ve kişiler özgül ihtiyaçlarını gidermek için başkalarının üretimine ihtiyaç duymuşlarıdır. Bütün bunlar toplumun oluşup sonra da farklılaşmasında, en temel etkenlerden birisi olmuştur.

Bu parçada toplumsal yaşamın ortaya çıkması;

I. İnsanın her yönden zayıf bir varlık olması

II. İnsan ömrünün sınırlı olması

III. İnsanların birbirlerine ihtiyaç duyması

unsurlarından hangisine bağlanmıştır?

A) Yalnız I B) Yalnız II C) Yalnız III

D) I ve II E) II ve III

BİLGİ SARMAL

14. Postmodernist düşünürlere göre gerçeklik; bize göründüğünden, algıladığımızdan daha karmaşık bir yapıya sahiptir. Gerçeklik, düşüncelerimizin yansıttığı şekliyle, orada, bizim dışımızda öylece duran bir varlığa sahip değildir. Biz gerçekliği, gereksinimlerimiz, ilgilerimiz, ön yargılarımız ve kültürel değerlerimiz doğrultusunda biçimlendiririz. Tüm deneyimlerimiz, dilsel yapıların ve kavramların etkisi altında olup, biz olguları kültürel-dilsel bir gözlükle görürüz.

Bu parçadan aşağıdaki yargılardan hangisine ulaşılamaz?

A) Nesnel gerçeklik mümkün değildir.

B) Bilgiler, içinde bulunduğumuz kültürel yapının etkisini taşır.

C) Gerçeğe uygun tek bilgi yoktur.

D) Bizim dışımızda bir gerçeklik olduğunu düşünmek yanılsamadır.

E) Sınanabilir gerçeklik insandan bağımsızdır.

15. Hint medeniyetinde düşünürler hava, nefes ya da rüzgâra önem veriyorlar. Eski Yunan'da "her şey"in aslı (arkhesi) "hava"dır, diyen Anaximenes'e kaynaklık ediyorlardı.

Bu parçada aşağıdakilerden hangisi vurgulanmaktadır?

A) Felsefe insanın yaşadığı coğrafyayı etkilemektedir.

B) Felsefe var olan kültürü etkilemektedir.

C) Felsefenin doğuşunda farklı medeniyetlerin etkisi olmuştur.

D) Felsefi görüşlerinde filozoflar deneyimlerinden yararlanmışlardır.

E) Felsefenin doğuşunda ticaret etkili olmuştur.

16. Şu anda ben, noksan, eksik bir varlık olduğumu biliyorum. Noksan olmama rağmen zihnimde mükemmel bir varlık fikri var. Düşünüyorum, benim varlığımın sebebi nedir? Nefsimi, kendi varlığımın sebebi ve yaratıcısı olarak düşünmeme imkân göremiyorum. Çünkü bende, kendimi yaratma gücü olsaydı, şüphe yok ki kendimi böyle noksan olarak değil, bütün mükemmel sıfatlarla donanmış olarak yaratırdım. O hâlde ben vücudumun yaratıcısı değilim. Kâinattaki diğer varlıklar da aynı sebeple, benim ve kendi varlıklarının yaratıcısı olamazlar. Çünkü onlar kendilerinin yaratıcısı olsalardı, kendilerini bütün mükemmel sıfatlarla yaratırlardı. Annem, babam ise bedenimin vücuda gelişine bir vesileden başka bir şey değillerdir…

(Descartes)

Bu parçada yaratıcı ile ilgili aşağıdakilerden hangisine dikkat çekilmektedir?

A) Kusursuz olduğuna

B) Varlıkları hesaba çekeceğine

C) Kullarına mesajlar gönderdiğine

D) Kâinatta mükemmel bir düzen kurduğuna

E) İnsanı mahlûkatın en üstünü olarak yarattığına

17. Müslüman bir kimse yaptığı ibadetlerle Rabbine yakınlaştığını ve sıkıntılardan uzaklaştığını hisseder. Yaşamın tüm zorlukları karşısında bunalıma düşmekten, ümitsizliğe kapılmaktan kendisini korur. İbadet, insanı dünyanın maddi bağlarından ve günahlardan kurtararak ruhen yüceltir. Kulluk görevlerine özen gösteren insanın kalbine Allah'ın (c.c.) sevgisi yerleşir. Böyle bir düşünce yapısıyla yaşayan insanlardan oluşan toplumlarda suç oranları azalır, adalet, huzur, güven ve refah artar.

Bu metinde ibadetle ilgili aşağıdakilerden hangisine değinilmemiştir?

A) Bireysel faydalarına

B) Özgürlükle olan ilişkisine

C) Sosyal açıdan yararlarına

D) Kötü işlerden uzaklaştırdığına

E) Allah'a olan bağlılığı artırdığına

BİLGİ SARMAL

18. Çevre, belli bir yaşam ortamında canlıların yaşamı üzerinde etkili olan fiziksel, kimyasal ve biyolojik faktörlerin bütünüdür. İslam inancında evren insana emanettir. Bu anlayışta Müslümanın evrenin düzenini bozacak işlerden kaçınması, çevresinde bulunan tüm varlıklara karşı bilinçli davranışlar sergilemesi gerekir. Çevreyle ve özellikle de çevredeki canlılarla ilişkide riayet edilmesi gereken en önemli erdemlerden biri merhamettir. İnsan kendisini evrendeki varlıkların sahibi ve hakimi olarak görmemeli, onlar üzerinde sınırsız tasarrufta bulunma hakkına sahip olduğunu düşünmemelidir. Nasıl başkalarının haklarını kul hakkı kapsamında değerlendirip riayet ediyorsa, insan dışındaki varlıkların haklarına da aynı şekilde riayet etmelidir.

Aşağıdaki hadislerden hangisi bu parçayla ilişkilendirilemez?

A) "Birinizin elinde bir hurma fidanı varken kıyamet kopuyor olsa bile derhal onu diksin."

B) "Haksız olarak bir serçeyi öldürenden Yüce Allah kıyamet gününde hesap soracaktır."

C) "Hayvanlarınızın sırtını iskemle olarak kullanmayın."

D) "Kul, din kardeşine yardımcı olduğu sürece Allah da onun yardımcısı olur."

E) "Siz yeryüzünde olanlara merhametli olunuz ki göktekiler de size merhametli olsunlar."

19. "Kur'an'ı anlamak istiyorsan sana indiriliyormuş gibi oku."

(Muhammed İkbal)

Bu sözde vahyin hangi yönüne vurgu yapılmaktadır?

A) Hükümlerinin zamana göre değiştiği

B) Her çağa ve tüm insanlığa hitap eden evrensel bir mesaj olduğu

C) Eski dönemlerde yeterince anlaşılamadığı

D) Gerçek mahiyetinin peygamberler dışında kavranamayacağı

E) Anlaşılması için diğer İslami ilimlerle desteklenmesi gerektiği

20. İnancımıza göre hayrı da şerri de yaratan Allah'tır (c.c.). Allah'ın (c.c.) şerri yani kötülüğü yaratması, olumsuzluk olarak değerlendirilemez. Bu, ilahi imtihanın gereğidir. Şer olmasaydı hayrın da değeri kalmazdı. Allah (c.c.) kimin hayra yöneleceğini, kimin de şerre yöneleceğini görmek için hayrı ve şerri yaratmıştır. Hayrı olduğu gibi şerri de yaratan Allah'tır (c.c.). Ancak hayrı ve şerri işleyen, insanın kendisidir. Allah (c.c.), insanı hayra da şerre de yönelme potansiyeline sahip bir varlık olarak yaratmıştır.

Aşağıda verilen ayetlerden hangisi bu metinle ilgilidir?

A) "Nefse ve ona düzen verene, ona kötü ve iyi olma yeteneklerini yerleştirene ki nefsini arındıran elbette kurtuluşa ermiştir. Onu kötülüklere boğan da ziyan etmiştir."

(Şems suresi, 7-10. ayetler.)

B) "Rabbimiz! Hesap görülecek günde, beni, ana babamı ve inananları bağışla."

(Araf suresi 47. ayet)

C) "Ey Rabbimiz! Bizi zalimler topluluğu ile beraber bulundurma!"

(İbrahim suresi, 41.ayet)

D) "Ey Rabbimiz! Biz inandık, bizi bağışla, bize merhamet et, sen merhamet edenlerin en hayırlısısın"

(Mü'minün suresi 109. ayet)

E) "Rabbimiz! Bizden cehennem azabını uzaklaştır, gerçekten onun azabı sürekli bir helâktir."

(Furkan suresi 65. ayet)

BİLGİ SARMAL

Bu testte sırasıyla, Tarih (1 – 5), Coğrafya (6 – 10), Felsefe (11 – 15), Din Kültürü ve Ahlak Bilgisi (16 – 20) dersi olmak üzere toplam 20 soru vardır.

1. Romalı Hukukçu Gaius, "Köleler sahiplerinin hâkimiyeti altında bulunurlar. Bu hâkimiyet, kavimler hukukuna ait bir hâkimiyettir. Çünkü bütün milletlerde, köle sahiplerinin köleleri üzerinde hayat ve ölüm hakkına sahip olduklarını açıkça görebiliriz." diyerek İlk Çağ'da kölelik hakkındaki genel kanıyı ortaya koymuştur.

Buna göre, Gaius'un aşağıdaki yargılardan hangisini savunması beklenir?

A) Kölelik anlayışı, toplumsal yaşam biçiminin temel bir sonucudur.

B) İnsanlar doğuştan gelen vazgeçilemez haklara sahiptir.

C) Toplum içindeki huzur ve refah ortamı, adaletin sağlanması ile mümkündür.

D) Özgür düşünce ortamı, ticari faaliyetlerin gelişmesi ile oluşur.

E) Devlet, toplumsal sınıfların kaldırılması konusunda zorlayıcı olmalıdır.

2. Özellikle IX. yüzyıldan itibaren etkili olan tarikatlar, Türkler arasında İslamiyet'in yayılmasında önemli bir yere sahiptir. Türklerin hâkim olduğu coğrafyalarda doğup gelişen Kadirilik, Kübrevilik, Ekberilik ve Yesevilik en çok müridi olan tarikatlardır. Bu tarikatlar sayesinde Türkler, âdeta kendi sosyal yaşayışlarına ve anlayışlarına uygun bir din düşüncesi geliştirmişlerdir.

Bu bilgilerin aşağıdaki yargılardan hangisine kanıt oluşturduğu söylenebilir?

A) Türkler, İslamiyet'in temel esaslarından uzaklaşmışlardır.

B) Tarikatların büyük bir bölümü Arabistan Yarımadası'nda kurulmuştur.

C) Türkler, kendi kültürleriyle İslami esasları doğru bir şekilde birleştirmiştir.

D) Arapların milliyetçi politikaları Türkleri yeni arayışlara itmiştir.

E) Tarikatların ortaya çıkışı ile cihat politikaları etkisini kaybetmiştir.

3. Osmanlı Devleti'nin Avrupalı devletlere kapitülasyon vermesinin temel gerekçeleri şunlardır:

- Osmanlı toplumunun temel tüketim mallarına yönelik ihtiyacını karşılamak ve olası bir kıtlığın önüne geçmek
- Avrupalı devletleri Osmanlı tarafına çekerek Avrupa'daki haçlı ittifaklarından uzak tutmak
- Coğrafi Keşifler sonucunda önemini kaybeden Akdeniz ve doğu ticaret yollarının canlanmasını sağlamak

Buna göre, Osmanlı Devleti'nin kapitülasyon siyasetinin temel amaçları ile ilgili aşağıdakilerden hangisi söylenemez?

A) Yalnızlık politikası izlenerek sınırların korunması yönünde bir politika izlenmiştir.

B) Hazinenin ticari alandaki gelir kaynakları arttırılmaya çalışılmıştır.

C) Aleyhine oluşabilecek devletler arası bloklaşmaların önüne geçilmek istenmiştir.

D) Toplumun huzur ve refah içerisinde yaşaması hedeflenmiştir.

E) Ülke içindeki arz talep dengesi korunmaya çalışılmıştır.

BİLGİ SARAMAL

Diğer Sayfaya Geçiniz.

4. 24 Temmuz 1921 tarihinde Kütahya-Eskişehir Savaşlarında Türk ordusu Sakarya Nehri'nin doğusuna çekilmişti. 5 Ağustos 1921 tarihinde TBMM, Mustafa Kemal Paşa'ya üç ay süreyle "Başkomutanlık" yetkisi verdi. Yunanlılar 14 Ağustos 1921'de yeniden ilerlemeye başladılar ve 100 km'lik bir cephe üzerinde taarruz hareketine giriştiler. Türk ordusu Sakarya Meydan Muharebesi'nde Başkomutan Mustafa Kemal'in şu emriyle Yunan ordusunun karşısına dikildi: "Hattı müdafaa yoktur, sathı müdafaa vardır. O satıh bütün vatandır. Vatanın her karış toprağı vatandaşın kanıyla ıslanmadıkça, terk edilemez."

Bu parçada aşağıdaki sorulardan hangisinin cevabı yoktur?

A) Türk ordusu ne zaman Sakarya Nehri'nin doğusuna çekilmiştir?

B) Mustafa Kemal'e ne zaman Başkomutanlık yetkisi verilmiştir?

C) Yunan ordusu ne zaman saldırıya geçmiştir?

D) Sakarya Meydan Muharebesi'nin uluslararası sonuçları nelerdir?

E) Sakarya Meydan Muharebesi bir savunma savaşı mıdır?

5. Atatürk, "Halk, millî egemenliği benimsemeli ve memlekette tek egemen ve etkenin kendisinden ibaret olduğunu unutmamalıdır." demiştir.

Atatürk'ün bu ifadelerinde vurguladığı millî egemenlik anlayışının aşağıdaki inkılaplardan hangisiyle güçlendirildiği söylenemez?

A) Saltanatın kaldırılmasıyla

B) TBMM'in açılmasıyla

C) Kadınlara siyasi hakların verilmesiyle

D) Hıfzıssıhha Kanunu'nun çıkarılmasıyla

E) Halifeliğin kaldırılmasıyla

6.



Yukarıdaki haritada renklendirilerek gösterilen yerlerdeki aynı tarım ürününün farklı tarihlerde yetiştirilmesinin temel nedeni aşağıdakilerden hangisidir?

A) Dünya'nın yörüngesinin şekli

B) Dünya'nın ekseni etrafındaki hareketi

C) Kara ve denizlerin dağılışı

D) Dünya'nın geoit şekli

E) Eksen eğikliği

7. Kırgıbayırların bir türü olan peribacaları, volkanik bölgelerdeki hafif eğimli yamaçlarda oluşarak sütun biçiminde yükselir. Peribacalarının tepesinde külah, şapka veya tepsiyi andıran bir kaya parçası bulunur.

Buna göre peribacalarının aşağıdaki kayaç türlerinin hangisinin yaygın olduğu alanlarda daha fazla oluşması beklenir?

A) Mermer B) Bazalt C) Kömür D) Kalker E) Şist

BİLGİ SARMAL

8. Aşağıdaki grafikte K ve L ülkelerindeki ortalama yaşam süresi ile Dünya yaşam süresi ortalaması verilmiştir.

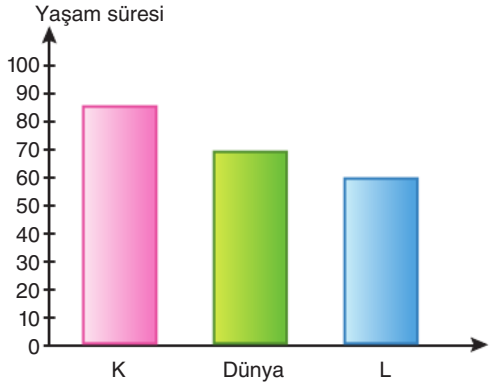

Buna göre, K ve L ülkeleri aşağıdakilerden hangisi olabilir?

	K ülkesi	L ülkesi
A)	Türkiye	İsveç
B)	Mali	Rusya
C)	Japonya	Çad
D)	Almanya	Fransa
E)	Somali	Nijerya

9. I. Hint Okyanusu'nu Pasifik Okyanusu'na bağlayan su yoludur.

II. Akdeniz'i Atlas Okyanusu'na bağlayan su yoludur.

III. Afrika ile Asya Kıtası'nı birbirinden ayıran su yoludur.

Yukarıda özellikleri verilen su yolları aşağıdakilerin hangisinde doğru verilmiştir?

	I	II	III
A)	Malakka	Cebelitarık	Süveyş
B)	Bering	Korint	Panama
C)	Cebelitarık	Malakka	Hürmüz
D)	Babülmendep	Hürmüz	Dover
E)	Macellan	Malakka	Bering

10. Türkiye'de gerçekleşen afetlerle ilgili,

I. Orman yangınlarının büyük bir kısmı, yaz kuraklığının yaşandığı haziran-kasım ayları arasında özellikle Batı ve Güneybatı Anadolu'da görülmektedir.

II. Sel ve taşkın olayları; yağışların artması ve kar erimelerine bağlı olarak en fazla nisan, mayıs ve haziran aylarında görülmektedir.

III. Kastamonu ilinde heyelan olaylarının gerçekleşme sıklığı Edirne iline göre daha azdır.

yargılarından hangileri doğrudur?

A) Yalnız I B) Yalnız II C) I ve II
D) I ve III E) II ve III

11. İlk filozoflar doğada olup bitenleri efsanelere dayalı değil doğa ile açıklamaya çalışmıştır. Ancak Aristoteles *Metafizik* eserinde ilk filozoflar için "Çünkü şimdi olduğu gibi, başlangıçta da insanları felsefe yapmaya iten şey hayret olmuştur." ifadesini kullanmıştır.

Bu parçada sözü edilen "hayret" **kelimesiyle ilk filozofların hangi özelliğinden bahsedilmektedir?**

A) Efsanelere dayalı görüşler geliştirmelerinden
B) Olgulara tutarlı açıklamalar sunmalarından
C) Kendi eylemleriyle ilgili sorgulama yapmalarından
D) Varlık karşısında duydukları şaşkınlıktan
E) Gündelik hayatı kolaylaştırıcı, pratik çözümler aramalarından

BİLGİ SARMAL

12. Buda'nın takipçisi Sona çilenin sertliğinden yorulmuş, zevk hayatına dönmüştür.

Buda ona şunu söylemiştir:

– Eskiden ud sanatında yetenekli değil miydin?

– Evet efendim, dedi Sona.

– Eğer udun telleri fazla gerilmiş olursa doğru tonu verir mi?

– Hayır efendim.

– Eğer fazla gevşek olursa istediğimiz sesi çıkartır mı?

– Hayır efendim.

– Eğer fazla gerilmiş ve fazla gevşek olmazsa çaldığımızda uygun olur mu?

– Kusursuz olarak efendim.

– Aynı şekilde, Sona, nefsin fazla gerilmiş gücü aşırıya gider ve fazla gevşemiş olanı rehavete düşer. Böylece ey Sona, ruhun iyi akort edilmiş ud gibi olsun.

Bu parçada aşağıdaki kavramlardan hangisi örneklendirilmiştir?

A) Karşıtların birliği
B) Töz
C) Arkhe
D) Altın orta
E) Ütopya

13. Doğrulamacı anlayışa göre bir kuramın doğruluğu gözlem veya deney yoluyla doğrulanmasına dayanır. Örneğin eğer ben Galileo'nun serbest düşme yasasının doğru olduğunu iddia ediyorsam, yapmam gereken şey bir cismi düşürmem ve onun Galileo'nun formülüne göre düştüğünü göstermemdir. Ancak Popper bunun bir şey ifade etmediğini söyler. Çünkü burada aslında benim gösterdiğim, elimde bulunan cismin şu anda sözü edilen yasaya göre düştüğünü göstermekten daha fazla bir şey değildir. Bu özel düşme olayı ve ona ilişkin gözlemim, ne daha önceki özel düşme olaylarına ilişkin gözlemleri teyit eder, yani doğrular veya güçlendirir ne de daha sonraki bir düşme olayı ile ilgili emniyetli bir temel oluşturur.

Popper'ın bu görüşlerine ilişkin aşağıdakilerden hangisine söylenebilir?

A) Bir kuramın doğruluğu için çok sayıda gözlem yapmak gerekir.
B) Doğrulamaya giriştiğimiz kuram bize bir sonraki olaylarla ilgili de fikir verir.
C) Kuramlar sıçramalar şeklinde değişim gösterir.
D) Kuramın doğruluk değeri yalnızca yanlışlanana kadardır.
E) Doğrulamacı yaklaşım bir kuramın geçerliliği için en ideal yöntemdir.

14. Yalnız kendini düşünen insan, yumurtasını pişirmek için komşusunun evini yıkar.

Bu cümle aşağıdaki yaklaşımlardan hangisiyle ilişkilendirilebilir?

A) Egoizm
B) Ahlaksal determinizm
C) Hedonizm
D) Anarşizm
E) Utilitarizm

15. Sanat eserinin, belirleyici nedeni sanatçının zihnindeki amaç ve aldığı şekildir. Mesela bir ağaç, doğada kendiliğinden bulunan doğal bir cisimdir ve bu ağaç, hem içinde sandalye olma potansiyelini taşımakta hem de kendisi varlığa gelecek olan sandalyenin maddi nedeni olmaktadır. Onun varlığa gelmesini sağlayan form ise onun ereksel nedenidir. Zira sanatsal varlıklar hem formel hem de ereksel neden olabilir.

Aristoteles bu görüşlerinde aşağıdakilerden hangisini savunmaktadır?

A) Varlıklarda görünüş ve öz bağımsızdır.
B) Varlık bütünlük içinde anlam kazanır.
C) Her varlık özünü gerçekleştirmeye açıktır.
D) Varlıktaki değişim aldatmacadır.
E) Varlığı tanımlamak olanaksızdır.

16. Özellikle ibadetler ve dinî uygulama alanında ayet ve hadislerin farklı yorumlanması ve ameli anlamda ortaya çıkan küçük farklılıklar İslam toplumu için önemli kolaylıklar sağlamıştır. Âlimler farklı görüşleriyle halkın ibadetleri daha rahat anlayabilmesi ve uygulayabilmesine yardımcı olmuşlardır. Böylece farklı konular üzerinde Kur'an ve sünnete bağlı kalarak yorumlar yapmışlar ve günün meselelerine çözümler bulmuşlardır. Bu sayede Müslümanlara yeni ufuklar açmışlardır.

Bu parçada aşağıdaki yorum biçimlerinden hangisi ön plana çıkmaktadır?

A) Fıkhî yorumlar
B) İtikadî yorumlar
C) Siyasî yorumlar
D) Tasavvufî yorumlar
E) Ahlakî yorumlar

BİLGİ SARMAL

17.

- Hakkında kesin bilgi sahibi olmadığın şeyin peşine düşme. Çünkü kulak, göz ve gönül, bunların hepsi ondan sorumludur.

(İsrâ; 36)

- Allah Teâlâ ilmi insanların hafızalarından silip unutturmak suretiyle değil, fakat âlimleri öldürüp ortadan kaldırmak suretiyle alır. Neticede ortada hiçbir âlim bırakmaz. İnsanlar bir kısım cahilleri kendilerine lider edinirler. Onlara birtakım meseleler sorulur; onlar da bilmedikleri hâlde fetva verirler. Neticede hem kendileri sapıklığa düşer hem de insanları saptırırlar.

(Buhârî, İlim, 34)

Bu dini metinlerde vurgulanan ortak husus aşağıdakilerden hangisidir?

A) Doğru bilginin insan için önemi
B) Kur'an'ın son ilahi hakikatleri bildirdiği
C) Âlimlerdeki mesuliyetin daha fazla olduğu
D) Kişinin ilk önce ilmine göre hesaba çekileceği
E) İlim sahiplerinin peygamber mirasçısı sayılmaları

18. Bir insanın iman etmiş olması bazı sorumlulukları üstlendiği anlamına gelir. Çünkü iman sadece kuru bir sözle bunu ifade etmek değildir. İslam, günlük yaşamın içinde kendini gösteren, kişinin söz ve davranışlarını düzenleyen bir inancı değerli görmektedir. Dinin temelini oluşturan inanç esaslarının kabul edilmesini, emir ve yasaklarına uyulmasını ve kişinin hayatında tüm güzelliğiyle yansımasını ister. Bireyin dininin gereklerini yerine getirmesi, kalpteki imanın uygulamalarla korunması açısından da oldukça önemlidir. Hayata geçirilmemiş, sadece dile indirgenmiş ve böylece kişinin yaşamında aktif rol üstlenmekten uzak kalmış bir dinin muhafaza edilmesi, bireye yarar sağlaması güç olacaktır.

Bu parçada aşağıdakilerden hangisi ön plana çıkmaktadır?

A) Yaptıklarından dolayı hesap verecek olmanın bireyin davranışlarına etkisi
B) Müslümanların tevhid ilkesi etrafında toplanmalarının gerekliliği
C) Bireysel farklılıkların birer zenginlik olarak görülmesinin önemi
D) Yaşantıya aktarılmış bir dinin muhatabına kazandırdıkları
E) İbadetleri yerine getirilmeyen bir imanın geçersizliği

19. Türkistan, 8. yüzyılda İslamiyet'le tanışmıştır. Bulundukları coğrafyanın olumsuz şartlarına ve büyük devletlerin baskılarına rağmen bölgede yetişen âlimler ve mutasavvıflar, İslam'ın Türkler arasında yerleşmesi ve Anadolu'ya ulaşması konusunda önemli görevler üstlenmiştir. Türkistan; tarihi, kültürü, medeniyeti, edebiyatı, sanatı, mimarisi, yer altı ve yer üstü zenginlikleriyle İslam medeniyetinin önemli bir parçası olmuştur. İmam Buhârî, İmam Tirmizî, İmam Mâturidî, Farabi, İbn Sinâ, Zemahşerî ve Ali Kuşçu gibi önemli ilim adamları burada yetişmiştir. Günümüzde büyük sıkıntılar yaşayan Türkistan coğrafyası, İslam dünyasının birlik ve beraberlik içinde atacağı adımları beklemektedir.

Bu parçadan Türkistan coğrafyasıyla ilgili olarak aşağıdakilerden hangisine ulaşılamaz?

A) Önemli ilim adamları yetiştirmiştir.
B) Hem dünyevî hem de uhrevî ilimlere katkı sağlamıştır.
C) Diğer coğrafyalarla etkileşimi kesilmiştir.
D) Günümüzde zor zamanlar geçirmektedir.
E) Anadolu'nun İslamlaşmasında etkili olmuştur.

20. Medeniyet, tanımı itibariyle bütün insanlığa hitap eden tarih olgusudur. Tek kişi ya da insanlığa dönük cephesiyle medeniyet, insanın sadece fiziki ya da fizyolojik ihtiyaçlarına cevap veren bir sistem olmakla kalmaz. Aynı zamanda manevi-ahlaki, metafizik ve kültürel isteklerini de karşılamak amacını taşır. İnsanı bütün cepheleriyle ele alır.

(Sezai Karakoç)

Bu parçada medeniyet kavramı ile ilgili olarak aşağıdakilerden hangisine değinilmemiştir?

A) Evrensel bir nitelik taşıdığına
B) Maddi ve manevi yönünün bulunduğuna
C) Toplumlar arasında farklılık gösterdiğine
D) İnsanı bir bütün olarak ele aldığına
E) Ahlaki isteklere cevap verdiğine

BİLGİ SARMAL

Bu testte sırasıyla, Tarih (1 – 5), Coğrafya (6 – 10), Felsefe (11 – 15), Din Kültürü ve Ahlak Bilgisi (16 – 20) dersi olmak üzere toplam 20 soru vardır.

1.



Kök Türk kurganlarında (mezar) yapılan kazılarda çok sayıda madenî eşya ve seramik kaplar bulunmuştur. Kök Türklerde sık kullanılan figürlerden birisi de dağ keçisidir. Kök Türkler, besledikleri hayvanları, yırtıcı hayvan figürlerini ve av tasvirlerini kayalar üzerine kazıyarak resmetmişlerdir.

Bu bilgilere göre Kök Türklerle ilgili aşağıdakilerden hangisine ulaşılamaz?

A) Mimaride gelişmişlerdir.
B) Madenleri işlemişlerdir.
C) Çeşitli araç-gereçler yapmışlardır.
D) Ölümden sonra yaşama inanmışlardır.
E) Hayvancılıkla ilgilenmişlerdir.

2. Yavuz Sultan Selim Mısır Seferi'nden sonra Şirvanşahlar Hükümdarı II. İbrahim'e gönderdiği fetihnamede bütün İslam memleketlerinin kendisine itaat etmesi gerektiğini söylemiş ve Şirvanşah'ın kendi "Hilafet-i Ulyâ"sına tabi olmasını istemiştir. Kanuni de cülusunda Mekke şerifine gönderdiği namede, Allah'ın kendisini saltanat tahtına ve hilafet makamına geçirdiğini bildirmiştir.

Buna göre, Osmanlı padişahlarının aşağıdakilerden hangisini amaçladığı söylenebilir?

A) İslam dünyasının Avrupa ile ilişkilerini kuvvetlendirmek
B) Batı Anadolu'daki egemenlik alanlarını genişletmek
C) Abbasi hanedanlığı ile dostluk ilişkileri kurarak Arabistan'a hâkim olmak
D) Ticaret yollarında Müslümanlar dışındaki unsurların varlığına son vermek
E) Dinin siyasi alandaki etkisini arttırarak İslam dünyasının liderliğini üstlenmek

3. XIX. yüzyıldan itibaren Osmanlı yönetiminde Avrupa'ya göre dinî bir hoşgörü ve hukuk düzeninde din dışı uygulamaların yaygınlaştığını gördüğümüz hâlde, Osmanlı devlet ve toplum düzenini laik diye adlandıramayız.

Bu iddiayı aşağıdakilerden hangisinin desteklediği söylenemez?

A) Osmanlı toplumunun millet sistemi esasına göre birbirinden ayrılması
B) Vergilerin dinî kimliklere göre belirlenmesi ve toplanması
C) Gayrimüslimlerin davalarının cemaat mahkemeleri tarafından yürütülmesi
D) Herkesin kanun önünde eşit olduğunu vurgulayan yasaların çıkarılması
E) Mebusan Meclisi üyelerinin inançlarına göre birbirlerinden ayrılması

4. Atatürkçü düşünce sisteminin dayanağı olan en temel ilke cumhuriyetçiliktir. Cumhuriyet, milletin egemenliğini kendi elinde tuttuğu bir devlet şeklidir. Cumhuriyet'te egemenlik; kişi, zümre, sınıf gibi toplumun bir kısmına değil tüm halka aittir. Cumhuriyet yönetiminin esası; halkın ülke yönetiminde kendisini temsil edecek devlet başkanını, yöneticileri ve temsilcileri, anayasada belirlenen sürelerde, seçim yoluyla işbaşına getirmesidir.

Buna göre, aşağıdakilerden hangisi cumhuriyetçilik ilkesinin esasları arasında gösterilemez?

A) Yönetim yetkisi millete aittir.
B) Yöneticiler istedikleri kadar iktidarda kalabilirler.
C) Yöneticiler seçimle belirlenir.
D) Kişi hak ve özgürlükleri devlet güvencesi altındadır.
E) Kişi, hanedan ve sınıf üstünlüğünü reddeder.

BİLGİ SARMAL

5. **Türkiye'de;**

- 1929 yılında ortaya çıkan "Dünya Ekonomik Bunalımı" nın olumsuz etkilerinin görülmesi,
- Mustafa Kemal'in muhalefetsiz bir meclisin doğru karar alamayacağını düşünmesi,
- demokrasinin siyasi alandaki etkisinin artırılmak istenmesi

gelişmelerinin aşağıdakilerden hangisine ortam hazırladığı savunulabilir?

A) Serbest Cumhuriyet Fırkası'nın kurulmasına
B) Demokrat Parti'nin iktidara gelmesine
C) Musul sorununun Türkiye aleyhine çözümlenmesine
D) Terakkiperver Cumhuriyet Fırkası'nın kurulmasına
E) Cumhuriyet Halk Fırkası'nın kurulmasına

6.

I. Dört mevsimin belirgin olarak yaşanması
II. Ilıman iklim özelliklerinin görülmesi
III. Kuzeye doğru cisimlerin gölge boyunun uzaması
IV. Akdeniz kıyılarının Karadeniz kıyılarından sıcak olması

Yukarıdakilerden hangileri, Türkiye'nin Orta Kuşak'ta yer aldığını gösterir?

A) I ve II B) I ve III C) II ve III D) II ve IV E) III ve IV

7. Aşağıdaki haritada bazı bölgeler numaralandırılarak gösterilmiştir.

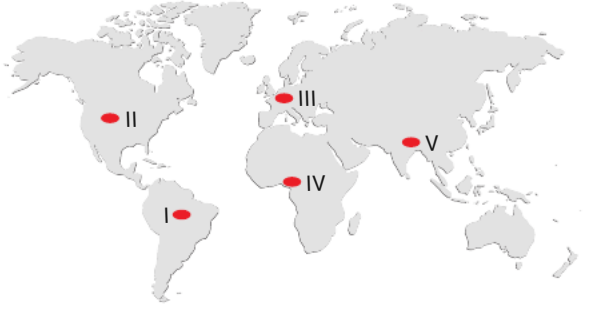

Numaralandırılan bölgelerin hangisi dünyada fazla yağış alan yerler arasında gösterilemez?

A) I B) II C) III D) IV E) V

8. Kırsal meskenlerde kullanılan malzemenin belirlenmesinde; iklim, yer şekilleri, doğal ortamdan kolay temin edilebilmesi etkilidir.



Buna göre, haritada numaralı bölgelerin kırsal konutlarında yaygın olarak kullanılan konut malzemeleri aşağıdakilerin hangisinde doğru verilmiştir?

	I	II	III
A)	Taş	Kerpiç	Ahşap
B)	Taş	Ahşap	Kerpiç
C)	Ahşap	Taş	Kerpiç
D)	Ahşap	Kerpiç	Taş
E)	Kerpiç	Taş	Ahşap

9. Uluslararası siyasi, askeri ve ekonomik iş birliği amaçlı oluşturulan beşerî bölge sınırları ülke sınırlarına uyumludur.

Buna göre, aşağıdaki bölgelerden hangisinin, ülke sınırları ile uyumlu olması beklenemez?

A) Karadeniz Ekonomik İşbirliği Bölgesi
B) Himalaya Dağlık Bölgesi
C) NATO Bölgesi
D) Avrupa Birliği Bölgesi
E) İslam İşbirliği Teşkilatı Bölgesi

BİLGİ SARMAL

10. Aşağıdaki haritada bazı alanlar numaralandırılarak gösterilmiştir.

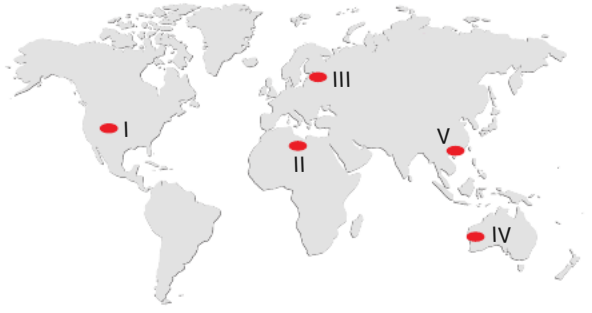

Bu alanların hangisinde sel ve taşkınların görülme sıklığı daha fazladır?

A) I B) II C) III D) IV E) V

11. Uygar bir hükümet olmadığı sürece insanlık sürekli korkuya, sürekli savaşa ve sürekli ölüme sürüklenecektir. Neden? Hobbes'a göre bunun nedeni insanın doğası gereği bencil olmasıdır. Bu bencillik neticesinde insan sürekli arzularını tatmin etme peşinde koşar, refah ve mutluluk temin etmek ister. İşte bu refah arayışı savaş durumunu ortaya çıkarır çünkü refah ve mutluluk her an kaybedilebilir bir şeydir.

Bu parçada yanıtı aranan soru aşağıdakilerden hangisidir?

A) Devlet nasıl ortaya çıkmıştır?

B) Devlet neden gereklidir?

C) Devlete neden itaat etmeliyiz?

D) İdeal toplumsal düzen olabilir mi?

E) Devlete sınır çizilebilir mi?

12. Aristoteles'e göre siyasi yönetimin gerçek amacı, yurttaşların mutlu bir yaşam sürmelerini sağlamaktır. Bireyler ancak bir toplumun üyesi olduklarında mutluluğa ulaşabilirler. Toplumdan soyutlanmış bir kişi, kendini gerçekleştiremez ve mutluluğa ulaşamaz.

Aristoteles'in bu açıklamasına göre, aşağıdakilerden hangisine ulaşılamaz?

A) Bireysel mutlulukla toplumsal yaşam ilişkilidir.

B) Devletin işlevi bireyin mutluluğunu ve gelişimi sağlamak olmalıdır.

C) İnsan, içinde yaşadığı toplumun siyasal ve sosyal yapısına uyum sağlamakla mutlu yaşama ulaşır.

D) Bir toplumun üyesi olmak kişiyi mutlu kılar.

E) İnsanın mutlu olması toplumdan soyutlanmış bir yaşam sürmesine bağlıdır.

13. Varlığımız başkalarının varlığıyla içiçe geçmiştir. Konuştuğumuz dil, yediğimiz yemek, bağlı olduğumuz gelenek onlarındır. İnsan varlığı kültürel, toplumsal, tarihsel değerlerle örülmüş karmaşık bir bütünlüktür. Ancak bu bütünlük sürekli yeniden yapılanan, akışkan bir süreçtir. Her aşamasında toplumsal töreler değerler bizi belli bir noktaya getirir ve biz orada zorunlu olarak bulunuruz. Evren, dünya, insanlar ve ben bir bütünüz. Fakat bu bütünlüklerin her biri kendi içinde ayrı bir ortak özelliğe ve kendine özgü niteliklere de sahiptir.

Bu parçada aşağıdaki görüşlerden hangisi savunulmaktadır?

A) Varlıkları tanımak mümkün değildir.

B) Tarihsel birikim insana sınır çizmiştir.

C) Varlık diğer varlıklarla ilişkilendirildiğinde anlam kazanır.

D) Gelenekleri aşamayan birey, kimliğini yitirir.

E) İnsana düşen görev toplumsal yaşamı aşmaktır.

BİLGİ SARMAL

14. Yüzünü görmek için bir cam ayna kullanıyorsan, ruhunu görmek için sanat eserlerini kullanabilirsin.

Bu cümle aşağıdaki sanat kuramlarından hangisi ile ilişkilendirilebilir?

A) Yansıtma kuramı
B) Dışavurumcu kuram
C) Biçimci kuram
D) Oyun kuramı
E) Kültürel kuram

15. Özgürlük, bireyin başkalarının kısıtlamalarından ve şiddetinden uzak olması anlamına gelir ve eğer hukuk olmasaydı bu gerçekleşmezdi.

Bu cümlede özgürlüğün hangi yönü vurgulanmıştır?

A) Sınırlarının olmadığı
B) Yasalarla güvence altına alınması gerektiği
C) Birey toplum dengesi üzerine kurulduğu
D) Devredilemez temel insan hakkı olduğu
E) Sorumluluk olmadan anlamsız olduğu

16. Hz. Peygamber, yaşamı boyunca insanların dini konulardaki soru ve sorunlarıyla ilgilenmiş, gerek sözlü gerek uygulamalı olarak insanları aydınlatmıştır. Örneğin; "Cennete gitmek için ne yapmalıyım?" diye soran birine, "Namaz kıl." derken aynı soruyu soran bir başkasına da "Anne ve babana iyilik et." şeklinde cevap vermiştir.

Bu metinden hareketle peygamberimizin tebliğiyle ilgili,

I. İslam'ı insanların anlayıp yaşama geçirebilecekleri seviyede anlatmıştır.
II. Kendisine soru soran kişilerin içinde bulundukları durumu göz önünde bulundurmuştur.
III. Dini metinlerdeki çelişkileri gidermeye çalışmıştır.

yargılarından hangilerine ulaşılabilir?

A) Yalnız III B) I ve II C) I ve III
D) II ve III E) I, II ve III

17. En kısa ifadeyle doğru yol anlamına gelen sırat-ı müstakim kavramı Kur'an'da birçok yerde geçmektedir. Vahiyde bildirilen emirlerin ve ahlaki ilkelerin Hz. Muhammed'in (s.a.v.) yaşadığı biçimde yaşanması da bu kavram kapsamında değerlendirilir. Yüce kitabımızda dosdoğru yol olarak tanımlanan sırat-ı müstakim her türlü aşırılıktan uzak olmayı, orta yolu takip etmeyi de ifade eder. Yüce Allah (c.c.) namazlarda okunan Fâtiha suresinin 6 ve 7. ayetlerinde "Bizi dosdoğru yola ilet, kendilerine nimet verdiklerinin yoluna..." buyurarak hidayete dikkat çekmektedir. Sırat-ı müstakim çerçevesinde bir hayat sürenler dini kaynaklarda özellikleri sayılarak cennetle müjdelenmişlerdir.

Bu parçada sırat-ı müstakim ile ilgili aşağıdakilerin hangisine <u>değinilmemiştir</u>?

A) Çeşitli manalara geldiğine
B) Kur'an'daki kullanım örneklerine
C) Peygamber hayatıyla olan ilişkisine
D) Benimseyenlerin kazançlı çıkacağına
E) İlahi dinlerde ortak bir kavram olduğuna

BİLGİ SARMAL

18. Hicretten sonra Medine'de yapılan ilk işlerden biri olan Mescid-i Nebi, Hz. Peygamber döneminde, mabet, okul, diplomatik kabul ve görüşmelerin yapıldığı yer, hukuki, ticari ve sosyal meselelerin konuşulduğu ve görüşüldüğü önemli ve etkin bir merkez konumundadır. Emeviler döneminin sembol eserleri de hep camiler olmuş camilerin verdiği ruh fethedilen yerlere taşınmıştır. Örneğin, Şam Emeviye ve Kudüs'teki Mescidi Aksa bunlardandır. Abbasiler döneminde bilhassa dine yeni giren Türkler için inşa edilen Samerra şehrindeki Ulu Camii aynı ruhun dışavurumudur. Yine Mısır'ın sembollerinden Ezher Üniversitesi tamamen cami etrafında oluşmuş bir mabet üniversitesidir. Osmanlı'nın fethettiği beldelerde ilk iş olarak cami inşa etmesi mabet merkezli bir medeniyetin tarihte birbirini modelleyerek geliştiren izleridir.

Bu parça İslam medeniyetinde aşağıdaki sanat dallarından hangisiyle ilişkilendirilebilir?

A) Musiki
B) Minyatür
C) Edebiyat
D) Mimari
E) Çini

19. Mekke'nin fethinden sonra Peygamberimiz, Kâbe'nin bakım ve hizmetini görmek üzere kapı anahtarını elinde bulunduran ve henüz İslamiyet'i kabul etmemiş olan Osman bin Talha ile görüşür. Bu işi kendisi ve ailesinin bugüne kadar gerçekten iyi yaptığını bundan sonra da anahtarı elinde bulundurmasında ve işine devam etmesinde bir sakınca olmadığını söyler. Sahabilerden bazıları, Osman'ın birçok kez Müslümanlara düşmanlık ettiğini hatırlatsa da Peygamberimiz kararını değiştirmez.

Bu olayda Hz. Muhammed'in aşağıdakilerden hangisine verdiği değer ön plana çıkmaktadır?

A) Cihada
B) Liyakate
C) Cömertliğe
D) Allah'a itaate
E) Din kardeşliğine

20. Ölümle birlikte yok olup gideceğini düşünen bir insan için dünyadaki hiçbir şeyin anlamı kalmaz. Dostlukların, sevginin, yaptığı iyiliklerin, yaşadıklarının bir karşılığı ve devamı olmayacağını düşünen insana hayatın güzellikleri zevk vermez. Ayrıca insanların işledikleri kötü davranışlardan sorumlu tutulmayacağı düşüncesi, birçok olumsuz davranışa neden olur.

Buna göre ahiret inancıyla ilgili olarak;

I. İnsan hayatına anlam kazandırmaktadır.
II. Toplumsal sorunların çıkmasında önleyici olmaktadır.
III. Hayatın boş yere yaratılmadığı anlayışını geliştirmektedir.

yargılarından hangilerine ulaşılabilir?

A) Yalnız I B) Yalnız II C) Yalnız III
D) I ve III E) I, II ve III

BİLGİ SARMAL

Bu testte sırasıyla, Tarih (1 – 5), Coğrafya (6 – 10), Felsefe (11 – 15), Din Kültürü ve Ahlak Bilgisi (16 – 20) dersi olmak üzere toplam 20 soru vardır.

1. Geniş bozkır sahalarında iklim ve coğrafya gereği sürekli hareket hâlinde olan konargöçer Türk toplulukları, toprağa bağlılığı değil soy aidiyetini birinci planda tutmuşlardır.

Parçada yer alan altı çizili durum dikkate alındığında Türklerde aşağıdakilerden hangisinin gelişme göstermesi beklenmez?

A) Kabilecilik anlayışı
B) Hayvancılık faaliyetleri
C) Sosyal devlet
D) Özel mülkiyet
E) Toplumsal eşitlik

2. Endülüs Emevileri, pirinç, şeker kamışı ve pamuğun önce İspanya'da daha sonra da Avrupa'da tanınmasını sağlamışlardır. Ayrıca Avrupa'ya kâğıt üretimi için palamut ve hurma ağaçlarından katran elde edilmesini öğretenler de yine Endülüslü Müslümanlar olmuştur. Bu gelişmeler Avrupa'da ----

Parçada verilen bilgiler dikkate alındığında son cümlenin;

I. bilimsel çalışmaların hız kazanmasında etkili olmuştur.
II. sömürgecilik anlayışının benimsenmesine yol açmıştır.
III. üretim faaliyetlerinin çeşitlenmesine zemin hazırlamıştır.

ifadelerinden hangileri ile devam ettirilmesi doğru olur?

A) Yalnız I B) Yalnız II C) I ve II
D) I ve III E) II ve III

3.



Fatih Sultan Mehmet'in Rum Patriği'ne amanname verdiği yukarıdaki resimden yola çıkılarak Osmanlı Devleti ile ilgili,

I. Eğitim ve bilim alanındaki faaliyetlere önem verilmiştir.
II. Farklı dinlere müsamaha gösteren bir anlayış benimsenmiştir.
III. Ticaretin gelişmesi için yabancı devletlere imtiyazlar tanınmıştır.

yorumlarından hangileri yapılabilir?

A) Yalnız I B) Yalnız II C) I ve II
D) I ve III E) II ve III

BİLGİ SARMAL

Diğer Sayfaya Geçiniz.

4.

- Osmanlı Devleti'nde 1840 tarihinde Fransız Ceza Yasasından yararlanılarak yeni bir Ceza Kanunnamesi hazırlanmış ve bu alandaki modernleşme çabalarına hız verilmiştir.
- 1926 tarihli Türk Medeni Kanunu, İsviçre Medeni Kanunu esas alınarak hazırlanmış ve bütün vatandaşların hukuk düzeninin sınırları içinde eşit olacağı ifade edilmiştir.

Bu bilgiler dikkate alındığında aşağıdaki yargılardan hangisine ulaşılabilir?

A) Lale Devri'ndeki yenilikler, Türkiye'deki çağdaşlaşma sürecini başlatmıştır.

B) Tanzimat Dönemi'nde başlayan Batılılaşma süreci, Cumhuriyet Dönemi'nde de devam etmiştir.

C) Hukuk alanındaki bütün yeniliklerde Avrupa hukuk sisteminden faydalanılmıştır.

D) Yeniliklerin yapılmasında Batılı devletlerin baskısı söz konusudur.

E) Çağdaşlaşma süreci, Millî Mücadele yıllarında kesintiye uğramıştır.

5. "Atatürkçülük, Türkiye'de siyasi ve ideolojik bir bağımsızlık anlayışından hareketle bilim ve aklın ağır bastığı bir toplum yaratmak ve bu yolda Türk milletine Batı medeniyeti içinde sosyal ve tarihi kişiliğini kaybetmeden hak ettiği yeri kazandırma çabasıdır." **diyen bir tarihçi Atatürkçü düşünce sisteminin;**

I. Türk milletini bilim alanında geliştirmeyi ve çağdaşlaştırmayı hedeflediği,

II. geçmişte yaşananların dikkate alınmaması gerektiği,

III. Türk kültürüne önem verdiği

özelliklerinden hangilerine sahip olduğunu söyleyebilir?

A) Yalnız II B) Yalnız III C) I ve II

D) I ve III E) II ve III

6.

	Gece (°C)	Gündüz (°C)
I.	11	21
II.	18	26
III.	2	24
IV.	9	16
V.	20	25

Yukarıdaki tabloda gece ve gündüz sıcaklık ortalamaları verilen beş merkezin hangisinde fiziksel ayrışmanın en fazla olması beklenir?

A) I B) II C) III D) IV E) V

7. Bir araştırma gezisi için gittiği bölgede çok sayıda fay olduğunu gözlemleyen bir coğrafyacı bu gözlemine dayanarak yörede depremlerin olabileceğini söylemiş ve bunun doğruluğu yapılan araştırmalarda tespit edilmiştir.

Bu durum,

I. Bölge genç arazilerden oluşur.

II. Bölgede masif araziler yaygındır.

III. Bölge arazisi alçak ve düzlüktür.

yargılarından hangilerini doğrulamaktadır?

A) Yalnız I B) Yalnız II C) Yalnız III

D) I ve II E) II ve III

8. Bir anket araştırmasına katılanlar, meslekleri ile ilgili şu bilgileri vermiştir.

Ülkü: Bir üniversitede akademisyen olarak görev yapıyorum.

Erkan: Bir hastanede diş hekimi olarak çalışıyorum.

Melike: Bir tekstil fabrikasında yöneticiyim.

Esra: Özel bir şirkette grafik tasarımcısıyım.

Mehmet: Kendi çiftliğimde balıkçılık yapmaktayım.

Buna göre hangi katılımcının birincil ekonomik faaliyet grubunda yer alan bir meslekte çalıştığı söylenebilir?

A) Ülkü B) Erkan C) Melike
D) Esra E) Mehmet

9. Mekânı amaca göre sınıflandırıp sınırlandırarak çeşitli bölge türleri ayırt edilebilir. Bunlardan biri de hizmetlerin insanlara ulaştırılması ve mekânsal organizasyonun etkili olması amacıyla oluşturulan, belirli bir merkezden yönetilen işlevsel bölgelerdir.

Aşağıdakilerden hangisi sözü edilen bu bölgeye örnek gösterilemez?

A) Ankara Büyükşehir Belediyesi hizmet bölgesi
B) TRT hizmet bölgeleri
C) Kalkınma projesi bölgesi
D) Türk Kültür Bölgesi
E) Kara Yolları Genel Müdürlüğü hizmet bölgeleri

10. Levha sınırları ile deprem ve volkanların dağılışı benzerlik gösterir.

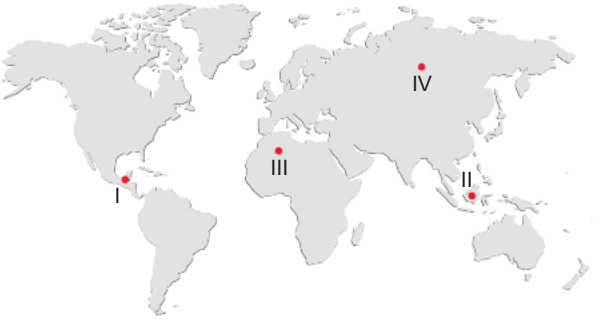

Buna göre haritada numaralı alanların hangilerinde deprem ve volkanik patlama tehlikesi daha fazladır?

A) I ve II B) I ve III C) II ve III
D) II ve IV E) III ve IV

11. Berkeley *İnsan Bilgisinin İlkeleri Üzerine* adlı eserinde "Görme yoluyla, çeşitli dereceleri ve değişimleriyle ışık ve renk idealarını edinirim. Dokunma yoluyla, örneğin serti ve yumuşağı, sıcağı ve soğuğu, devinimi ve direnci ve bunları, aralarındaki nicelik ya da derece farklarıyla daha az ya da daha çok olarak algılarım. Koklama beni kokularla, tat alma duyusu tatlarla donatır, işitme zihne bütün çeşitlilik ve bileşimlerde sesler taşır. Birkaçının birbirine eşlik ettiği gözlendikçe, bunlar tek bir adla adlandırılır ve böylece tek birşey sayılırlar. Böylece, örneğin belli bir renk, tat, koku, biçim ve yoğunluğun bir araya geldiği gözlemlendiğinde bunlar 'elma' adıyla gösterilen belirli bir nesne sayılırlar; başka idea derlemeleri taş, ağaç, kitap ve bu türden duyulur şeyleri oluştururlar; bunlar da hoş ya da cansıkıcı olmalarına göre aşk, nefret, neşe, acı ve benzer tutkular uyandırırlar." demiştir.

Bu parçada anlatılanlar aşağıdaki bilgi görüşlerinden hangisiyle benzerlik gösterir?

A) Sokrates'in akılcılığı
B) Locke'un deneyimciliği
C) Kant'ın eleştiriciliği
D) Bergson'un sezgiciliği
E) Timon'un şüpheciliği

BİLGİ SARMAL

12. Devlet için en iyi model ailedir. Aile karşılıklı sevgi duygusuyla birbirine bağlanmış bir gruptur. Hiçbir üyenin diğerine üstünlüğü söz konusu değildir. Herkes biricik ve önemlidir. Kararlar oy çokluğuyla ve gönül rızasıyla alınır. Ailedeki kararlar nasıl herkesin çıkarına ve onayına bağlıysa, toplumda da öyle olmalıdır. Bireyler toplumsal çıkarlarını kişisel çıkarların üstünde görmelidir.

Bu parçada savunulan düşünce aşağıdakilerden hangisidir?

A) Bireylerin iradesini kısıtlayan otorite gereksizdir.
B) Devlet insan doğasına uygun bir kurumdur.
C) Devlet amaç, birey araç olmalıdır.
D) Halkın genel istenci doğrudur.
E) Toplumsal yaşam insan özgürlüğünü ortadan kaldırır.

13. Aristoteles *Metafizik* adlı eserinde "Her filozofun doğa üzerine söyleyeceği bir şey vardır. Bu şeyin kendisi doğru ile ilgili olarak kuşkusuz bir hiçtir veya çok az şeydir. Ancak bütün düşüncelerin toplamı verimli sonuçlar meydana getirir. Bundan dolayı doğru ile ilgili durum, atasözünde söylenen şeye benzer: 'Bir kapıya kim (nişan alıp da) isabet ettiremez?' Bu bakımdan göz önüne alınırsa, bu araştırma kolaydır. Ancak bir doğruya bütünüyle sahip olabilmekle birlikte tam hedeflediğimiz noktaya isabet ettirememiz bu girişimin zorluğunu gösterir. Belki de nasıl iki türlü güçlük varsa, bu güçlüğün kaynağı da şeylerde değil, bizim kendimizde bulunmaktadır. Çünkü ruhumuzda bulunan aklımızın tüm şeyler içinde doğaları gereği en apaçık olanları karşısındaki durumu, yarasanın gözlerinin gün ışığı karşısındaki durumuna benzer." demiştir.

Bu parçadan aşağıdaki yargıların hangisine <u>ulaşılamaz</u>?

A) Filozoflar görüşleriyle felsefi düşünceye katkıda bulunmuştur.
B) Hakikat arayışı içinde hem bazı zorluklar hem de kolaylıklar barındırır.
C) Her filozof kendi yöntemiyle gerçeğin bilgisine ulaşır.
D) Bilgiye ulaşmadaki güçlük nesneye değil bilene ilişkindir.
E) Hakikate ilişkin görüşler ortaya koymak düşünme yeteneğini geliştirir.

14. Bir ressam çeşitli renk ve figürlerle bir doğa manzarasını ya da insan bedenini taklit etmeye, resmetmeye çalışır. Bir tiyatro ya da roman yazarı, kendi yaşantısından süzdüğü bazı olayları tekrar dışavurmaya, farklı bir şekilde taklit etmeye çalışır. Bu bağlamda tüm sanatsal yaratım süreci, nesnel gerçekliği kendisine başlangıç noktası olarak almak durumundadır. Sanatsal etkinlik hem biçim hem de içerik açısından nesnel gerçeklikten, doğal malzemeden ayrı düşünülemez.

Bu parçada savunulan görüş aşağıdakilerden hangisidir?

A) Sanat, doğanın yansıtılmasıdır.
B) Sanat, içsel duyguların ortaya konulmasıdır.
C) Sanat, toplumsal problemlerin dile getirilme aracıdır.
D) Sanatı anlamak sanat tarihi ile olanaklıdır.
E) Sanatta esas olan öznedir.

15. Thomas bu kanıtlamada dünyadaki her şeyin amaçlı bir biçimde, belirli amaçlara ulaşacak şekilde eylemde bulunduğu veya hareket ettiği gözleminden yola çıkar. Bu durum akıllı bir varlık olan insan kadar, taşlar ve ağaçlar türünden, akıl ve dolayısıyla bilgiden yoksun olan varlıklar için de geçerlidir. Bu varlıkların amaçlarına, rastlantısal olarak değilde bir plana uygun olarak ulaştıkları; bir plandan dolayı işlevlerini evrendeki genel düzene katkı sağlayacak şekilde gerçekleştirdikleri açıktır. Bu plan ve dolayısıyla evrendeki düzen de en yüksek derecede akıllı bir varlık, bilgisi mutlak olan bir varlığın eseridir.

Bu parçada verilenler aşağıdaki problemlerden hangisine yöneliktir?

A) Kötülüğün kaynağı
B) Tanrı'nın varlığı
C) Bireyin iradesi
D) Tümellerin gerçekliği
E) Ruhun ölümsüzlüğü

BİLGİ SARMAL

16.
- "İlmi, âlimlere karşı övünmek, cahillerle münakaşa etmek ve insanların teveccühünü kazanmak için öğrenmeyiniz…"

(İbn Mâce, Sünnet, 23)

- "Şüphesiz Tevrat'ı biz indirdik. İçinde bir hidayet, bir nur vardır. (Allah'a) teslim olmuş nebiler onunla yahudilere hüküm verirlerdi. Kendilerini Rabb'e adamış kimseler ile âlimler de öylece hükmederlerdi. Çünkü bunlar Allah'ın kitabını korumakla görevlendirilmişlerdi. Onlar Tevrat'ın hak olduğuna da şahit idiler. Şu hâlde siz de insanlardan korkmayın, benden korkun ve âyetlerimi az bir karşılığa değişmeyin. Allah'ın indirdiği ile hükmetmeyenler kafirlerin ta kendileridir."

(Mâide; 44)

Bu ayet ve hadiste vurgulanan ortak düşünceyi ifade eden en genel yargı aşağıdakilerden hangisidir?

A) İslam dininde bilgi ahlakına önem verilmektedir.

B) İlim sahipleri yaşantılarıyla insanlara örnek olmalıdır.

C) Bilgi edinmek için başvurulacak temel kaynaklar Kur'an ve sünnettir.

D) Kendisine güvenilmeyen bir kimseden gelen haberlere itibar edilmemelidir.

E) İnkar edenlerden elde edilen bilgiler doğruluk süzgecinden geçirilmelidir.

17. "Beni taklit etme. Mâlik'i, Şâfî'yi, Evzâi'yi ve Sevri'yi de taklit etme. Onlar hüküm ve bilgiyi nereden aldıysalar, sende oradan al. Dinini hiçbir müçtehide ısmarlama. Hz. Peygamber (s.a.v.) ve ashabtan geleni al, sonra tabiin gelir ki kişi bunlarda serbesttir."

(Ahmed. b. Hanbel)

Bu sözde aşağıdakilerden hangisi vurgulanmaktadır?

A) Dini yorumlamada etkili kültürel farklılıklar

B) Fiili problemlere çözüm üretmenin değeri

C) Fıkhi mezheplerin insan yaşamına etkisi

D) Dinin temel kaynaklarına verilen önem

E) Akıl ve kıyasın hüküm koymadaki yeri

18. "Allah'ın gönderdiği peygamberlerden her birine mutlaka insanların onun gibi bir şeyi görmekle imana geldiği bir mucize verilmiştir. Ancak bana verilen mucize ise onlardan farklı olarak Allah'ın bana gönderdiği bir vahiydir. Bu yüzden kıyamet günü, onların hepsinden daha fazla tâbileri (uyanları) bulunan bir peygamber olacağımı ümit ediyorum."

(Buharî, İtisam, 1)

Bu hadiste verilmek istenen mesaj,

I. Kur'ân'ın sözü kaldı, özünü yasakladık. Sözünü de, yaldızlı kılıflarda sakladık.

(Cengiz Numanoğlu)

II. Ben Kur'an'ı her yönden inceledim. Her kelimesinde büyük bir hikmet gördüm.

(Otto Von Bismack)

III. Kur'an'ın Allah kelâmı olduğunu inkâr etmek mevcut ilimlerin batıl olduğunu ileri sürmek kadar gülünçtür.

(Otto Von Bismack)

sözlerinden hangileri ile ilişkilendirilebilir?

A) I ve II B) I ve III C) II ve III D) Yalnız II E) I, II ve III

BİLGİ SARMAL

19. İnsan üstün özelliklerle donatılmış, yaşaması için gerekli olan tüm unsurlar Yüce Allah tarafından kendisine verilmiştir. Allah insana akıl nimeti vermiş, düşünmeyi, konuşmayı, yazmayı ve üretmeyi öğretmiştir. Bu şekilde insanın bu dünyadaki yaşamı kolaylaştırılmıştır. Bu özellikler sayesinde insan diğer varlıklardan ayrıcalıklı bir konumdadır. Evrendeki her varlığın bir amacı olduğu gibi insanın da yaratılışının bir amacı vardır. Tüm bu üstün özelliklerle donatılan insan dünyada yaptığı her işin karşılığını görecektir. Çünkü Allah (c.c.) evreni ve içindeki varlıkları, özellikle de insanı boş yere yaratmamıştır.

Bu parçada insanın aşağıdaki özelliklerinden hangisine değinilmemiştir?

A) Doğru ile yanlışı ayırt edebildiğine
B) Duygusal bir yönünün bulunduğuna
C) Sorumluluk sahibi bir varlık olduğuna
D) İletişim kurabildiğine
E) Bilinçli davranışlar sergilediğine

20. Dinin belirlemiş olduğu ilkelere inanan ve bu ilkeleri benimseyen bir kişi; adalet, akrabaya yardım etmek, misafire ikramda bulunmak, dürüstlük ve yardımseverlik gibi değerlere hayatında yer verir. Bu yönüyle din, kişinin düşünce dünyasına ve pratik hayatına anlam ve değer katar. Bu değerleri benimseyen kişi kendisinden emin olunan kişidir. Din; dürüstlük, sorumluluk, adalet, yardımseverlik gibi değerleri öğütleyerek insanı iyiliğe yöneltir. Dolayısıyla iyi bir insan olabilmek için dini değerlere duyulan ihtiyaç kendisini açıkça gösterir.

Bu parçada aşağıdakilerden hangisi üzerinde durulmaktadır?

A) Örf ve adetler üzerinde dinin etkisi
B) Din ahlak ilişkisi
C) Değer kavramının bireysel etkileri
D) Dini metinlerde geçen temel kavramlar
E) Maddi ve manevi değerler

BİLGİ SARMAL

Bu testte sırasıyla, Tarih (1 – 5), Coğrafya (6 – 10), Felsefe (11 – 15), Din Kültürü ve Ahlak Bilgisi (16 – 20) dersi olmak üzere toplam 20 soru vardır.

1. Halil İnalcık, "Gerçek bir tarih yazabilmek için kaynaklara gitmek, kaynakları iyi tenkit edip değerlendirmek gerekir." ifadelerini kullanmıştır.

Buna göre, Halil İnalcık'ın aşağıdakilerden hangisini özellikle vurguladığı söylenebilir?

A) Tarihî olayların önemine göre sıralanmasını
B) Tarihî olayın yaşandığı yerlerin gezilmesini
C) Deney ve gözlem metodunun kullanılmasını
D) Tarihin objektif bir şekilde değerlendirilmesini
E) Millî ve ahlakî değerler üzerinde durulmasını

2. İlk Türk devletlerinde ülkenin yönetimi, Hunlardan itibaren doğu ve batı olmak üzere ikiye ayrılmıştır. İkili teşkilatlanma denilen bu sistemde kağan doğuda otururken, batının yönetimi hükümdar ailesinden önde gelen bir kişiye, genelde kağanın kardeşine bırakılmıştır.

İlk Türk devletlerindeki bu uygulamanın temel amacının aşağıdakilerden hangisi olduğu söylenebilir?

A) Teokratik yapıyı güçlendirmek
B) Demokrasi anlayışını geliştirmek
C) Ülke yönetimini kolaylaştırmak
D) Toplumsal alanda eşitliği sağlamak
E) Ticari faaliyetleri artırmak

3.



"Trompet seni çağırıyor!"
(1914-1918 yılları arasında İngiltere'nin Avustralya'da kullandığı askere alma afişi)

Bu afiş dikkate alındığında,

I. İngiltere, I. Dünya Savaşı'nda sömürgelerinden destek almaya çalışmaktadır.
II. Avustralya, İttifak Bloku'nun etkili devletlerinden biridir.
III. Almanya ve Fransa'nın müttefik olması İngilizleri zor durumda bırakmıştır.

yargılarından hangilerine ulaşılabilir?

A) Yalnız I B) Yalnız II C) I ve II
D) I ve III E) II ve III

BİLGİ SARMAL

Diğer Sayfaya Geçiniz.

4.

15 Nisan 1923 Tarihinde 1. Maddesi Değiştirilen Hıyanet-i Vataniye Kanunu

Madde-1: Saltanatın kaldırılmasına ve egemenlik ve hüküm sürme haklarının terk edilememek, bölünememek ve vazgeçilememek üzere Türkiye halkının gerçek temsilcisi olan Büyük Millet Meclisi'nin manevi kişiliğinde saklı bulunduğuna ilişkin 1 Kasım 1922 tarihli karara karşı veya Türkiye Büyük Millet Meclisi'nin meşruluğuna isyanı içeren sözle veya yazıyla veya eylemle kasıtlı muhalefet eden veya karışıklık çıkaran veya yayında bulunan kişiler vatan haini sayılır.

Yukarıdaki kanun metninde yapılan değişikliğin;

I. eski rejime dönüşü engellemek,

II. millî iradenin devamlılığını sağlamak,

III. çok partili hayata geçiş sürecini ertelemek

amaçlarından hangilerine yönelik olduğu söylenebilir?

A) Yalnız I B) Yalnız II C) I ve II

D) I ve III E) II ve III

5.

- Sivas Kongresi'nde büyük tartışmalara yol açan manda ve himaye konusu kongrede alınan karar sonucunda kesin olarak reddedilmiştir.
- Lozan Konferansı sırasında İtilaf Devletleri ile Türk heyeti arasında sıcak tartışmalara yol açan kapitülasyonlar, bazı devletlerin ısrarla karşı çıkmalarına rağmen kaldırılmıştır.

Buna göre, manda ve himaye ile kapitülasyonlar konusunda hiçbir şekilde taviz verilmemesinin temel nedeni aşağıdakilerden hangisidir?

A) İstanbul Hükûmeti'nin muhalif tavrı

B) Wilson İlkeleri'nin yayımlanması

C) Tam bağımsızlık fikrinin benimsenmesi

D) TBMM'nin Millî Mücadele'yi başarıyla tamamlaması

E) İşgalci güçlerle uzlaşma yollarının aranması

6. Aşağıdaki topoğrafya haritasında eş yükselti eğrileri 250 m ara ile çizilmiştir.

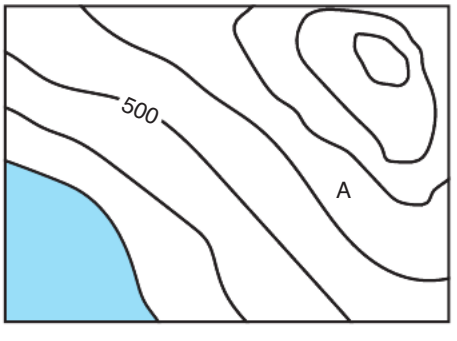

Buna göre, topografya haritasında A merkezinin bulunduğu yer renklendirme yöntemiyle çizilen bir fiziki haritada hangi renk ile gösterilir?

A) Yeşil

B) Koyu Yeşil

C) Sarı

D) Kahverengi

E) Turuncu

BİLGİ SARMAL

7. Aşağıda beş bitkinin yetişme alanlarının başlıca özellikleri verilmiştir.

I. Bitki; kış mevsiminin yağışlı ılık geçtiği alanlarda

II. Bitki; yaz mevsiminin kurak geçtiği alanlarda

III. Bitki; yıl içinde en fazla yağışın ilkbahar aylarında olduğu alanlarda

IV. Bitki; sıcaklığın yıl içerisinde 15 °C altına düşmediği alanlarda

V. Bitki; yağış miktarının 1000 mm üzerinde olduğu alanlarda

Buna göre, sadece verilenler dikkate alındığında bu bitkilerden hangisinin Türkiye'de yetişme alanı daha dardır?

A) I B) II C) III D) IV E) V

8. Aşağıdaki tabloda K ve L ülkelerinde doğal nüfus artış hızı, gerçek nüfus artış hızı, ortalama kadın ve erkek ömrü verilmiştir.

	K ülkesi	L ülkesi
Doğal nüfus artış hızı (‰)	30,7	1,4
Gerçek nüfus artış hızı (‰)	26,8	3
Ortalama erkek ömrü (Yıl)	55,3	79,1
Ortalama kadın ömrü (Yıl)	58	84,7

Buna göre K ve L ülkeleri ile ilgili olarak,

I. K ülkesinin nüfus miktarı L ülkesinden fazladır.

II. K ve L ülkelerinde erkeklerin ortalama ömrü kadınlardan daha azdır.

III. K ülkesinde kişi başına düşen gelir daha fazladır.

yargılarından hangileri <u>söylenemez</u>?

A) Yalnız I B) I ve II C) I ve III D) II ve III E) I, II ve III

9. İklim tipine göre bölgeler oluşturulurken yağış ve sıcaklık gibi özellikler dikkate alınır.

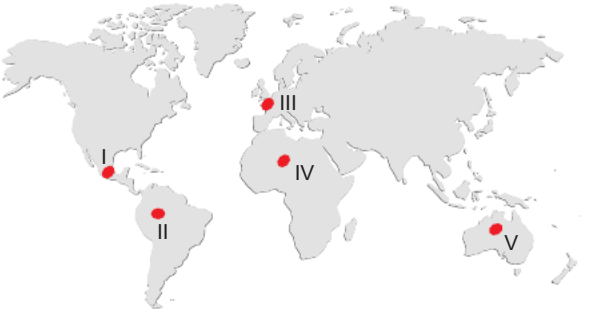

Buna göre, haritada numaralandırılan yerlerin hangileri aynı iklim bölgelerinde yer alır?

A) I ve II B) I ve III C) II ve III D) III ve IV E) IV ve V

10.



Haritada koyu renkle gösterilen alanların hangisinde

- sel ve taşkın,
- heyelan

afetleri sonucunda can ve mal kaybı yaşanması ihtimali diğerlerinden daha fazladır?

A) I B) II C) III D) IV E) V

BİLGİ SARMAL

11. Felsefe sağlıksız kafaları daha sağlıksız; sağlam kafaları da daha sağlam yapar. Çünkü felsefenin gerektirdiği sistemli düşünce, neden sonuç ilişkisi kurma, gerekçelendirme gibi zihinsel edimleri gerçekleştirebilen sağlam kafa, bunları yaparken daha da sağlamlaşır. Oysa aynı edimleri gerçekleştiremeyen sağlıksız kafa, kuracağı sakat ilişkilerle kendi sakatlığını daha da artırır. Felsefeyle güçlenmiş bilinç, her tür sorunun üstesinde gelemese de onlar karşısında sağlam duruşuyla insana bilgece davranış olanağı sağlayabilir.

Bu parçada aşağıdakilerin hangisinden söz edilmiştir?

A) Felsefenin kendi tarihinden beslendiğinden
B) Felsefenin insan yaşamına etkilerinden
C) Felsefenin bilimlerle ilişkisinden
D) Felsefenin refleksif olduğundan
E) Felsefenin sürekli bir arayış olduğundan

12. İnsan tek başına erdemli ve mutlu bir yaşam kuramaz. Çünkü insanın doğası ikili ve çatışmalı bir karakteristiğe sahiptir. Her davranışın ve yönelişin bir karşılığı vardır. İnsanın gelişimi için, bu ikili yapı ve çatışmalı karşıtlık zorunludur. İnsan tümüyle iyi olsaydı gelişemezdi. Kötülükle mücadele onu daha iyi bir toplumsal düzen kurmak için yüreklendirecektir. Erdemsizliklerden yakınmak yerine, bizi erdeme götürecek toplumsal değerleri aramalıyız. Aslında erdemsizlik olmadan erdem olmaz.

Bu parçadan aşağıdaki yargılardan hangisine ulaşılabilir?

A) İnsan doğasını karşıtlıklar bozar.
B) İnsan erdemli bir yaşama erişemez.
C) Zıtlıklar insanın gelişimi için bir araçtır.
D) İnsan doğuştan iyiye meyilli bir varlıktır.
E) Erdemli yaşam bireyin çıkarlarından arınık olamaz.

13. "…Korkma! Sadece toprağa gideceksin, sonra toprak olacaksın. Sonra sularla birlikte bir çiçeğin bedenine yürüyeceksin, oradan özüne ulaşacaksın. Çiçeğin özüne bir arı konacak. Belki o arı ben olacağım."

Bu ifadeler aşağıdaki özgün görüşlerden hangisine örnek oluşturur?

A) Platon'un idealizmine
B) Aristoteles'in altın ortasına
C) Demokritos'un atomculuğuna
D) Empedokles'in plüralizmine
E) Herakleitos'un oluşçuluğuna

14. Carnap'a göre metafizik tam da lirik şiirler gibidir. Ne doğru ne de yanlıştır. Hiçbir yargıda bulunmamaktadır, hiçbir bilgi içermemektedir. Aynı şiirde olduğu gibi yaratıcısındaki bazı duygu durumlarını okuyucuya ifade etmektedir. Bu nedenle bilimsel olmaz. Dolayısıyla önermeleri de anlamsızdır.

Carnap'a göre aşağıdaki sorulardan hangisi metafiziktir?

A) İletişim hataları nelerdir?
B) Hayvanlarda içgüdü var mıdır?
C) İnsan neden beslenir?
D) Evrenin arkhesi nedir?
E) Yer çekimi var mıdır?

15. Kuramlar bilim vücudunun organlarını bir süre besledikten sonra kuruyup düşen yapraklar gibidir.

Bu cümle kuramların hangi özelliğine yöneliktir?

A) Değişebilir olması
B) Kanıtlanabilir olması
C) Tutarlı olması
D) Öndeyiye olanak sağlaması
E) Genellemelere dayanması

16. Hakkında kesin olmayan bilgiye dayanarak, bir kişi veya durumla ilgili hüküm vermek zan kavramı ile ifade edilmektedir. Kelime anlamı itibariyle ise zan şüphe, tereddüt, sanma ve sanı demektir. İslam âlimleri zannı; suizan ve hüsnüzan şeklinde iki başlık altında ele almışlardır. Suizan, bir kişi ya da durum hakkında olumsuz düşünmeyi ve kötü bir kanaate varmayı ifade ederken; hüsnüzan ise insanlar hakkında iyi düşüncelere sahip olmak anlamına gelmektedir. Dini kaynaklarda suizanın kötü sonuçlarına karşı insanlara uyarılarda bulunulmuştur. "Zandan sakının. Çünkü zan yalanın ta kendisidir." hadisi bu ikazlara örnek olarak gösterilebilir.

Bu metinde zan ile ilgili aşağıdakilerin hangisinden bahsedilmemiştir?

A) Kaç çeşidinin bulunduğundan
B) Sözlükte hangi manaya geldiğinden
C) Ayet ve hadislerde nasıl ele alındığından
D) Birey için olumsuz neticeleri olduğundan
E) Tüm örneklerinin yanlış kabul edildiğinden

17. İlk mevcut (Allah), diğer bütün varlıkların mevcudiyetlerinin ilk sebebidir ve bütün eksikliklerden uzaktır. O'ndan başka varlıklarda eksiklikler vardır. Buna karşılık onun hiçbir eksiği yoktur. O'nun varlığı, varlıkların en üstünü ve ilkidir. O'nun varlığından daha mükemmel ve daha önce bir varlığın bulunması mümkün değildir. O, varlığa ait üstünlük bakımından en yüce noktada, varlığa ait mükemmellik bakımından da en yüksek mertebededir. Bu yüzden onun varlığına ve cevherine yokluk şüphesinin karışması mümkün değildir.

(Farabi)

Bu parçada Allah ile ilgili,

I. Varlığı zorunludur.
II. Ekmeldir.
III. Tekdir.

özelliklerinden hangilerine değinilmiştir?

A) I ve II B) I ve III C) II ve III
D) Yalnız III E) I, II ve III

18. İslam inanç esaslarındaki itidal ve denge ahirette kulun amelleri tartılırken de geçerlidir. İlahi adaletin bir yansıması olarak insanlar yaptıklarının karşılığını ahirette göreceklerdir. Bu yüzden kul Allah'ın (c.c.) rahmetine güvenip sorumluluklarını aksatmamalıdır. Ama O'nun rahmetinden faydalanamayacağı konusunda karamsarlığa da düşmemeli, ölçülü bir hayat yaşamalıdır.

Bu parça aşağıdaki ayetlerden hangisiyle desteklenebilir?

A) "Senden önce gönderdiğimiz bütün peygamberlere, "Şüphesiz, benden başka hiçbir ilah yoktur. Öyleyse bana ibadet edin." diye vahyetmişizdir. "
(Enbiyâ; 25)

B) "Islah edilmesinden sonra yeryüzünde bozgunculuk yapmayın. Allah'a korkuyla ve ümitle dua edin. Muhakkak ki iyilik edenlere Allah'ın rahmeti çok yakındır."
(A'râf; 56)

C) "Sizi (özel) bir çamurdan yaratan, sonra ölüm zamanını takdir eden ancak O'dur. O'nun katında bir ecel daha vardır. Siz hâlâ şüphe ediyorsunuz."
(En'âm; 2)

D) "Andolsun biz üstünüzde yedi yol (yörünge) yarattık. Biz yaratılanlardan habersiz değiliz."
(Mü'minûn; 17)

E) "Ey peygamber! Allah'a itaatsizlikten sakın, açık ve gizli inkârcıların sözünü dinleme, Allah her şeyi bilmekte ve hikmetle yönetmektedir."
(Ahzâb; 1)

BİLGİ SARMAL

19. İbadet, Allah'a (c.c.) gönülden isteyerek yönelmek, tapmak, boyun eğmek ve itaat etmektir. Kulluk etmek tabiriyle aynı anlama gelir. İbadet, inancın bir göstergesi olup inanca bağlı olarak ortaya çıkar. İnsanın inancını korur ve güçlendirir. İnsan ibadet sayesinde gönülden Allah'a (c.c.) yönelir ve O'nunla irtibata geçer. İnsanın Rabbiyle kurduğu bu irtibat hiç kopmamalıdır. Bu da ancak ibadette süreklilikle sağlanabilir. Çünkü Allah (c.c.) insanın Rabbidir. İnsanı yaratmış ve onun hayatını düzenlemiştir. Bu sebeple ibadete lâyık olan tek varlık Yüce Allah'tır. İslam dininde Allah'tan başkasına ibadet etmek ya da ibadet esnasında kul ile Allah arasına aracı koymak kesinlikle kabul edilemez. İnanan insanlar yalnız Allah'a (c.c.) karşı içtenlikle ibadet etmelidir.

Bu parçada ibadetle ilgili aşağıdakilerden hangisine değinilmemiştir?

A) İnsanın Rabbi ile iletişimini güçlendirdiğine
B) İman etmekle sıkı bir ilişkisinin bulunduğuna
C) Yapılış şekillerinin Allah tarafından öğretildiğine
D) Samimi duygularla yerine getirilmesi gerektiğine
E) Yalnızca Allah için yapılabileceğine

20. Muahat; hicretten sonra Hz. Peygamber'in, Mekke'den hicret eden Muhacirlerle Medineli Ensardan olan Müslümanlar arasında yapmış olduğu kardeşlik antlaşmasına verilen isimdir. Bu antlaşma ile Mekke'deki mallarını bırakıp tamamen yoksul durumda kalan Müslümanlar, Medine'deki din kardeşlerinin yardımıyla rahat bir nefes almışlardır. Medineli Müslümanlar, evlerine, tarlalarına, paralarına muhacirleri ortak etmişlerdir. Hz. Peygamberin, Medine'ye geldiğinde yaptığı ilk işlerden biri Muhacirlerle Ensar arasında kurduğu bu bağ olmuştur.

Bu uygulamanın öncelikle aşağıdakilerden hangisini hedeflediği söylenebilir?

A) Müşriklere karşı güç kazanmayı
B) Müslümanlar arasındaki birlik ve beraberliği güçlendirmeyi
C) Yahudilerin Medine'nin yönetiminde söz sahibi olmalarını engellemeyi
D) Müslümanların içindeki korku ve ümitsizliği ortadan kaldırmayı
E) Medine'de savaşa hazır bir ortam oluşturmayı

BİLGİ SARMAL

Bu testte sırasıyla, Tarih (1 – 5), Coğrafya (6 – 10), Felsefe (11 – 15), Din Kültürü ve Ahlak Bilgisi (16 – 20) dersi olmak üzere toplam 20 soru vardır.

1. Attila, 447 yılında Doğu Roma'nın barış şartlarına yine uymaması üzerine II. Balkan Seferi'ne çıkmış ve Doğu Roma'yla Anatolios Antlaşması'nı imzalamıştır. Doğu Roma'nın ödemesi gereken verginin artırıldığı bu antlaşma ile Doğu Roma, Avrupa Hunları için tehdit olmaktan çıkmıştır.

Bu gelişmenin ardından Avrupa Hunları;

I. Batı Roma İmparatorluğu üzerine yönelmek,
II. sınırlarını batı yönünde genişletmek,
III. İstanbul'u ele geçirmek

politikalarından hangilerini gerçekleştirmeye çalışmışlardır?

A) Yalnız I B) Yalnız II C) Yalnız III
D) I ve II E) II ve III

2. Büyük Selçuklu Devleti hükümdarı Alparslan'ı durdurmak için sefere çıkan Romanos Diogenes, Sivas'a ulaştığında beklemediği bir tepkiyle karşılaşır. Şehirde bulunan Ermeniler, Türklerden yana tavır sergilediği için imparator buna çok sinirlenir ve sefer dönüşünde Ermeni mezhebini kaldıracağına dair yemin eder.

Ermeni Tarihçi Urfalı Mateos'un vakayinamesinde naklettiği bu bilgilere göre,

I. Selçukluların Anadolu hâkimiyeti kesinleşmiştir.
II. Anadolu'da mezhep birliği yoktur.
III. Bizans'ın Anadolu'daki meşruiyeti tehlikededir.

yargılardan hangilerine ulaşılabilir?

A) Yalnız I B) Yalnız II C) Yalnız III
D) I ve III E) II ve III

3.



Kasr-ı Şirin Antlaşması (1639) sonrası Osmanlı Devleti'nin sınırları

Haritada verilenler dikkate alındığında Osmanlı Devleti için aşağıdakilerden hangisi söylenebilir?

A) Hint Okyanusu ve Kızıldeniz'deki ticari faaliyetlerde etkili olduğu
B) Günümüz Türkiye-İran sınırlarının belirlenmesine katkı sağladığı
C) Safevi Devleti'nin Hazar Denizi ile bağlantısını kestiği
D) İpek ve Baharat yollarının kontrolünü kaybettiği
E) XVII. yüzyılda yapılan savaşları kaybettiği

BİLGİ SARMAL

4.



Diyagramda boş bırakılan yere aşağıdakilerden hangisinin getirilmesi tarihsel sıralama açısından daha uygun olur?

A) Millî cemiyetlerin
B) Düzenli ordunun
C) İstiklal Mahkemelerinin
D) Yıldırım Orduları Grup Komutanlığı'nın
E) Harbiye Nezareti'nin

5. 1 Kasım 1922'de Saltanat kaldırılarak yeni yönetime "Türkiye Büyük Milet Meclisi Hükûmeti" adı verildikten sonra Mustafa Kemal, "Atılan adım bundan sonra atılması gereken adımların başlangıcıdır. İnsan, başlangıçta iken sona erdiğini iddia ederse, dünyanın en derin gafletleri içine kendisini kaptırmış görür. Biz daha çok adımlar atmak zorundayız. Bu adımlar hem çok seri hem de çok uzun olmalıdır." demiştir.

Atatürk bu sözüyle;

I. Cumhuriyet'in ilanı,
II. Halifeliğin kaldırılması,
III. Teşkilat-ı Esasiye'nin kabulü

inkılaplarından hangilerinin gerçekleşeceğinin ipuçlarını vermiştir?

A) Yalnız I B) Yalnız II C) I ve II
D) I ve III E) II ve III

6. Doğal sistemleri oluşturan temel ortamlardan biri olan atmosferin, yeryüzündeki canlı ve cansız unsurlar üzerinde çeşitli etkileri bulunmaktadır.

Buna göre,

I. Dünya'nın aşırı ısınmasını ve soğumasını sağlar.
II. Işığı, sesi ve sıcaklığı dağıtarak bunların iletilmesini sağlar.
III. Gök taşlarının yeryüzüne ulaşmasını büyük oranda engeller.

ifadelerinden hangileri bu etkilere örnek gösterilemez?

A) Yalnız I B) I ve II C) I ve III
D) II ve III E) I, II ve III

7. **Aşağıda mutlak konumları verilmiş beş ülkenin, göreceli konumları birbirine benzer olduğuna göre, bu ülkelerin hangisinde iklim çeşitliliği en fazladır?**

A) 5° 15° 20° 0° 20°
B) 35° 45° 65° 0°
C) 70° 80° 40° 30°
D) 120° 150° 15° 0° 30°
E) 120° 100° 0° 40°

BİLGİ SARMAL

8. Sürekliliğine göre göçler, geçici ve kalıcı göçler olmak üzere iki farklı şekilde gerçekleşir. Kalıcı göçler, yaşanılan yerin geri dönmemek üzere terk edilmesi şeklindedir. Geçici göçlerde ise yaşanılan yer yılın belli bir bölümünde terk edilir, sonra geri dönülür.

Buna göre, aşağıdaki ekonomik faaliyetlerin hangisine bağlı olarak kalıcı göçlerin daha çok yaşandığı söylenir?

A) Hayvancılık
B) Tarım
C) İnşaat
D) Sanayi
E) Turizm

9.

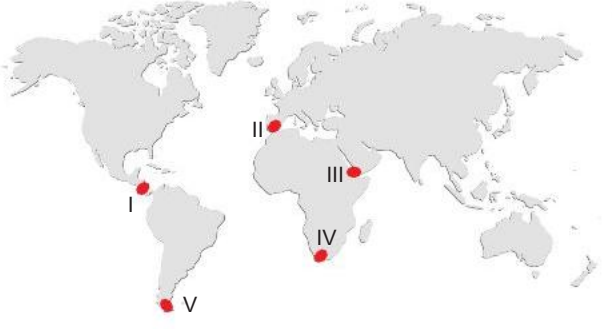

Süveyş Kanalı'nın açılması ile önemini kaybeden su yolu haritada işaretli alanların hangisinde gösterilmiştir?

A) I B) II C) III D) IV E) V

10. İnsanlar, ihtiyaç ve istekleri doğrultusunda doğal çevreyi kullanır.



Buna göre, yukarıdaki görselde insanlar hangi doğal ortamları kullanmaktadır?

A) Litosfer – biyosfer
B) Hidrosfer – litosfer
C) Biyosfer – hidrosfer
D) Hidrosfer – atmosfer
E) Atmosfer – litosfer

11. İnsanın davranışları ilahi bir güç tarafından önceden tayin edilmiştir. İnsan, bu güç tarafından izah edilemez bir tarzda davranışta bulunmaya sürüklenmektedir. İnsan ne kadar çabalasa da olacak bir şeyin önüne geçemez.

Bu parçadaki görüşler;

I. Determinizm
II. Fatalizm
III. İndeterminizm

yaklaşımlarından hangisine aittir?

A) II ve III B) I ve III C) Yalnız III D) Yalnız II E) Yalnız I

BİLGİ SARMAL

12. Orta Çağ Batı Avrupa'sında veba ortalığı kırıp geçirirken insanlar bunun nedenini suya bağlamışlardır. Suyun derinin gözenekleri açıp vücuda sızdığını, mikroplara yol açtığını ileri sürmüşlerdir. Bu yanlış inanç veya bilgi yüzünden insanlar temizlikten korkar olmuştur. Hamamlar kapatılıp yıkanma yasaklanmış, insan aklının, temizliğin olumlu etkisini ve yıkanmanın hastalığın nedeni değil, çaresi olduğunu kavraması ancak 19. yüzyılda gerçekleşmiştir.

Parçadan çıkarılabilecek sonuç aşağıdakilerden hangisidir?

A) Bilgilerin niteliği ve düzeyi arasında anlamlı bir ilişki bulunur.

B) Bilimin gelişimi hastalıkların tedavisinin önünü açar.

C) Yaşamda karşılaşılan güçlüklere bakış ile sahip olunan bilgi düzeyi arasında ilişki vardır.

D) Çağın ve içinde yaşanılan toplumun bilgi birikimi önceki yıllardan etkilenir.

E) Uygulamaya dönüşmeyen bilgi, teoride kaldığı sürece anlamsızdır.

13. Felsefeye giden yol, insanın kendisiyle konuşmasıyla, kendisine sorular sormasıyla başlar. Ancak bu yolu genişleten ve ileriye doğru adımlar atmamızı sağlayan şey, öteki insanlarla kurduğumuz diyalog ve iletişimdir. Diyaloğun olmadığı yerde felsefe barınamaz. Bu nedenle düşünen insan, özgür bir ortama, düşüncelerini korkusuzca dile getirip paylaşabileceği bir sosyal zemine ihtiyaç duyar. Düşünce ve ifade özgürlüğü bakımından problemli ülkelerde, insanların felsefeye uzak kalmaları, felsefeyle ilgilenmekten kaçınmaları anlaşılabilir bir durumdur.

Bu parçada felsefenin gelişimine etki eden hangi unsurdan söz edilmiştir?

A) Mitolojinin yaygınlaşması

B) Ekonomik zenginliğin olması

C) Meraklı insanların varlığı

D) Bilimsel gelişmelerin artması

E) Elverişli toplumsal koşullar

14. İnsan doğası kavrayışına göre insan, geçmişten itibaren getirdiği bazı doğal özelliklere sahiptir. İnsan doğasının en temel özelliği özgür olmak ve kendisini özgürce ifade edebilmektir. 18. yy düşünürleri genellikle insan doğasına uygun bir doğa durumuna atıf yaparlar ve toplumun bu iyi insan doğası ile çeliştiğini ve onu bozduğunu savunurlar. Toplum, bireyin kendisini özgürce ifade edebilmesini engellemektedir.

Bu parçada savunulan düşünce aşağıdakilerden hangisidir?

A) İnsan doğasındaki olumsuzluklar otorite altında giderilebilir.

B) Toplumsal yaşam insan doğasının devamıdır.

C) İnsanın özgürlüklerinin güvencesi toplumsal yaşamdır.

D) İnsan özgür doğar; toplum onun özgürlüğünü kısıtlar.

E) Sınırsız özgürlük anlayışı kaosa neden olur.

15. Gök cisimlerinin kütleleri ile doğru, aralarındaki uzaklığın karesi ile ters orantılı olarak birbirlerini ittikleri veya çektiklerine ilişkin Newton'un evrensel çekim yasası, fizik biliminin veya astronominin alanı içinde ele alınması gereken, olguya ilişkin bir bilgidir. Ama bu bilgi, bizzat Newton veya bir başkası tarafından, evreni matematiksel bir biçimde ve belli bir plana göre düzenli ve uyumlu olarak yaratan akıllı bir Tanrı'nın varlıktaki damgasından haber veren, onun bir işareti, bir ayeti olan şey olarak yorumlandığında artık bilgi olmaktan daha fazla bir şey, bir bilgelik olur.

Buna göre bilgelik aşağıdakilerden hangisini gerektirir?

A) Argümantasyon yapmayı

B) Tutarlı olmayı

C) Günlük yaşama dönük bilgiler üretmeyi

D) Görüş geliştirmeyi

E) Olgusal bilgileri ortaya koymayı

BİLGİ SARMAL

16. Hz. Muhammed'in (s.a.v.) tebliğ görevi zaman ve mekân sınırı olmaksızın tüm insanlığı kapsamaktadır. Dine davet sürecinin genellikle yaşını almış kimseler tarafından kabul edildiği düşüncesi doğruyu yansıtmamaktadır. Bu durumun tam aksine İslam'ı kabul edilenlerin önemli bir kısmı gençlerden meydana gelmiştir. Allah Rasulü de gençlere dinin yayılma sürecinde ayrı bir değer vermiş ve onlara daima önemli olduklarını hissettirmiştir. Hz. Muhammed'in (s.a.v.) gençlere verdiği çeşitli görevler bunun en güzel göstergesidir.

Aşağıdakilerden hangisi bu parçada anlatılmak istenene örnek gösterilmez?

A) Vahiy kâtiplerinin genellikle genç sahabelerden seçilmesi

B) Muaz b. Cebel'in 21 yaşında iken yönetici olarak Yemen'e tayin edilmesi

C) 25 yaşında olan Mus'ab b. Umeyr'in Medine'ye öğretmen olarak gönderilmesi

D) Genç yaşta Hılfu'l-fudûl'a katılan Hz. Muhammed'in zalimlerle mücadele etmesi

E) Rumlarla savaşacak ordunun başına 18 yaşında olan Üsame b. Zeyd'in getirilmesi

17. Kur'an-ı Kerim'de sık geçen bazı temel kavramlar vardır. Bunları bilmemiz ve öğrenmemiz çok önemlidir. Çünkü bu kavramlar, Kur'an'ı doğru anlamamız ve İslam'ı hakkıyla yaşayabilmemiz açısından büyük önem taşımaktadır. Kur'an'ı okumadan, onun içinde sık geçen bazı kavramları doğru anlamadan İslam'ı gereği gibi anlamamız ve dinimizin ilkelerini hayata geçirmemiz mümkün olmaz.

Buna göre İslam'ı yaşamak isteyen bir Müslüman'ın aşağıdaki ilkelerden hangisini benimsememesi gerekir?

A) Sırat-ı müstakim üzere olmak

B) İhlaslı olmak

C) Riyakar olmak

D) Takva sahibi olmak

E) Hidayete ermeye çalışmak

BİLGİ SARMAL

18. İbadetler insana bilinç kazandırır. İbadetlerini yerine getiren insan bu bilinçle hareket eder. Örneğin beş vakit namaz kılan Müslüman zamanı planlar ve onu verimli kullanmayı öğrenir. Böylece Allah'a (c.c.), ailesine ve topluma karşı görevlerini vaktinde yerine getir. Zekât ve sadaka ibadeti sayesinde başkalarının derdiyle dertlenmeyi, bollukta da darlıkta da ihtiyaç sahiplerini gözetmeyi öğrenmiş olur. Hac ve kurban ibadeti de birlikte hareket etme ve sosyal yardımlaşma duygusunun gelişmesine katkı sağlar.

Bu parça en genel ifadeyle ibadetlerin insana kazandırdığı kavramlardan hangisine örnek gösterilebilir?

A) Adalet B) Sabır C) Sorumluluk

D) Tevazu E) Samimiyet

19. Peygamberimiz (sav) ve dört halife dönemlerinde meydana gelen bazı olayların farklı şekillerde algılanması ve yorumlanması Müslümanlar arasında çeşitli mezheplerin ortaya çıkmasında etkili olmuştur. Örneğin Hz. Peygamber'in vefatından sonra kimin halife olacağıyla ilgili tartışmalar, ileri sürülen görüşler ve her görüşün kendisini ayet ve hadislerle delillendirmeye çalışması birçok mezhebi ortaya çıkarmıştır. Hz. Ali (r.a.) ile Hz. Aişe (r.a.) arasında meydana gelen Cemel Vakası ile Hz. Ali (r.a.) ve Muaviye b. Ebû Süfyan arasında meydana gelen Sıffın Savaşı; Haricilik ve Şiilik gibi ekollerin ortaya çıkmasında etkili olmuştur.

Bu parçada İslam düşüncesindeki yorum farklılıklarının ortaya çıkmasında aşağıdakilerden hangisinin etkisi üzerinde durulmaktadır?

A) İtikadi sebeplerin B) Müteşbih ayetlerin

C) Kültürel farklılıkların D) Siyasi olayların

E) Coğrafi yapının

20. Müslümanların inanç, ibadet ve ahlak başta olmak üzere hayatlarının her alanında kendilerine rehber edinmeleri gereken en güzel model Hz. Muhammed'dir (s.a.v.). Zira o, Yüce Allah'ın (c.c.) kullarına sunduğu son fırsattır. Önceki peygamberlerle gönderdiği ilahi mesajlardan her seferinde yüz çevirmiş, hidayetten ayrılmış kullarından sonsuz merhametiyle vazgeçmeyen Allah (c.c.), üstün bir ahlaka sahip olan Hz. Muhammed (s.a.v.) ile onları tekrar doğru yola çağırmıştır. Elçilik vazifesi öncesinde dahi yaşadığı toplum tarafından övülen ve güvenilen Hz. Peygamber, ilahi mesajları olduğu gibi insanlara anlatmış ve onları kurtuluşa çağırmıştır.

Bu parçada Hz. Muhammed ile ilgili;

I. Üsve-i hasene,

II. Hatemü'n nebiyyin,

III. Muhammedü'l emin

kavramlarından hangilerine değinilmiştir?

A) I ve II B) I ve III C) II ve III

D) Yalnız III E) I, II ve III

BİLGİ SARMAL

Bu testte sırasıyla, Tarih (1 – 5), Coğrafya (6 – 10), Felsefe (11 – 15), Din Kültürü ve Ahlak Bilgisi (16 – 20) dersi olmak üzere toplam 20 soru vardır.

1. İslamiyet'in kabulü ve şehir hayatının gelişmesiyle birlikte Türkler, yeni toplumsal kurumlar tesis ettiler. Bu kurumların başında fütüvvet teşkilatı geliyordu. Abbasi Halifesi Nasır tarafından kurulan bu teşkilatın temel amacı esnaf ve zanaatkârlar arasında dayanışmayı sağlamaktı. Türklerin ahilik teşkilatı şeklinde isimlendirdiği bu müessesede yer alan ahiler yiğitlik, cömertlik, dürüstlük, alçak gönüllülük ve nefsine hâkim olma gibi erdemlere önem vererek topluma örnek olurlardı.

Bu bilgilere göre aşağıdaki yargılardan hangisine ulaşılabilir?

A) Ahilik teşkilatı, Türklerin kültürlerinden uzaklaşmasına neden olmuştur.

B) İslam medeniyeti, Türklerin sosyal ve ekonomik hayatının şekillenmesine katkı sağlamıştır.

C) Türklerde ticari faaliyetler, İslamiyet'le tanışmalarından sonra başlamıştır.

D) Türk İslam devletleri ahilik teşkilatının faaliyetlerinde etkin rol oynamışlardır.

E) Ahilik teşkilatı, gayrimüslim esnafların etkin katılımı ile faaliyetlerini yürütmüştür.

2. Osmanlı Devleti Karlofça Antlaşması ile ilk defa yabancı devletlerin (İngiltere ve Hollanda) ara buluculuğunu kabul etmek zorunda kalmıştır. Bu kabullenme bir zamanlar hiçbir devleti kendisi ile eşit görmeyen Osmanlı için önemli bir itibar kaybıdır. Aynı zamanda ilk büyük toprak kaybının da yaşandığı Karlofça Antlaşması ile Osmanlı Devleti, bir daha toparlanamayacağı uzun bir savunma dönemine girmiştir. Diplomatik açıdan da güç ve itibar kaybeden Osmanlı Devleti, Karlofça'da ilk kez müzakere yoluyla bir antlaşma imzalamak zorunda kalmıştır. Oysa daha önceki dönemlerde diplomaside üstün olan Osmanlı, sürekli olarak kendi şartlarını kabul ettirip antlaşmalarda belirleyici taraf olmuştu.

Buna göre Osmanlı Devleti ile ilgili;

I. egemenlik alanının daraldığı,

II. yenilmez devlet imajının sarsıldığı,

III. uluslararası alanda yaptırım gücünün azaldığı

yorumlarından hangileri yapılabilir?

A) Yalnız I B) Yalnız II C) Yalnız III

D) I ve II E) I, II ve III

3. Yusuf Akçura, Türk siyasi hayatında "Üç Tarz-ı Siyaset" adlı makalesiyle meşhur olmuştur. 1904 yılında Mısır'da "Türk" isimli gazetede yayımlanan bu makalede Osmanlıcılık, İslamcılık ve Türkçülük olarak adlandırdığı üç ana düşünceyi incelemiştir.

Yusuf Akçura'nın ortaya attığı bu üç düşüncenin ortak amacı aşağıdakilerden hangisidir?

A) Modern askerî birlikler oluşturmak

B) Ülke ekonomisini canlandırmak

C) Batılı tarzda eğitim sistemi oluşturmak

D) Osmanlı Devleti'ni dağılmaktan kurtarmak

E) Azınlıkların ülke yönetimindeki etkisini arttırmak

4. Mustafa Kemal, 1 Mart 1922'de TBMM'de yaptığı konuşmasında;

- yüce görevleri yürütecek elemanlar yetiştirilmeli ve millî kültürümüz yüceltilmeli,
- ilköğretim ve son öğretim aşamaları arasında, orta öğretim kurumları oluşturulmalı,
- kadınların da erkeklerle aynı öğretim aşamalarından geçirilerek yetişmelerine önem verilmeli demiştir.

Mustafa Kemal'in bu sözleri doğrultusunda;

I. Tevhid-i Tedrisat Kanunu'nun çıkarılması,

II. Türk Tarih Kurumunun kurulması,

III. Takrir-i Sükûn Kanunu'nun çıkarılması

gelişmelerinden hangilerinin yaşandığı söylenemez?

A) Yalnız I B) Yalnız II C) Yalnız III

D) I ve II E) II ve III

5. Terakkiperver Cumhuriyet Fırkası, kendiliğinden gelişmiş, iktidarın istemediği, gerçek bir muhalefet partisi olarak kurulmuşken; Serbest Cumhuriyet Fırkası, her ne kadar halk desteği görmüşse de mevcut yönetimin desteği ile oluşturulan yapay bir "iktidarı denetleme partisi" olarak ortaya çıkmıştır.

Bu ifadeleri kullanan bir tarihçi aşağıdakilerden hangisini görüşlerine kanıt olarak gösterebilir?

A) Mustafa Kemal'in Fethi Bey'den yeni bir parti kurmasını istemesi

B) Terakkiperver Cumhuriyet Fırkası'nın Millî Mücadele'nin önemli isimleri tarafından kurulması

C) Serbest Cumhuriyet Fırkası'nın demokratik esasları savunması

D) Menemen İsyanı öncesinde Serbest Cumhuriyet Fırkası'nın kapanması

E) Terakkiperver Cumhuriyet Fırkası'nın liberalizm ilkesini benimsemesi

6.

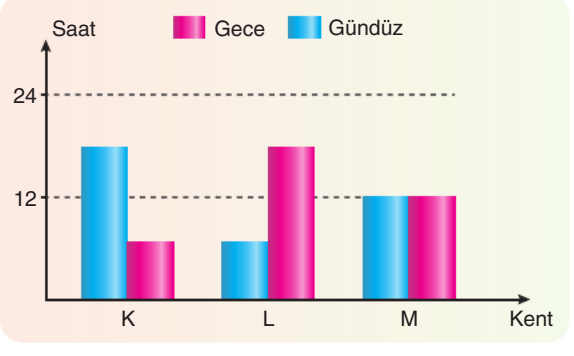

Yukarıdaki grafikte üç kentte 21 Haziran günü yaşanan gündüz ve gece süreleri gösterilmiştir.

Buna göre kentlerle ilgili olarak,

I. K kenti kuzey, L ise Güney Yarım Küre'dedir.

II. K ve L kentlerinin Ekvator'a kuş uçuşu uzaklıkları aynıdır.

III. M kenti Kuzey Kutup Dairesi'ne diğer iki kentten daha yakındır.

IV. Üç kentte dönenceler arasında yer alır.

yorumlarından hangileri doğrudur?

A) I ve II B) I ve III C) II ve III D) II ve IV E) III ve IV

7.

- Kurak yarı kurak bölgelerde: Rüzgâr
- Okyanus kıyılarında: Gelgit
- Karstik arazilerde: Yer altı suları

Yukarıda bazı dış kuvvetlerin etkili olduğu alanlar verilmiştir.

Buna göre aşağıdaki yer şekillerinden hangisi verilen dış kuvvetler tarafından oluşturulmamıştır?

A) Barkan

B) Peribacası

C) Haliç

D) Traverten

E) Hamada

8. Aşağıdaki tabloda, çalışan nüfusun ekonomik faaliyet kollarına göre üç ülkedeki dağılımı verilmiştir.

Ülke	Tarım (%)	Sanayi (%)	Hizmet (%)
X	60	12	28
Y	3	27	70
Z	10	30	60

Yalnızca tablodaki bilgiler dikkate alındığında bu ülkelerle ilgili olarak aşağıdakilerden hangisine kesin olarak ulaşılabilir?

A) Üç ülkenin de dış satım gelirleri, dış alım giderlerine göre daha azdır.

B) Z ülkesinin birincil ekonomik faaliyetten elde ettiği gelir, diğer ekonomik faaliyet kollarından daha fazladır.

C) Y ülkesinin dış satımlarında ham maddeler, dış alımların da ise sanayi ürünleri önemli yer tutar.

D) X ülkesinde aktif nüfusun yarıdan çoğu, birincil ekonomik faaliyet kolunda çalışmaktadır.

E) X ülkesinde üçüncül, Y ülkesinde ikincil, Z ülkesinde ise, birincil ekonomik faaliyette çalışanlar en fazladır.

BİLGİ SARMAL

9. Aşağıdaki haritada bazı bölgeler numaralandırılarak koyu renkle gösterilmiştir.



Bu bölgelerin hangisi;

- endüstri bölgesi,
- yoğun nüfuslu bölge,
- Akdeniz iklim bölgesi

özelliklerinden üçüne de sahiptir?

A) I B) II C) III D) IV E) V

10. Genellikle eğimli yamaçlarda tabakalar hâlinde birikmiş olan kar kütlesinin çeşitli etmenlerle aşağıya doğru hızla kayması sonucu çığ olayı gerçekleşir.

Bu afetten korunabilmek için;

I. riskli yamaçları ağaçlandırma,

II. çığın yönünü değiştirmeye yarayan bariyer, duvar ve çığ tünelleri inşa etme,

III. bölge insanını çığ konusunda bilinçlendirme

çalışmalarından hangileri yapılmalıdır?

A) Yalnız I B) I ve II C) I ve III
D) II ve III E) I, II ve III

11. İnsanın varlığını yeniden üretebilmesi ve çoğaltabilmesi için etkin olarak dış dünyaya müdahale etmesi gerekmektedir. İnsan, dış gerçekliği kendi yararı doğrultusunda etkilemektedir. Ancak bu eylemliliğin içinde diyalektik olarak kendisi de dış dünyadan etkilenmekte ve biçimlenmektedir. Dolayısıyla insan dış gerçekliği etkileyip onu biçimlendirirken kendi kendisini de oluşturmaktadır.

Parçadaki bu görüşlerden aşağıdaki yargılardan hangisine ulaşılamaz?

A) İnsan kendini geliştirebilen bir varlıktır.

B) İnsan etkileyen ve etkilenen bir varlıktır.

C) İnsan yaşamda kendi eylemlerinin belirleyicisi olmalıdır.

D) İnsan dış dünyadan soyutlanamaz.

E) İnsanlar kaderlerini yaşarlar.

12. Olgular üzerinde yapılan gözlemler sonucunda varlığı ortaya konulan problemin çözümü için bir öneride bulunulması varsayım oluşturulması aşamasını oluşturur. Bir varsayım ne kadar ilgi çekici olursa olsun doğrulanmıyorsa terk edilir. Olgularla desteklenen varsayımlardan kuram düzeyine ulaşılır.

Bu parçada aşağıdaki süreçlerden hangisinin önemi vurgulanmaktadır?

A) Araştırmanın her aşamasında tarafsız olunması

B) Önceki bilgi birikiminden yararlanılması

C) Araştırma alanının sınırlarının çizilmesi

D) İleri sürülen iddiaların kanıtlarla desteklenmesi

E) Elde edilen sonuçların basit ve açık olarak ifade edilmesi

BİLGİ SARMAL

13. Birey ne kadar kendini aşar, kendi üstündeki değerlere bağlanırsa o kadar ahlaklı olur. Bu durum bireysel istencin toplumsal sistem ile bütünleştirilmesi ile olanaklıdır. Tek başına bir organ, bedensel bütünlüğün dışında nasıl hiçbir anlam taşımazsa insan da toplumun dışında böyledir. Örneğin göz ya da kalp, onları bütünleştiren ve aynı doğrultuda işleten organizma içinde anlamlıdır.

Bu parçadan aşağıdaki yargılardan hangisine ulaşılabilir?

A) İnsan doğasını bozan her türlü düzenleme gereksizdir.
B) Bireyin yaşamına değer ve anlam kazandıran toplumdur.
C) İnsan bireysel çıkarlarını doyurduğu oranda kendini var eder.
D) Toplumsal düzeni korumak birey için bir görevdir.
E) İnsan yaşamı için değerli olan toplum için de değerlidir.

14. Scheiner Güneş lekelerini Galile'den önce bulduğu hâlde keşif şerefinin Galile'ye verilmiş olmasından şikayet edip dururken, kendisini teselliye çalışan birinden aldığı cevap şu olmuştur: "Arkadaşım, boşuna üzülüyorsun. Ben Aristo'nun eserlerini defalarca okudum; böyle lekelerden hiç bahsetmiyor. Teleskopundaki mercekleri değiştir. Çünkü kusur onlardadır. Evren, Aristo üstadımızın söylediği gibi kusursuz ve lekesizdir."

Bu parçada aşağıdaki düşünüş şekillerinden hangisi örneklendirilmiştir?

A) Eleştirel düşünüş
B) Dogmatik düşünüş
C) Tümevarımsal düşünüş
D) Tümengelimsel düşünüş
E) Bilimsel düşünüş

15. Felsefe, hemen her soru ve kavram üzerinde ya da insanın varoluş hâlleri üzerinde hep yeniden düşünmeyi gerektiren bir bakış açısı sağlamaktadır. Çünkü felsefe sorularının nihai, kesin ve tamamlanmış bir yanıtı olmadığından, bu sorular, sürekli biçimde ve yeniden ele alınmayı gerektirir.

Bu durum felsefenin hangi özelliğini ortaya çıkarır?

A) Tutarlı olması
B) Refleksif olması
C) Sistemli olması
D) Evrensel olması
E) Birikimli olarak ilerlemesi

16. Sözlükte âdet, karakter, tavır gibi manalara gelen sünnet kavramı terim olarak, Hz. Peygamberin söz, fiil ve takrirlerini içeren örnek davranışlarını ifade eder. Hz. Muhammed'in (s.a.v.) sözleri anlamına gelen hadis kelimesi de sünnet kelimesi ile eş anlamlı olarak kullanılan bir terimdir. Sünnet; kavlî, fiilî ve takrirî olmak üzere üç kısımda ele alınır. O hayattayken bazı sahabiler; onun sözlerini ve uygulamalarını özenle takip etmişler, ezberlemişler ve başkalarına aktarmışlardır. Ancak savaşlarda sahabilerin şehit olması gibi çeşitli sebeplerle gün geçtikçe sahabi sayısının azalması, uydurma hadis problemlerinin başlamasına; bu da hadislerin toplanılmasının ve kaydedilmesinin gerekli hâle gelmesine yol açmıştır.

Bu metinde hadis ile ilgili aşağıdakilerin hangisine <u>değinilmemiştir</u>?

A) Sahte olanlarının ortaya çıktığına
B) Dinin ikinci temel kaynağı olduğuna
C) Sünnetle aynı manada kullanıldığına
D) Yazıya geçirilmesinin bazı nedenlerine
E) Ashab tarafından büyük önem verildiğine

BİLGİ SARMAL

17. "Helâl apaçık belli, haram da apaçık bellidir. Bunların arasında, halktan birçoğunun helâl mi haram mı olduğunu bilmediği şüpheli şeyler vardır. Dinini ve namusunu korumak için bunları yapmayan kurtuluştadır. Bunlardan bazısını yapan kimse ise haram işlemeye çok yaklaşmış olur. Nitekim korunun etrafında hayvanlarını otlatan kimse de koruya dalma tehlikesi ile burun buruna gelmiş olur. Dikkat ederseniz her hükümdarın bir korusu vardır. Allah'ın korusu da haram kıldığı şeylerdir."

(Buharî, Büyû, 2.)

Bu hadisten aşağıdakilerden hangisine ulaşılamaz?

A) Bazı iş ve davranışların hükmü, insanlar tarafından kesin olarak bilinmemektedir.

B) Helâl ve haramlar kesin ve açık delillerle belirlenmiştir.

C) Harama götürebilecek davranışlardan uzak durulmalıdır.

D) Toplumsal hayatta helâl olan şeyler haram olanlardan daha fazladır.

E) Helâle yaklaşıp haramdan sakınmak dini korumanın gereğidir.

18.

- "Onlar (takva sahipleri) bollukta da darlıkta da Allah yolunda harcarlar, öfkelerini yenerler, insanları affederler. Allah işini güzel yapanları sever."

(Âl-i İmrân; 134)

- "Ey iman edenler! Allah için … adaletle şahitlik eden kimseler olun. Herhangi bir topluluğa duyduğunuz kin, sizi adaletsiz davranmaya itmesin. Adaletli olun; bu, takvaya daha uygundur. Allah'tan korkun. Şüphesiz Allah yaptıklarınızdan haberdardır."

(Mâide; 8)

Bu ayetlerde takva sahiplerinin aşağıdaki özelliklerinin hangisinden söz edilmemiştir?

A) İnfak

B) Sabır

C) Adalet

D) Cesaret

E) Merhamet

19. Allah'ın rahmeti sayesinde sen onlara karşı yumuşak davrandın. Eğer kaba, katı yürekli olsaydın, onlar senin etrafından dağılıp giderlerdi. Artık sen onları affet. Onlar için Allah'tan bağışlama dile. İş konusunda onlarla müşavere et. Bir kere de karar verip azmettin mi, artık Allah'a dayanıp güven. Şüphesiz Allah, kendisine güvenenleri sever.

(Âl-i İmrân; 159)

Bu ayet aşağıdaki kavramlardan hangisiyle ilişkilendirilemez?

A) Merhamet

B) Tevekkül

C) İstişare

D) Tevazu

E) Doğruluk

20. Gençler, içinde bulundukları gelişim döneminin özellikleri sebebiyle mevcut sosyokültürel yapıyı, değerleri tenkit etmeye ve sorgulamaya meyilli olurlar. Örneğin, Ashab-ı Kehf, putperest bir kavmin içinde olmalarına rağmen Allah'ın (c.c.) varlığına ve birliğine inanmış, bu inançlarını açıkça dile getirerek içinde bulundukları topluma karşı çıkmışlardır. İnançlarından ötürü taşlanarak öldürülmekten veya dinlerini zorla değiştirmekten kurtulmak için de mağaraya sığınmışlardır. Kur'an-ı Kerim'de bu gençlerin Allah'a (c.c.) iman konusunda toplumlarından farklı bir sağduyuya sahip olduklarına işaret edilmektedir. Bu yüzden Kur'an'da bu gençlerden "Rab'lerine inanmış gençler" şeklinde söz edilmektedir.

Bu parçadan hareketle;

I. İslam, düşünmeye ve araştırmaya önem vermektedir.

II. Toplumun değerlerini benimsemek kişiyi doğru yoldan çıkarır.

III. Sosyal değerlerin tamamı din kaynaklıdır.

yargılarından hangilerine ulaşılabilir?

A) Yalnız I B) I ve II C) I ve III

D) II ve III E) I, II ve III

BİLGİ SARMAL

Bu testte sırasıyla, Tarih (1 – 5), Coğrafya (6 – 10), Felsefe (11 – 15), Din Kültürü ve Ahlak Bilgisi (16 – 20) dersi olmak üzere toplam 20 soru vardır.

1. Haçlı Seferlerine karşı İslam dünyasını başarıyla savunan Selahaddin Eyyubi, 4 Mart 1193 tarihinde vefat etmiştir. Hüküm sürdüğü dönemde devletin sınırları Trablusgarp'tan Hemedan ve Ahlat'a, Yemen'den Malatya'ya kadar uzanmıştır. Eyyubi hükümdarları arasında sadece Selahaddin'e karşı isyan olmamıştır.

Bu bilgilere göre Selahaddin Eyyubi ile ilgili aşağıdakilerden hangisine ulaşılamaz?

A) Anadolu'nun bazı bölgelerine hâkim olduğuna
B) Baskıcı bir yönetim anlayışı izlediğine
C) Başarılı bir cihat politikası uyguladığına
D) Devlet içerisinde otoritesini güçlü tuttuğuna
E) İslam medeniyetinin korunmasına katkı sağladığına

2. "Şayet Bayezid'in davranışı olmasaydı, İspanya, Aragon, Portekiz ve Sicilya'dan sürülmüş olan Yahudilerin geri kalanları ve İsrail'in hatırası mahvolacaktı. Sultan Bayezid, İspanya kralının Yahudilere yapmış olduğu kötülüğü ve onların ayak basacak yer aradıklarını işiterek, merhamete geldi. Vilayetlere yazdığı mektupta, yüksek memurlardan hiçbirinin Yahudileri ortadan kaldırmak veya sürmek gibi bir işe başlamamalarını ve onları namusu gibi kabul etmelerini istedi. Kanunu dinlemeyenlerin ise idam edileceklerini emretti."

1492 tarihinde Osmanlı topraklarına göç eden bir Yahudi'nin bu ifadelerinin Osmanlı Devleti'ndeki;

I. çifthane,
II. devşirme,
III. hoşgörü

politikalarından hangilerine örnek oluşturduğu söylenebilir?

A) Yalnız I B) Yalnız II C) Yalnız III
D) I ve III E) II ve III

3. Siyasi bir kavram olarak "konjonktürel ittifak"; devletler arası ilişkilerde, değişen şartları gözönüne alarak pozisyon almak ve bu yeni şartlar çerçevesinde karşılıklı çıkarlara dayalı ittifak kurmak olarak tanımlanabilir.

Bu bilgi dikkate alındığında;

I. Katolik olan Fransa'nın, Otuz Yıl Savaşları'nda Protestan devletlerle iş birliği yapması,
II. 1768-1774 Osmanlı-Rus Savaşı'nda, İngilizlerin de desteğiyle Rus donanmasının Akdeniz'e açılması ve 1770 tarihinde Çeşme Limanı'nda Osmanlı donanmasını imha etmesi,
III. Kırım Savaşı'nda, İngiltere ve Fransa'nın Rusya'ya karşı Osmanlı Devleti'nin yanında savaşa katılması

gelişmelerinden hangilerinin konjonktürel ittifak tanımına uygun olduğu söylenebilir?

A) Yalnız I B) Yalnız II C) Yalnız III
D) I ve II E) I, II ve III

BİLGİ SARMAL

Diğer Sayfaya Geçiniz.

4.

"Fenler evi" manasına gelen "Darülfünûn", 20 Şubat 1870'de İstanbul'da açılan, Batılı anlamda ilk yükseköğretim kurumudur.

1911'de Selanik'te çıkarılan "Genç Kalemler" dergisi, Türkçenin sadeleştirilmesi konusunda bir çalışma başlatmıştır.

XIX. yüzyıldan itibaren Arap harflerine dayalı yazının değişmesi ya da yeniden düzenlenmesi konusunda dönemin aydınları arasında önemli tartışmalar yaşanmıştır.

Tabloda yer alan bu gelişmelerin etkileri ile ilgili en doğru değerlendirme aşağıdakilerden hangisinde verilmiştir?

A) Atatürk Devri'ndeki bazı inkılapların temelleri Osmanlı son dönemlerinde atılmıştır.

B) İttihat ve Terakki eğitim alanında bazı uygulamaları hayata geçirmiştir.

C) Osmanlı yönetimi Batı'nın baskısıyla ıslahatlar yapma ihtiyacı duymuştur.

D) Osmanlı Devleti Türkçülük fikri doğrultusunda politikalarına yön vermiştir.

E) Türk tarihinde eğitim alanındaki ilk yenilikler Tanzimat Dönemi'nde başlamıştır.

5. Cumhuriyet'in ilanı ile çözümlenen sorunlar konusunda sohbet eden bir grup öğrenci şunları konuşmaktadır.

I. öğrenci: "Rejimin adı konularak bu konudaki tartışmalara son verilmiştir."

II. öğrenci: "Meclis hükûmeti sisteminden kabine sistemine geçilmiştir."

III. öğrenci: "Cumhurbaşkanının seçilmesiyle devlet başkanlığı sorunu kesin olarak çözümlenmiştir."

IV. öğrenci: "Yapılacak inkılaplar için uygun bir ortam oluşturulmuştur."

V. öğrenci: "Devletin laikleşme aşaması tamamlanmıştır."

Buna göre öğrencilerden hangisinin ifadelerinin doğru olduğu söylenemez?

A) I B) II C) III D) IV E) V

6. Aşağıdaki haritada beş yer numaralandırılarak gösterilmiştir.

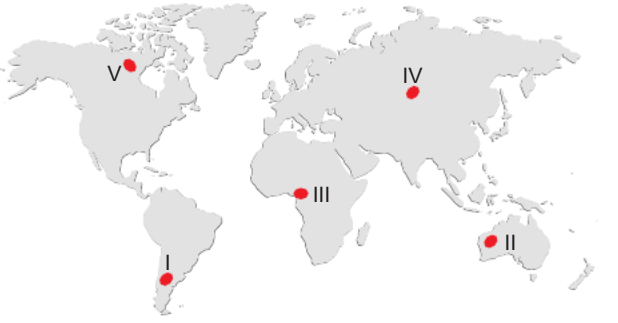

Bu yerlerle ilgili olarak aşağıdakilerden hangisi söylenemez?

A) I numaralı yerde 21 Aralık'ta gündüz süresi gece süresinden uzundur.

B) II numaralı yerde 21 Haziran'da gece süresi gündüz süresinden daha uzundur.

C) III numaralı yerde 21 Mart'ta gece ve gündüz süresi eşittir.

D) IV numaralı yerde 23 Eylül'de gündüz süresi gece süresinden daha uzundur.

E) V numaralı yerde 21 Haziran'da yaz gündönümü yaşanır.

7.

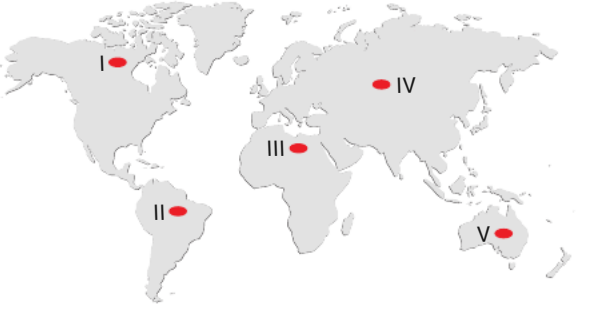

Yukarıdaki haritada numaralandırılarak gösterilen alanların hangisinde, toprak oluşumunu sağlayan kimyasal ayrışmanın daha hızlı gerçekleşmesi beklenir?

A) I B) II C) III D) IV E) V

BİLGİ SARMAL

8. Bir ülkenin istatistik kurumu tarafından yayımlanan raporunda, ülkenin yaş ortalamasının erkeklerde 84 yaş, kadınlarda 86 yaş olduğu belirtilmiştir.

Bu ülkenin nüfusuyla ilgili olarak aşağıdakilerden hangisi söylenebilir?

A) Doğum oranının yüksek olduğu
B) Yaşlı nüfus oranının düşük olduğu
C) Çocuk ölüm oranının yüksek olduğu
D) Eğitim seviyesinin düşük olduğu
E) Gelişmiş bir ülke olduğu

9.



Yukarıdaki haritada numaralarla gösterilen alanlardan hangisindeki su yolu, insan eliyle açılmıştır?

A) I B) II C) III D) IV E) V

10. Aşağıdaki haritada bazı alanlar numaralandırılarak gösterilmiştir.



Bu alanlarda meydana gelen doğal afetlerle ilgili aşağıdakilerden hangisi yanlıştır?

A) I numaralı alanda, yaz döneminde şiddetli kuraklık yaşanmaktadır.
B) II numaralı alanda büyük depremler oluşmaktadır.
C) III numaralı alanda, heyelanlar oluşmaktadır.
D) IV numaralı alanda, kış aylarında sel ve taşkın riski yüksektir.
E) V numaralı alanda, orman yangınları görülmektedir.

11. Yunan felsefesi belli bir coğrafyada yerleşmiş, üyeleri arasında ilişkilerin belli birtakım örf, adet ve yasalara göre düzenlendiği bir toplumun ya da halkın felsefesidir. Oysa Orta Çağ felsefesi bir dine inananların, bir peygamber etrafında toplananların bir felsefesi konumundadır.

Bu parçada Orta Çağ felsefesinin hangi yönünden söz edilmiştir?

A) Etki alanının geniş olmasından
B) Hukuk yasalarını önemsemesinden
C) Günlük yaşama yönelik olmasından
D) Konu alanının sınırlı olmasından
E) Teolojik karakterli olmasından

BİLGİ SARMAL

12. İnsan kendi özünü yaratmakla yükümlüdür. Bunun için kendini dünyaya atmalı ve orada acı ve umutsuzluk içinde mücadele etmeyi göze almalıdır. Bu mücadele yaşam boyu sürer ve insan adım adım kendini tanımlar. Ancak bu tanımlama süreci her zaman açık uçludur.

Düşünürün bu görüşlerinden aşağıdaki yargılardan hangisine ulaşılabilir?

A) İnsanın varoluşundan, kendisinden başka hiç kimse sorumlu değildir.
B) İnsanda öz, varoluştan önce gelir.
C) Toplumsal yaşam insanın özünü oluşturmasını engeller.
D) İnsan bir kez özünü oluşturduğunda onu değiştiremez.
E) İnsan, herkes için belirlenmiş öze ulaşmaya çalışır.

13. Akıl, bilgi kaynaklarından biri, insana verilmiş ilâhi bir emanettir. İnsanlar akılları sayesinde güzellik ve çirkinlikleri tanır, kendi üstünlüklerini onun sayesinde anlarlar. Kulun kusur işlemesi aklını kullanmayışı yüzündendir. Allah'ın emirleri akıllı olana hitap eder. Allah'ın emirlerini anlayacak akıl seviyesine sahip olmayanlar, ilâhi emirlerin dışında kalır, sorumlu olmazlar.

Maturidi ekolünün bu görüşlerinde tartışılan problem aşağıdakilerden hangisidir?

A) Arkhenin ne olduğu problemi
B) Ruhun ölümsüzlüğü problemi
C) Tanrı'nın varlığı problemi
D) İrade özgürlüğü problemi
E) Tümeller problemi

14. "Tanrı'm nasıl oluyor da seni arıyorum? Çünkü Tanrı'm seni aradığımda aslında mutlu yaşamı arıyorum. Ruhumun yaşaması için seni arayacağım. Çünkü bedenim ruhum sayesinde, ruhum da senin sayende yaşıyor. Herkesin mutluluğu aradığı doğru değil mi, peki biricik mutluluk olan sende mutluluklarını aramak istemeyenler, acaba gerçekten mutlu olmak istemiyorlar mı?"

Augustinus bu görüşlerinde aşağıdakilerden hangisini savunmuştur?

A) İnsan sınırlı bir varlık olduğundan mutlu olamayacaktır.
B) Mutluluk Tanrı'ya ulaşmakla olanaklıdır.
C) Her insan mutluluğa sonunda ulaşacaktır.
D) Kimlerin mutlu olacağını Tanrı belirler.
E) Tanrı ve evren farklı unsurlardır.

15. Her sanatçının kendine has bir görme biçimi bulunmaktadır ve sanatçı özel duyarlılığı sayesinde, kişisel görme biçiminin farkındalığını yüksek düzeyde yaşamaktadır. Görme biçimi, sanatçının kendini, insanları ve dünyayı hissetmesi ve düşünmesi, dünyayı anlayış tarzıdır. Sanatçının görme biçiminin farklılığı, genetiğinden ve içinde bulunduğu toplumsal yapıdan, yetişme şartlarından meydana gelebilir.

Bu parçada sanatçının hangi yönünden söz edilmiştir?

A) Toplumsal problemlere duyarlı olması
B) İyi bir eğitim almış olması
C) Farklı bir bakış açısı geliştirme gücünü taşıması
D) Sanat için sanat anlayışını benimsemesi
E) Herkes için güzel olanı yakalamayı amaçlaması

16. Mahlûkatın en şereflisi olarak yaratılan insanoğlu daha dünyaya gelir gelmez; bir aile, toplum, kültür ve tarihle karşı karşıya kalır. Her milletin kendine has gelenek, görenek, dil, kültür, felsefe ve sanat anlayışı bulunmaktadır. Toplumun bir parçası olan insan da doğup büyüdüğü ortamın değerlerinden bağımsız değildir. Dolayısıyla her birey yaşadığı toplumun değerlerinden etkilenir ve hayata bakışı buna göre şekillenir. Bu bağlamda değer olgusunun insanın şahsiyetine önemli bir katkısı olduğunu söylemek mümkündür. Bir toplumun sahip olduğu değerlerden bazıları manevi açıdan ele alınabildiği gibi bazıları da gözle görülür, elle tutulur değerler olarak anlatılabilir.

Bu parçada değerler ile ilgili aşağıdakilerden hangisine değinilmemiştir?

A) Yaşamla olan ilişkisine
B) Çeşitli türleri bulunduğuna
C) İnsanın kişilik gelişimindeki etkisine
D) Toplumlara göre farklılık gösterdiğine
E) Dinin temel kaynaklarından beslendiğine

17. İyilik, yüzlerinizi doğu ve batı taraflarına çevirmeniz(den ibaret) değildir. Asıl iyilik, Allah'a, ahiret gününe, meleklere, kitap ve peygamberlere iman edenlerin; mala olan sevgilerine rağmen, onu yakınlara, yetimlere, yoksullara, yolda kalmışa, (ihtiyacından dolayı) isteyene ve (özgürlükleri için) kölelere verenlerin; namazı dosdoğru kılan, zekâtı veren, antlaşma yaptıklarında sözlerini yerine getirenlerin ve zorda, hastalıkta ve savaşın kızıştığı zamanlarda sabredenlerin tutum ve davranışlarıdır. İşte bunlar, doğru olanlardır. İşte bunlar, Allah'a karşı gelmekten sakınanların ta kendileridir.

(Bakara; 177)

Aşağıdakilerden hangisi bu ayette "iyilik" **olarak sayılan işlerden biri değildir?**

A) Cömertlik

B) İbadetlerini özenle yerine getirmek

C) İnsanların mahremiyetine saygı duymak

D) Güvenilir olmak

E) Zorluklar karşısında direnç göstermek

18. Dinimizin hedeflediği yaşam şeklini İslam ahlakı terimiyle izah etmek mümkündür. Allah (c.c.) gönderdiği ilahi mesajlarla kullarına bir hayat tarzı sunar. Onlara, nelerin yapılması ve nelerden de uzak durulması gerektiğini bildirir. Bu bağlamda ayet ve hadislerde yer alan hükümler çerçevesinde şekillenmiş İslam ahlakına uygun bir yaşam sürmek dinen farzdır. Hayatını dinin temel kaynaklarında bildirilenlere göre tanzim eden insan, hem dünya hem de ahiret saadetini elde etmiş olur. Zira İslam'ın temelini oluşturan bu ahlaki ilkeler insanın gerek bireysel, gerekse sosyal ihtiyaçlarını karşılayacak ve yaşamını düzene sokacak niteliktedir.

Bu parçada;

I. Vahyin insan yaşamına yol gösterici etkisi,

II. Kur'an ve sünnet eksininde bir yaşamın emredilmesi,

III. Dinin emirlerini inkâr etmenin Allah'ı inkâr sayılacağı

konularından hangilerine değinilmiştir?

A) I ve II B) I ve III C) II ve III

D) Yalnız I E) I, II ve III

19. Kişilik; bireyin inanç, tutum, değer, mizaç, duygu gibi yönleriyle fiziksel, ruhsal ve duygusal özelliklerini içine alan geniş bir kavramdır. Gençlerin kişilik gelişiminde ailenin önemli bir etkisi vardır. İnsan, hayatını anlamlandıran değerlerle ilk olarak ailede karşılaşır. Çocukların ilk öğrenmeleri ailedeki büyükleri taklit ederek gerçekleşir. Anne baba sahip oldukları değerleri çocuklarına davranışlarıyla aktarır. İslam dini ebeveynlere, çocuklarına örnek olma ve temel değerleri kazandırma sorumluluğu yükler.

Bu parçadaki görüşler aşağıdaki hadislerden hangisiyle desteklenir?

A) "Din güzel ahlaktır."

B) "Hiçbir baba, evladına güzel terbiyeden daha üstün bir hediye vermemiştir."

C) "Kişi, sevdiğiyle beraberdir."

D) "Kendisi için istediğini, Mü'min kardeşi için de istemeyen gerçek manada iman etmiş olmaz."

E) "Kişi dostunun dini üzeredir. Bu yüzden her biriniz, kiminle dostluk ettiğine dikkat etsin."

20. İslam medeniyeti, Emeviler döneminde oluşum sürecine girmiş, Abbasiler döneminde gelişmiş, Selçuklular döneminde bu gelişim devam etmiş, Osmanlı döneminde ise kurum ve kuruluşlarıyla en parlak devrini yaşamıştır. İslam medeniyetinin mimari, edebiyat, sanat, matematik, astronomi, tıp vb. alanlarda ortaya koyduğu örnekler oldukça fazladır. Farabi, İbn Sina, Biruni, Harezmî, İbn Rüşd, İbn Haldun gibi ilim adamları kendi dönemlerinde, felsefe, mantık, matematik, tıp, astronomi gibi alanlarda tüm dünyaya zengin ilmi ürünler sunmuşlardır.

Bu parçadan İslam medeniyeti ile ilgili olarak aşağıdaki yargılardan hangisine ulaşılamaz?

A) Bilim dünyasına önemli katkıları olmuştur.

B) Başka medeniyetlerden etkilenmiştir.

C) Tarih içerisinde çeşitli süreçlerden geçmiştir.

D) Farklı alanlarda ilmi çalışmalara beşiklik etmiştir.

E) En parlak devrini Türkler zamanında yaşamıştır.

BİLGİ SARMAL

Bu testte sırasıyla, Tarih (1 – 5), Coğrafya (6 – 10), Felsefe (11 – 15), Din Kültürü ve Ahlak Bilgisi (16 – 20) dersi olmak üzere toplam 20 soru vardır.

1. Uygur Yazıtları'nda "Töreyi kişi düzenler, kişi ağırlar (uygular), kişi kalkındırır." denilmesi, Uygurların töreye verdiği önemi gösterir. Uygurların yerleşik hayata geçmesiyle birlikte buradaki hukuk kültürü de oldukça gelişmiştir. Zira Uygurlarda bireyin toplumla ve devletle olan ilişkilerini düzenleyen çok sayıda belge mevcuttur. Kira, mal edinme, satış protokolü, eşyayı kiraya verme, vasiyet, senet, ortaklık ve evlat edinme gibi birçok hukuki belge titizlikle düzenlenmiş, bunların üzerine damga vurulmuş, kimse mağdur edilmemiştir.

Buna göre Uygurların;

I. sosyal devlet,
II. özel mülkiyet,
III. hukuk devleti

unsurlarından hangilerine önem verdiği söylenebilir?

A) Yalnız I B) Yalnız II C) I ve II
D) I ve III E) I, II ve III

2. Muaviye'nin halifelik makamına geçmesiyle İslam tarihinde yeni bir dönem başlamıştır. Akrabası Hz. Osman'ın katillerinin cezalandırılmadığını bahane eden Muaviye, ilk dört halifenin seçilme şekillerinden farklı olarak halifeliği kabilecilik anlayışı ve kılıç kuvvetiyle kazanmıştır. Dört Halife'nin seçiminde, danışma yani iştişare prensibi dikkate alınmışken Muaviye'nin siyasi mücadeleyle bu makama gelmesi, hilafet sisteminin özünde büyük değişikliklere neden olmuştur. Bu değişiklikler Muaviye'nin, oğlu Yezid'i veliaht tayin etmesi ve halifeliğin el değiştirmesinde saltanat sisteminin ortaya çıkmasıyla yeni bir boyut kazanmıştır.

Muaviye'nin izlemiş olduğu bu politika,

I. İslam devlet geleneğiyle çelişmiştir.
II. Halifelik kurumunun dinsel niteliğinin zayıflamasına yol açmıştır.
III. Müslümanlar arasında var olan ayrılıkların daha da derinleşmesine neden olmuştur.

yargılarından hangilerini geçerli kılmaktadır?

A) Yalnız I B) Yalnız II C) Yanız III
D) II ve III E) I, II ve III

3. Osmanlı Devleti'nde özel mülkiyete giren öşrî ve haraci toprakların hukukî güvenliği sahipleri tarafından sağlanırken devlete ait mirî arazinin güvenliği ise tımar beyleri tarafından sağlanmıştır. Miri arazinin işletim hakkı köylüye mülkiyeti ise devlete aittir. Devlet kişilerin geniş topraklara sahip olmasını istemediği için toprakların üzerinde denetim kurmuştur. İşletim hakkı köylüye ait olan dirlik topraklarında köylü toprağını üst üste boş bırakırsa devlete çiftbozan vergisi ödemiştir. Toprağı üç yıl art arda ekmeyen köylünün toprağı ise elinden alınıp ekip biçecek bir başkasına verilmiştir.

Bu bilgilere göre, aşağıdaki yargılardan hangisine ulaşılamaz?

A) Osmanlı Devleti feodalleşmenin önüne geçmeye çalışmıştır.
B) Çiftbozan vergisi bir tür cezadır.
C) Ülke toprakları farklı bölümlere ayrılmıştır.
D) Ülke topraklarının tamamı devlete aittir.
E) Osmanlı Devleti üretimde sürekliliği sağlamaya çalışmıştır.

4. Türkiye Cumhuriyeti'nde 1923-1929 yıllarını kapsayan dönemde, liberal ekonomik yaklaşım sergilenerek serbest piyasa şartlarında özel girişimcilerin desteklendiği sanayileşme politikaları izlenirken 1930'dan sonra devletçilik ilkesinden hareketle; "Ferdin yapamayacağı işleri devlet yapar." düşüncesi benimsenmiştir.

Bu bilgilerin aşağıdaki yargılardan hangisini desteklediği söylenebilir?

A) 1930'lu yıllarda enflasyon oranlarında artış yaşanmıştır.
B) Kapitülasyonların kaldırılması sanayileşme alanındaki gelişmelere engel olmuştur.
C) Cumhuriyetin ilk yıllarında özel sektör, yeterli iktisadi girişimlerde bulunmamıştır.
D) Türkiye sanayisinin önündeki en büyük engel hammadde eksikliğidir.
E) Tarımsal alandaki gelişmeler, ihracat oranlarının artmasında etkili olmuştur.

BİLGİ SARAYI

Diğer Sayfaya Geçiniz.

5. "1920'de Meclis'e memur olarak girdiğimiz zaman ilk dikkatimi çeken durum, mebusların kıyafet, yaş ve kafa yapılarının ve görgülerinin başka başka ve çok değişik olmasıydı. Beyaz sarıklı, aksakallı, cübbeli, eli tespihli hocalarla, pırıl pırıl üniformalı genç subaylar, yazma sarıklı aşiret beyleri, külahlı ağalar ve kavuklu çelebilerle; Avrupa tahsilinden yeni dönmüş, Batı kültürüyle yetişmiş, nokta bıyıklı, Kuvay-ı Millîyeci kalpaklı gençler, meclis sıralarında yan yana oturuyorlardı. Formasyonları çok değişik olan bu insanlar bir tek amaç etrafında birleşmişlerdi."

Hıfzı Veldet Velidedeoğlu'nun bu tespitinden yola çıkılarak "Birinci Meclis" **ile ilgili aşağıdaki yorumlardan hangisi yapılabilir?**

A) Manda himaye yanlısı mebuslar yer almaktadır.

B) Eğitimli mebus sayısı çoğunluktadır.

C) Mebusan Meclisi'nin devamı niteliğindedir.

D) Toplumun farklı kesimlerini temsil etmektedir.

E) İstanbul Hükümeti'nin desteğini almıştır.

6.

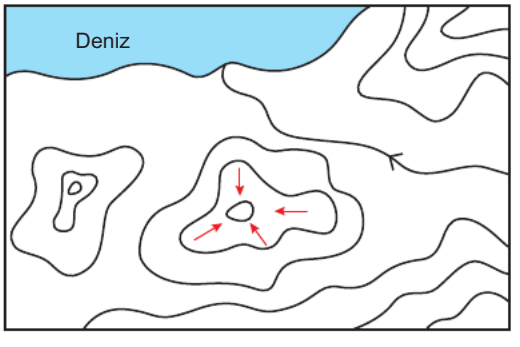

Yukarıda verilen topografya haritasında;

I. delta,

II. çukur,

III. boyun,

IV. falez

yer şekillerinden hangileri gösterilmemiştir?

A) Yalnız III B) Yalnız IV C) I ve II

D) II ve III E) III ve IV

7. Aşağıda bir merkezin yıllık sıcaklık ve yağış grafiği verilmiştir.

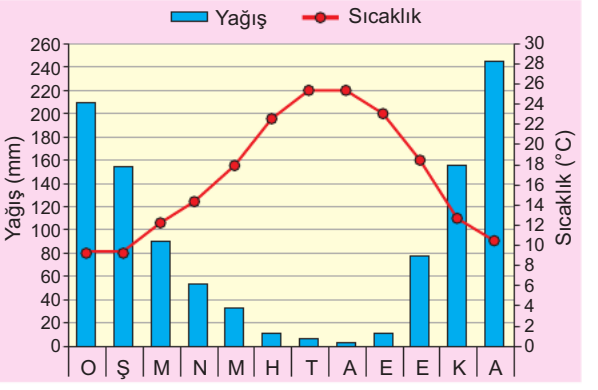

Grafikte verilen bilgilere göre bu kentle ilgili olarak aşağıdaki yargılardan hangisine ulaşılamaz?

A) Yağış rejimi düzenlidir.

B) Kış ayları ılık geçer.

C) Yıllık ortama sıcaklığı 13-20 °C civarındadır.

D) Kış yağışları genel olarak yağmur şeklindedir.

E) Kış ılıklığına ve yaz sıcaklığına dayanıklı bitkiler yetişir.

8. Şehir ve kır nüfusu, bir ülkenin gelişmişlik seviyesi ile doğrudan ilişkilidir. Gelişmiş ülkelerde nüfusun çoğunluğu şehirlerde, gelişme seviyesi düşük olan ülkelerde ise nüfusun çoğunluğu kırsal kesimlerde yaşamaktadır.

Buna göre kırsal nüfus oranının düşük olduğu bir ülke ile ilgili olarak,

I. Genç nüfus oranı fazladır.

II. Teknoloji kullanımı yaygındır.

III. Yaşlı nüfus oranı yüksektir.

yargılarından hangileri söylenir?

A) Yalnız I B) I ve II C) I ve III

D) II ve III E) I, II ve III

BİLGİ SARMAL

9. Aşağıdaki haritada bazı önemli su yolları gösterilmiştir.

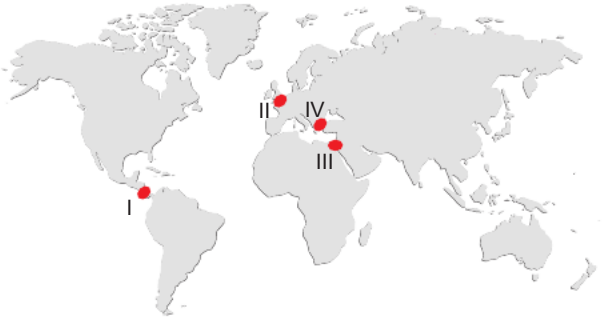

Buna göre, haritada numaralarla gösterilen su yollarından hangilerinin kapanması ulaşım maliyetlerini daha fazla artırır?

A) I ve II B) I ve III C) II ve III
D) II ve IV E) III ve IV

10. Sel felaketleri ve taşkınlar, önlem alınmadığı takdirde ciddi can ve mal kayıplarına neden olmaktadır. Bu nedenle bu afetlerle mücadelede neler yapılacağını bilmek hayat kurtarabilir. Çoğunlukla felaketle sonuçlanan sel ve taşkınlar, bilinçli hareket etme ve önceden alınması gereken ciddi önlemlerle en az zararla atlatılabilir.

Buna göre, aşağıdakilerden hangisi sel ve taşkın durumlarındaki korunma yöntemleri ve alınması gereken önlemler arasında gösterilemez?

A) Su baskını tehlikesi bulunan eğimli yamaçlarda teraslama ve ağaçlandırma yapılmalıdır.

B) Elektrik kaynaklarından uzak durulmalıdır.

C) Su yatağı ve çukur bölgeler hemen terk edilerek yüksek ve güvenli bölgelere gidilmelidir.

D) Sel suları kanalizasyon ve zehirli kimyasal maddeler de içerebileceğinden özellikle çocukların sel suları ile oynamasına müsaade edilmemelidir.

E) Pencere ve kapıların arkasına engeller yerleştirilmemeli giren suyun çıkmasına müsaade edilmelidir.

11. Sanatın, toplumsal sorunları ifade etme ve tartışma platformu olarak kullanılması, toplumun sorunlara karşı daha duyarlı olmasını sağlar. Sanat eserleri, insanların empati kurmasını ve sorunlara yeni bir perspektiften bakmasını sağlayarak toplumda farkındalık yaratır. Örneğin, resimler, heykeller ve fotoğraflar aracılığıyla görsel sanatlar, savaş, ayrımcılık, yoksulluk gibi sorunları anlatarak toplumun bu konularda daha hassas olmasını sağlar.

Bu parçadaki görüşler aşağıdaki sanat kuramlarından hangisine aittir?

A) Oyun kuramı

B) Taklit kuramı

C) İşlevselci kuram

D) Dışavurumcu kuram

E) Hümanist kuram

12. Aristoteles'e göre varlığı oluşturan dört neden vardır. Birinci neden olarak formel neden yani bir şeyi o şey yapan şey; ikinci olarak madde ve dayanak olarak maddi neden; üçüncüsü değişimin nedeni olarak fail neden; son neden olarak da ereksel yani amaçsal nedendir. Buna bir örnek vermek gerekirse bir evin hareket ettirici nedeni mimar, ereksel nedeni bu evin yerine getirdiği işlevi; maddesi toprak ve taşlar, formu ise onun formel tanımıdır.

Buna göre, çilek üretmeyi amaçlayan bir çiftçi için bu faaliyette ereksel neden aşağıdakilerden hangisidir?

A) Üretimden kazanılması amaçlanan para

B) Çiftçinin kendisi

C) Çileğin ekildiği tarla

D) Tarla hasatında çalışan işçiler

E) Çileklerin farklı ebatlardaki büyüklüğü

BİLGİ SARMAL

13. Keleci bilen kişinin yüzünü ağ ede bir söz

Sözü pişirip diyenin işini sağ ede bir söz

Söz ola kese savaşı söz ola bitire başı

Söz ola ağılı aşı bal ile yağ ede bir söz

Yunus Emre'nin bu dizelerinden aşağıdaki bilgilerden hangisine ulaşılabilir?

A) İnsan ne kadar kavram biliyorsa o kadar düşünür.
B) Dil gerçekliğe ayna tutan bir araçtır.
C) İletişim hatalarından bazıları dilin kullanımına bağlıdır.
D) Dilini koruyan toplumlar gelişme gösterir.
E) Dil sürekli değişen ve gelişen bir olgudur.

14. İnsan ancak Allah'ın kendisine takdir ettiği şeylerden birini seçme hakkına sahiptir. Nasıl ki bir çocuk kendisine gösterilen oyuncaklardan birini veya birkaçını tercih etme hakkına sahipse insan da kendisine sunulan eylemler arasında tercih yapabilir. Eylemlerin yaratıcısı Allah'tır.

Bu parçada vurgulanan düşünce aşağıdakilerden hangisidir?

A) İnsanın amacı mutlu olmaktır.
B) İnsanın irade özgürlüğü sınırsız değildir.
C) İrade özgürlüğü insanın anlayacağı bir konu değildir.
D) Evrendeki düzen yaratıcının varlığının göstergesidir.
E) Özgür olmayan insan sorumlu da olamaz.

15. Platon'a göre idealar dünyası, maddi dünyanın ötesinde var olan ideal formların gerçekleştiği bir dünyadır. Bu ideal formlar, maddi dünyadaki nesnelerin ve kavramların asıl özlerini oluşturur. Örneğin, bir sandalyenin maddi örneği geçicidir ve değişebilirken, idealar dünyasındaki "sandalye formu" değişmez ve mükemmel bir sandalyenin kavramsallaşmasını temsil eder.

Platon'un bu görüşleri Orta Çağ felsefesindeki hangi tartışma alanına kaynaklık eder?

A) Yaratıcının varlığı
B) İrade özgürlüğü
C) Bilginin kaynağı
D) Tümeller problemi
E) İdeal düzen problemi

16. I. "De ki: O, Allah birdir. Allah samettir (Her şey ona muhtaçtır. O hiçbir şeye muhtaç değildir.). O doğurmamıştır, doğmamıştır. Onun hiçbir dengi (benzeri) yoktur."
(İhlas; 1-4)

II. "Ben cinleri ve insanları, ancak bana kulluk etsinler diye yarattım."
(Zâriyât; 56)

III. "Sen af yolunu tut, iyiliği emret, cahillerden yüz çevir."
(A'râf; 199)

Verilen ayetler Kur'an'da yer alan konulardan hangileriyle doğru olarak eşleştirilmiştir?

	I	II	III
A)	İnanç	İbadet	Ahlak
B)	İbadet	Ahlak	İnanç
C)	Ahlak	İnanç	İbadet
D)	İbadet	İnanç	Ahlak
E)	Ahlak	İbadet	İnanç

17. "İyi bilin ki, halis din yalnız Allah'ındır. Onu bırakıp da başka dostlar edinenler, "Biz onlara sadece, bizi Allah'a daha çok yaklaştırsınlar diye ibadet ediyoruz." diyorlar. Şüphesiz Allah ayrılığa düştükleri şeyler konusunda aralarında hüküm verecektir. Şüphesiz Allah yalancı ve nankör olanları doğru yola iletmez."

(Zümer; 3)

Bu ayette aşağıdaki zümrelerden hangisi eleştirilmektedir?

A) İbadetlerini gösteriş için yapanlar
B) İlahi güç atfederek putlara tapanlar
C) İhtiyaç sahiplerine yardım etmeyenler
D) İman etmediği hâlde inanmış gibi davrananlar
E) Kulluk görevlerini zamanında yerine getirmeyenler

18. "...Hiç bilenlerle bilmeyenler bir olur mu?..."

(Zümer suresi, 9. ayet)

"Kadın erkek herkese ilim öğrenmek farzdır."

(Hadis)

"İlim Çin'de bile olsa gidiniz ve alınız."

(Hadis)

Bu ayet ve hadisler İslam'ın aşağıdakilerden hangisine önem verdiğinin göstergesidir?

A) Özel yaşamın gizliliğine
B) İbadet özgürlüğüne
C) Eğitim hakkına
D) Düşünce ve ifade özgürlüğüne
E) İnanç özgürlüğüne

19. Hz. Ömer'in (r.a.) halifeliği sırasında fethedilmiş ve İslam topraklarına katılmıştır. İslam medeniyetinin sahip olduğu adalet anlayışı ve diğer din mensuplarına karşı müsamahakâr davranışları nedeniyle burası insanlığın ortak tarih, kültür ve medeniyetinin güzel bir örneği olmuştur. Emeviler devrinde burada, İslam mimarisinin en güzel eserlerinden biri kabul edilen Kubbetü's-Sahrâ da yapılarak Mescid-i Aksâ yeniden imar edilmiştir. Şehir, 8. yüzyılda önemli bir ilim ve öğretim merkezi hâline gelmiştir. Filistin'in Gazze şehrinde doğan ve Şafiî mezhebinin kurucusu olan İmam Şâfiî şehri ziyaret ederek dersler vermiş, aynı yüzyılda Râbiatü'l-Adeviyye ve Bişr-i Hâfî gibi sufilerin burada bulunması şehri sufiler için de cazip hâle getirmiştir.

Bu parçada sözü edilen İslam merkezi aşağıdakilerden hangisidir?

A) Mekke
B) Medine
C) Kudüs
D) İstanbul
E) Bağdat

20. Toplumların kültürel dokusu gelenek, görenek, dil, sanat, ahlak, ekonomi, düşünce ve felsefeden meydana gelmektedir. Bu doku incelendiğinde dinin izlerini her alanda görmek mümkündür. İslam, bir milletin kuşaktan kuşağa aktararak getirdiği değerlerden insanlığa faydalı olanları devam ettirmek suretiyle bunlara yeni değerler katar. Öngördüğü değer ve kurallarla bireyin sahip olduğu duygu, düşünce, istek ve davranışlarını güzelleştirip olgunlaştırmaya çalışır. Bu bağlamda dinimiz, temel kaidelere aykırı olmayan sosyal değerlere uymayı, benimsemeyi uygun görmüş ve bunlara saygı duyulmasını istemiştir.

Bu metinde değerler ile ilgili,

I. Her toplumda geçerli ortak yanları mevcuttur.
II. Dine uygun olanları devam ettirilmiştir.
III. Kültürel öğeleri dinden etkilenmiştir.

yargılarının hangilerinden bahsedilmiştir?

A) I ve II B) I ve III C) II ve III D) Yalnız II E) I, II ve III

BİLGİ SARMAL

Bu testte sırasıyla, Tarih (1 – 5), Coğrafya (6 – 10), Felsefe (11 – 15), Din Kültürü ve Ahlak Bilgisi (16 – 20) dersi olmak üzere toplam 20 soru vardır.

1. Tolunoğulları Devleti (868-905), Ahmed b. Tolun tarafından Mısır'da kurulmuş Müslüman Türk devletidir. Ahmed b. Tolun'un babası Tolun, Türk olup Abbasi Devleti'nin önemli kumandanlarından biri olmuştur. Babasının ölümünden sonra Tolunoğlu Ahmed de babası gibi Abbasi Devleti'nde nüfuz sahibi olmuştur. Bunun sonucunda Mısır'a naib olarak gönderilen Tolunoğlu Ahmed, Türklerden oluşan bir ordu ile 868 yılında Mısır'a girmiş ve devletin temellerini atmıştır. Bu dönemde Mısır'da, Abbasi Devleti'ndeki hilafet mücadeleleri nedeniyle siyasî ve toplumsal açıdan istikrarsızlık hâkim olmuştur. Abbasilerin içinde bulunduğu durumdan yararlanarak harekete geçen Tolunoğlu Ahmed, Suriye Seferi sonunda batıda Trablusgarp'tan doğuda Fırat Nehri'ne kadar olan topraklar üzerinde hâkimiyet kurmuştur. Tolunoğlu Ahmed'in Suriye ve Filistin'i ele geçirmesi, Abbasi halifesini harekete geçirmiş Tolunoğlu Ahmed'i Mısır valiliğinden azletmiştir. Bunun üzerine Tolunoğlu Ahmed bağımsızlığını ilan etmiştir.

Bu bilgilerin,

I. Abbasilerde yaşanan siyasal istikrarsızlık, Mısır'da Tolunoğluları Devleti'nin kurulmasını sağlamıştır.

II. Tolunoğlu Devleti'nin yönetici kadrosu ve ordusu Türklerden oluşmuştur.

III. Abbasi Halifesi, Tolunoğlu Ahmed'i Mısır Valiliğine atayarak Suriye ve Filistin'e egemen olmuştur.

yargılarından hangilerini desteklediği <u>söylenemez</u>?

A) Yalnız I B) Yalnız III C) I ve II
D) I ve III E) II ve III

2. Fatih Sultan Mehmed, "Ve her kimseye ki evladımdan saltanat müyesser ola, karındaşlarun nizâm-ı âlem için katl itmek münasibdir. Ekser-i ulema daha tecviz itmüşdür. Anınla amil olalar." (Saltanat, oğullarımdan kime nasip olursa dünya düzeni için kardeşlerini öldürmesi uygundur ve âlimlerin çoğu da uygun bulmuştur.) hükmü ile tahta çıkan hükümdarın kardeşlerini öldürebileceğini ilan etti.

Fatih Sultan Mehmet'in bu hükümle;

I. merkezî otoriteyi güçlendirmeyi,

II. egemenliğin bölünmezliği anlayışını uygulamayı,

III. bazı ailelerin ayrıcalıklı hâle gelmesini önlemeyi

amaçlarından hangilerini hedeflediği söylenebilir?

A) Yalnız I B) Yalnız II C) I ve II
D) I ve III E) I, II ve III

3. XIX. yüzyılın ikinci yarısında Almanya, Otto von Bismarck (Otto fon Bismâk) liderliğinde siyasi birliğini sağlamış, sanayi hamlesini başarıyla tamamlamış ve İngiltere ile Fransa'nın sömürgeleri için bir tehlike hâline gelmiştir. Almanya, Avusturya-Macaristan ve İtalya ile ittifak kurarken, İngiltere uzun süreden beri güneye inmesini istemediği Rusya ile yakınlaşmıştır.

Buna göre, Almanya'nın güçlenmesinin sonuçları arasında aşağıdakilerden hangisi <u>gösterilemez</u>?

A) Sömürgecilik yarışının hızlanması

B) Avrupa'da bloklaşmaların başlaması

C) İngiltere'nin politikasını değiştirmesi

D) Almanya'nın Osmanlı Devleti'nin dostluğunu kazanması

E) İngiltere'nin Almanya karşısında tek başına mücadele etmek istememesi

BİLGİ SARMAL

Diğer Sayfaya Geçiniz.

4.

Şirketin Adı	Şirketin Millîyeti ve Millîleştirme Tarihi	Şirketin Hangi Kuruma Devredildiği
Ereğli Kömür İşletmeleri	Fransız (1936)	Türkiye Kömür İşletmeleri'ne
Keçiborlu Kükürt İşletmeleri	Fransız-İtalyan (1934)	İş Bankası'na
İstinye Tersanesi	Fransız (1938)	Denizbank'a
İstanbul Telefon T.A.Ş.	Duyûn-ı Umumiye (1936)	PTT'ye

Tablodaki bilgiler göz önünde bulundurulduğunda Türkiye Cumhuriyeti'nde;

I. cumhuriyetçilik,

II. milliyetçilik,

III. devletçilik

ilkelerinden hangilerinin benimsendiği söylenebilir?

A) Yalnız I B) Yalnız II C) Yalnız III D) I ve II E) II ve III

5. Cumhurbaşkanlığı Genel Sekreteri Hasan Rıza Soyak'ın hatıralarına göre Atatürk: "…Uzun yıllar hatta asırlarca dünyanın gidişinden gafil, birtakım şuursuz idarecilerin elinde kalan bu cennet memleket; düşe düşe şu acınacak hâle düşmüş. Memurlarımız henüz istenilen seviyede ve kalitede değil; çoğu görgüsüz, kifayetsiz ve şaşkın. Büyük istidatlara mâlik olan zavallı halkımız ise kendisine mukaddes akideler şeklinde telkin edilen bir sürü batıl görüş ve inanışların tesiri altında uyuşmuş, kalmış..." sözlerini söylemiştir.

Buna göre Atatürk;

I. yetişmiş insan gücü,

II. özgür düşünce ortamı,

III. geleneklerine bağlı toplum yapısı

konularının hangilerinde Türkiye'nin önemli eksiklikleri olduğunu ortaya koymuştur?

A) Yalnız I B) Yalnız II C) Yalnız III D) I ve II E) II ve III

6. Aşağıdakilerden hangisi Türkiye'nin göreceli konumuyla açıklanamaz?

A) Mersin Limanı'nın Sinop Limanı'ndan daha işlek olması

B) Antalya'nın Zonguldak'tan sıcak olması

C) Erzurum' da kış sporlarının gelişmiş olması

D) Tarih boyunca farklı medeniyetlere beşiklik etmesi

E) Yer şekillerinin kısa mesafede değişiklik göstermesi

7. I. Yüzey kayaçlarının yaygın olduğu arazilerde akarsu aşındırması zor olduğu için derin vadiler oluşmaz.

II. Yüksek sıcaklık ve basınç altında kalan kayaçlar fiziksel tortul kayaçları oluşturur.

III. Çözünebilen kayaçların bulunduğu bölgelerde mağara, obruk gibi karstik şekiller bulunur.

IV. Kanyon vadilerin oluşumunda farklı dirençteki derinlik kayaçlarının etkisi fazladır.

Kayaçların özellikleri ile yer şekillerinin oluşumu arasındaki ilişki hakkında yukarıda verilen bilgilerden hangileri yanlıştır?

A) I ve II B) I ve III C) II ve III D) II ve IV E) III ve IV

8. Doğum oranlarının ölüm oranlarından fazla olması nüfusun artmasına az olması da nüfusun azalmasına neden olmaktadır. Doğumların ölümlerden fazla olması sonucunda meydana gelen nüfus artışına doğal nüfus artışı denir.

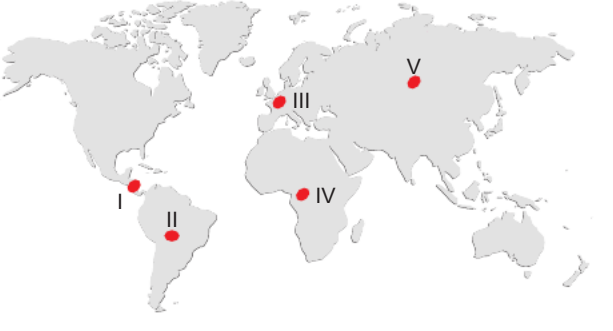

Yukarıdaki haritada numaralarla gösterilmiş alanların hangisinde doğal nüfus artışı diğerlerinden daha azdır?

A) I B) II C) III D) IV E) V

9. **Aşağıdakilerden hangisi beşerî şekilsel bölgelere örnek verilemez?**

A) Kırsal yerleşim bölgesi

B) İslam kültür bölgesi

C) Serbest ticaret bölgesi

D) Otomotiv sanayi bölgesi

E) Verimli toprak bölgesi

10. Heyelanları

- kar erimeleri,
- orman tahribi,
- sürekli yoğun sağanak yağışlar

tetikler.



Yukarıda verilen afet türünün haritada işaretli merkezlerin hangisinde daha sık yaşanması beklenir?

A) I B) II C) III D) IV E) V

11. Kartezyen felsefe yöntemi "doğru olmama ihtimali milyonda bir ihtimal bile olsa o bilgiyi doğru kabul etmemek" üzerine kuruludur.

Buna göre, kartezyen felsefenin temelinde aşağıdakilerden hangisi yer alır?

A) Ruh beden birlikteliği

B) Sezgisel kavrayış

C) Otoritelere boyun eğme

D) Pratik bilgiler

E) Şüphenin araç olarak kullanılması

12. Bazı düşünürler, insanlar için her bakımdan mükemmel olduğuna inandığı, ideal bir toplumsal düzen tasarlarlar ve insanın, toplumun kuruluşunun, ancak bu ideal düzen yaşama geçirildiği takdirde olanaklı olduğunu savunurlar. Uygulamadaki toplum düzeni, bu ideal toplum düzenine göre şekillenmelidir. Ne var ki bu ideal toplum düzeninin gerçekleşme şansı pek fazla olmadığı için, o bir ütopya olarak kalır.

Buna göre, ütopyalar için aşağıdakilerden hangisi söylenemez?

A) Toplumsal yaşama yönelik görüşlerdir.

B) Toplumun genelinde kabul görmüşlerdir.

C) Filozofların kurgularına dayanır.

D) İnsanlara ideal yaşamın yolunu göstermeyi amaçlar.

E) Uygulanma şansları oldukça azdır.

13. Bacon otoriteye dayanmanın, geleneğin etkisinin, önyargıların ve kişinin cehaletini saklayan sözde bilgeliğin, insanı hakikate ulaşmaktan alıkoyduğunu söylemiştir.

Bacon bu görüşlerinde hakikate ulaşmayı engelleyen;

I. Dogmatik bakış açısı

II. Yetersiz teknik gelişmeler

III. İnanç eksikliği

unsurların hangisinden söz etmiştir?

A) Yalnız I B) Yalnız II C) Yalnız III D) I ve II E) I, II ve III

BİLGİ SARMAL

14. Hegel'e göre rasyonel olan gerçek, gerçek olanda rasyoneldir. O, her şeyin bilinebilir olduğunu savunur. Hegel: "Aklın yasalarıyla varlığın yasaları bir ve aynıdır." der. Bilginin formlarının ve içeriklerinin de zihnin bir ürünü olduğunu savunur. Bilginin tüm ögeleri zihnin eseridir. Ona göre mutlak zihin diyalektik adını verdiği üçlü adımdan oluşan hareketlerle değişir. Her şey mutlak zihnin üç adım (tez-antitez-sentez) şeklinde olan diyalektik hareketlerinden oluşur.

Hegel'in bu görüşlerinde aşağıdaki yaklaşımlardan hangilerinin izlerini görmek mümkündür?

A) Materyalizm – empirizm
B) İdealizm – rasyonalizm
C) Materyalizm – rasyonalizm
D) İdealizm – empirizm
E) İdealizm – entüisyonizm

15. Bilimde kişinin söylediğine veya iddia ettiğine değer verilmez; ortaya koyduğu veriye ve bu verileri nasıl yorumladığına önem verilir. Bu nedenle bilimi ilerleten her çalışma, hakem adı verilen ve alanında uzman kişilerin bağımsız denetiminden geçer ve bu kişilerin görevi, bilimsel bir çalışmanın verilerini yanlışlamak, mümkünse tamamen çürütmektir. Bu sayede bilim, kendini düzelten, otoriteye boyun eğmeyen, kendi ön yargılarını açığa çıkarmaya çalışan bir doğaya kavuşur.

Buna göre bilim için aşağıdakilerden hangisi <u>söylenemez</u>?

A) Değişime ve gelişime açıktır.
B) Kanıtlanmaya ihtiyaç duyar.
C) Öznel etkileri açıktır.
D) Otoriteye körü körüne bağlanma yoktur.
E) Bilgilerin doğruluğu denetlenir.

16. "Ben bir insanım. Bazen yanılır, bazen da doğru olarak hükmederim. Bu bakımdan benim görüşümü inceleyiniz; Kur'an-ı Kerim'e ve Peygamberimizin sünnetine uygun bulursanız onu kabul ediniz; onlara uygun bulmazsanız onu reddediniz."

(İmam Mâlik)

Bu sözden aşağıdakilerden hangisine ulaşılabilir?

A) Âlimlerin sözlerinde kusur aramak en büyük eksikliktir.
B) İlim sahibi kişi yanlış hüküm verse dahi sevap kazanır.
C) Din, Kur'an'dan başka kaynak aramayı yasaklamıştır.
D) Bilginlerin izinden gidenler hata nedir bilmezler.
E) İslam'ın ana kriterleri ayetler ve hadislerdir.

17. "Sizden birinizi, emrettiğim veya yasakladığım bir konu kendisine iletildiğinde, sakın köşesine yaslanmış olarak (cahilce), 'Biz Allah'ın Kitabı'nda ne bulursak ona uyarız (hadis tanımayız!)' derken bulmayayım!"

Bu hadis aşağıdakilerden hangisinin önemine işaret etmektedir?

A) İslam'ın şartlarına uymanın
B) Ahirete imanın
C) Hz. Peygamber'in sünnetine uymanın
D) İstişare etmenin
E) Yardımlaşmanın

BİLGİ SARMAL

18. İslam dininin kendine ait inanç prensipleri vardır. Kur'an bu prensiplere muhataplarının inanmasını ister. Ayrıntılarında bazı farklılıklar ortaya koysalar da, din anlayışı ya da yorumu ne olursa olsun, İslam tarihi boyunca Müslümanlar bu inanç esaslarına temel ilke olarak inanmış ve bağlı kalmışlardır. İslam'da kişinin Yüce Allah, insan ve evren hakkındaki düşünce ve anlayışlarına önem verilmiştir. İnsanın dünyada ve ahirette mutlu olabilmesi için Allah'ın (c.c.) göndermiş olduğu kuralların hepsini kesin bir şekilde ve bütün olarak kabullenmesi ve inanması gerektiği belirtilmiştir.

Bu parça aşağıdaki kavramlardan hangisiyle daha yakından ilişkilidir?

A) Mezhep B) Fırka C) Fıkıh
D) İtikat E) İbadet

19. "İman edip dünya ve ahiret için yararlı işler yapanları karanlıklardan aydınlığa çıkarsın diye size Allah'ın apaçık ayetlerini okuyan bir elçi gönderdi. Kim Allah'a iman eder ve faydalı iş yaparsa, Allah onu içinde ebedî kalmak üzere altından ırmaklar akan cennetlere koyar. İşte böylece Allah ona gerçekten güzel bir rızık ihsan etmiştir."

(Talâk; 11)

Bu ayet;

I. Peygamber merhameti,
II. İman ve amel ilişkisi,
III. Salih amelin faydaları

konularından hangilerine örnek gösterilebilir?

A) I ve II B) I ve III C) II ve III
D) Yalnız II E) I, II ve III

20. Müslüman tüccarlar ticaret yapmak amacıyla erken dönemlerden itibaren İslam coğrafyasından dünyanın farklı yerlerine gitmişlerdir. Buralarda sergiledikleri dürüstlük, adalet ve helal kazanç konusundaki hassasiyetleriyle insanları etkilemişlerdir. Bu sayede İslam geniş kitlelere ve uzak coğrafyalara yayılma imkânı bulmuştur. Zamanla İslam'ın ticarî ilkeleri kurumlaşarak medeniyetin önemli bir ögesi hâlini almıştır. Ticaret yolları boyunca yapılan hanlar, kervansaraylar, çarşılar ve pazarlarla ticari hayat canlı bir şekilde sürdürülmüştür.

Bu parçada İslamiyet'in farklı kültürlere yayılmasında aşağıdakilerden hangisinin etkisinden söz edilmektedir?

A) Tasavvuf bilginlerinin çabasının
B) Askerî seferlerin
C) Güzel ahlakî davranışlarla sunulan örnekliğin
D) Dünyevî çıkarların
E) İbadetlere gösterilen özenin

BİLGİ SARMAL

Bu testte sırasıyla, Tarih (1 – 5), Coğrafya (6 – 10), Felsefe (11 – 15), Din Kültürü ve Ahlak Bilgisi (16 – 20) dersi olmak üzere toplam 20 soru vardır.

1. MÖ XII. yüzyılda siyasi bir güç olarak ortaya çıkan ve MÖ II. yüzyıla kadar varlığını sürdüren Fenikeliler; Mısır, Kıbrıs, Girit ve Rodos dışında Sicilya, Sardunya ve İspanya'ya kadar uzanan birçok yerde ticaret kolonileri kurmuşlar, bu sayede de dünya deniz ticaretini kontrol etmeyi başarmışlardır.

Fenikelilerin bu özelliklere sahip olmasının aşağıdakilerden hangisini güçlendirdiği savunulabilir?

A) Toplumsal sınıfları
B) Aristokratik yönetimi
C) Tek tanrılı din anlayışını
D) Mimari faaliyetleri
E) Kültürel etkileşimi

2. Osmanlı Devleti'nde ilk mali teşkilat XIV. yüzyılda I. Murad Dönemi'nde oluşturulmuşken modern anlamda ilk bütçe XVII. yüzyılda IV. Mehmed zamanında yapılmıştır.

Buna göre, Osmanlı Devleti ile ilgili aşağıdakilerden hangisi söylenebilir?

A) Gelirler, her zaman giderlerden fazla olmuştur.
B) Nişancının devlet yönetimindeki yetkisi ve önemi artmıştır.
C) XVII. yüzyıla kadar ciddi ekonomik sorunlar yaşanmamıştır.
D) Fetih hareketlerine hız verilmesi hazine giderlerinin artmasının temel sebebidir.
E) Sanayi İnkılabı devletin dış borçlanmasına neden olmuştur.

3. Balkan Savaşları öncesi Dışişleri Bakanı Mustafa Asım Bey, Mebuslar Meclisi'nde, "Balkanlardan vicdanım kadar eminim!" demişti. Bu iyimserlik içinde birkaç gün sonra ordudan 65 bin asker terhis edilmişti.

Buna göre, aşağıdaki gelişmelerden hangisinin yaşanması Osmanlı devlet adamlarının ileri görüşlü ve gerçekçi bir bakış açısına sahip olmadığının göstergesidir?

A) 1878 tarihli Berlin Antlaşması'nın imzalanması
B) Bosna-Hersek'in Osmanlı egemenliğinden çıkması
C) 31 Mart Vakası'nın yaşanması
D) Londra Antlaşması ile Midye-Enez hattının çizilmesi
E) İtalya'nın Trablusgarp'ı işgal etmesi

4. 23 Temmuz-7 Ağustos 1919 tarihlerinde toplanan Erzurum Kongresi'nde, alınan kararları uygulamak için Doğu illerini temsilen dokuz kişiden oluşan Temsil Heyeti'nin seçilmesine ve başkanlığına Mustafa Kemal'in getirilmesine karar verilmiştir. 4-11 Eylül 1919 tarihleri arasında toplanan Sivas Kongresi'nde ise Temsil Heyeti'nin üye sayısının artırılması ve bütün ülkeyi temsil etmesi yönünde karar alınmıştır.

Buna göre Temsil Heyeti'nin;

I. zamanla yetki alanının genişlemesi,
II. düzenli ordunun kurulmasına öncülük etmesi,
III. yürütme organı gibi görev yapması

özelliklerinden hangilerine sahip olduğu söylenebilir?

A) Yalnız I B) Yalnız II C) Yalnız III D) I ve III E) II ve III

BİLGİ SARMAL

Diğer Sayfaya Geçiniz.

5. **Mudanya Ateşkes Antlaşması'nın aşağıdaki maddelerinden hangisi bu siyasi başarının aynı zamanda Osmanlı yönetimine karşı kazanıldığının en açık göstergesidir?**

A) İtilaf Devletleri barışın imzalanmasından sonra İstanbul ve Boğazları boşaltacak, yönetimi ise TBMM'ye bırakılacaktır.

B) Doğu Trakya'da TBMM, belli bir miktar jandarma kuvveti bulundurabilecektir.

C) Doğu Trakya'da Yunan memurları ile Türk memurları arasındaki devir-teslim 30 gün içinde tamamlanacaktır.

D) Doğu Trakya 15 gün içinde Yunanlılarca boşaltılacak daha sonra bölge TBMM kuvvetlerine bırakılacaktır.

E) TBMM orduları barış imzalayıncaya kadar Çanakkale ve Kocaeli Yarımadası'nda belirtilen çizgide bekleyecektir.

6. Aşağıdaki haritada yaklaşık aynı enlem üzerinde yer alan Çanakkale, Ankara ve Erzurum illeri gösterilmiştir.



Bu illerin iklim koşullarının farklı olmasında;

I. yükselti,

II. denize uzaklık,

III. Güneş ışınlarının geliş açısı

özelliklerinden hangilerinin farklı olması etkili olmuştur?

A) Yalnız I B) Yalnız III C) I ve II D) II ve III E) I, II ve III

7. Yeryüzünün belirli bir bölgesinde yaşayan ve başka sahalarda rastlanmayan bitki türlerine yerli (endemik) bitki denir. Ülkemizdeki bitki türlerinin yaklaşık üçte biri (3700 civarı) endemik olup en fazla çeşitlilik Toros Dağları'nda bulunmaktadır.

Buna göre aşağıdakilerden hangisi ülkemizde yer alan başlıca endemik bitki türlerine örnek verilemez?

A) Toroslarda yer alan kızılçam ağacı

B) Köyceğiz Gölü çevresinde sığla (günlük) ağacı

C) Datça ve Teke Yarımadası'nda Datça hurması

D) Kazdağları'nda Kazdağı göknarı

E) Kastamonu ve Yozgat çevresinde İspir meşesi

8.

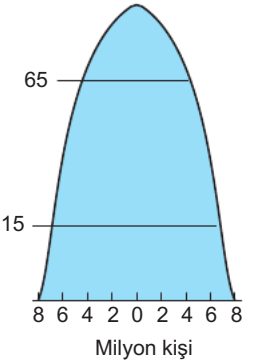

Yukarıdaki nüfus piramidine sahip olan bir ülkenin nüfus özellikleri ile ilgili aşağıdaki yargılardan hangisine ulaşılamaz?

A) Doğum ve ölüm oranları düşüktür.

B) Aktif nüfus oranı fazladır.

C) Ortalama yaşam süresi uzundur.

D) Çocuk nüfus oranı yüksektir.

E) Yaşlı nüfus oranı yüksektir.

BİLGİ SARMAL

9. Afrika kıtası genelinde seyrek olan demir yolu ağı daha çok sömürge devletleri tarafından buradaki madenleri taşımak amacıyla yapılmıştır.

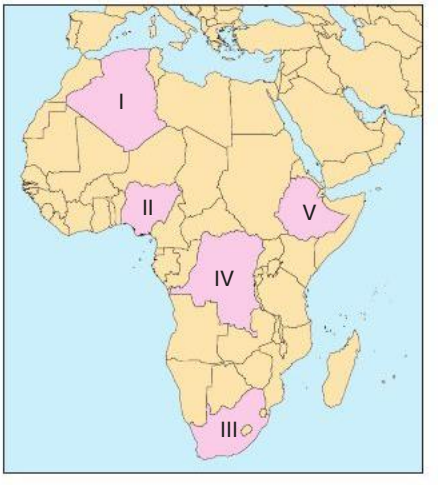

Buna göre, haritada numaralandırılarak gösterilen ülkelerin hangisinde demir yolu ağı diğer ülkelerden daha yoğundur?

A) I B) II C) III D) IV E) V

10. Afetlere karşı hazırlıklı olan ülkelerde çok fazla zarar oluşmazken hazırlıklı olmayan ülkelerde büyük can ve mal kayıpları yaşanmaktadır.

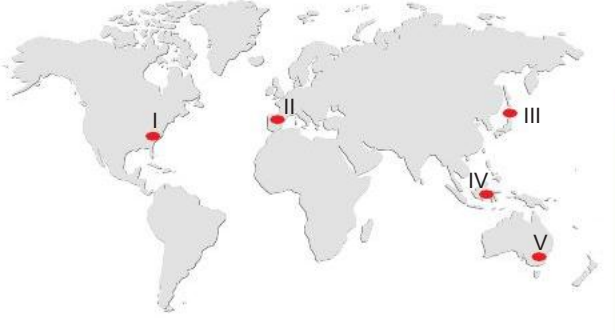

Buna göre, numaralı ülkelerden hangisi, yaşanabilecek aynı şiddetteki bir afetten daha fazla zarar görür?

A) I B) II C) III D) IV E) V

11. Argümantasyon geliştirmede üretilen iddialara mantıksal gerekçeler bulma, karşıt fikirlerin zayıf taraflarını bulma ve karşıt fikirleri çürütmeye dayanan, farklı fikirlere saygı duymayı esas alan birtakım etkinlikler mevcuttur.

Buna göre, argümantasyon geliştirme için aşağıdakilerden hangisi söylenemez?

A) İddialara dayanak bulmaya dayanır.

B) Tutarlı olmak zorundadır.

C) Hoşgörü kazandırır.

D) Felsefi bir düşüncenin kesinliğini sağlamak için kullanılır.

E) Eleştirel anlayış için gereklidir.

12. "Herkes bir başkasıdır ve kimse kendi değildir. Gündelik yaşamda "İnsan kim?" diye sorulduğunda cevap herkes'tir. Herkes, insanın beraber olma içinde kendini zaten ona teslim ettiği hiçkimse'dir."

Heidegger bu görüşlerinde aşağıdakilerin hangisinden yakınmaktadır?

A) İnsanın doğru bilgiye ulaşamamasından

B) İnsanın bencil davranışlarından

C) İnsanın bireyselliğinin yok olmasından

D) İnsanın duygularıyla hareket etmesinden

E) İnsanın doğasının sınırlı olmasından

BİLGİ SARMAL

13. Yanlışa neden olan gözler değildir, çünkü onlar gerçekte görüyor olduklarından başka hiçbir şeyi zihne iletemezler. Yalnızca gözler değil, bedene ait bütün duyular yalnızca kendilerini etkileyenleri iletiyorlarsa, onlardan daha fazla ne beklememiz gerektiğini bilemiyorum. ... Çubuğun suda kırıldığını, dışarı çıkarıldığında da düzeldiğini düşünen kimsenin duyularında bir sorun yoktur, duyularının ona naklettikleri konusunda kötü bir yargıçtır yalnızca. ... Hava ve su farklıdır, bundan dolayı da duyumların havadaki ya da sudaki şeylere bağlı olarak farklılaşması da uygun olanıdır. Aslında göz, yalnızca görmek için yaratıldığından, görevini doğrulukla yerine getirmektedir. Yanlış işlemekte olan zihindir, çünkü kutsal güzelliği temaşa etmek gözün değil onun görevidir.

Augustinus bu görüşlerinde aşağıdakilerden hangisine karşı çıkmıştır?

A) Bilginin inanca dayanması gerektiğine
B) Duyuların nesnelere ait veriler sunduğuna
C) Genelin kabul ettiği bilgilerin doğru olduğuna
D) Bilginin kaynağının akıl olduğuna
E) Her insanın bilgiye ulaşabileceğine

14. Husserl'e göre önemli olan, bilincin kendisi ve bu bilincin doğrudan ve aracısız bir şekilde tecrübe ettiği özlerdir. Buna göre öz, fenomenin içindedir ve bilinç bu özü sezgi yoluyla yakalayabilir ve kavrayabilir. Yani öz, fenomenlerin doğrudan ve aracısız bir sezgi yoluyla kavranan içeriğidir. Öz, bir nesneyi, başka bir şey değil de kendisi yapan özelliktir, anlamdır.

Husserl bu görüşlerinde aşağıdakilerden hangisini savunmuştur?

A) Bilinci yönlendirenin madde olduğunu
B) Özleri bilmenin olanaksız olduğunu
C) Özlerin varoluştan önce geldiğini
D) Varlığın insan bilincinden bağımsız olduğunu
E) Varlıkta görünüşlerin değil özlerin esas olduğunu

15. Devletin başındaki egemen halkın efendisi değil görevlisidir. Asıl egemen halktır. Hükümdar görevinin sınır ve sorumluluklarına bağlı olarak hareket edebilir ve eğer bu sınırını aşarsa halk ayaklanabilir.

Rönesans filozoflarından Althusius bu görüşlerinde aşağıdakilerden hangisini savunmuştur?

A) Özgürlüklerin sınırlanmasını
B) Mutlak monarşiyi
C) Halk iradesini
D) Güçler ayrılığını
E) Teokratik yönetimi

16. İslam Dininin farklı havzalara taşınmasında pek çok isim, önemli görevler icra etmiştir. Örneğin; Hindistan'ın İslam'la tanışmasında Gazneli Mahmud'un katkısı büyüktür. Sa'd b. Ebi Vakkas, Amr b. As, Musa b. Nusayr ve Tarık b. Ziyad gibi komutanlar İran, Afrika ve Endülüs'e yaptıkları seferlerle önemli başarılar kazanmışlardır. Sultan Alparslan ise Anadolu'ya yaptığı seferlerle bu toprakların İslamlaşmasına vesile olmuştur. İmam Ebu Hanife, İmam Şâfiî, İmam Malik, İmam Eşari, İmam Maturidi, İmam Gazali gibi âlimler de eserleri ve yetiştirdikleri öğrencileri vesilesiyle İslam medeniyetinin sağlam temeller üzerinde yükselmesini sağlamışlardır.

Bu parçada anlatılan temel düşünce en genel şekilde aşağıdaki yargılardan hangisiyle ifade edilebilir?

A) İslam dininin yayılmasında hem âlimlerin hem de komutanların katkısı olmuştur.
B) İslam medeniyeti erken dönemde tüm Anadolu'ya hâkim olmuştur.
C) Türklerin İslam'ın yayılmasındaki etkisi büyüktür.
D) Hindistan, Selçuklu öncesi dönemde İslam'la tanışmıştır.
E) Askeri seferler İslam'ın yayılmasında yeterince etkili olamamıştır.

17. "Peygamberimiz ile birlikte oturduğumuz sırada biri gelip 'Hanginiz Muhammed`dir?' dedi. Allah'ın Resulü ashabı arasında duvara dayanmış oturuyordu. 'İşte dayanmış olan şu beyaz elbiseli kimsedir.' dedik. Adam 'Ey AbdülMuttalib`in oğlu!' diye hitap etti. Peygamberimiz 'Seni dinliyorum, buyur' dedi."

Bu durum Hz. Peygamber'in kişisel özelliklerinden hangisine örnektir?

A) Cesaretli oluşuna
B) Mütevazi oluşuna
C) Adil oluşuna
D) Affedici oluşuna
E) Kararlı oluşuna

18. İslam'ın ana kaynakları olan Kur'an-ı Kerim ve hadislerin bazıları daha kolay anlaşılırken bazılarının anlamı kapalıdır ve bu sebeple yoruma ihtiyaç duyulur. Bu ayet ve hadislerde geçen bazı kavram ve ifadeler farklı anlayış ve yorumların ortaya çıkmasında etkili olmuştur. Kur'an-ı Kerim'de benzer anlamlar içeren ya da birden fazla anlama gelen müteşabih ayetler vardır. Bu gibi ayetlerin anlaşılması ve yorumlanması farklı yorum biçimlerinin ortaya çıkmasına zemin hazırlamıştır. Mesela Kur'an'da bazı ayetlerde yer alan Allah'ın eli ve O'nun yüzü (zâtı) gibi ifadeler, bazı İslam âlimleri tarafından herhangi bir yoruma tabi tutulmadan Allah'ın (c.c.) insan gibi eli ve yüzü olduğu şeklinde anlaşılmış, kimi alimler de bu ifadeleri "Allah'ın (c.c.) kudreti" ve "Allah'ın (c.c.) zatı" şeklinde yorumlamayı tercih etmişlerdir.

Bu parça din anlayışlarındaki yorum farklılıklarının sebeplerinden hangisine örnek gösterilebilir?

A) Sosyal sebeplere
B) Siyasi sebeplere
C) İtikadi sebeplere
D) İnsan unsuruyla ilgili sebeplere
E) Dini metinlerden kaynaklanan sebeplere

19. Bir toplumun insanları tarafından benimsenmiş, tarihleri boyunca şekillenerek günümüze kadar gelmiş ve yaşatılmakta olan her türlü fikir, davranış ve kıymet değer kavramı ile ifade edilir. Değerler, millî ve manevi olarak iki başlık altında incelenebilir. Değerler insanları, insanlar da toplumsal değerleri şekillendirir. Değerler toplumun sahip olduğu kültürel yapıya anlam katar. Buna bağlı olarak birbirinden farklı milletler ve değerler ortaya çıkar.

Bu parçadan değerler ile ilgili aşağıdakilerden hangisi ulaşılabilir?

A) Evrensel olduklarına
B) Temellerinin ailede atıldığına
C) Hukuki ilkeler sayesinde korunduklarına
D) İnsanın özgürleşmesine katkı sağladıklarına
E) Bireysel ve toplumsal hayata yön verdiklerine

20. Farz ve nafile ibadetler başta olmak üzere bütün salih amellerin temel amacı kişiyi Rabbinin rızasına ulaştırmaktır. Yüce Allah'ın (c.c.) kullarının yapacakları ibadetlere ihtiyacı yoktur. Emirlerine uyulmamasının veya yasaklarından kaçınılmamasının da O'na herhangi bir zararı olamaz. İnsan Allah'a (c.c.) olan şükür borcunu yerine getirebilmek, yaratıcısına olan sevgi ve saygısını gösterebilmek için ibadetlere ihtiyaç duyar. İbadetler, insanın ruhunu yücelterek kötülüklerle arasına mesafe koymasını ve imanın kalpte kök salmasını sağlar. Çünkü ibadetler imanın hayata geçirilmesi ve tadına varılması demektir. Zira iman etmek insanı salih ameller işlemeye sevk eder, ibadetler de imanı kuvvetlendirir. İbadet her şeyden önce Allah (c.c.) emrettiği için ve sadece O'nun rızasını kazanmak niyetiyle yapılır.

Bu parçada ibadetle ilgili,

I. Günahlardan uzak tutar.
II. Kulu Rabbine yaklaştırır.
III. İnancın görünen yüzüdür.

yargılarından hangilerine değinilmiştir?

A) I ve II B) I ve III C) II ve III
D) Yalnız II E) I, II ve III

BİLGİ SARMAL

Bu testte sırasıyla, Tarih (1 – 5), Coğrafya (6 – 10), Felsefe (11 – 15), Din Kültürü ve Ahlak Bilgisi (16 – 20) dersi olmak üzere toplam 20 soru vardır.

1.

Justinianus Kanunları
Bir kimse diğerinin bedenine zarar verirse veya bir şey çalarsa zarar gören şahıs, zararın telafi edilmesini isteyebilir ve bu tazminat para ile ödenirdi. Örneğin el veya sopa ile kemik kırılmışsa ve zarar gören kişi hür ise 300, köle ise 150 Roma parası ödenir. Suçtan zarar gören kişinin tazminat dışında, işlenen suça karşılık başka ceza istemeye hakkı yoktur.

Doğu Roma İmparatorluğu'nda Justinianus (527-565) Dönemi'nde oluşturulan bu kanunlar dikkate alındığında,

I. Toplum içinde sınıfsal farklılıklar görülmektedir.

II. Kişilerin özgürlüğünü kısıtlayıcı cezalar uygulanmaktadır.

III. On İki Levha Kanunları'nın oluşturulmasında Bizans hukukundan faydalanılmıştır.

yorumlarından hangileri yapılabilir?

A) Yalnız I B) Yalnız II C) I ve II D) I ve III E) I, II ve III

2. Avrupa'da 1830 ve 1848 ihtilalleriyle mutlak monarşilerin yerini anayasal monarşilerin alması, bazı Osmanlı aydınlarında Osmanlı Devleti'nin de bu yönetime geçmesinin gerekli olduğu fikrini doğurmuştur. "Yeni Osmanlılar" olarak bilinen aydınlar, Osmanlı Devleti'nin sadece meşruti yönetim ile kurtulabileceğine inanmıştır. Meşrutiyet yönetimine geçiş için devletin siyasi, sosyal ve hukukî yapısında bazı değişikliklerin yapılması zorunluluğu üzerinde de durulmuştur. Bu amaçla Kanun-ı Esasi'nin ilan edilerek vatandaş haklarının kanun garantisine alınması ve Mebusan Meclisi'nin açılarak halka yönetimde haklar verilmesi hedeflenmiştir.

Buna göre, aşağıdaki değerlendirmelerden hangisi yapılamaz?

A) Osmanlı aydınları rejim değişikliği öngörmektedir.

B) Azınlıklara siyasi temsil hakkı verilmek istenmektedir.

C) Devletin sınırlarını korumak için yeni fikirler üretilmektedir.

D) Azınlık isyanları önlenmek istenmektedir.

E) Padişahın siyasi yetkileri tamamen elinden alınmak istenmektedir.

3. Bağımsızlığını ve egemenlik haklarını tek başına koruyamayan devletlerin, başka devletlerin yardımıyla siyasi varlığını korumaya çalışmasına "denge politikası" denir.

Bu bilgilere göre, aşağıdakilerden hangisinin "denge politikası" **çerçevesinde ortaya çıktığı söylenemez?**

A) 1798'de Fransa'nın Mısır'ı işgal etmesine karşılık İngiltere'nin Osmanlı'yı savunması

B) 1878 Berlin Antlaşması sonrası Osmanlı Devleti'nin Almanya yanlısı tutum sergilemesi

C) Mehmet Ali Paşa Sorunu'nda Osmanlı'nın Rusya'dan yardım istemesi

D) Osmanlı Devleti'nin "Yunanistan'a özerklik verilmesi" isteğini kabul etmemesi üzerine İngiltere, Fransa ve Rusya'nın 1827'de Navarin'de Osmanlı donanmasını yakması

E) Osmanlı Devleti ile İngiltere'nin Kale-i Sultaniye Antlaşması'nı imzalayarak savaş gemilerinin boğazlardan geçmelerini yasaklamaları

4. Temsilciler Kurulu'nun Sivas'tan Ankara'ya gitmek için hazırlığa başladığı dönemde yola çıkmak için yeterli paranın olmadığı anlaşılmıştı. Bunun üzerine Mazhar Kansu, Sivas'taki Osmanlı Bankası Müdürü Oscar Schimitt'ten, Bitlis eski valisi diye kendi adına 2 bin lira borç almıştı. Otomobiller için gerekli olan iki çift iç ve dış lastik ile altı teneke benzin de Amerikan Koleji'nin müdüründen sağlanmıştı. On gün süren yolculuk esnasında Mustafa Kemal'in de yer aldığı Temsilciler Kurulu, geçtikleri her şehir ve kasabada büyük bir coşkuyla karşılanmıştı.

Bu bilgilere göre Temsilciler Kurulu ile ilgili,

I. Sadece düşmana karşı mücadele vermemişlerdir.

II. Şahsi çıkarlarını ve isteklerini göz ardı etmişlerdir.

III. Dış devletlerin mali yardımlarını kabul etmemişlerdir.

yorumlarından hangileri yapılamaz?

A) Yalnız I B) Yalnız II C) Yalnız III D) I ve II E) II ve III

5. Yunanistan Başbakanı Venizelos ile Dışişleri Bakanı Mihalokopolos 26 Ekim 1930 tarihinde İstanbul'a geldi. Buradan özel bir trenle Ankara'ya hareket eden Venizelos ve Mihalokopolos 27 Ekim'de özel bir törenle karşılandı. Savaşlarla geçmişi olan Türkiye ile Yunanistan arasında 30 Ekim 1930'da Ankara'da Dostluk, Tarafsızlık, Uzlaşma ve Hakem Antlaşması imzalandı.

Bu bilgiler;

I. Yunanistan'ın Türkiye'nin iç işlerine karışmak istediğinin,

II. Türk-Yunan ilişkilerinin dostluğa dönmeye başladığının,

III. Türkiye'nin Misak-ı Millî ilkelerinden taviz verdiğinin

durumlarından hangilerinin göstergesi olabilir?

A) Yalnız I B) Yalnız II C) Yalnız III D) I ve II E) I, II ve III

6. Yer altı sularının yeryüzüne çıktığı yerlere kaynak denir. Kaynaklar; sularının sıcaklığına, kimyasal bileşimlerine ve yeryüzüne çıkış tarzlarına göre farklılık gösterir.

Buna göre;

I. artezyen,

II. yamaç,

III. fay,

IV. gayzer

kaynaklarının hangilerinin suları içerisinde eriyik halde bolca mineral bulunur?

A) I ve II B) I ve III C) II ve III D) II ve IV E) III ve IV

7. Aşağıdaki haritada yeryüzüne ait yıllık ortalama sıcaklık dağılışı gösterilmiştir.

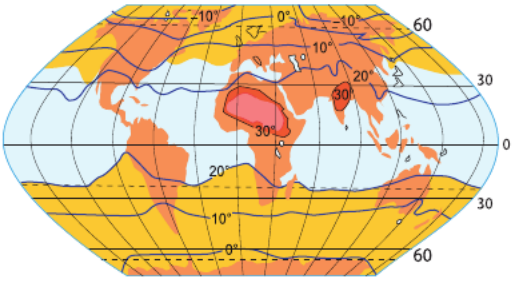

Buna göre Kuzey Yarım Küre'de yer alan 10 °C izoterminin, Kuzey Amerika Kıtası'nın doğusunda Ekvator'a doğru uzanmasının <u>temel nedeni</u> aşağıdakilerden hangisidir?

A) Peru soğuk su akıntısının soğutucu etkisi

B) Labrador soğuk su akıntısının soğutucu etkisi

C) Gulfstream sıcak su akıntısının ısıtıcı etkisi

D) Alaska soğuk su akıntısının soğutucu etkisi

E) Kyoşivo sıcak su akıntısının ısıtıcı etkisi

8. Göç toplumların hem sosyal hem de ekonomik yapısında değişiklikler meydana getiren nüfus hareketidir. Bu yerleşme hareketinde göç alan ve veren yerlerde çeşitli mekansal etkiler oluşmaktadır.

Aşağıdakilerden hangisi göç alan yerlerde ortaya çıkabilecek mekansal değişimler arasında sayılır?

A) Yetersiz konut sayısına bağlı olarak yeni yerleşim alanlarının oluşması

B) Boş kalan tarım alanlarının erozyona uğraması

C) Terk edilen yerleşmelerin zamanla harabeye dönüşmesi

D) Okulların kapanarak taşımalı eğitimin ortaya çıkması

E) Tarım ve hayvancılıkta üretimin azalması

BİLGİ SARMAL

9. I. İlk demir yolu hattı 19. yüzyıl başlarında İngiltere'de Manchester – Liverpool arasında faaliyete geçmiştir.

II. Deniz yoluyla kıyılara getirilen malların iç kesimlere taşınmasında demir yolları önem arz etmektedir.

III. Demir yolunda yük taşımacılığı deniz yoluna göre daha güvenli ve daha düşük maliyetlidir.

IV. Afrika'da demir yolu uzunluğu en fazla olan ülke Nijerya'dır.

Demir yolu ulaşımı ile ilgili yukarıda verilen bilgilerden hangileri yanlıştır?

A) I ve II B) I ve III C) II ve III D) II ve IV E) III ve IV

10. Aşağıdaki haritada bazı yerler numaralandırılarak gösterilmiştir.

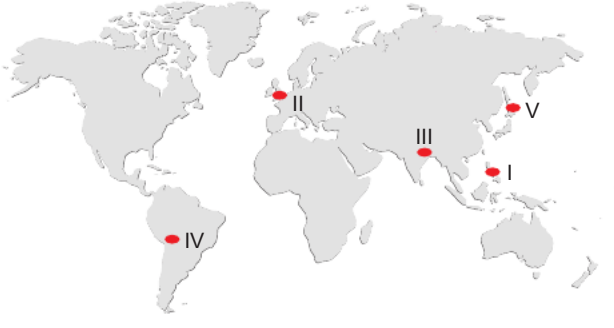

Haritada oluşan afetlerle ilgili aşağıdakilerden hangisi söylenemez?

A) I numaralı yerde bazı yıllar şiddetli kasırgalar meydana gelmektedir.

B) II numaralı yerdeki düzensiz yağışlar kuraklıklara neden olmaktadır.

C) III numaralı yerde sık sık sel ve taşkınlar yaşanmaktadır.

D) IV numaralı yerdeki dağlık araziden dolayı çığ afeti görülmektedir.

E) V numaralı yerde zaman zaman şiddetli depremler meydana gelmektedir.

11. 18. yüzyılın sonu ve 19. yüzyılın başlarında bilim alanında görülen bazı gelişmeler felsefeyi büyük bir krizle karşı karşıya bırakmıştır. Önce Kant felsefenin en önemli disiplini yani metafiziği hiçbir bilgi değeri olmayan bir soruşturma alanı olarak mahkum etmiştir. Pozitivizm hareketinin başlatıcısı Comte, felsefenin alanını deneysel olarak bize verilmiş olgularla sınırlandırmıştır. 20. yüzyılın analitik filozofları ise felsefe için mümkün ve meşru olan tek etkinliğin bilimin önermelerini çözümlemek ve onların anlamlarını açıklığa kavuşturmaktan ibaret olduğunu savunmuşlardır.

Bu parçadaki açıklamaya dayanarak aşağıdaki genellemelerden hangisini ulaşılır?

A) Felsefe alanındaki yeni değişme ve gelişmeler felsefenin tarihinden soyutlanarak anlaşılmaz.

B) Felsefenin konu evreninin ne olduğu her çağda tartışılmıştır.

C) Bilimsel gelişme ile felsefi gelişim arasında her zaman karşılıklı etkileşim yoktur.

D) Felsefe alanındaki yeni değişmeler ve gelişmeler bilimsel gelişmeyi hızlandırmaktadır.

E) Bilimdeki gelişmeler felsefenin konu evreni hakkında yeni ve farklı düşünceleri ortaya çıkarmıştır.

12. Sofistlerle birlikte felsefe, MÖ. 5.yy Atina'sında erken dönem doğa düşünürlerinin öne sürdüğü gibi nesnenin nihai ilkelerini bulmaya yönelik arkhe sorunu üzerine araştırma olmaktan çıkmış insanın ahlaki, siyasi, hukuki, dini ilkeler üzerine deneyimlerine dayalı düşündüğü bir etkinliğe dönüşmüştür.

Bu parçada Sofistlerin hangi yönü vurgulanmıştır?

A) Felsefenin konu alanını genişletmişlerdir.

B) Teorik konularla ilgilenmişlerdir.

C) Varlık problemini esas almışlardır.

D) Filozofların eğitimine önem vermişlerdir.

E) Felsefeyi evrenselleştirmişlerdir.

BİLGİ SARMAL

13. Dil, sadece düşüncelerimizi ilettiğimiz bir alet veya kendisiyle var olanı resmettiğimiz bir araç ya da sıkıldığımızda kendisinden vazgeçebileceğimiz bir oyun değildir. Daha kökensel biçimde varoluşsal olarak kendisiyle yapışık olduğumuz, kendisi aracılığıyla kişiliğimizi ve benliğimizi bulduğumuz, kısaca öz bilincimizi kazandığımız ve dünyamızı kurduğumuz yaratıcı ve oluşturucu bir etkinliktir. Kişi, tinsel dünyasını, dilsel dolayımda kişiselleştirebildiği ölçüde dile getirir ve dünyadaki varoluşunu anlamlı kılabilir.

Bu parçada vurgulanan düşünce aşağıdakilerden hangisidir?

A) Her toplumun dili farklıdır.

B) Dilin sınırları, bir anlamda bireyselliğin sınırlarını ifade etmektedir.

C) Dil sembollerden oluşan bir etkinliktir.

D) Dil düşüncenin üstünde ve onun belirleyicisidir.

E) Dil kültürün taşıyıcısıdır.

14.

- Akıl, deneye başvurmaksızın kendisinde bulunan sabit anlama kategorilerinden hareketle ve salt akıl yürütme yoluyla dış dünyanın bilgisine ulaşabilir.
- İnsan isterse "aklı"yla bütün gerçekliği kavrayabilir, hiçbir olgu ve gerçeklik aklın açıklaması ve kavrayışı dışında kalamaz.

Bu görüşlerin ortak yönü aşağıdakilerden hangisidir?

A) Bilginin tümel uzlaşım yoluyla oluşacağını kabul etmeleri

B) Bilginin göreceli olduğunu iddia etmeleri

C) Bilginin güvenilirliğini sorgulamaları

D) Bilgide duyu ve akıl iş birliğini vurgulamaları

E) Bilginin kaynağını düşünce olarak görmeleri

15. Yan yana duran biri kırmızı diğeri sarı iki elma olsun. Bu iki elma gerek fiziksel özellikleri gerekse mekânda kapladıkları yer ile birbirinden ayrılır. Ne var ki bu iki nesneyi işaret etmek için kullandığımız elma sözcüğü ile de bir birlik kazanır. Bu durumda elma sözcüğü ile sağladığınız birlik bu iki elma da gerçekten bulunur mu? Yoksa bu birlik fizik dünyada bulunmayan, ayrı bir varoluşa mı sahiptir? Ya da bu elmaların her ikisinin de birbirinden tamamen farklı olduğunu ve bizim onları kendisi altında topladığımız birliğin aslında bir nesnel gerçekliği olmadığını söylemek mi gerekir?

Bu parçada sözü edilenler MS 2. - MS 15. yüzyıl felsefesinin hangi problemine yöneliktir?

A) Tanrı'nın varlığını kanıtlama problemi

B) Tümeller problemi

C) Ruhun ölümsüzlüğü problemi

D) Bilginin kaynağı problemi

E) Kötülüğün kaynağı problemi

16. Surre alayı: Osmanlı zamanında hacılara dağıtılmak üzere Mekke ve Medine'ye gönderilen değerli eşya ve hediyeleri taşıyan kervanlara verilen isimdir. Bu kervanlar çeşitli merasimlerle yola çıkar ve belirlenen şehirlerde molalar vererek yoluna devam ederlerdi. Şam şehri de bu mola verilen şehirlerden biriydi.

Bu uygulamanın <u>öncelikli olarak</u> aşağıdakilerden hangisini hedeflediği söylenebilir?

A) Osmanlı'ya karşı girişilebilecek isyanları önlemeyi

B) Mekke şehrinin kutsiyetini korumayı

C) Türkler ile Araplar arasındaki ilişkileri geliştirmeyi

D) Dünya Müslümanlarının İstanbul'u başkent olarak kabullenmelerini sağlamayı

E) Müslümanlar arasındaki dayanışmayı güçlendirmeyi

BİLGİ SARMAL

17.
- "Gökyüzü yarıldığı, yıldızlar döküldüğü, denizler birbirine katıldığı, kabirlerin içindekiler dışarı çıkarıldığı zaman, insanoğlu (yapıp) gönderdiklerini ve (yapamayıp) geride bıraktıklarını bir bir anlar."

(İnfitâr; 1-5)

- "Kıyamet günü için adalet terazileri kuracağız. Öyle ki hiçbir kimseye zerre kadar zulmedilmeyecek. (Yapılan iş) bir hardal tanesi ağırlığınca da olsa, onu getirip ortaya koyacağız. Hesap görücü olarak biz yeteriz."

(Enbiyâ; 47)

Bu ayetler aşağıdaki kavramlardan hangisiyle daha yakından ilişkilidir?

A) Nübüvvet B) Ahiret C) Risalet D) İhsan E) İbadet

18. "Allah'ın ismine sığınıyor ve Allah'a tevekkül ediyorum. Allah'ım, doğru yoldan sapmaktan ve saptırılmaktan kaymaktan ve kaydırılmış olmaktan haksızlık etmekten ve haksızlığa uğramaktan, saygısızlık etmekten ve saygısızlığa uğramaktan sana sığınırım."

(Tirmizi, Deâvât, 35)

Bu hadisten Müslüman ile ilgili aşağıdaki düşüncelerden hangisine ulaşılamaz?

A) Zarar görmekten kaçındığı gibi başkalarına zarar vermekten de kaçınmalıdır.

B) Elinden gelen gayreti gösterdikten sonra takdiri Rabbine bırakmalıdır.

C) Ben merkezli bir yaklaşımla toplumsal ilişkilerini yürütmelidir.

D) Hidayet üzere yaşamak temel gayelerinden birisi olmalıdır.

E) Dinin ahlaki emirleri çerçevesinde bir hayat sürmelidir.

19. "Allah, insanın bedenini ölçülü yarattığı hâlde ahlakını geliştirmeyi onun kendi çabasına bırakmıştır."

(İmam-ı Gazzâli)

Bu sözden ahlak ile ilgili aşağıdakilerden hangisine ulaşılamaz?

A) İnsanda davranış ve tercihlere bağlı olarak şekillenir.

B) Geliştirilmesi için emek sarf etmek gerekir.

C) İradeyle ilişkilidir.

D) Dini değerler ile bağlantısı yoktur.

E) Gelişimi insanın sorumluluğuna bırakılan değerlerdir.

20. Bir zaman bir göçebe (bedevi) Arap, Hz. Peygambere gelerek ondan alacağını istedi. Hz. Peygamberi çok sıkıştırdı ve hatta: "Alacağımı ödeyinceye kadar yakanı bırakmayacağım." dedi. Orada bulunan sahâbeler onu bu yaptığından vazgeçirmek amacıyla: "Azap olunasıca! Sen kiminle konuştuğunu biliyor musun?" dedilerse de bedevi: "Ben hakkımı istiyorum!" dedi. Hz. Peygamber ise ashâbına: "Hak sahibinin yanında yer almanız gerekmez miydi?" buyurdular. Hz. Peygamber daha sonra Havle binti Kays'a haber göndererek: "Eğer elinde hurma varsa bize biraz borç versin. Hurmalarımız geldiğinde borcunu öderiz." dedi. O da: "Anam babam sana feda olsun ey Allah'ın Resûlü!" dedi ve Hz. Peygamber'in istediği kadar hurma gönderdi. Böylece Hz. Peygamber bedevinin borcunu fazlasıyla ödedi. Bunun üzerine adam: "Sen nasıl borcunu hakkıyla ödediysen, Allah da sana hakkıyla mükâfat versin!" dedi. Hz. Peygamber de şöyle buyurdular: "İnsanların en hayırlısı onlara hakkını verendir. Hak sahiplerinin haklarını zahmetsizce almadığı bir millette hayır yoktur ve o millet iflah olmaz."

Bu parçada İslam'da yerilen;

I. İftira atmak,

II. Yalan söylemek,

III. Sevdiğini, hak sahibine tercih etmek

davranışlarından hangilerine yönelik bir uyarıda bulunulmuştur?

A) I ve II B) I ve III C) II ve III D) Yalnız III E) I, II ve III

BİLGİ SARMAL

Bu testte sırasıyla, Tarih (1 – 5), Coğrafya (6 – 10), Felsefe (11 – 15), Din Kültürü ve Ahlak Bilgisi (16 – 20) dersi olmak üzere toplam 20 soru vardır.

1. Hz. Ebu Bekir, halifeliğinin ilk zamanlarında bazı kabilelerle Ridde Savaşları'nı yapmış ve bu kabileleri itaat altına alarak ülke içerisinde birlik ve düzeni sağlamıştır. Arabistan toprakları dışına seferler düzenlemiş ve Suriye'nin fethi sırasında Bizans'la yapılan Ecnâdeyn Savaşı'nda (634) önemli bir zafer kazanmıştır.

Hz. Ebu Bekir Dönemi'ndeki bu gelişmelerin;

I. dinden dönme olaylarının engellenmesi,
II. merkezî otoritenin güçlenmesi,
III. cihat anlayışının terk edilmesi

durumlarından hangilerinin ortaya çıkmasına zemin hazırladığı söylenebilir?

A) Yalnız I B) I ve II C) I ve III
D) II ve III E) I, II ve III

2. Osmanlı Devleti'nde loncalar, üyelerine maddi destek sağlamak, yaşlılık, hastalık veya sakatlık sonucu iş göremez duruma düşmüş üyelerin geçimlerine destek olmak için orta sandığı veya teavün sandığı kurmuşlardır. Üyeler; ticarethanelerinin ıslahı, sanatlarının geliştirilmesi veya aletlerinin yenilenmesi için gerekli parayı da sandıktan borç olarak almıştır. Ayrıca loncalar, toplumda felakete maruz kalanlara da yardım etmişler, güvenliği sağlamışlar, gezgin ve misafirlere ziyafet vermişler, türkü ve oyunlarla halkın hoş vakit geçirmesini sağlamışlardır.

Bu bilgilere göre lonca teşkilatının aşağıdakilerden hangisinin geliştirilmesine katkı sağladığı söylenemez?

A) Sosyal güvenlik sisteminin oluşturulması
B) Esnaflar arasında birlik sağlanması
C) Çifthane sisteminin uygulanması
D) Asayişin sağlanması
E) Sosyal adaletin gerçekleştirilmesi

3. 23 Nisan 1920'de Büyük Millet Meclisi'nin açılmasıyla;

- ulusal bağımsızlığın sağlanması,
- ulusal iradenin egemen kılınması amaçlanmıştır.

Buna göre;

I. Saltanatın kaldırılması,
II. düzenli ordunun kurulması,
III. kapatılan Mebusan Meclisi'ndeki milletvekillerinin de yeni meclisin çalışmalarına doğrudan katılabilmesi

gelişmelerinden hangilerinin, TBMM'nin açılış amacı doğrultusunda ortaya çıktığı savunulabilir?

A) Yalnız I B) Yalnız II C) I ve II
D) II ve III E) I, II ve III

4. Kuvay-ı Millîye birlikleri düzenli ordu kuruluncaya kadar Yunan ilerleyişini yavaşlattı, işgallerin iç kesimlere yayılmasını engelledi ve halka moral vererek millî bilincin gelişmesine katkıda bulundu. Ancak bu milis güçlerden bazıları ihtiyaçlarını karşılamak için halktan zorla para ve erzak topluyor, vermek istemeyenleri cezalandırıyor, halkla zaman zaman çatışıyordu. Bu durum halkın bir kısmının Kuvay-ı Millîyeden uzaklaşmasına yol açarken İstanbul Hükûmetine de yıkıcı propaganda fırsatı veriyordu.

Tüm bunların yanında Haziran 1920'de başlayan Yunan saldırısı ve 10 Ağustos 1920'de Sevr Antlaşması'nın imzalanması TBMM'de;

I. Yunanlılara karşı İtilaf Devletleriyle uzlaşma yollarının aranmasının zorunlu hâle gelmesi,
II. Kuvay-ı Millîye ile yola devam edilemeyeceğinin anlaşılması,
III. düzenli ordunun kurulması fikrinin kabul görmesi

düşüncelerinden hangilerinin ortaya çıkmasında etkili olmuştur?

A) Yalnız I B) Yalnız II C) I ve II
D) II ve III E) I, II ve III

BİLGİ SARMAL

Diğer Sayfaya Geçiniz.

5. Lozan Antlaşması'ndan sonra Musul sorununun çözümünde İngiltere'nin çeşitli yollarla Türkiye'ye yaptığı baskı ve Fransa ile Suriye sınırının çizilmesi konusunda yaşanan sorunlar Türkiye'nin Sovyet Rusya ile yakınlaşmasında etkili olmuştur.

Bu bilgilere göre Türk dış politikasında aşağıdakilerden hangisinin benimsendiği söylenebilir?

A) Yayılmacı diplomasi
B) Denge siyaseti
C) Laik yönetim
D) Yalnızlık politikası
E) Mandaterlik sistemi

6.

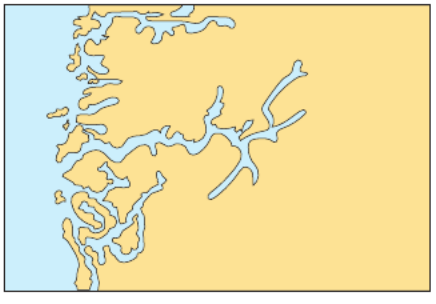

Yukarıda eski buzul vadilerinin yükselen deniz suları altında kalması sonucu oluşan fiyort kıyı tipi gösterilmiştir.

Coğrafi konumları dikkate alındığında bu kıyı tipi aşağıdaki ülkelerin hangisinde görülür?

A) İtalya B) Malezya C) Norveç
D) Brezilya E) İran

7.

- Yağışın fazla olması, mineraller ve humusun toprağın alt kısımlarına taşınmasına neden olmuştur.
- Demir oksit bakımından zengin olan bu toprak kızıl renktedir.
- Yoğun bitki örtüsüne sahip olmasına rağmen aşırı yıkanma ve canlıların humusu tüketmesi nedeniyle organik madde bakımından fakirdir.

Yukarıda bazı özellikleri verilen toprak aşağıdakilerden hangisidir?

A) Podzol topraklar
B) Tundra toprakları
C) Çöl toprakları
D) Terra rossa toprakları
E) Laterit toprakları

8. Bir yerin coğrafi koşulları ile o yerdeki konutlarda kullanılan yapı malzemesi arasında büyük benzerlik vardır. Örneğin bitki örtüsünün zayıf olduğu alanlarda kerpiç evler daha yaygın iken, ormanlık alanlarda ahşap evler daha yaygındır.



Buna göre haritada numaralı alanların hangisinde kerpiç evler yaygındır?

A) I ve II B) I ve III C) II ve III
D) II ve IV E) III ve IV

9. Nüfus piramitleri, sosyoekonomik açıdan gelişmemiş bir ülkenin gelişmiş bir ülkeye dönüşme sürecini de aynı zamanda gösterir.

Buna göre, aşağıdaki nüfus piramitlerinden hangisi bir ülkenin ilk yaşadığı piramiti gösterir?

A)
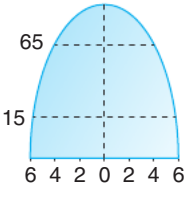

B)
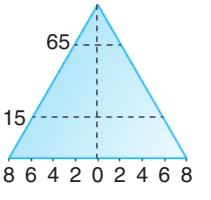

C)
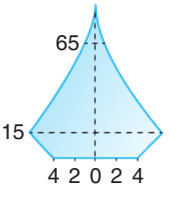

D)
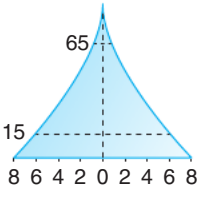

E)
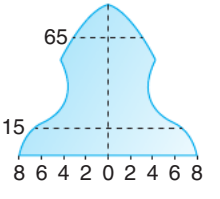

10. Yaz mevsiminin sıcak ve kurak geçtiği bölgelerde orman yangınları sıklıkla görülür.

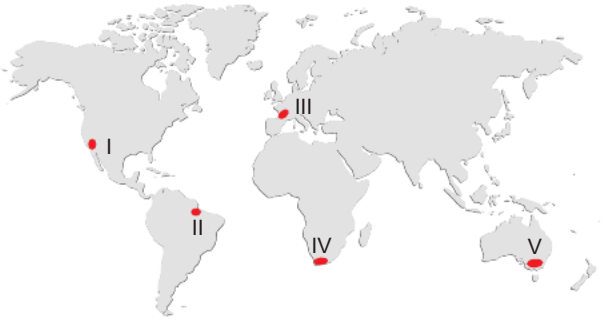

Buna göre, haritada numaralı alanların hangisinde orman yangını tehlikesi diğerlerinden daha azdır?

A) I B) II C) III D) IV E) V

11. Bir iddia ortaya atan kişiler sözünün ciddiye alınmasını ister. Ne oranda ciddiye alınacağı elbette ki pek çok koşula bağlıdır; mesela kişilerin fiziksel özellikleri ve genel güvenilirliği bunlardan birkaçıdır. Bazı insanların sözleri dürüstlüğünden dolayı kolaylıkla kabul edilir. Fakat tüm bu iddialarında bizim güvenimizi kazanma hakları olduğu anlamına gelmez. Kişilerin sözleri ancak sağlam dayanaklara sahipse güvenimizi hak eder.

Bu parçada güvenilir bilgi için aşağıdakilerden hangisinin gerekliliğinden söz edilmiştir?

A) Analojiden yararlanmanın
B) Temellendirme yapmanın
C) Tümevarımsal akıl yürütmenin
D) Çelişkili çıkarımlardan uzak durmanın
E) Basit ve açık kavramlar kullanmanın

12. Felsefi düşünce, mevcut dar görüşlülükleri, dogmatizmleri ve kısıtlamaları aşma konusunda uyarıcı ve değiştirici bir işleve sahiptir. Bu nedenle felsefe gerek bireylere gerekse topluma, özgürce düşünmenin, sorgulamanın, farklı düşüncelere saygılı ve hoşgörülü davranmanın yolunu açar. Bunun koşullarının oluşmasına yardımcı olur ve bir diyalog ortamının şekillenmesini sağlar.

Bu parçada felsefenin hangi işlevinden söz edilmiştir?

A) Kavram çözümlemesi yapması
B) Bilimlere konu alanı yaratacak soruları sorması
C) Kesin bilgiler ortaya koyması
D) Tutarlı düşünme yöntemleri geliştirmesi
E) Değerlerin yerleşik hale gelmesine aracılık etmesi

13. Dil sayesinde oluşan bir ortak alan olmadığı takdirde, yani hem dil hem de dilin oluşturduğu kültürel alan olmadığı takdirde, insan kendi sübjektif dünyasına, kendi iç âlemine kapanacak ve kendi dışına çıkma imkânı bulamayacaktır. Oysa insan, bir öz bilinç varlığı olmak bakımından, kendi yalnızlığı içerisinde kendi kendini kuramaz. O, insan varlığı olmak uğruna kendi dışına açılmak, başkalarına atılmak, kendi subjektif alanının dışına taşmak zorundadır. İnsan için kendi subjektif alanının dışına çıkmak, duygularını, düşüncelerini nesnelleştirmek demektir. Bunun yolu da dile sahip olmak veya dili kullanmaktan geçer.

Bu parçadaki görüşler 20. yy felsefesinin hangi yaklaşımı ile ilişkilendirilebilir?

A) Yeni ontoloji
B) Mantıkçı pozitivizm
C) Hermeneutik
D) Fenomenoloji
E) Diyalektik materyalizm

BİLGİ SARMAL

14. Zihnim, doğadan topladığım gerçekleri genel geçer yasalara dönüştüren bir çeşit makineye dönüştü.

Darwin'in bu görüşleri bilimin hangi özelliği ile ilişkilendirilebilir?

A) Evrensel olması
B) Olgusal olması
C) Nesnel olması
D) Pratik olması
E) Tutarlı olması

15. Orhan Pamuk'un son romanı *Veba Geceleri* edebi bir yapıt olarak roman için bazen fazla gereksiz detay ve bilgi içermesine rağmen Pamuk, vebanın tıbbi boyutu yanında, tarihsel, toplumsal ve politik perspektif içinden hastalığın bu boyutlarını ortaya koyuyor. Benzer bir şekilde roman yıkılmak üzere olan Osmanlı İmparatorluğu'nun 20. yüzyıl başındaki merkez ve taşra bürokrasini bütün zaaflarıyla tarif ediyor. Bu açıdan romanın belli sayfalarında bir tür 'belge roman' üslubunun hissedildiğini de söylemek mümkün.

Bu parçaya göre sanat için aşağıdakilerden hangisi söylenebilir?

A) Toplumsal problemlerden kopuk değildir.
B) Yazarın yetenekleri üzerine kuruludur.
C) Sanatçının deneyimleri belirleyicidir.
D) Topluma farklı ve özgün bakış açıları kazandırır.
E) Yerel olan evrensel olanla ifade edilir.

16.

- "Şüphesiz Allah, kendisine karşı gelmekten sakınanlar ve iyilik yapanlarla beraberdir."

(Nahl; 128)

- "Nerede olursan ol, Allah'a karşı sorumluluğunun bilincinde ol! Kötülüğün peşinden iyi bir şey yap ki onu yok etsin. İnsanlara da güzel ahlaka uygun biçimde davran!"

(Tirmizî, Birr, 55)

Bu dini metinler ortak olarak aşağıdaki kavramlardan hangisi ile ilişkilidir?

A) Cihat B) Fıtrat C) Takva
D) Risalet E) İstiğfar

17. Kur'an-ı Kerim'de abdest, namaz, oruç, zekât, hac, kurban gibi ibadetlerle ilgili çeşitli ayetler vardır. Ancak bu ibadetlerin nasıl yerine getirileceği yüce kitabımızda ayrıntılı bir şekilde açıklanmaz. Peygamber Efendimiz (s.a.v.) ibadetlerin yapılışını hem uygulamalarıyla hem de çeşitli açıklamalarıyla insanlara öğretmiştir. Örneğin bir hadisinde, "Ben namazı nasıl kılıyorsam siz de öyle kılın." buyurmuştur.

Bu durum Hz. Peygamber'in;

I. Tebyin
II. Temsil
III. Teşri

görevlerinden hangileriyle ilgilidir?

A) Yalnız I B) Yalnız II C) Yalnız III
D) I ve II E) II ve III

BİLGİ SARMAL

18. İslam ahlakının kaynağı Kur'an-ı Kerim ve Hz. Peygamberdir. Kur'an'ın yaşama geçirilmiş hâli Hz. Peygamberin uygulamalarıdır. Hz. Aişe'ye (r.a) Hz. Muhammed'in (s.a.v.) ahlakı sorulunca o: "Siz Kur'an okumuyor musunuz? O'nun ahlakı Kur'an'dı.'' cevabını vermiştir. Hz. Peygamberin ahlakının üstün bir ahlak olduğu Kur'an-ı Kerim'de de belirtilmiş, bu üstün ahlakın model olarak alınması gerektiği vurgulanmıştır.

Bu parça aşağıdaki ayetlerden hangisiyle desteklenebilir?

A) "Peygamber, sizi, Rabbinize iman etmeniz için davet edip dururken size ne oluyor da Allah'a iman etmiyorsunuz? Hâlbuki (Allah ezelde) sizden sağlam bir söz de almıştı. Eğer inanacak kimselerseniz (bu çağrıya uyun)."

(Hadîd; 8)

B) "Andolsun, Allah'ın Resülünde sizin için; Allah'a ve ahiret gününe kavuşmayı uman, Allah'ı çok zikreden kimseler için güzel bir örnek vardır."

(Ahzâb; 21)

C) "İşte böyle! Onlardan öncekilere hiçbir peygamber gelmemişti ki,"O bir büyücüdür." yahut "bir delidir." demiş olmasınlar."

(Zâriyât; 52)

D) "Yazık o kullara! Kendilerine bir peygamber gelmezdi ki, onunla alay ediyor olmasınlar."

(Yâsîn; 30)

E) "Senden önce gönderdiğimiz bütün peygamberlere, "Şüphesiz, benden başka hiçbir ilah yoktur. Öyleyse bana ibadet edin." diye vahyetmişizdir."

(Enbiyâ; 25)

19. Hz. Peygamber genç yaşına rağmen İslam'dan önceki sosyal ve iktisadi hayatı iyileştirmeye yönelik bazı faaliyetlerde bulunmuştur. Örneğin o, Mekke ve çevresinde ticari faaliyetlerle ilgili konularda güvensizlik ortamını önlemek amacıyla kurulan Hılfu'l Fûdûl'a kendi isteğiyle katılmıştır. Bu yolla Hz. Muhammed (s.a.v.), başta Ebû Cehil olmak üzere, çevreden gelen tacirleri ezmek, kandırmak ve çeşitli hilelerle mallarına el koymak isteyenlerin kötü davranışlarına engel olmaya çalışmıştır.

Bu parçada anlatılan olayın aşağıdakilerden hangisini engellemeyi amaçladığı söylenebilir?

A) Haksızlık ve adaletsizliği

B) Kıskançlık ve hasedi

C) Irkçılığı

D) Kibri

E) Gıybet ve laf taşımayı

20. Hz. Peygamber insanların dünya ve ahiret saadetini elde edebilmeleri adına Allah (c.c.) tarafından görevlendirilmiş bir elçidir ve Kur'an'ın ifadesiyle onlar için en güzel örnektir. Bu durum ona bazı sorumluluklar yüklemiştir. Zira Hz. Muhammed'in (s.a.v.) kendisinin uygulamayıp da insanlardan istediği bir ilahi mesajın varlığından söz edilemez. O, Rabbine karşı kulluk görevlerinden toplumsal yaşamı düzenleyen ahlaki ilkelere kadar Allah'tan (c.c.) aldığı tüm emirleri insanlara sözlü olarak iletmiş, anlatmış, bunların nasıl yapılacağını ise bizzat kendi hayatında tatbik ederek göstermiştir.

Bu metinde Hz. Muhammed ile ilgili aşağıdakilerden hangisine değinilmemiştir?

A) Kur'an'ı açıkladığına

B) Dini yaşayarak anlattığına

C) İbadetlerden sorumlu olduğuna

D) Allah tarafından rol model gösterildiğine

E) Son peygamber olarak görevlendirildiğine

BİLGİ SARMAL

BİLGİ SARMAL
TYT SOSYAL BİLİMLER
BRANŞ DENEMELERİ

DENEME

Doğru Sayıları	Yanlış Sayıları

DENEME-1 - KONU / KAZANIM		DENEME-2 - KONU / KAZANIM	
01	Türklerde Coğrafya ile Oluşan Yaşam Tarzı	01	Türklerde Coğrafya ile Oluşan Yaşam Tarzı
02	Büyük Selçuklu Devleti'nde Yönetim ve Toplum Yapısı	02	Büyük Selçuklu Devleti'nde Yönetim ve Toplum Yapısı
03	Osmanlı Devleti'nde Demokratikleşme Hareketleri	03	Dünya Gücü Osmanlı (1453-1600)
04	İşgallerin Başlaması ve Millî Mücadeleye Hazırlık	04	Mondros Ateşkes Anlaşması
05	Türk İnkılabı	05	Türk İnkılabı
06	Bir Bilim Olarak Coğrafya	06	Dünya'nın Yıllık Hareketi ve Sonuçları
07	Yeryüzünün Su Varlığı	07	Türkiye İklimi
08	Nüfus Piramitleri	08	Dünyada Nüfusun Dağılışı
09	Bölge Sınırlarının Değişebilirliği	09	Uluslararası Ulaşım Hatlarının Genel Özellikleri ve Etkileri
10	Afetlerin Genel Özellikleri	10	Afetlerin Genel Özellikleri
11	Felsefeyi Tanıma	11	Felsefe Tanıma
12	MS 6. yy – MS 2. yy Felsefesi	12	Sanat Felsefesi
13	Bilim Felsefesi	13	Felsefe ile Düşünme
14	Siyaset Felsefesi	14	15.yy - 17. yy Felsefesi
15	Bilgi Felsefesi	15	MS 2. yy - 15. yy Felsefesi
16	Bilgi ve İnanç	16	İslam'da İbadetlerin Temel İlkeleri
17	Din ve İslam	17	Bilgi ve İnanç
18	İslam İnancında İmanın Mahiyeti	18	Din ve İslam
19	Gençlerin Kişilik Gelişiminde Değerlerin Yeri ve Önemi	19	Bilgi ve İnanç
20	Allah İnsan İlişkisi	20	İnsanın Allah ile İrtibatı

DENEME DÖNÜTLERİM

Eksik Olduğum Konular

KENDİME NOTUM

BİLGİ SARMAL
TYT SOSYAL BİLİMLER
BRANŞ DENEMELERİ

DENEME

Doğru Sayıları	Yanlış Sayıları

DENEME-3 - KONU / KAZANIM		DENEME-4 - KONU / KAZANIM	
01	Boylardan Devlete	01	Türklerde Coğrafya ile Oluşan Yaşam Tarzı
02	Osmanlının Kalbi: Topkapı Sarayı	02	Tımar Sistemi
03	Osmanlı Devleti'nde Demokratikleşme Hareketleri	03	Uzun Savaşlardan Diplomasiye
04	İşgallerin Başlaması ve Millî Mücadele	04	İşgallerin Başlaması ve Millî Mücadeleye Hazırlık
05	Atatürk Dönemi Türk Dış Politikası (1923-1938)	05	Atatürk İlkeleri
06	Dünya'nın Şekli ve Hareketleri	06	Coğrafyanın Bölümlenmesi
07	Dış Kuvvetler	07	Türkiye'de Başlıca Yüzey Şekilleri
08	Türkiye'de Yerleşme	08	Nüfusun Genel Özellikleri
09	Bölge ve Bölge Türleri	09	Bölge ve Bölge Türleri
10	Afetlerin Özellikleri	10	Afetlerin Dağılışı
11	Felsefeyi Tanıma	11	Felsefeyi Tanıma
12	Bilim Felsefesi	12	Bilim Felsefesi
13	Siyaset Felsefesi	13	Siyaset Felsefesi
14	Bilgi Felsefesi	14	Varlık Felsefesi
15	Varlık Felsefesi	15	18. yy - 19. yy Felsefesi
16	İslam Ahlakında Yerilen Bazı Davranışlar	16	Bilgi ve İnanç
17	Ahlaki Tutum ve Davranışlar	17	İslam'da Bilginin Kaynakları
18	Ahlaki Tutum ve Davranışlar	18	İslam ve İbadet
19	Kur'an'a Göre Hz. Muhammed	19	Hz. Muhammed ve Gençlik
20	Ahlaki Tutum ve Davranışlar	20	İslam'da İbadet ve Kapsamı

DENEME DÖNÜTLERİM

Eksik Olduğum Konular

KENDİME NOTUM

BİLGİ SARMAL
TYT SOSYAL BİLİMLER
BRANŞ DENEMELERİ

DENEME

Doğru Sayıları	Yanlış Sayıları

DENEME-5 - KONU / KAZANIM		DENEME-6 - KONU / KAZANIM	
01	Diğer Türk Devlet ve Toplulukları	01	İnsanlığın İlk İzleri
02	Toplumun Harcı, Millet Sistemi	02	Büyük Selçuklu Devleti (1040-1157)
03	Osmanlı Devleti'nde Demokratikleşme Hareketleri	03	Uzun Savaşlardan Diplomasiye
04	I. Dünya Savaşı (1914-1918)	04	İşgallerin Başlaması ve Millî Mücadeleye Hazırlık
05	Atatürk Dönemi İç Politikadaki Gelişmeler	05	Atatürk İlkeleri
06	Atmosfer ve Hava Olayları	06	Haritaların Genel Özellikleri
07	Türkiye'de İklim Tipleri	07	Basınç ve Rüzgârlar
08	Ekonomik Faaliyetlerin Temel Özellikleri	08	Göç Türleri
09	Bölge ve Bölge Türleri	09	Bölge ve Bölge Türleri
10	Afetlerin Dağılışı	10	Afetlerin Dağılışı ve Afetlerden Korunma Yolları
11	Felsefeyi Tanıma	11	Felsefeyi Tanıma
12	Varlık Felsefesi	12	Bilim Felsefesi
13	MS 6. yy – MS 2. yy Felsefesi	13	Siyaset Felsefesi
14	Din Felsefesi	14	Sanat Felsefesi
15	Bilgi Felsefesi	15	Ahlak Felsefesi
16	Bilgi ve İnanç	16	Gençlik ve Değerler
17	Din ve İslam	17	Kur'an'a Göre Hz. Muhammed
18	İslam ve İbadet	18	İyi, Doğru ve Güzel Davranış: Salih Amel
19	Allah İnancı ve İnsan	19	Kur'an'da Bazı Kavramlar
20	İslam Ahlakının Kaynakları	20	Allah ve İnsan İlişkisi

DENEME DÖNÜTLERİM

Eksik Olduğum Konular

KENDİME NOTUM

BİLGİ SARMAL
TYT SOSYAL BİLİMLER
BRANŞ DENEMELERİ

DENEME

Doğru Sayıları	Yanlış Sayıları

DENEME-7 - KONU / KAZANIM		DENEME-8 - KONU / KAZANIM	
01	İslamiyet'in Türk Devlet ve Toplum Yapısına Etkisi	01	Boylardan Devlete
02	Oğuz Göçleri ve Anadolu	02	Toplumun Harcı Millet Sistemi
03	XIX. Yüzyılda Sosyal Hayattaki Değişimler	03	Osmanlı'da Toprak Mülkiyeti ve Çifthane Sistemi
04	İşgallerin Başlaması ve Millî Mücadele'ye Hazırlık	04	I. Dünya Savaşı (1914-1918)
05	Türk İnkılabı	05	Toplumsal Alanda Yapılan İnkılaplar
06	Doğa ve İnsan Etkileşimi	06	Bir Bilim Olarak Coğrafya
07	İç Kuvvetler	07	Türkiye'de Topraklar
08	Dünya'da Nüfusun Dağılışı	08	Türkiye'de Nüfusun Yapısal Özellikleri
09	Hava Yolları	09	Uluslararası Ulaşım Hatlarının Genel Özellikleri ve Etkileri
10	Afetlerin Dağılışı	10	Afetlerin Dağılışı
11	Felsefeyi Tanıma	11	Felsefeyi Tanıma
12	Sanat Felsefesi	12	Bilgi Felsefesi
13	Varlık Felsefesi	13	Sanat Felsefesi
14	Siyaset Felsefesi	14	20. yy Felsefesi
15	18. yy – 19. yy Felsefesi	15	Bilim Felsefesi
16	Bilgi ve İnanç	16	Gönül Coğrafyamız
17	Allah'ın İsim ve Sıfatları	17	Ahlaki Tutum ve Davranışlar
18	İslam'da İbadetin Amacı ve Önemi	18	Temel Değerler
19	Ahlaki Tutum ve Davranışlar	19	Dinin Tanımı ve Kaynağı
20	Ahlaki Tutum ve Davranışlar	20	Gönül Coğrafyamız

DENEME DÖNÜTLERİM

Eksik Olduğum Konular

KENDİME NOTUM

BİLGİ SARMAL
TYT SOSYAL BİLİMLER
BRANŞ DENEMELERİ



DENEME

Doğru Sayıları	Yanlış Sayıları

DENEME-9 - KONU / KAZANIM		DENEME-10 - KONU / KAZANIM	
01	Boylardan Devlete	01	İnsanlığın İlk İzleri
02	İslamiyet'in Türk Devlet ve Toplum Yapısına Etkisi	02	Türklerde Coğrafya ile Oluşan Yaşam Tarzı
03	Uzun Savaşlardan Diplomasiye	03	Ekonomiyi Düzeltme Çabaları
04	İşgallerin Başlaması ve Millî Mücadele'ye Hazırlık	04	Ekonomi Alanındaki Gelişmeler
05	Ekonomi Alanındaki Gelişmeler	05	İki Savaş Arası Dönemde Dünya
06	Dünya'nın Şekli ve Sonuçları	06	Toprak Çeşitleri
07	İklim Elemanları	07	Zaman Kavramı
08	Türkiye'de Nüfusun Dağılışı	08	Göçler ve Göçlerin Nedenleri
09	Bölge ve Bölge Türleri	09	Uluslararası Ulaşım Hatlarının Genel Özellikleri ve Etkileri
10	Afetlerin Özellikleri ve Dağılışı	10	Afetlerin Genel Özellikleri
11	15. yy – 17. yy Felsefesi	11	Sanat Felsefesi
12	Sanat Felsefesi	12	Varlık Felsefesi
13	15. yy – 17. yy Felsefesi	13	18. yy – 19. yy Felsefesi
14	Bilim Felsefesi	14	Ahlak Felsefesi
15	15. yy – 17. yy Felsefesi	15	20. yy Felsefesi
16	İslam Düşüncesinde Siyasi - İtikadi ve Fıkhi Yorumlar	16	İslam ve Din
17	Ahlaki Tutum ve Davranışlar	17	Hz. Muhammed'e Bağlılık ve İtaat
18	Dini Meselelerin Çözümünde Temel İlke ve Yöntemler	18	Din ve Hayat
19	İslam ve İbadet	19	İslam Ahlakında Yerilen Bazı Davranışlar
20	Sağlık ve Tıpla İlgili Bazı Meseleler	20	Bilgi ve İnanç

DENEME DÖNÜTLERİM

Eksik Olduğum Konular

KENDİME NOTUM

BİLGİ SARMAL
TYT SOSYAL BİLİMLER
BRANŞ DENEMELERİ

DENEME

Doğru Sayıları	Yanlış Sayıları

DENEME-11 - KONU / KAZANIM		DENEME-12 - KONU / KAZANIM	
01	Diğer Türk Devlet ve Toplulukları	01	Büyük Selçuklu Devleti'nde Yönetim ve Toplum Yapısı
02	Türklerin İslamiyet'i Kabulü	02	Fetihle Gelen Dönüşüm
03	Halk Kültürü ve Kitabî Kültür	03	Uzun Savaşlardan Diplomasiye
04	Atatürk Dönemi Türk Dış Politikası (1923-1938)	04	İşgallerin Başlaması ve Millî Mücadele
05	Eğitim ve Kültür Alanında Yapılan İnkılaplar	05	Atatürk İlkeleri
06	Türkiye'de Bitkiler	06	Bir Bilim Olarak Coğrafya
07	Türkiye'de Su Kaynakları	07	Yeryüzünde İklim Tipleri
08	Nüfus Piramitleri	08	Nüfus Piramitleri
09	Bölge ve Bölge Türleri	09	Bölge ve Bölge Türleri
10	Afetlerin Dağılışı ve Afetlerden Korunma Yolları	10	Afetlerin Genel Özellikleri
11	Felsefeyi Tanıma	11	Bilim Felsefesi
12	Felsefeyi Tanıma	12	MS 2. yy - 15. yy Felsefesi
13	Ahlak Felsefesi	13	Bilgi Felsefesi
14	Bilim Felsefesi	14	Varlık Felsefesi
15	Bilim Felsefesi	15	Ahlak Felsefesi
16	Ahlaki Tutum ve Davranışlar	16	Allah İnsan İlişkisi
17	Allah ve İnsan İlişkisi	17	İslam İnancında İmanın Mahiyeti
18	İslam ve İbadet	18	Kur'an'a Göre Hz. Muhammed
19	Dinî Yorum Farklılıklarının Sebepleri	19	Din ve İslam
20	Değerler ve Değerlerin Kaynağı	20	Allah'ı Görüyormuşçasına Yaşamak: İhsan

DENEME DÖNÜTLERİM

Eksik Olduğum Konular

KENDİME NOTUM

BİLGİ SARMAL
TYT SOSYAL BİLİMLER
BRANŞ DENEMELERİ

DENEME

Doğru Sayıları	Yanlış Sayıları

DENEME-13 - KONU / KAZANIM		DENEME-14 - KONU / KAZANIM	
01	Kanunlar Doğuyor	01	Türklerde Coğrafya ile Oluşan Yaşam Tarzı
02	Avrasya'da İlk Türk İzleri	02	Avrupa'da Din Savaşlarından Modern Devlete
03	Toplumun Harcı Millet Sistemi	03	XX. yüzyıl Başlarında Osmanlı Devleti
04	Millî Mücadele'de Batı Cephesi	04	İşgallerin Başlaması ve Millî Mücadele
05	Atatürk Dönemi İç Politikadaki Gelişmeler	05	Türk İnkılabı
06	Dünya'nın Yıllık Hareketi ve Sonuçları	06	Coğrafyanın Bölümlenmesi
07	Eş Yükselti Eğrisi Yöntemi	07	Dünya'da Bitkiler
08	Türkiye'de Nüfusun Yapısal Özellikleri	08	Ekonomik Faaliyetler ve Gelişmişlik
09	Uluslararası Ulaşım Hatlarının Genel Özellikleri ve Etkileri	09	Türkiye'de Nüfusun Dağılışı
10	Afetlerin Dağılışı	10	Afetlerin Genel Özellikleri
11	MS 2. yy - 15. yy Felsefesi	11	20. yy Felsefesi
12	MÖ 6. yy - MS. 2. yy Felsefesi	12	MS 2. yy - 15. yy Felsefesi
13	Bilim Felsefesi	13	Varlık Felsefesi
14	Siyaset Felsefesi	14	Felsefeyi Tanıma
15	Varlık Felsefesi	15	Felsefe ile Düşünme
16	İslam Ahlakında Yerilen Bazı Davranışlar	16	Allah ve İnsan İlişkisi
17	Kur'an-ı Kerim'de İnsan ve Özellikleri	17	Hz. Muhammed'in Peygamberlik Yönü
18	İslam ve İbadet	18	Dinin Tanımı ve Kaynağı
19	Allah ve İnsan İlişkisi	19	Gönül Coğrafyamız
20	İslam ve İbadet	20	Allah ve İnsan İlişkisi

DENEME DÖNÜTLERİM

Eksik Olduğum Konular

KENDİME NOTUM

BİLGİ SARMAL
TYT SOSYAL BİLİMLER
BRANŞ DENEMELERİ

DENEME

Doğru Sayıları	Yanlış Sayıları

DENEME-15 - KONU / KAZANIM		DENEME-16 - KONU / KAZANIM	
01	İnsanlığın İlk İzleri	01	Türklerde Coğrafya ile Oluşan Yaşam Tarzı
02	Kuruluş Dönemi Gelişmeleri	02	Büyük Selçuklu Devleti'nde Yönetim ve Toplum Yapısı
03	İhtilaller Çağı	03	Modern Hayattaki Sosyal Değişim
04	İşgallerin Başlaması ve Milli Mücadeleye Hazırlık	04	Ekonomi Alanındaki Gelişmeler
05	Toplumsal Alanda Yapılan İnkılaplar	05	Atatürk Dönemi Türk Dış Politikası (1923-1938)
06	Bir Bilim Olarak Coğrafya	06	Türkiye'nin Coğrafi Konumu
07	Konut Tipleri	07	Türkiye'de İklim
08	Nüfus Piramitleri	08	Dünya'da Nüfusun Dağılışını Etkileyen Faktörler
09	Bölge ve Bölge Türleri	09	Uluslararası Ulaşım Hatlarının Genel Özellikleri ve Etkileri
10	Doğal Ortamda İnsan Etkileri	10	Afetlerin Dağılışı ve Afetlerden Korunma Yolları
11	15. yy - 17. yy Felsefesi	11	MÖ 6. yy - MS 2. yy Felsefesi
12	Din Felsefesi	12	Felsefe ile Düşünme
13	Bilgi Felsefesi	13	Felsefeyi Tanıma
14	MÖ 6. yy - MS 2. yy Felsefesi	14	Sanat Felsefesi
15	Bilim Felsefesi	15	Felsefe ile Düşünme
16	Allah'ın Varlığı ve Birliği	16	İnsanın Doğası ve Din
17	İslam ve İbadet	17	İslam ve İbadet
18	İslam ve İbadet	18	İslam ve Bilim
19	Allah ve İnsan İlişkisi	19	Ahlaki Tutum ve Davranışlar
20	İslam Ahlakında Yerilen Bazı Davranışlar	20	İslam İnancında İmanın Mahiyeti

DENEME DÖNÜTLERİM

Eksik Olduğum Konular

KENDİME NOTUM

BİLGİ SARMAL
TYT SOSYAL BİLİMLER
BRANŞ DENEMELERİ



DENEME

Doğru Sayıları	Yanlış Sayıları

DENEME-17 - KONU / KAZANIM		DENEME-18 - KONU / KAZANIM	
01	Türklerin İslamiyet'i Kabulü	01	Tarımdan Ticarete Ekonomi
02	Osmanlı Devleti'nde Demokratikleşme Hareketleri	02	Kuruluş Dönemi Gelişmeleri
03	XX. Yüzyıl Başlarında Osmanlı Devleti	03	Osmanlı Topraklarını Paylaşma Mücadelesi
04	Millî Mücadele'de Batı Cephesi	04	İki Savaş Arası Dönemde Dünya
05	Mustafa Kemal'in Fikir Hayatını Etkileyen Gelişmeler	05	Toplumsal Alanda Yapılan İnkılaplar
06	Koordinat Sistemi	06	Doğa ve İnsan Etkileşimi
07	Eş Yükselti Eğrileri ile Yer Şekillerinin Gösterilmesi	07	Projeksiyon Yöntemleri
08	Dünya'da Nüfusun Dağılışı	08	Türkiye'de Nüfusun Dağılışı
09	Bölge ve Bölge Türleri	09	Bölge ve Bölge Türleri
10	Afetlerin Genel Özellikleri	10	Afetlerin Dağılışı ve Afetlerden Korunma Yolları
11	Bilgi Felsefesi	11	Felsefeyi Tanıma
12	Ahlak Felsefesi	12	18. yy - 19. yy Felsefesi
13	Sanat Felsefesi	13	Siyaset Felsefesi
14	Bilim Felsefesi	14	Felsefeyi Tanıma
15	Siyaset Felsefesi	15	MÖ 6. yy - MS 2. yy Felsefesi
16	İslam'da İbadet Ahlak İlişkisi	16	Allah'ın Varlığı ve Birliği
17	Ahlaki Tutum ve Davranışlar	17	İslam'da İbadetin Amacı ve Önemi
18	Allah ve İnsan İlişkisi	18	Din ve Hayat
19	Dinin Tanımı ve Kaynağı	19	İslam ve Bilim
20	Ahlaki Tutum ve Davranışlar	20	Bilgi ve İnanç

DENEME DÖNÜTLERİM

Eksik Olduğum Konular

KENDİME NOTUM

BİLGİ SARMAL
TYT SOSYAL BİLİMLER
BRANŞ DENEMELERİ

DENEME

Doğru Sayıları	Yanlış Sayıları

DENEME-19 - KONU / KAZANIM		DENEME-20 - KONU / KAZANIM	
01	Kanunlar Doğuyor	01	Türklerde Coğrafya ile Oluşan Yaşam Tarzı
02	Anadolu'nun Kandilleri	02	İslam Dünyası Liderliği
03	Dünya Gücü Osmanlı (1453-1600)	03	Osmanlı Devleti'nde Demokratikleşme Hareketleri
04	Millî Mücadelede Batı Cephesi	04	Atatürk İlkeleri
05	Siyasi Alanda Yapılan İnkılaplar	05	Atatürk Dönemi İç Politikadaki Gelişmeler
06	Eksen Eğikliği ve Sonuçları	06	Türkiye'nin Coğrafi Konumu
07	Dış Kuvvetler	07	İklim Elemanları
08	Nüfusun Özellikleri ve Önemi	08	Türkiye'de Yerleşme
09	Uluslararası Ulaşım Hatlarının Genel Özellikleri ve Etkileri	09	Bölge Sınırlarının Değişebilirliği
10	Afetlerin Dağılışı ve Afetlerden Korunma Yolları	10	Afetlerin Dağılışı ve Afetlerden Korunma Yolları
11	Felsefeyi Tanıma	11	Siyaset Felsefesi
12	Ahlak Felsefesi	12	MS 2. yy - 15. yy Felsefesi
13	Bilim Felsefesi	13	Varlık Felsefesi
14	Ahlak Felsefesi	14	Bilgi Felsefesi
15	Varlık Felsefesi	15	Siyaset Felsefesi
16	İslam Düşüncesinde Siyasi, İtikadi ve Fıkhi Yorumlar	16	Kur'an'a Göre Hz. Muhammed
17	Kur'an'dan Mesajlar: İsrâ Suresi 36. Ayet	17	Kur'an'ı Kerim'de Geçen Bazı Kavramlar
18	Allah İnancı ve İnsan	18	İslam ve Bilim
19	Anadolu'da İslam	19	Temel Değerler
20	İslam ve Bilim	20	Dünya veAhiret

DENEME DÖNÜTLERİM

Eksik Olduğum Konular

KENDİME NOTUM

BİLGİ SARMAL
TYT SOSYAL BİLİMLER
BRANŞ DENEMELERİ



DENEME

Doğru Sayıları	Yanlış Sayıları

DENEME-21 - KONU / KAZANIM		DENEME-22 - KONU / KAZANIM	
01	Türklerde Coğrafya ile Oluşan Yaşam Tarzı	01	İnsanlığın Hafızası Tarih
02	Bilim Medeniyeti	02	Boylardan Devlete
03	Fetih ve Fatih	03	I. Dünya Savaşı (1914-1918)
04	Türk İnkılabı	04	Atatürk Dönemi İç Politikadaki Gelişmeler
05	Atatürk İlkeleri	05	Mudanya'dan Lozan'a
06	Kayaçların Çözülmesi	06	Eş Yükselti Eğrileri ile Yer Şekillerinin Gösterilmesi
07	İç Kuvvetler	07	Türkiye'de Bitkilerin Genel Özellikleri
08	Ekonomik Faaliyetler	08	Nufusun Genel Özellikleri
09	Bölge ve Bölge Türleri	09	Bölge ve Bölge Türleri
10	Afetlerin Dağılışı ve Afetlerden Korunma Yolları	10	Afetlerin Dağılışı ve Afetlerden Korunma Yolları
11	Siyaset Felsefesi	11	Felsefeyi Tanıma
12	Siyaset Felsefesi	12	Varlık Felsefesi
13	15. yy - 17. yy Felsefesi	13	Varlık Felsefesi
14	Varlık Felsefesi	14	20. yy Felsefesi
15	Ahlak Felsefesi	15	Bilim Felsefesi
16	İslam ve Bilim	16	İslam Ahlakında Yerilen Bazı Davranışlar
17	İslam Düşüncesindeki Amelî Fıkhi Yorumlar	17	Allah'ın Varlığı ve Birliği
18	Hz. Muhammed'in Peygamberlik Yönü	18	Din ve İslam
19	Din ve İslam	19	İslam ve İbadet
20	Din ve Hayat	20	Gönül Coğrafyamız

DENEME DÖNÜTLERİM

Eksik Olduğum Konular

KENDİME NOTUM

BİLGİ SARMAL
TYT SOSYAL BİLİMLER
BRANŞ DENEMELERİ

DENEME

Doğru Sayıları	Yanlış Sayıları

DENEME-23 - KONU / KAZANIM		DENEME-24 - KONU / KAZANIM	
01	Kavimler Göçü ve Avrupa Hunları	01	Türklerin İslamiyet'i Kabulü
02	Anadolu'nun İlk Fatihleri	02	Uzun Savaşlardan Diplomasiye
03	Uzun Savaşlardan Diplomasiye	03	Osmanlı Devleti'nde Demokratikleşme Hareketleri
04	İşgallerin Başlaması ve Millî Mücadeleye Hazırlık	04	Eğitim ve Kültür Alanında Yapılan İnkılaplar
05	Türk İnkılabı	05	Atatürk Dönemi İç Politikadaki Gelişmeler
06	Atmosfer ve Özellikleri	06	Dünyanın Yıllık Hareketi ve Sonuçları
07	Koordinat Sistemi	07	Dış Kuvvetler
08	Göçlerin Nedenleri ve Sonuçları	08	Ekonomik Faaliyetler ve Gelişmişlik
09	Uluslararası Ulaşım Hatlarının Genel Özellikleri ve Etkileri	09	Bölge ve Bölge Türleri
10	Doğal Çevreyi Kullanma Biçimleri	10	Afetlerin Genel Özellikleri
11	Ahlak Felsefesi	11	Ahlak Felsefesi
12	Bilim Felsefesi	12	Bilim Felsefesi
13	Felsefeyi Tanıma	13	Ahlak Felsefesi
14	Ahlak Felsefesi	14	Felsefe ile Düşünme
15	Felsefe ile Düşünme	15	Felsefeyi Tanıma
16	Hz. Muhammed ve Genç Sahabiler	16	Hz. Muhammed'e Bağlılık ve İtaat
17	Kur'an'da Bazı Kavramlar	17	İslam ve İbadet
18	İslam ve İbadet	18	Kur'an'ı Kerim'de Geçen Bazı Kavramlar
19	İslam Düşüncesinde Siyasi, İtikadi ve Fıkhi Yorumlar	19	Ahlaki Tutum ve Davranışlar
20	Hz. Muhammed'in Örnek Şahsiyeti	20	Gençlik ve Değerler

DENEME DÖNÜTLERİM

Eksik Olduğum Konular

KENDİME NOTUM

BİLGİ SARMAL
TYT SOSYAL BİLİMLER
BRANŞ DENEMELERİ



DENEME

Doğru Sayıları	Yanlış Sayıları

DENEME-25 - KONU / KAZANIM		DENEME-26 - KONU / KAZANIM	
01	Abbasi Devleti ve Türkler	01	Türklerde Coğrafya ile Oluşan Yaşam Tarzı
02	Toplumun Harcı Millet Sistemi	02	Emeviler
03	Osmanlı Topraklarını Paylaşma Mücadelesi	03	Osmanlı'da Toprak Mülkiyeti ve Çifthane Sistemi
04	Türk İnkılabı	04	Ekonomi Alanındaki Gelişmeler
05	Siyasi Alanda Yapılan İnkılaplar	05	Büyük Millet Meclisinin Açılması (23 Nisan 1920)
06	Dünyanın Yıllık Hareketi ve Sonuçları	06	Eş Yükselti Eğrileri ile Yer Şekillerinin Gösterilmesi
07	Toprakların Oluşumu	07	Türkiye'de İklim Tipleri
08	Nüfusun Özellikleri Ve Önemi	08	Nüfusun Genel Özellikleri
09	Uluslararası Ulaşım Hatlarının Genel Özellikleri ve Etkileri	09	Uluslararası Ulaşım Hatlarının Genel Özellikleri ve Etkileri
10	Afetlerin Dağılışı ve Afetlerden Korunma Yolları	10	Afetlerin Dağılışı ve Afetlerden Korunma Yolları
11	MS 2. yy - 15. yy Felsefesi	11	Felsefeyi Tanıma
12	Ahlak Felsefesi	12	MÖ 6. yy - MS 2. yy Felsefesi
13	Felsefe ile Düşünme	13	MS 2. yy - 15. yy Felsefesi
14	MS 2. yy - 15. yy Felsefesi	14	MS 2. yy - 15. yy Felsefesi
15	Felsefe ile Düşünme	15	MS 2. yy - 15. yy Felsefesi
16	Değerler ve Değerlerin Kaynağı	16	Din ve İslam
17	Ahlaki Tutum ve Davranışlar	17	Allah'ın Varlığı ve Birliği
18	İslam ve Bilim	18	Anadolu'da İslam
19	Gençlik ve Değerler	19	Gönül Coğrafyamız
20	İslam ve Bilim	20	İslam Ahlakının Konusu ve Gayesi

DENEME DÖNÜTLERİM

Eksik Olduğum Konular

KENDİME NOTUM

BİLGİ SARMAL
TYT SOSYAL BİLİMLER
BRANŞ DENEMELERİ

DENEME

Doğru Sayıları	Yanlış Sayıları

DENEME-27 - KONU / KAZANIM		DENEME-28 - KONU / KAZANIM	
01	Abbasi Devleti ve Türkler	01	İlk Çağ'da Başlıca Medeniyet Havzaları
02	Padişah, Hanedan ve Kanunname-i Ali Osman	02	Osmanlı Devleti'nde İsyanlar ve Düzeni Koruma Çabaları
03	İhtilaller Çağı	03	XX. yüzyıl Başlarında Osmanlı Devleti
04	Ekonomi Alanındaki Gelişmeler	04	İşgallerin Başlaması ve Millî Mücadeleye Hazırlık
05	Türk İnkılabı	05	Mudanya'dan Lozan'a
06	Türkiye'nin Coğrafi Konumu	06	Türkiye'nin İklimini Etkileyen Faktörler
07	Kayaçlar	07	Dünyada Bitkiler
08	Nüfusun Özellikleri ve Önemi	08	Nüfus Piramitleri
09	Bölge ve Bölge Türleri	09	Uluslararası Ulaşım Hatlarının Genel Özellikleri ve Etkileri
10	Afetlerin Dağılışı ve Afetlerden Korunma Yolları	10	Afetlerin Dağılışı ve Afetlerden Korunma Yolları
11	15. yy - 17. yy Felsefesi	11	Felsefe ile Düşünme
12	Siyaset Felsefesi	12	20. yy Felsefesi
13	15. yy - 17. yy Felsefesi	13	MS 2. yy - MS 15. yy Felsefesi
14	Varlık Felsefesi	14	Varlık Felsefesi
15	Bilim Felsefesi	15	15. yy - 17 yy Felsefesi
16	İslam Düşüncesindeki Ameli Fıkhi Yorumlar	16	Anadolu'da İslam
17	Kur'an'da Bazı Kavramlar	17	Kur'an'da Bazı Kavramlar
18	İslam Düşüncesinde Siyasi - İtikadi Fıkhi Yorumlar	18	İslam Düşüncesinde Siyasi - İtikadi Fıkhi Yorumlar
19	İslam'da İbadet ve Kapsamı	19	İslam'da İbadet ve Kapsamı
20	İslam ve Bilim	20	İslam'da İbadet ve Kapsamı

DENEME DÖNÜTLERİM

Eksik Olduğum Konular

KENDİME NOTUM

BİLGİ SARMAL
TYT SOSYAL BİLİMLER
BRANŞ DENEMELERİ



DENEME

Doğru Sayıları	Yanlış Sayıları

DENEME-29 - KONU / KAZANIM		DENEME-30 - KONU / KAZANIM	
01	Kanunlar Gelişiyor	01	İslamiyet Yayılıyor
02	Osmanlı Devleti'nde Demokratikleşme Hareketleri	02	Lonca Teşkilatı
03	Osmanlı Topraklarını Paylaşma Mücadelesi	03	Türk İnkılabı
04	İşgallerin Başlaması ve Millî Mücadeleye Hazırlık	04	İşgallerin Başlaması ve Millî Mücadeleye Hazırlık
05	Atatürk Dönemi Türk Dış Politikası (1923-1938)	05	Atatürk Dönemi Türk Dış Politikası (1923-1938)
06	Yeryüzünün Su Varlığı	06	Dalga ve Akıntıların Oluşturduğu Yeryüzü Şekilleri
07	İklim Elemanları	07	Toprak Türleri
08	Göçler ve Göçlerin Nedenleri	08	Mesken Tipleri
09	Uluslararası Ulaşım Hatlarının Genel Özellikleri ve Etkileri	09	Nüfus Piramitleri
10	Afetlerin Dağılışı ve Afetlerden Korunma Yolları	10	Afetlerin Dağılışı ve Afetlerden Korunma Yolları
11	Felsefeyi Tanıma	11	Felsefe ile Düşünme
12	MÖ 6. yy - MS 2. yy Felsefesi	12	Felsefeyi Tanıma
13	Felsefe ile Düşünme	13	20. yy Felsefesi
14	Bilgi Felsefesi	14	Bilim Felsefesi
15	MS 2. yy - 15. yy Felsefesi	15	Sanat Felsefesi
16	Gönül Coğrafyamız	16	Kur'an'ı Kerim'de Geçen Bazı Kavramlar
17	Dünya ve Ahiret	17	Kur'an'a Göre Hz. Muhammed
18	İslam Ahlakında Yerilen Bazı Davranışlar	18	Ahlaki Tutum ve Davranışlar
19	Ahlaki Tutum ve Davranışlar	19	Hz. Muhammed ve Gençlik
20	İslam Ahlakının Konusu ve Gayesi	20	Hz. Muhammed'in Peygamberlik Yönü

DENEME DÖNÜTLERİM

Eksik Olduğum Konular

KENDİME NOTUM

TYT
SOSYAL BİLİMLER
BRANŞ DENEMELERİ
CEVAP ANAHTARI

Bilgi Sarmal

1 Cevap Anahtarı

1.	2.	3.	4.	5.	6.	7.	8.	9.	10.	11.	12.	13	14.	15.	16.	17.	18.	19.	20.
E	B	A	D	C	A	E	D	B	C	C	E	B	A	A	D	B	C	A	D

2 Cevap Anahtarı

1.	2.	3.	4.	5.	6.	7.	8.	9.	10.	11.	12.	13	14.	15.	16.	17.	18.	19.	20.
B	E	D	C	E	B	A	C	A	E	B	A	C	C	A	A	D	B	C	C

3 Cevap Anahtarı

1.	2.	3.	4.	5.	6.	7.	8.	9.	10.	11.	12.	13	14.	15.	16.	17.	18.	19.	20.
C	D	B	B	E	A	C	B	C	E	D	A	C	D	A	B	E	E	E	C

4 Cevap Anahtarı

1.	2.	3.	4.	5.	6.	7.	8.	9.	10.	11.	12.	13	14.	15.	16.	17.	18.	19.	20.
A	A	D	C	E	E	A	B	D	D	A	A	B	A	D	C	A	B	B	B

5 Cevap Anahtarı

1.	2.	3.	4.	5.	6.	7.	8.	9.	10.	11.	12.	13	14.	15.	16.	17.	18.	19.	20.
D	C	C	B	C	B	C	A	D	C	A	C	B	A	D	B	E	D	A	E

6 Cevap Anahtarı

1.	2.	3.	4.	5.	6.	7.	8.	9.	10.	11.	12.	13	14.	15.	16.	17.	18.	19.	20.
C	D	B	B	B	B	C	E	D	A	C	A	C	C	A	B	E	D	D	D

7 Cevap Anahtarı

1.	2.	3.	4.	5.	6.	7.	8.	9.	10.	11.	12.	13	14.	15.	16.	17.	18.	19.	20.
A	A	D	C	C	D	E	D	B	E	A	A	D	A	C	A	B	D	C	B

8 Cevap Anahtarı

1.	2.	3.	4.	5.	6.	7.	8.	9.	10.	11.	12.	13	14.	15.	16.	17.	18.	19.	20.
B	B	B	D	D	E	D	A	B	B	A	A	B	A	D	C	E	A	E	E

9 Cevap Anahtarı

1.	2.	3.	4.	5.	6.	7.	8.	9.	10.	11.	12.	13	14.	15.	16.	17.	18.	19.	20.
C	D	D	E	A	E	C	B	A	B	B	A	B	A	A	C	D	E	A	B

10 Cevap Anahtarı

1.	2.	3.	4.	5.	6.	7.	8.	9.	10.	11.	12.	13	14.	15.	16.	17.	18.	19.	20.
D	B	B	E	B	B	D	B	B	D	A	B	A	A	E	B	E	B	A	B

11 Cevap Anahtarı

1.	2.	3.	4.	5.	6.	7.	8.	9.	10.	11.	12.	13	14.	15.	16.	17.	18.	19.	20.
B	C	E	B	D	E	E	A	E	C	E	A	B	D	C	C	C	B	A	B

12 Cevap Anahtarı

1.	2.	3.	4.	5.	6.	7.	8.	9.	10.	11.	12.	13	14.	15.	16.	17.	18.	19.	20.
A	C	B	A	B	B	A	B	C	D	D	B	C	A	D	D	B	A	A	C

13 Cevap Anahtarı

1.	2.	3.	4.	5.	6.	7.	8.	9.	10.	11.	12.	13	14.	15.	16.	17.	18.	19.	20.
B	E	A	D	D	A	B	C	D	C	B	D	E	A	A	A	E	D	B	C

14 Cevap Anahtarı

1.	2.	3.	4.	5.	6.	7.	8.	9.	10.	11.	12.	13	14.	15.	16.	17.	18.	19.	20.
B	D	E	E	B	B	C	E	C	C	B	D	E	E	E	B	D	E	C	C

15 Cevap Anahtarı

1.	2.	3.	4.	5.	6.	7.	8.	9.	10.	11.	12.	13	14.	15.	16.	17.	18.	19.	20.
E	A	B	B	D	C	A	B	E	E	C	D	E	A	E	D	A	E	A	C

16 Cevap Anahtarı

1.	2.	3.	4.	5.	6.	7.	8.	9.	10.	11.	12.	13	14.	15.	16.	17.	18.	19.	20.
A	D	C	E	D	D	E	E	A	D	D	B	C	A	C	D	B	A	D	B

17 Cevap Anahtarı

1.	2.	3.	4.	5.	6.	7.	8.	9.	10.	11.	12.	13	14.	15.	16.	17.	18.	19.	20.
D	B	D	E	C	C	A	D	D	E	C	B	B	C	E	A	A	C	D	C

18 Cevap Anahtarı

1.	2.	3.	4.	5.	6.	7.	8.	9.	10.	11.	12.	13	14.	15.	16.	17.	18.	19.	20.
E	A	B	C	D	C	D	C	B	E	D	B	C	E	C	A	B	D	B	A

19 Cevap Anahtarı

1.	2.	3.	4.	5.	6.	7.	8.	9.	10.	11.	12.	13	14.	15.	16.	17.	18.	19.	20.
A	C	A	D	D	E	B	C	A	C	D	D	D	A	C	A	A	D	C	C

20 Cevap Anahtarı

1.	2.	3.	4.	5.	6.	7.	8.	9.	10.	11.	12.	13	14.	15.	16.	17.	18.	19.	20.
A	E	D	B	A	A	B	A	B	E	B	E	C	B	B	B	E	D	B	E

21 Cevap Anahtarı

1.	2.	3.	4.	5.	6.	7.	8.	9.	10.	11.	12.	13	14.	15.	16.	17.	18.	19.	20.
D	D	B	B	D	C	A	E	D	A	B	D	C	A	B	A	D	C	B	B

22 Cevap Anahtarı

1.	2.	3.	4.	5.	6.	7.	8.	9.	10.	11.	12.	13	14.	15.	16.	17.	18.	19.	20.
D	C	A	C	C	C	D	C	E	C	B	C	E	D	A	E	E	B	C	B

23 Cevap Anahtarı

1.	2.	3.	4.	5.	6.	7.	8.	9.	10.	11.	12.	13	14.	15.	16.	17.	18.	19.	20.
D	E	B	A	C	A	B	D	D	D	D	C	E	D	D	D	C	C	D	C

24 Cevap Anahtarı

1.	2.	3.	4.	5.	6.	7.	8.	9.	10.	11.	12.	13	14.	15.	16.	17.	18.	19.	20.
B	E	D	C	A	A	B	D	C	E	E	D	B	B	B	B	D	D	E	A

25 Cevap Anahtarı

1.	2.	3.	4.	5.	6.	7.	8.	9.	10.	11.	12.	13	14.	15.	16.	17.	18.	19.	20.
B	C	E	A	E	D	B	E	A	D	E	A	D	B	C	E	C	A	B	B

26 Cevap Anahtarı

1.	2.	3.	4.	5.	6.	7.	8.	9.	10.	11.	12.	13	14.	15.	16.	17.	18.	19.	20.
E	E	D	C	D	B	A	D	B	E	C	A	C	B	D	A	B	C	C	C

27 Cevap Anahtarı

1.	2.	3.	4.	5.	6.	7.	8.	9.	10.	11.	12.	13	14.	15.	16.	17.	18.	19.	20.
B	C	D	E	D	B	D	C	E	C	E	B	A	B	C	E	C	D	C	C

28 Cevap Anahtarı

1.	2.	3.	4.	5.	6.	7.	8.	9.	10.	11.	12.	13	14.	15.	16.	17.	18.	19.	20.
E	C	D	D	A	C	A	D	C	D	D	C	D	E	C	A	B	E	E	E

29 Cevap Anahtarı

1.	2.	3.	4.	5.	6.	7.	8.	9.	10.	11.	12.	13	14.	15.	16.	17.	18.	19.	20.
A	E	D	C	B	E	B	A	E	B	E	A	B	E	B	E	B	C	D	D

30 Cevap Anahtarı

1.	2.	3.	4.	5.	6.	7.	8.	9.	10.	11.	12.	13	14.	15.	16.	17.	18.	19.	20.
B	C	E	D	B	C	E	A	D	B	B	E	B	B	A	C	D	B	A	E