1. Postmodern sanat anlayışında tarihsel birikim kendi bağlamından ---- bir ham madde yığınına dönüştürülür. Herhangi bir tarihsel ilke gözetilmeksizin bu ham madde keyfî biçimde ----. Bu, aynı zamanda insanlık için tarihin hiçbir döneminde ---- olmadığı anlamına gelir.

Bu parçada boş bırakılan yere sırasıyla getirilmesi gereken sözler aşağıdakilerin hangisinde verilmiştir?

A) koparılarak – kurgulanır – evrensel doğru
B) yakınlaştırılarak – yazılır – bir kuralsızlık
C) oynatılarak – söze dökülür – gerçeklik
D) uzaklaştırılarak – saklanır – yerel kültür
E) çıkarılarak – akıldan çıkarılır – mutlak gerçeklik

2. Hemen her sanatçı hiç kuşkusuz doğduğu coğrafyanın ikliminden, kültüründen, sosyal çevresinden hem etkilenerek hem de istifade ederek eserler üretir. Bazıları nasipsiz şekilde, fânî cismini toprağın merhametine terk ederek bilinmezlik zırhına bürünüp varlık sahnesinden çekilir. Bazıları da ebedî âleme gitse bile edebî âlemde ses vermeye devam eder.

Bu parçada geçen altı çizili sözle anlatılmak istenen aşağıdakilerden hangisidir?

A) Sanatçılık değeri öldükten sonra anlaşılmak
B) Yapıtların içeriğini belirlemede sınırsız davranmak
C) Sanatını metafizik unsurlar üzerine kurgulamak
D) Ürettiği sanatsal ürünlerle kalıcılığı yakalamak
E) Kendisine tanınan imkânları değerlendirebilmek

3.

- Belirli yollarla oluşmuş iz
- Çehre ve vücut hatlarının her biri
- Temel
- Başka bir duruma geçilen yer, sınır

Aşağıdaki cümlelerin hangisinde "çizgi" sözcüğü verilen anlamlarından birini karşılayacak şekilde kullanılmamıştır?

A) Kulüplerin yönetim şekillerine bakıldığında aralarına amatör ve profesyonel çizgisi çekebilmek güçleşiyor.
B) Uç uca gelseler de bir doğru üzerinde bulunmayan kırık çizgiler, köşelerine konan harflerle adlandırılır.
C) Üst üste gelen kaybedişlerin ardından yaşamını bambaşka çizgiler üzerinde kurmaya karar verdi.
D) Karanlıkta gözlerinin rengini seçemesek de yüzünün çizgilerini görebildiğimiz boylu boslu biri ile karşılaştık.
E) Neler yapılacağını tarif etmek için eline kâğıtla kalem aldı ve kâğıda iki çizgi çekip anlatmaya başladı.

4. (I) İnsan vücudunun uygun beslenme ve düzenli egzersizlerle kolayca şekillendirilebilen, değişime en uyumlu dokusu çizgili kaslardır. (II) İskelet kası olarak da bilinen bu doku, hücrelerindeki *aktin* ve *miyozin* adlı iki protein iplikçiğin etkileşimi ile çalışır. (III) İplikçikler, düzenli kas aktivitesi sırasında tekrarlanan kasılma ve gevşemelerin neden olduğu mekanik stres ile mikroskobik ölçekte hasar görebilir. (IV) Kas dokusunda, görece daha zayıf yapıdaki iplikçiklerin buna benzer biçimde zarar görmesine mikro yırtılma denir. (V) Bu olağan yırtılmalar, besinlerle vücuda alınmış ya da vücutta üretilmiş protein iplikçikleri ile doku yenilenmesi aşamalarını tetikler.

Bu parçadaki numaralanmış cümlelerle ilgili olarak aşağıdakilerden hangisi yanlıştır?

A) I. cümlede üstünlük anlamı vardır.
B) II. cümlede nesnel anlatım yeğlenmiştir.
C) III. cümlede olasılık anlamı söz konusudur.
D) IV. cümlede tanımlama yapılmıştır.
E) V. cümlede aşamalı bir durumdan söz edilmiştir.

5. Cuma günleri fakültede ders yoktu. Şiiri incelemeye başladığım gecenin uykuya yenik düştüğüm anını saymazsak sabahın ilk ışıklarına sarkan diliminde, çalışmaya devam ettim. Şiiri okuyup anladıkça ondaki anlam zenginliği beni büyülemişti. Şiirin Türkçeye çevrilip çevrilmediğini bilmiyordum.

Bu parçada aşağıdakilerden hangisi yoktur?

A) Yönelme durumu eki
B) İlgi durumu eki
C) Bulunma durumu eki
D) Belirtme durumu eki
E) Ayrılma durumu eki

6. *Annemin Zarif Elbiseleri*, başka (I) anlatılar kurguluyorken hayatın kucağıma bıraktığı cümlelerden örülü bir masal. Çocuk kitabı ile yazın dünyasına adım atmam, tasarlanmış bir süreç değil yani. Ancak her (II) yaş grubuyla, sosyolojinin derin (III) evreninde farklı amaç ve odaklarla çalışmalar yapan araştırmacı kimliğimin en çok örgün (IV) eğitim dönemindeki öğrencilerle buluşmayı, eleştirel düşüncenin sınırlarını onlarla genişletmeyi benimsediğini rahatlıkla (V) söyleyebilirim.

Bu parçadaki numaralanmış sözcüklerden hangisi tür bakımından ötekilerden farklıdır?

A) I B) II C) III D) IV E) V

7. (I) Vücudumuzun kendi başına üretemediği temel vitaminleri ve mineralleri içermesi nedeniyle sebzeler beslenmemizin önemli bir parçasını oluşturur. (II) Örneğin suda çözünen vitaminler, doku onarımına ve sindirim süreçlerine yardımcı olan, dahası kalp ve damar hastalıkları riskini azaltan antioksidan özelliklere sahip. (III) Yağda çözünen vitaminlerse göz, karaciğer ve bağışıklık sistemi sağlığı için oldukça önemli. (IV) Sebzeler, ayrıca kas, sinir sistemi ve kemikler için gereken magnezyum ile dokularımıza oksijen taşıyan hemoglobin proteininin yapısına katılan demir gibi vücuttaki önemli süreçlerde görev alan birçok minerali içerir. (V) Ancak onları tüketme biçimimiz, vücudumuza sağlayacakları katkıların düzeyini belirlemede rol oynayabiliyor.

Bu parçadaki numaralanmış cümlelerle ilgili olarak aşağıdakilerden hangisi yanlıştır?

A) I'inci, birleşik yapılı fiil cümlesidir.
B) II'nci, öznesine göre etken çatılıdır.
C) III'üncü, kurallı bir isim cümlesidir.
D) IV'üncü, geçişli çatılı fiil cümlesidir.
E) V'inci, biçimce ve anlamca olumludur.

8. Yeşil ışıkta karşıya geçmeye çalışan yayalar kontrolsüzce ilerleyen kamyonetin üzerlerine geldiğini görünce panik hâlinde sağa sola kaçıştılar.

Bu cümlenin ögelerinin sıralanışı aşağıdakilerin hangisinde doğru verilmiştir?

A) Dolaylı tümleç – Özne – Zarf tümleci – Nesne – Yüklem
B) Özne – Nesne – Zarf tümleci – Yüklem
C) Zarf tümleci – Dolaylı tümleç – Yüklem
D) Özne – Zarf tümleci – Zarf tümleci – Dolaylı tümleç – Yüklem
E) Özne – Dolaylı tümleç – Zarf tümleci – Dolaylı tümleç – Yüklem

9.

9. Düzeltme işaretinin (^) kullanım amaçlarından biri de nispet eki ile belirtme durumu ve iyelik ekinin karışmasını önlemektir.

Aşağıdakilerin hangisinde bu kurala uyulmamasından kaynaklı yazım yanlışı vardır?

A) Yazma etkinliklerinin bir kısmı, resmî belgeleri doldurabilme üzerine olmalıdır.

B) Edebiyat tarihi, belli dönemlerde gerçekleşmiş fikrî tartışmaları da kapsamaktadır.

C) Piyasalar açısından madeni para çeşitliliği önem arz etmektedir, bu paraların basımında fennî usuller tercih edilmelidir.

D) Geçmiş dönemlerde yaşanmış olayları incelemek için ilmî yöntemler geliştirilmeye çalışılmıştır.

E) Sokak lambaları sönünce insanlar zifirî karanlıkta yürümek zorunda kaldı.

10. **Aşağıdaki cümlelerin hangisinde yazım yanlışı vardır?**

A) Batı'daki söz varlığı çalışmaları, dil yapılarındaki farklılıklar nedeniyle, Türkçenin söz varlığının gelişmesine doğrudan model olamaz.

B) Gezegenimizdeki toplam su kütlesinin yüzde 97'sinin okyanus ve denizlerde, yüzde 3'ünün de akarsu, göl gibi tatlısularda olduğu tahmin ediliyor.

C) Bu kitap, evrenin mikro düzeydeki gizemlerine kapı aralıyor ve kitapta adım adım tarif edilen proje önerileri ise kendi çevrenizdeki mikro evreni keşfetmenize olanak sağlıyor.

D) Yazarın güneş hangi maddelerden oluşur veya astronotlar aya nasıl gittiler ve neyle karşılaştılar şeklindeki sorulara yanıt aradığını görebiliyoruz.

E) Bizler geceleri derin uykudayken ve rüya görürken çölde, ormanda, uzayda bambaşka bir hareketlilik yaşanır.

11. Bilmez miyim hiç, bütün bu sözler ne der ona?
Bu sözler ve bu sözlerin içinde çırpınan uzaklıklar...
Dolaşıyorum bir başıma, ortalıkta kimsecikler yok;
Kıyılar da bomboş kır yolları da.

Bu dizelerde aşağıdaki ses olaylarından hangisi vardır?

A) Ünsüz benzeşmesi B) Ünlü türemesi
C) Ünlü daralması D) Ünsüz yumuşaması
E) Ünsüz düşmesi

12. Yaşadığımız çağ (I), getirdikleri ve yaşattıklarıyla çok sert bir deneyim haritası sunuyor bize. En sık kullandığımız kavramlar (II); empati, kapsayıcılık, hoşgörü, anlayış, sabır, şefkat, öz farkındalık (III), saygı şeklinde sıralanıp gidiyor. Düşünsel ve kültürel kalıp (IV), insanları hayli debdebeli bir çatışmanın içine sürüklüyor. Çünkü çağ da kendi istek ve beklentilerini dayatıyor insanlara. Bazıları akılcı çözümler üreterek (V), kurtulmaya çalışıyor bu cendereden.

Bu parçada numaralanmış noktalama işaretlerinden hangisi yanlış kullanılmıştır?

A) I B) II C) III D) IV E) V

13. (I) Şiirsel imge, özellikle "ince ruhlu insanların kalbinde titreşen" bir şey. (II) Bu tür etkiyle beslenen ruhlar, iyi bir şiirsever ya da sanat izleyicisi olabiliyorlar. (III) İnsan yaşamında bu denli etkiye sahip olan şiir, şüphesiz diğer sanat dallarını etkileyen bir yapıya sahiptir. (IV) Sinema da hemen her ürününün temasında saklı şiirsel yapılarla şiirin tesirinde maruz kalmış alanlardan biri. (V) Şiirlerdeki görüntü niteliklerini yakalamak için sinemadan istifade etmek, birçok şiir okuyucusu için hayli önemli bir yol olabilir.

Bu parçada numaralanmış cümlelerden hangisi parçanın anlam bütünlüğünü bozmaktadır?

A) I B) II C) III D) IV E) V

14.
I. Bu masallardan ve hâliyle o çözümlerden mahrum büyüyen insanların hayatın hayhuyu içerisinde düştükleri girdaptan çıkış için çok önemli bir yardımcıdan mahrum kaldıklarını birkaç örnek eşliğinde anlatmaya çalıştık.

II. İşte söz konusu dayanıklılığı sağlayan masallarda belirtilen bu çözümlerin kimi bilinçaltımızla irtibatlıdır.

III. Zira kendi kültürel kodlarını taşıyan masallarla büyüyen nesiller, masalların pek çok faydası yanında en görünür şekilde bu çözüm önerileriyle zenginleşmektedir.

IV. Böylece hayatın nice darbesine daha sağlam durabilmektedir.

V. "Hayat Sorunlar Yumağı Masal Çözümler Hazinesi" başlıklı yazımızda, masalların hayatta karşılaşacağımız nice sorunun çözümü için mükemmel anahtarlar taşıdığını ifade ettik.

Yukarıdaki numaralanmış cümleler anlamlı bir bütün oluşturacak biçimde sıralandığında hangisi son cümle olur?

A) I B) II C) III D) IV E) V

15. Önündeki masada gördüğü dökük mavi boyalar gibiydi içi, her akşam o karanlık odaya dönüşünde bir yanı daha kabarıp dökülüyordu. Bıraksalar bu masadan, çevresini saran deniz kokusundan hiç ayrılmayacaktı. Denizin üstüne güneş yaklaşmıştı, restoranın en kalabalık saatleri başlıyordu. Gelenlerin hepsi masalarına yerleşiyordu. O, arkadaki masa ve iskemle kadar unutulmuş, yerli yerindeydi. Tekrar tekrar yaptığı gezi bitmişti. Çevresine baktı, küçük çakıl taşları gibiydi deniz. Pasparlak ve yalın güneşin rengi parça parça bölünüyordu suyun üzerinde. Kalkıp köşedeki barakaya doğru yürüdü, sarı bir semaverin yanında duran adama kahve parasını verdi ve kapıya doğru yöneldi.

Bu parçanın anlatımıyla ilgili olarak aşağıdakilerden hangisi <u>söylenemez</u>?

A) İzlenimsel anlatıma başvurulmuştur.

B) Tasvir edici ögelerden yararlanılmıştır.

C) İnsana has özellikler insan dışı varlıklara yüklenmiştir.

D) Karşılaştırma yapılmıştır.

E) Pekiştirmeli söyleyişlere yer verilmiştir.

16. (I) Robotaksi, sürücüsüz taksi veya otonom taksi olarak da bilinen, bir ulaşım paylaşım şirketi için çalışan otonom bir araçtır. (II) Otonom sürüş düzeyi 4 veya 5 olan robotaksilerin yakın gelecekte şehirler için önemli bir taşımacılık çözümü olması hedeflenmektedir. (III) Özellikle yol güvenliği, yenilenebilir enerji, trafik sıkışıklığı ve park sorunları üzerinde de çok olumlu bir etkiye sahip olma iddiasındalar. (IV) Ancak robotaksi devriminin gerçekleşmesi biraz daha zaman alabilir. (V) Birtakım özel kuruluşlar tarafından üretilen robotaksiler, şu anda şehirlerde sürücüsüz olarak 10.00 ile 18.00 saatleri arasında ücretli taşıma yapabiliyor. (VI) Zaman zaman trafiği engelleyen bu araçlara dışarıdan müdahale edilemiyor. (VII) Örneğin yakın zamanda, yangın nedeniyle itfaiyeciler tarafından kapatılan bir yoldan geçmeye çalışan bir robotaksi bir türlü durdurulamadı.

Bu parça iki paragrafa ayrılmak istense ikinci paragraf numaralanmış cümlelerden hangisiyle başlar?

A) II B) III C) V D) VI E) VII

17. ---- Çağrışımcılar, beceri olarak kabul edilebilecek bu kavramı eski deneyimlerle ilişkili olarak ele almışlar ve olaylar karşısında oluşan yeni düşünceleri önceki deneyimlerin sonuçlarının birleşimi olarak değerlendirmişlerdir. Gestaltçılar, yaratıcılığı, belli bir durumu yeni bir bütün içinde yeniden keşfetmek olarak belirtmişlerdir. Böylelikle terapilerde terapist ve danışanların hayal güçlerini kullanmaları gerektiğini savunmuşlardır. Freud ise içsel çatışmaların egoya uygun bir şekilde çözülmesinin yaratıcılığı oluşturduğunu, egoyla ve toplumla uyumsuz çözümlerin ise nevroza neden olduğunu belirtmiştir. Yani nevrozların ve yaratıcılığın çıkış noktalarının aynı olduğunu ileri sürmüştür. Freud'a göre sadece yaratıcı kişiler çatışmalardan yenilik çıkarmaktadır.

Bu parçada boş bırakılan yere düşüncenin akışına göre aşağıdakilerden hangisi getirilmelidir?

A) Yaratıcı yazma etkinliklerinde bireylerin duygu ve düşüncelerden hareket ederek yeni ve özgün bir metin üretmeleri beklenir.

B) Belirli yoksunluklar veya merak gibi gerekçelerle yenilik peşinde koşan insanlar "yaratıcı" olarak anılmıştır.

C) Özellikle dil alanında ön plana çıkarılan yapısalcılık, zamanla resim ve matematik gibi alanlarla ilişkilendirilmiştir.

D) Yaratıcılık, pek çok psikoloji kuramcısı tarafından incelenmiş ve açıklanmaya çalışılmıştır.

E) Teknoloji alanında çığır açma girişimlerinden sonra ön plana çıkan "inovasyon" yani "yenileşim", çağdaş zamanların hedef nitelikleri arasında yerini almıştır.

18. Alıcı kelime hazinesinin nicelik yönünden geliştirilmesinin yanı sıra nitelik yönünden işlenmesi de son derece önemlidir. Bu bağlamda, alıcı kelime hazinesi; derinlik, genişlik, ağırlık yönünden geliştirilmelidir. Alıcı kelime hazineleri nicelik ve nitelik yönünden gelişmiş olan öğrenciler, okudukları farklı özelliklere sahip metinleri anlamakta zorluk çekmezler. ---- Bir başka deyişle alıcı kelime hazinesi geliştikçe bu durum, üretici kelime hazinesine de olumlu yönde yansımaktadır.

Bu parçada boş bırakılan yere aşağıdakilerden hangisi getirilmelidir?

A) Alıcı beceriler kavramı altında birleştirilen okuma ve dinlemenin gelişiminde bireysel faktörler daha fazla rol oynar.

B) Özellikle Türkçenin eklemeli yapısından hareket edilerek öğrencilerin söz varlığını geliştirici etkinlikler yapılmalıdır.

C) Nitekim dil gelişiminde sosyokültürel çevrenin etkisi yadsınamaz.

D) Ayrıca alıcı kelime hazinesi, verici kelime hazinesinin gelişimini de doğrudan etkilemektedir.

E) Çünkü kelime hazinesi sığ olan bireylerin anlamlandırma süreçleri genellikle olumsuz sonuçlar doğurur.

19. Kitap değerlendirmeleri, kitap raporlarından farklıdır. Bir kitap raporu yalnız kitabın muhtevasına yönelik bilgilendirmede bulunurken kitap değerlendirme yazılarında kitabın konusu, bu konunun işleniş şekli ve öne sürülen düşünceler kritik edilerek yapıcı yorumlar getirilir. Bu gerçekleştirilirken görüşlerin tutarlılığı, kaynakların kullanılış şekli tartışılır ve ulaşılan yargılar, ilgili okuyucu kitlesine aktarılır.

Bu parçaya göre kitap değerlendirmelerini kitap raporlarından ayıran aşağıdakilerden hangisidir?

A) Yansıtmacı yerine eleştirel bir tavır sergilenmesi

B) Nesnellik yerine öznelliğin tercih edilmesi

C) Salt akademik anlamda gerçekleştirilmesi

D) Okurlarca daha çok ilgi görmesi

E) Kendine has bir dil yapısına sahip olması

20. Bir insanın parmak izleri ana rahmindeyken oluşur. Gebeliğin 10. haftası civarında başlayan süreç 16-17. hafta civarında tamamlanır. Parmak izlerinin şeklini belirleyen, derinin en dış katmanı olan epidermis ile daha içteki katman olan dermis arasındaki etkileşimdir ve bu etkileşimi belirleyen pek çok etken vardır. Örneğin kan basıncı, kandaki oksijen miktarı, hormon seviyeleri, parmaklar ile amniyotik sıvı arasındaki etkileşim ve fetüsün rahim içindeki hareketleri bu etkenlerden bazılarıdır. Haftalar süren bir süreç boyunca tüm bu etkenlerin iki ayrı fetüs için aynı olması olasılık dışı olduğu için insanların parmak izleri birbirinden farklıdır. Üstelik aynı genetik bilgiyi taşıyan tek yumurta ikizlerinin bile parmak izlerinin farklı olduğu araştırmalarla ortaya konmuştur.

Bu parçada parmak izleriyle ilgili olarak aşağıdakilerden hangisine <u>değinilmemiştir</u>?

A) Ne zaman ve ne kadar sürede meydana geldiğine

B) Fiziksel niteliklerini etkileyen unsurlara

C) Bilimsel çalışmalara konu olduğuna

D) Benzersizliğinin altında yatan nedene

E) Aynı varlığın herkesçe farklı algılanmasını sağladığına

21. Dilde öyle bir boyut vardır ki kusurluluğun yarattığı mükemmellikle kusursuz anlama ulaşabilirsiniz. Nitekim Sokrates'in "Hiçbir şey bilmediğini bilen insan, bilgiye açık insandır." sözü bu türdendir. Bu söz duyulduğunda akla ilk gelen, aslında elde edilen bilgilerle yetinilmemesi ve sürekli yeni bilginin peşinde olunması gerekliliğidir. Ancak cümlenin dilsel kurgusuna bakıldığında "hiçbir şey bilmediğini bilmek" bir çelişki doğurmaktadır. Çünkü "hiçbir şey bilmemek" bilgi haznesi bomboş olmak demektir ve bilgiye açık olan insan da işte böyle bir insandır. Oysa "hiçbir şey bilmediğini bilmek" söyleminde, bilgi haznesinde bilgi var demektir. Dolayısıyla bu söze direkt dil bakımından yaklaşılsa hiçbir şey bilmediğini bilmenin yarattığı çelişkiyle "bilmenin imkânsızlığı" profilinin çizildiği fark edilir.

Bu parçadan hareketle

I. Bazı durumlarda, üretilen düşünce ile onu yansıtacak dil aracı seçiminde uyumsuzluk olabilmektedir.

II. Birey, ancak dil aracılığıyla bilgi ve birikimini insanlara eksiksiz biçimde aktarabilir.

III. Düşüncelerin ifadeye dökülmüş biçimlerinden bazen beklenmedik anlamlar çıkarılabilmesi mümkündür.

yargılarından hangileri <u>çıkarılamaz</u>?

A) Yalnız I B) Yalnız II C) Yalnız III D) I ve II E) II ve III

Diğer sayfaya geçiniz.

22-23. soruları aşağıda verilen parçadan hareketle yanıtlayınız.

Antik Çağ'da Yunan felsefesi, tabiat üzerine eğilmiş ve onu anlamaya, tanımlamaya çalışmıştır. Pers savaşları sırasında ise filozoflar; mutluluk, ahlak, sosyal yaşam gibi unsurları sorgulamaya başlamıştır. İskender'in Asya seferleri sırasında farklı bir kültürle, inançla tanışan felsefe, dinî ögeleri merak etmiş ve bu konu üzerine eğilmiştir.

22. Bu parçada aşağıdakilerden hangisi vurgulanmaktadır?

A) Felsefi gelişmelerin filozofların özel ilgi alanlarıyla ilişkili olduğu

B) Bilimsel atılımların felsefe tarihini de şekillendirdiği

C) Felsefi araştırma konularının zaman içinde çeşitlendiği

D) Kültürel farklılıkların felsefenin uygulanma şeklini etkilediği

E) Felsefenin üretildiği dönemin gelişmelerinden bağımsız olduğu

23. Bu parçadan hareketle aşağıdakilerden hangisi söylenebilir?

A) Filozofların ilgi ve merakları gittikçe doğadan insana yönelmiştir.

B) Toplumsal yaşamın temel ilkelerini belirleyen kuralların benimsenmesinde filozofların katkısı olmuştur.

C) İnsan yaşantısını şekillendiren unsurlardan olan inanç sistemlerinin gelişimi uzun zaman almıştır.

D) Tarihe mal olmuş kişiler felsefeye ilgi duyduklarından felsefi çalışmaları desteklemişlerdir.

E) Felsefi düşüncenin yönünü ve boyutunu siyasi gelişmeler belirlemiştir.

24-26. soruları aşağıda verilen parçadan hareketle yanıtlayınız.

Bir veya birden fazla spor alanında uzmanlaşmış, tecrübe kazanmış, yeterli bilgiye sahip, bazen de akademik eğitim almış ve uzmanlaştığı spor alanına katkılar sağlamış kişiye sporcu denir. Tüm spor faaliyetleri, değişebilen teknikler ve taktikler çerçevesinde önceden belirlenmiş kurallara göre gerçekleştirilir. Spordaki en önemli etmenler; sporcuların fiziksel kapasiteleri, yetenekleri, düzenli çalışmaları, kendilerine ve galibiyete olan inançları ve azimleridir. Bunların yanında spor -ister gündelik ister yarışmacılık çizgisinde olsun- bireyin beden ve ruh sağlığının gelişmesinin yanında belli kurallarla rekabet ölçüleri içinde mücadele etme, heyecan duyma, yarışma ve üstün gelme amacını taşır.

24. Bu parçadan hareketle sporla ilgili olarak aşağıdakilerden hangisine ulaşılabilir?

A) Birey için fiziksel ve ruhsal kazançlar elde edilmesine olanak tanıyan bir dizi etkinliği temsil etmektedir.

B) Spordan istenen faydanın elde edilebilmesi için bilimsel kurallar çerçevesinde hareket edilmelidir.

C) Gerçekte, günlük yaşamda gerçekleştirilen bir dizi harekete dayalı eylemle alakasız faaliyetleri kapsamaktadır.

D) Doğru biçimde gerçekleştirilmesi için temel kurallarının çok küçük yaşlarda edinilmesi gerekir.

E) İnsanın duygu dünyasını şekillendiren çıktılar sunduğu yönünde yanlış kanılara konu olmaktadır.

25. Bu parçada, sporu etkileyen önemli faktörler arasında aşağıdakilerden hangisine <u>yer verilmemiştir</u>?

A) Kararlılık
B) İş birliği
C) Disiplin
D) Öz güven
E) Bedensel potansiyel

26. Bu parçanın anlatımında aşağıdakilerden hangisi <u>yoktur</u>?

A) Açıklama
B) Sayıp dökme
C) Tanımlama
D) Karşılaştırma
E) Tanık gösterme

27-30. soruları aşağıda verilen parçadan hareketle yanıtlayınız.

Bir kitabevinden aynı gün alışveriş yapan Asya, Buket, Ceyda, Dilek ve Esra adlı kişiler; şiir, deneme, roman türünde kitap satın almıştır. Bu kişilerin kitap satın alma sırası ve aldıkları kitaplara ilişkin şunlar bilinmektedir:

- Roman türünde kitap satın alan yalnızca bir kişi vardır.
- Buket ve Dilek, Asya'dan önce kitap satın almıştır.
- Esra, kitabevine ikinci sırada gelip kitap satın almıştır.
- Ceyda, kitabını Asya'dan sonra satın almıştır.
- İkinci ve üçüncü sırada alışveriş yapan kişiler aynı türde kitap satın almıştır.
- Dördüncü sırada kitap satın alan kişinin aldığı kitap deneme türündedir.
- Aynı türde kitaptan en fazla iki adet satılmıştır.
- Her bir kişi yalnızca bir türde kitap almıştır.

27. Bu bilgilere göre aşağıdakilerden hangisi <u>kesin olarak yanlıştır</u>?

A) Deneme türündeki kitaptan hemen sonra şiir türünde kitap alınmıştır.

B) Şiir türünde kitaptan hemen sonra deneme türünde kitap alınmıştır.

C) Roman türünde kitaptan hemen sonra deneme türünde kitap satın alınmıştır.

D) Deneme türünde kitaptan hemen sonra roman türünde kitap alınmıştır.

E) Roman türünde kitaptan hemen sonra şiir türünde kitap alınmıştır.

28. Bu bilgilere göre

I. Asya,

II. Ceyda,

III. Esra

adlı kişilerden hangileri deneme türünde kitap satın almış olabilir?

A) Yalnız I B) Yalnız II C) Yalnız III

D) I ve II E) I, II ve III

29. Aşağıda verilen kişilerden hangileri <u>kesin olarak</u> farklı türde kitap satın almıştır?

A) Dilek – Esra B) Ceyda – Esra

C) Buket – Esra D) Asya – Dilek

E) Asya – Buket

30. Buket'in deneme türünde kitap aldığı biliniyorsa aşağıdakilerden hangisi doğrudur?

A) Ceyda, deneme türünde kitap almıştır.

B) Dilek, roman türünde kitap almıştır.

C) Birinci sıradaki kişi, şiir türünde kitap almıştır.

D) Üçüncü sıradaki kişi, deneme türünde kitap almıştır.

E) Beşinci sıradaki kişi, roman türünde kitap almıştır.

31.



Tamamı ilaç ile dolu olan yukarıdaki şişenin $\frac{1}{10}$'unu kullanan hemşire, kalan ilacı aşağıda verilen 4 şırıngaya tamamen dolacak şekilde bölündüğünde ilaç şişesinde hiç ilaç kalmıyor.

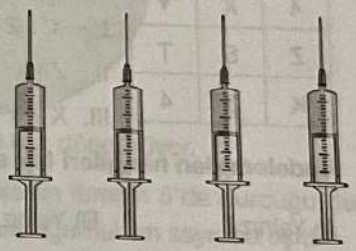

Buna göre, şırıngalardan birinin içindeki ilacın, şişedeki başlangıçtaki ilaca oranı kaçtır?

A) $\frac{9}{40}$ B) $\frac{9}{4}$ C) $\frac{4}{9}$ D) $\frac{40}{9}$ E) $\frac{1}{10}$

32. x ve y pozitif tam sayılarının en büyük ortak böleni tek, en küçük ortak katı ise çift sayıdır.

Buna göre,

I. $x \cdot y^2$

II. $x - y$

III. y^x

ifadelerinden hangileri <u>her zaman</u> tek sayıdır?

A) Yalnız I B) Yalnız II C) Yalnız III

D) I ve II E) II ve III

Diğer sayfaya geçiniz.

33. $\dfrac{\left(3+\frac{4}{3}\right)\cdot\left(4-\frac{5}{4}\right)}{\left(3+\frac{2}{3}\right)}$

işleminin sonucu kaçtır?

A) $\frac{13}{4}$ B) 3 C) $\frac{11}{4}$ D) $\frac{10}{4}$ E) $\frac{9}{4}$

34. $\dfrac{(n+1)!+(n-1)!}{n^3-1}=120$

olduğuna göre n kaçtır?

A) 3 B) 4 C) 5 D) 6 E) 7

35. X, Y, Z, T ve K birer doğal sayı olmak üzere, aşağıdaki tabloda hem her bir satırdaki sayıların toplamı hem de her bir sütundaki sayıların toplamı bir tek sayıdır.

4	X	Y
Z	5	T
K	3	4

Buna göre

I. $K+Z$

II. $Z\cdot X$

III. $X+Y$

ifadelerinden hangileri tek sayıdır?

A) Yalnız I B) Yalnız II C) Yalnız III D) I ve II E) I, II ve III

36.

$x^6\cdot z^5<0$

$x^3\cdot y<0$

$x^5-z^{13}<0$

olduğuna göre x, y ve z'nin işaretleri aşağıdakilerden hangisinde sırası ile verilmiştir?

A) +, +, − B) −, +, − C) −, −, − D) −, +, + E) +, +, +

37. x ve y gerçel sayıları için;

$x\cdot y^2<x^2\cdot y<0$

eşitsizlikleri veriliyor.

Buna göre

$|y-x|+|-x|+|y|$

ifadesinin değeri aşağıdakilerden hangisine eşittir?

A) 2x B) 2y C) −x D) −y E) −2y

38. $|x-3|+|2x-6|+|9-3x|=1967!$

denklemini sağlayan x değerlerinin toplamı kaçtır?

A) 0 B) 2 C) 4 D) 6 E) 8

39. Bir öğrenci, 1'den başlayarak n tane ardışık pozitif tam sayısının toplamını bulmak istiyor. Bu işlemi yaparken bir sayıyı yanlışlıkla iki defa toplayıp sonucu 118 buluyor.

Buna göre, öğrencinin iki defa topladığı sayı kaçtır?

A) 10 B) 11 C) 12 D) 13 E) 14

40. Aşağıdaki tabloda iki KPSS hazırlık kursu dershanesinin Ekim – Kasım – Aralık aylarındaki harcamaları ve bu üç aydaki toplam harcamaları TL türünden verilmiştir.

	1. Kurs	2. Kurs
EKİM	100.000	
KASIM		108.000
ARALIK		
TOPLAM	350.000	

Tabloda eksik olan kısımlarla ilgili aşağıdakiler bilinmektedir.

- Ekim ayında 2. kurs, 1. kursun harcama miktarının 3/2'si kadar harcamıştır.
- Aralık ayında 1. kurs, 2. kursun harcama miktarının 3/4'ü kadar harcamıştır.
- İkisinin de bu 3 ayda harcamaları eşittir.

Buna göre 1. kursun Kasım ayındaki harcaması kaç TL'dir?

A) 140.000 B) 150.000 C) 160.000 D) 181.000 E) 200.000

Diğer sayfaya geçiniz.

41. a, b sıfırdan farklı pozitif reel sayı olmak üzere

$$\frac{a-b}{a\sqrt{b}+b\sqrt{a}}=\frac{1}{\sqrt{a}}$$

eşitliği veriliyor.

Buna göre $\frac{b}{a}$ oranı kaçtır?

A) 2 B) 1 C) $\frac{4}{9}$ D) $\frac{1}{2}$ E) $\frac{1}{4}$

42. $a+b=5$

$b-c=3$

olduğuna göre

$ab-c^2+bc-ac$

ifadesinin eşiti kaçtır?

A) –6 B) 6 C) –5 D) 5 E) 14

43. x bir pozitif tam sayı olmak üzere;

$$\frac{8x+24}{x}$$

ifadesi bir tek doğal sayıdır.

Buna göre, bu koşulu sağlayan x değerlerinin toplam kaçtır?

A) 32 B) 28 C) 24 D) 20 E) 16

44. Bir züccaciyede satılan kaseler üst üste konularak kuleler oluşturuluyor. İç içe olan her iki kasenin tabanları arasındaki uzaklık, oluşturduğu tüm kase kulelerinde eşit olacak şekildedir. Sonra bu kuleler masanın üzerine konularak yükseklikleri ölçülüyor.

5 ve 9 kaseden oluşan iki kulenin yükseklikleri toplamının 16 kaseden oluşan kulenin yüksekliğine eşit olduğu görülüyor.

Buna göre 7 kase ve 12 kaseden oluşan iki kulenin yükseklikleri toplam kaç kaseden oluşan kulenin yüksekliğine eşit olur?

A) 20 B) 21 C) 22 D) 23 E) 24

45. **x gerçel sayısı için;**

$3^{x-2}+3^x+3^{x+2}=91$

olduğuna göre x kaçtır?

A) 2 B) 3 C) 4 D) 5 E) 6

46. İçinde sadece havuç ve salatalık bulunan bir sepetteki sebzelerin %40'ı çürüktür.

- Sepette çürümüş havuç sayısı kadar çürümemiş salatalık vardır.
- Sepette çürümemiş havuçların sayısı çürümüş salatalık sayısından 15 fazladır.

Buna göre sepetteki sebze sayısı kaçtır?

A) 60 B) 65 C) 70 D) 75 E) 80

47. Sekiz eşit bölgeden oluşan bir sayı çarkı aşağıda verilmiştir. Çarkın merkezinde bulunan ibre döndürüldükten bir müddet sonra sayıların yazıldığı bir bölgede durmaktadır.



- Tolga çarkı 20 kez döndürüyor.
- Bu döndürmelerde ibrenin 5'de durduğu durum sayısı, 6'da durduğu durum sayısına eşittir.
- Çarkın döndürmelerinde ibrenin durduğu tüm sayıların toplamı 92'dir.

Buna göre bu deneyde ibrenin 4 geldiği durum sayısı kaçtır?

A) 12 B) 8 C) 6 D) 4 E) 2

48. Kerem Bey'in yaşı ile ilgili aşağıdaki bilgiler veriliyor.

- 1992 yılında iki basamaklı xy
- 2019 yılında iki basamaklı yx

yaşındadır.

$\frac{x}{y}=\frac{1}{2}$ olduğuna göre, Kerem Bey'in doğum yılı aşağıdakilerden hangisidir?

A) 1923 B) 1940 C) 1956 D) 1962 E) 1967

49. Matematik ve Türkçe bölümlerinden 5'er soru olmak üzere toplamda 10 sorudan oluşan bir sınava girecek olan Mahir'in soru kâğıdının altında; "sınavı geçmek için matematik ve Türkçe bölümlerinin her birinden en az 3'er soru olmak üzere toplamda en az 7 soruyu doğru yanıtlamalısınız." yazmaktadır.

Bu ifadeyi yanlış anlayan Mahir, sınavdaki 10 sorudan rastgele 7'sini seçmiş ve 7 soruyu da doğru cevaplamıştır.

Buna göre Mahir'in sınavı geçme olasılığı kaçtır?

A) $\frac{6}{7}$ B) $\frac{5}{6}$ C) $\frac{10}{21}$ D) $\frac{4}{5}$ E) $\frac{7}{8}$

50. Ferdi çalıştığı kurumda duvarlara asmak için 5 farklı yönlendirme levhası almıştır. Bu levhalardan 2'sini 1. kata, 2'sini 2. kata, 1'ini 3. kata asacaktır.

Buna göre, Ferdi hangi tabloyu hangi kata asacağını kaç farklı şekilde seçebilir?

A) 15 B) 25 C) 30 D) 40 E) 45

51. Tuğba eşi Tolga'dan kendisine tatlı almasını istiyor ve aynı cadde üzerinde bulunan tatlıcıların aralarındaki mesafeleri metre cinsinden bir kâğıda çizip Tolga'ya veriyor.

A				
23	B			
18	41	C		
11	12	29	D	
9	32	9	20	E

Bu yol üzerinde ilerleyen Tolga 4. dükkân olan D tatlıcısına geliyor.

Buna göre, bu beş tatlıcının yol üzerindeki konumlarını bir kâğıda dökmek isteyen Tolga aşağıdaki çizimlerden hangisini elde etmiştir?

A)
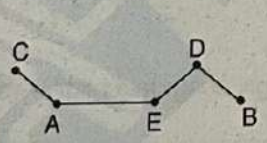

B)
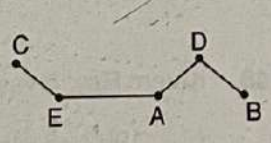

C)
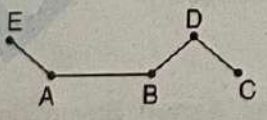

D)
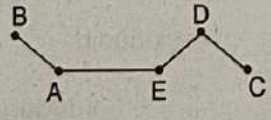

E)
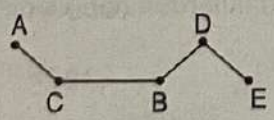

52.
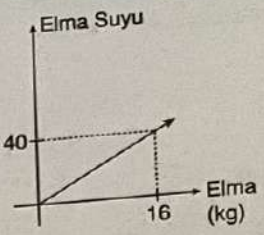

1. grafik

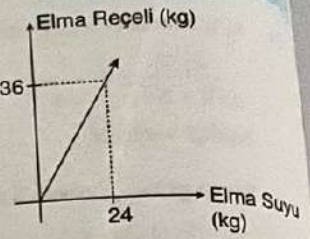

2. grafik

Yukarıdaki grafikler

- 1. grafik, elmadan elde edilecek elma suyu miktarını
- 2. grafik, elma suyundan elde edilen elma reçeli miktarını göstermektedir.

Buna göre 360 kg elma reçeli için kaç kg elmaya ihtiyaç vardır?

A) 48 B) 60 C) 72 D) 84 E) 96

53. Aşağıdaki Venn şemasında

- 3 ile kalansız bölünen tam sayılar kümesi A,
- 5 ile kalansız bölünen tam sayılar kümesi B,
- 30 ile bölünebilen tam sayılar kümesi C

ile gösterilmektedir.

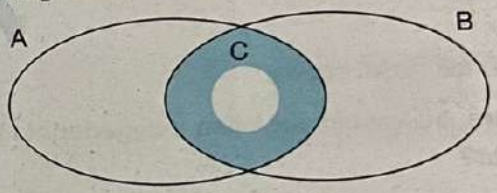

Buna göre

I. 9,

II. 15,

III. 30

sayılarından hangileri boyalı bölge ile gösterilen kümenin elemanıdır?

A) Yalnız I B) Yalnız II C) I ve III
D) II ve III E) I, II ve III

54. Bir radyoyu çalıştırmak için 4 tane pil (+) ve (–) kutuplara göre takılacaktır. Özdeş dört pil yönlerine dikkat edilmeden takılıyor.

Buna göre, radyonun çalışma olasılığı kaçtır?

A) $\frac{1}{32}$ B) $\frac{1}{20}$ C) $\frac{1}{16}$ D) $\frac{1}{8}$ E) $\frac{1}{2}$

Diğer sayfaya geçiniz.

55. Pozitif gerçel sayılar kümesi üzerinde □ işlemi

$$x \square y = \begin{cases} x \cdot y, & x > y \text{ ise} \\ x + y, & x \le y \text{ ise} \end{cases}$$

biçiminde tanımlanıyor.

Buna göre;

$5 \square (4 \square a) = 15$

eşitliğini sağlayan a değerleri toplamı kaçtır?

A) $\frac{135}{4}$ B) $\frac{47}{4}$ C) $\frac{15}{4}$ D) 14 E) 3

56. ve 57 soruları aşağıda verilen bilgilere göre çözünüz.

İki basamaklı her AB doğal sayısı için □ gösterimi

$\boxed{AB} = A^2 + 3B$ biçiminde tanımlanıyor.

56. $\boxed{AB} = \boxed{BA}$

eşitliğini sağlayan kaç basamaklı AB sayısı vardır?

A) 2 B) 6 C) 8 D) 11 E) 12

57. $\boxed{AB} = 19$

eşitliğini sağlayan AB iki basamaklı sayılarının toplamı kaçtır?

A) 100 B) 90 C) 88 D) 82 E) 75

58.

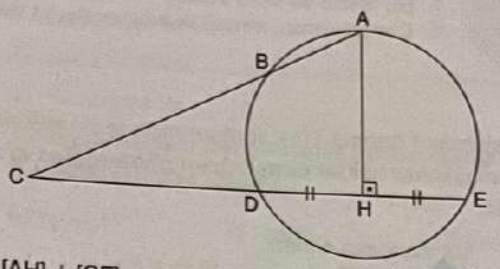

$[AH] \perp [CE]$

$|DH| = |HE|$

$m(\widehat{ACE}) = 40°$

Yukarıda verilenlere göre $\widehat{AB}$ yayının ölçüsü kaç derecedir?

A) 60 B) 70 C) 80 D) 90 E) 100

59.

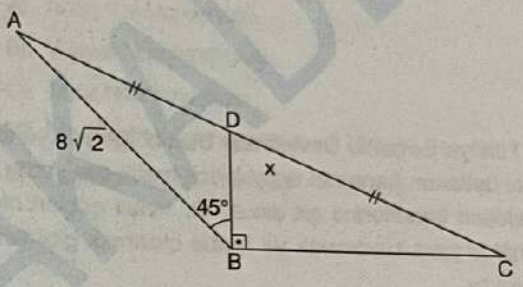

ABC üçgen

$[DB] \perp [BC]$

$|AD| = |DC|$

$m(\widehat{ABD}) = 45°$

$|AB| = 8\sqrt{2}$

olduğuna göre, |AC| kaç birimdir?

A) 16 B) $4\sqrt{3}$ C) $4\sqrt{10}$ D) 12 E) $8\sqrt{5}$

60. Taban çapı $4\sqrt{3}$ cm ve yüksekliği 12 cm olan dik dairesel silindir, taban düzlemiyle 60° lik açı yapan bir düzlemle şekildeki gibi kesiliyor.

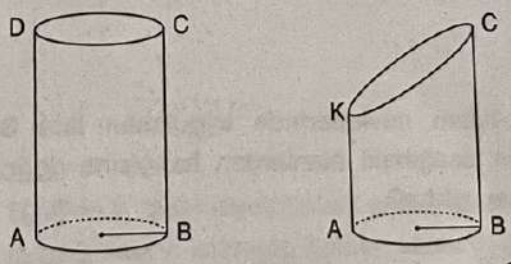

Buna göre kalan parçanın hacmi kaç cm^3 tür?

A) 40π B) 88π C) 92π D) 96π E) 100π

GENEL YETENEK TESTİ BİTTİ.

GENEL KÜLTÜR TESTİNE GEÇİNİZ.

1. Bu testte 60 soru vardır.
2. Cevaplarınızı, cevap kağıdının Genel Kültür Testi için ayrılan kısmına işaretleyiniz.

1. **İslamiyet öncesi Türk toplumunda teokratik devlet anlayışının hâkim olmadığının göstergeleri arasında;**

I. kut inancının olması,
II. şamanların ayrıcalıklı olmaması,
III. ölümden sonra yaşama inanılması

unsurlarından hangileri yer alır?

A) Yalnız I B) Yalnız II C) I ve II
D) II ve III E) I, II ve III

2. Türkiye Selçuklu Devleti'nde belli bölgelerin yönetimini üstlenen hanedan erkeklerine melik deniyordu. Meliklerin kendilerine ait askerî ve siyasi güçleri olduğu hâlde para bastırmak ve hutbe okutmak gibi yetkileri yoktu.

Meliklerin yetkilerinin sınırlı tutulması,

I. merkezî otoritenin güçlü tutulması,
II. yerleşik hayatın yaygınlaştırılması,
III. ülke bütünlüğünün korunması

amaçlarından hangileriyle ilgilidir?

A) Yalnız I B) I ve II C) I ve III
D) II ve III E) I, II ve III

3. **Türk-İslam devletlerinde uygulanan İkta Sistemi'nin aşağıdaki alanlardan hangisine <u>doğrudan</u> katkısı <u>yoktur</u>?**

A) Tarım B) Ordu C) Eğitim
D) Güvenlik E) İdare

4.

I. *Kutadgu Bilig*
II. *Şehname*
III. *Siyasetname*

Verilen eserlerden hangileri Uygur alfabesi ile yazılmıştır?

A) Yalnız I B) Yalnız II C) I ve II
D) I ve III E) II ve III

5. Osmanlılar idareleri altındaki farklı milletlerin; din, dil, örf, âdet ve geleneklerine müdahale etmemişler, vicdan hürriyetlerine saygı göstermişlerdir.

Bu uygulama Osmanlı Devleti'nde;

I. azınlıkların millî kimliklerinin korunması,
II. Avrupalıların, "Osmanlı Barışı" dedikleri bir sürecin yaşanması,
III. Anadolu Türk siyasi birliğinin kurulmasının zorlaşması

durumlarından hangilerinin yaşanmasına neden olmuştur?

A) Yalnız I B) I ve II C) I ve III
D) II ve III E) I, II ve III

6. **Osmanlı Devleti Klasik Dönem'de ekonomide;**

I. İaşecilik,
II. Fiskalizm,
III. Gelenekçilik

modellerinden hangilerini kullanmıştır?

A) Yalnız I B) I ve II C) I ve III
D) II ve III E) I, II ve III

APEMAKADEMİ

14. **Mondros Ateşkes Anlaşması'nın** "Osmanlı Devleti'nin elindeki tüm savaş esirleri ile esir ya da tutuklu bulunan bütün Ermeniler serbest bırakılacak fakat İtilaf Devletleri'nin elindeki Türk savaş esirleri geri verilmeyecek." **maddesine bakılarak;**

I. devletlerarası eşitlik ilkesine uygun davranılmadığı,

II. İtilafların, asker eksikliklerini esir edilen Türk askerlerden tamamlamaya çalıştıkları,

III. mütekabiliyet ilkesinin uygulanmadığı

yargılarından hangilerine ulaşılabilir?

A) Yalnız I B) I ve II C) I ve III

D) II ve III E) I, II ve III

15. Osmanlı Devleti I. Dünya Savaşı sonrasında Sevr Barış Antlaşması'nı imzalamıştır.

Bu antlaşma aşağıdaki şehirlerden hangisinde imzalanmıştır?

A) Londra B) Paris

C) San-Remo D) Berlin

E) İstanbul

16. **Mustafa Kemal Paşa'nın kendisinin gidemediği son Mebusan Meclisine başkan seçilmesini istemesindeki amaç aşağıdakilerden hangisidir?**

A) Yaşanabilecek bir olumsuzluk karşısında ülkenin güvenli bir yerinde meclisin toplanma çağrısını yapma yetkisine sahip olmak

B) Hakkında çıkarılan tutuklama kararının kalkmasını sağlamak

C) Düzenli ordular kurup kendisinin başkomutan olmasını sağlamak

D) Yasama dokunulmazlığına sahip olmak

E) İstanbul Hükûmeti ve padişahın Anadolu'da başlayan Millî Mücadele hareketini resmen tanımasını sağlamak

17. **Mustafa Kemal Paşa aşağıdaki kongrelerin hangisine TBMM Başkanı sıfatıyla ziyaretçi olarak katılmıştır?**

A) Balıkesir Kongresi

B) Erzurum Kongresi

C) Sivas Kongresi

D) Afyon Kongresi

E) Alaşehir Kongresi

18. **Millî Mücadele'nin Güney Cephesi'nde ön plana çıkan Kuvayımilliyeciler arasında aşağıdakilerden hangisi yer almaz?**

A) Ali Saib Ursavaş

B) Şahin Bey

C) Sütçü İmam

D) Tayyar Rahmiye

E) Kara Fatma

19. **Lozan Barış Anlaşması'nda aşağıdaki konulardan hangisinde alınan karar, yeni Türk devletinin iç işlerine karışılmasını engelleyici nitelikte değildir?**

A) Kapitülasyonlar

B) Boğazlar

C) Azınlıklar

D) Yabancı Okullar

E) Dış Borçlar

20. **1925'te çıkan Şeyh Sait İsyanı;**

I. tekke ve zaviyelerin kapatılması,

II. hilafetin kaldırılması,

III. medreselerin kapatılması

inkılaplarından hangilerinin yapılması sürecini hızlandırmıştır?

A) Yalnız I B) I ve II C) I ve III

D) II ve III E) I, II ve III

21. Türk Tarih Tezi, hanedan eksenli tarih yerine millet eksenli tarih yazımını esas almıştır.

Bu tez doğrultusunda;

I. *Türk Tarihinin Ana Hatları* isimli bilimsel eserin yazılması,

II. Türk Tarihi Tetkik Cemiyetinin kurulması,

III. Ankara Dil ve Tarih – Coğrafya Fakültesinin kurulması

çalışmalarından hangileri yapılmıştır?

A) Yalnız I B) I ve II C) I ve III

D) II ve III E) I, II ve III

22. Türkiye Cumhuriyeti, Osmanlı Dönemi'ndeki imparatorluk yapısı yerine yüzyılın konjonktürü gereği ulus devlet yapılanmasını benimsemiştir.

Buna göre,

I. Tevhid-i Tedrisat Kanunu'nun kabulü,
II. Medeni Kanun'un kabulü,
III. halifeliğin kaldırılması

faaliyetlerinden hangileri ulus devlet oluşturma amaçlı yapılan faaliyetlerdir?

A) Yalnız I B) I ve II C) I ve III
D) II ve III E) I, II ve III

23. **1936'da Türkiye'nin Montrö Boğazlar Sözleşmesi ile Boğazların statüsünün yeniden belirlenmesini sağlamasında aşağıdakilerden hangisinin etkisi olmamıştır?**

A) Boğazların yönetiminin uluslararası bir komisyonda olması
B) İtalya'nın Habeşistan'ı işgal etmesi
C) Japonya'nın Çin'e ait Mançurya'yı işgal etmesi
D) Almanya'nın Polonya'yı işgal etmesi
E) Milletler Cemiyetinin dünya barışını korumada etkili olamaması

24. **1927'de çıkarılan Teşvik-i Sanayi Kanunu'nun tam anlamıyla başarıya ulaşamaması aşağıdaki ilkelerden hangisinin uygulanmasını zorunlu hâle getirmiştir?**

A) Liberalizm B) Milliyetçilik
C) Laiklik D) Devletçilik
E) Halkçılık

25. **I. Dünya Savaşı sonrasında İngiltere'nin Orta Doğu'da manda yönetimi kurduğu bölgeler içinde aşağıdakilerden hangisi yoktur?**

A) Lübnan B) Ürdün C) Irak
D) Hicaz E) Filistin

26. **Soğuk Savaş Dönemi'nde Orta Doğu'da özellikle Suriye ve Irak'ta ortaya çıkan, Arap sosyalizminin yöntemleriyle Arap dünyasında yeniden doğuş gerçekleştirmeye çalışan siyasal anlayışa ve partilere verilen isim aşağıdakilerden hangisidir?**

A) İhvanü'l Müslimin B) Baas
C) Vehhabilik D) Mevali
E) Şuûbiye

27. **1991'de SSCB'nin dağılması ile;**

I. Comecon,
II. Varşova Paktı,
III. Bağımsız Devletler Topluluğu

örgütlerinden hangileri sonlanmıştır?

A) Yalnız I B) I ve II C) I ve III
D) II ve III E) I, II ve III

28. **Türkiye'de;**

I. batı rüzgârlarının etkili olması,
II. aynı anda farklı mevsim özelliklerinin görülmesi,
III. bakı yönünün güney olması

durumlarının yaşanması aşağıdakilerden hangisinin sonucudur?

	I	II	III
A)	Orta Kuşak'ta olmasının	Yer şekillerinin çeşitli olmasının	K.Y.K'de olmasının
B)	K.Y.K'de olmasının	Orta Kuşak'ta olmasının	Enlemin
C)	Yarımada ülkesi olmasının	Güneş ışınlarının dik gelmemesinin	Orta Kuşak'ta olmasının
D)	Orta Kuşak'ta olmasının	Yer şekillerinin çeşitli olmasının	Yengeç Dönencesi'nin kuzeyinde olmasının
E)	K.Y.K'de olmasının	Orta Kuşak'ta olmasının	Yer şekillerinin çeşitli olmasının

29. **Dağların kıyıya uzanış doğrultusunun aşağıdakilerden hangisine etkisi yoktur?**

A) Koy, körfez ve yarımada sayısına
B) Yağış miktarına
C) Kıyı ile iç kesimler arası ulaşıma
D) Kıta sahanlığına
E) Yağış rejimine

30. Türkiye'de ekonomi alanında gelişme sağlamak amacıyla 17 Şubat – 4 Mart 1923 tarihleri arasında İzmir İktisat Kongresi düzenlenmiştir.

Aşağıdakilerden hangisi bu kongrede alınan kararlardan biri değildir?

A) Yabancıların kurdukları tekellerden kaçınılmalıdır.
B) Dış rekabete dayanabilmek için sanayi tesisleri toplu ve bütün olarak kurulmalıdır.
C) Sanayinin teşviki ve millî bankaların kurulması sağlanmalıdır.
D) Büyük yatırım isteyen tesebbüsler yabancı şirketler tarafından kurulmalıdır.
E) Ham maddesi yurt içinde yetişen ve yetiştirilebilen sanayi dalları kurulmalıdır.

31. Regosoller, özellikle volkanik arazilerde akarsuların taşıdığı kum depoları üzerinde oluşan kum oranı yüksek topraklardır. Bu topraklar bağcılık (üzüm) ve patates gibi yumrulu bitkiler için uygun topraklardır.

Aşağıdaki Türkiye haritasında numaralandırılarak gösterilen yerlerden hangisinde sözü edilen topraklara rastlanır?

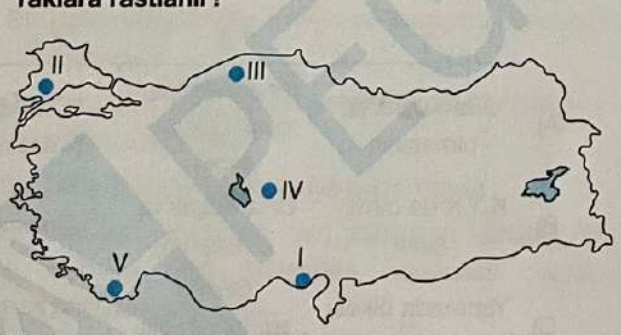

A) I B) II C) III D) IV E) V

32. Denize ulaşan akarsuların havzalarına açık havza, denize ulaşamayanlara kapalı havza denir.

Aşağıdaki akarsulardan hangi ikisinin havzası açık değildir?

A) Çoruh – Kızılırmak B) Seyhan – Gediz
C) Sakarya – Susurluk D) Fırat – Dicle
E) Kura – Aras

33. Türkiye ortalama yükseltisi fazla, dağlık ve engebeli bir yapıya sahiptir.

Türkiye'de yer alan akarsuların,

I. Enerji potansiyelleri fazladır.
II. Rejimleri düzensizdir.
III. Debileri düşüktür.
IV. Aşındırma gücü fazladır.

özelliklerinden hangileri bu durumun ortaya çıkardığı sonuçlardan değildir?

A) Yalnız II B) I ve II C) II ve III
D) I ve III E) I ve IV

34. **Antalya Limanı'ndan hareket edip Çanakkale Limanı'na yük taşıyacak olan bir geminin yolculuk sırasında aşağıdaki körfezlerden hangisini görmesi beklenemez?**

A) Saros B) Güllük C) Kuşadası
D) Gökova E) Çandarlı

35. **Ülkemizde yer alan aşağıdaki bitki formasyonlarından hangisi diğerleriyle aynı bölge içerisinde yaygın olarak yetişmez?**

A) Zeytin B) Kayın C) Zakkum
D) Sedir E) Keçiboynuzu

36. Çiftlik, geniş tarım arazileri üzerinde kurulmuş olan daimî köy altı yerleşmesidir.

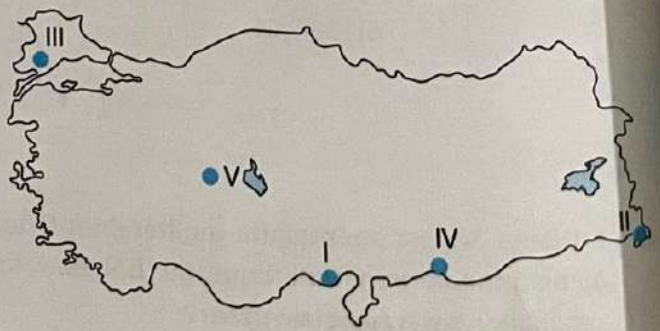

Buna göre; yukarıdaki Türkiye haritasında numaralanmış yerlerden hangisinde çiftlik yerleşmelerinin görülme olasılığı daha azdır?

A) I B) II C) III D) IV E) V

7. Osmanlı şehirlerindeki ekonomik faaliyetler belirli şartlara bağlandığı için her isteyen zanaata ve ticarete atılamazdı. Şehirlerde plansız iş yeri açmayı önlemek ve bölgeler arasında ekonomik dengeyi sağlamak için çeşitli tedbirler alınmıştır.

Aşağıdakilerden hangisi bu tedbirlerden biridir?

A) Gedik hakkı
B) Narh uygulaması
C) Pençik sistemi
D) İltizam sistemi
E) Ehl-i Hiref

8. Celâli İsyanları'na katılanlar bir gün celâli iken ertesi gün devlet hizmetinde bir görevli veya itaatli bir reaya olabilmiştir. Aynı şekilde isyancı liderler de bir gün eşkıya başı iken ertesi gün itibarlı bir sancak beyi hâline gelebilmiştir.

Bu durum Celâli İsyanları'nın;

I. devletten menfaat koparabilmek için çıkarıldığı,
II. devleti hedef almayan eşkıyalık faaliyetleri olduğu,
III. belli bir ideoloji doğrultusunda gerçekleşmediği

özelliklerinden hangilerini taşıdığını göstermektedir?

A) Yalnız I B) I ve II C) I ve III
D) II ve III E) I, II ve III

9. **Osmanlı Devleti'nin XVIII. yüzyılda yaptığı ıslahatların başarılı olamamasında;**

I. ulema,
II. yeniçeri,
III. lonca

gruplarından hangilerinin çıkarlarını koruma isteği etkili olmuştur?

A) Yalnız I B) Yalnız II C) I ve II
D) II ve III E) I, II ve III

10.

I. Tanzimat Fermanı
II. Sened-i İttifak
III. Kanunuesasi

Yukarıdakilerden hangilerinde azınlık haklarıyla ilgili düzenlemeler vardır?

A) Yalnız I B) I ve II C) I ve III
D) II ve III E) I, II ve III

11. **Osmanlı Devleti'nde Dağılma Dönemi'nde mutasarrıflık, liva ve nahiye gibi yeni idari birimlerin kurulması aşağıdakilerden hangisi ile gerçekleşmiştir?**

A) Arazi Kanunnamesi
B) Vilayet Nizamnamesi
C) Tapu Nizamnamesi
D) Matbuat Nizamnamesi
E) Ramazan Kararnamesi

12. **Osmanlı Devleti'nin 1876'da Kanunuesasi'yi ilan edip meşrutiyet yönetimine geçmesinde aşağıdakilerden hangisinin amaçlandığı söylenemez?**

A) Osmanlıyı dağılıp parçalanmaktan kurtarmak
B) Azınlıkların Osmanlıya bağlı kalmasını sağlamak
C) Balkanların Slavlaşmasını engellemek
D) Avrupalıların azınlıkları bahane ederek devletin iç işlerine karışmasını engellemek
E) 1876 İstanbul-Tersane Konferansı'nda Avrupa'nın desteğini almak

13. **1908'de II. Meşrutiyet'in ilanı sırasında çıkan kaosta bağımsızlık kazanan Balkan ulusu aşağıdakilerden hangisidir?**

A) Yunanistan B) Arnavutluk C) Romanya
D) Bulgaristan E) Sırbistan

Diğer sayfaya geçiniz.

7. Aşağıda Türkiye'nin iki farklı yöresinin aylık ortalama sıcaklık ve yağış grafiği verilmiştir.



I. Bölge

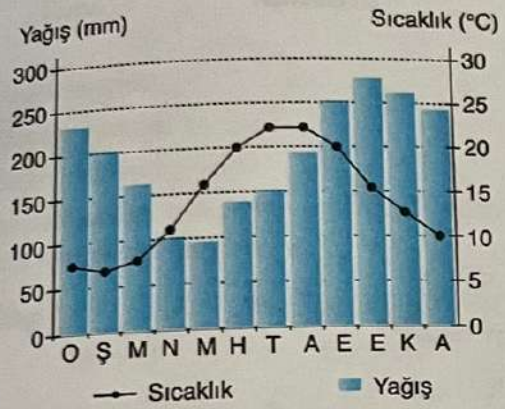

II. Bölge

Bu yörelerin kırsal alanlarında yaygın olan mesken tipi aşağıdakilerden hangisinde doğru olarak verilmiştir?

	I	II
A)	Ahşap	Kerpiç
B)	Kerpiç	Taş
C)	Kerpiç	Ahşap
D)	Ahşap	Taş
E)	Taş	Hımış

8. **Aşağıda verilen yörelerden hangisinde nüfusun önemli bir kısmının sanayi sektöründe çalıştığı <u>söylenemez</u>?**

A) Söke B) Kırıkkale C) Karabük
D) İskenderun E) İzmit

39. **Ülkemiz genelinde etkili olan yarı kurak iklim şartları yerine düzenli yağış rejiminin olduğu varsayıldığında,**

I. fındık,
II. çay,
III. buğday,
IV. pamuk

ürünlerinden hangilerinin ekim alanlarında daralma olacağı söylenebilir?

A) I ve II B) I ve III C) II ve IV
D) III ve IV E) I, II ve IV

40.

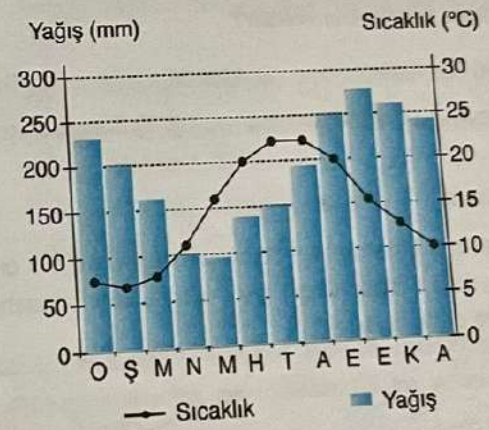

Yukarıda aylık ortalama sıcaklık ve yağış grafiği verilen yörede yetiştirilen tarım ürünü ve yoğun olarak yapılan hayvancılık faaliyeti aşağıdakilerden hangisinde doğru olarak eşleştirilmiştir?

	Tarım ürünü	Hayvancılık Faaliyeti
A)	Turunçgil	Koyun
B)	Fındık	Sığır
C)	Zeytin	Sığır
D)	Buğday	Kıl keçisi
E)	Çay	Koyun

PEGEM AKADEMİ

41.

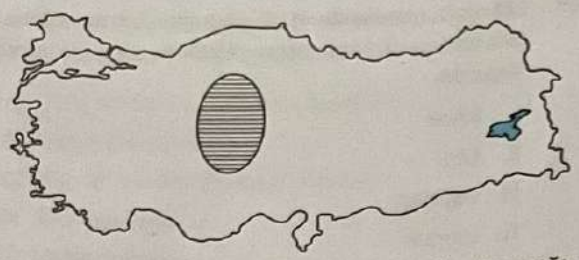

Verilen haritada taranarak gösterilen alanda aşağıda verilen sanayi kollarından hangisinin ham maddesi daha fazla bulunmaktadır?

A) Kereste B) Petrokimya
C) Şeker D) Sigara
E) Pamuklu dokuma

42. Aşağıdaki haritada Türkiye'deki demir yolu ağı gösterilmiştir.

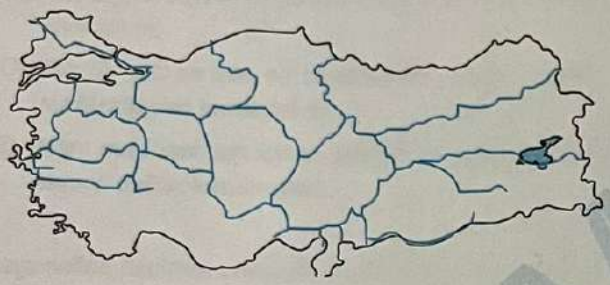

Buna göre, aşağıdaki limanlardan hangisinin demir yolu bağlantısı yoktur?

A) Samsun B) Mersin C) Trabzon
D) İzmir E) Zonguldak

43. Çevreyi kirletmeyen temiz ve tükenmeyen bir enerji kaynağı olması rüzgâr gücünün kullanımını daha cazip hâle getirmektedir.

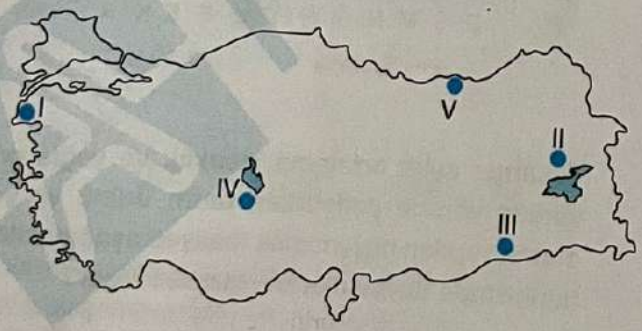

Buna göre, yukarıda numaralandırılan merkezlerden hangisi rüzgâr hızı bakımından potansiyeli yüksek alanlara bir örnektir?

A) I B) II C) III D) IV E) V

44. Aşağıdaki haritada Türkiye'de en çok teşvik alan illerin dağılışı gösterilmiştir.



Buna göre aşağıdakilerden hangisi bu illerden biri değildir?

A) Hakkâri B) Bitlis C) Ağrı
D) Batman E) Artvin

45.

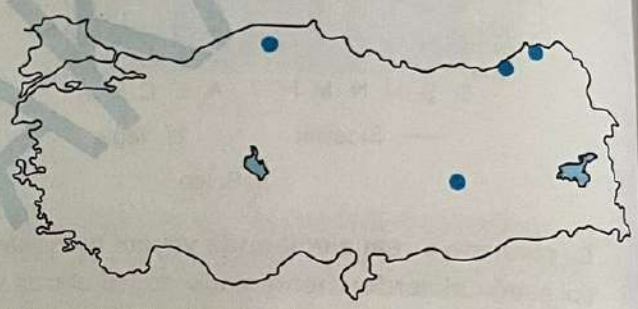

Yukarıdaki haritada çıkarıldığı yerlerin dağılışı verilen maden aşağıdakilerden hangisidir?

A) Bor B) Fosfat C) Krom
D) Bakır E) Boksit

46. Aşağıdakilerden hangisi fiil ehliyeti sınıfları bakımından diğerlerinden farklı bir grupta yer alır?

A) 17 yaşında ayırt etme gücüne sahip A
B) 28 yaşında kumar bağımlısı olduğu için kısıtlanmış B
C) 38 yaşında akıl zayıflığı nedeniyle kısıtlanmış ayırt etme gücüne sahip C
D) 45 yaşında savurganlık nedeniyle kısıtlanmış D
E) 37 yaşında akli dengesi yerinde olmayan E

AFGEMAKADEMİ

47. **Bir kimsenin gerek kendisinin gerek başkasının şahsına veya mal varlığına karşı yapılan haksız ve devam etmekte olan bir saldırıyı engellemek için gerçekleştirdiği zorunlu ve orantılı karşı saldırıya verilen ad aşağıdakilerden hangisidir?**

A) Haksız fiil
B) Zaruret hâli
C) Haklı savunma
D) Kuvvet kullanma
E) Zorda kalma

48.

I. Analık karinesi
II. Babalık karinesi
III. Ölüm karinesi

Yukarıdakilerden hangileri aksi ispat edilemeyen (kesin) karine niteliğindedir?

A) Yalnız I B) Yalnız II C) Yalnız III
D) I ve II E) II ve III

49.

I. Cumhurbaşkanı
II. Cumhurbaşkanı yardımcıları
III. Bakanlar

1982 Anayasası'na göre Meclis soruşturması yukarıdakilerden hangileri için işletilebilir?

A) Yalnız I B) Yalnız II C) Yalnız III
D) I ve II E) II ve III

50. **Millî Güvenlik Kuruluna ilişkin olarak aşağıdaki ifadelerden hangisi <u>yanlıştır?</u>**

A) Kararları bağlayıcı nitelikte değildir.
B) Olağanüstü hâl ilan edilirken cumhurbaşkanına görüş bildirir.
C) Cumhurbaşkanın katılamadığı toplantılar Cumhurbaşkanı yardımcısı başkalığında gerçekleşir.
D) Gündemi cumhurbaşkanı tarafından belirlenir.
E) Kurulun genel sekreteri kurul üyesi değildir ancak toplantılara katılır.

51. **Hâkimler ve Savcılar Kurulu kararlarına ilişkin olarak aşağıdakilerden hangisi doğrudur?**

A) Tüm kararlarına karşı yargı yolu açıktır.
B) Tüm kararlarına karşı yargı yolu kapalıdır.
C) Meslekten çıkarma kararları hariç tüm kararlarına karşı yargı yolu açıktır.
D) Meslekten çıkarma kararları hariç tüm kararlarına karşı yargı yolu kapalıdır.
E) Kararlarına karşı yalnızca Anayasa Mahkemesine düzeltme talebinde bulunulabilir.

52. **Aşağıdakilerden hangisi merkezî idarenin anayasada yer alan başkente yardımcı kuruluşları arasında yer alır?**

A) Yargıtay
B) Ankara Valiliği
C) Devlet Planlama Teşkilatı
D) Yükseköğretim Kurulu
E) Ekonomik ve Sosyal Konsey

53. **Aşağıdakilerden hangisi arasındaki hukuki denetim aracı hiyerarşidir?**

A) Araklı Belediye Başkanı – Araklı Belediyesi İtfaiye eri
B) Ankara Valisi – Ankara Büyükşehir Belediye Başkanı
C) İçişleri Bakanı – Yeşilce Köyü Muhtarı
D) Trabzon Büyükşehir Belediye Başkanı – Araklı Belediyesi Zabıta Müdürü
E) Türkiye Barolar Birliği Başkanı – Trabzon Baro Başkanı

54. **Aşağıdakilerden hangisi devlet memurluğundan çıkarma cezasını gerektiren fiil ve hâllerden biri <u>değildir?</u>**

A) Memurluk sıfatı ile bağdaşmayacak nitelik ve derecede yüz kızartıcı ve utanç verici hareketlerde bulunmak
B) Savaş, olağanüstü hâl veya genel afetlere ilişkin konularda amirlerin verdiği görev veya emirleri yapmamak
C) Amirlerine, maiyetindekilere ve iş sahiplerine fiilî tecavüzde bulunmak
D) Siyasi partiye girmek
E) Özürsüz ve kesintisiz 3 ila 9 gün arasında göreve gelmemek

Diğer sayfaya geçiniz.

55. Aşağıdaki ülkelerden hangisi Avrupa Birliği üyesi olmasına rağmen kendi isteğiyle avro kullanmamaktadır?

A) İsviçre
B) Danimarka
C) Macaristan
D) Romanya
E) Hollanda

56. Matbaacılığı geliştiren ve modern matbaanın Avrupa'da kurulmasını sağlayan mucit aşağıdakilerden hangisidir?

A) Leonardo Da Vinci
B) Nikola Tesla
C) Wright Kardeşler
D) Johannes Gutenberg
E) Thomas Edison

57. Nisan 2023'te Hırvatistan'da düzenlenen Avrupa Güreş Şampiyonası'nda, grekoromen stil 130 kilo-da altın madalya alarak 12. kez Avrupa Şampiyonu olan ilk millî güreşçimiz aşağıdakilerden hangisidir?

A) Rıza Kayaalp
B) Taha Akgül
C) Selim Yaşar
D) Selçuk Çebi
E) Yakup Gör

58. 2022 Nobel Fizyoloji ve Tıp Ödülü'ne aşağıdaki bilim insanlarından hangisi layık görülmüştür?

A) Artem Pataputyan
B) Svante Paabo
C) David Julius
D) Charles M. Rice
E) Michael Houghton

59. 2023 Altın Küre Ödülleri'nde "Drama Dalında En İyi Film" ödülüne aşağıdaki yapımlardan hangisi layık görülmüştür?

A) The Fabelmans
B) The Banshees of Inisherin
C) Everything Everywhere All at Once
D) House of the Dragon
E) The White Lotus

60. 15 Nisan 2023'te uzaya fırlatılan Türkiye'nin metre altı çözünürlüğe sahip yerli ve millî ilk gözlem uydusu aşağıdakilerden hangisidir?

A) Ulak B) Kaan C) Kızıl Elma
D) Anadolu E) İmece

TEST BİTTİ.
CEVAPLARINIZI KONTROL EDİNİZ.