1. Bu testte 60 soru vardır.
2. Cevaplarınızı, cevap kağıdının Genel Yetenek Testi için ayrılan kısmına işaretleyiniz.

1. Bilim ya da sanat eserlerinden birini eline alan bir okur, onun nasıl hazırlandığını, ne gibi emeklerle ---- bilmez; böyle bir düşünceyi hatırından bile geçirmez çünkü okurun amacı o eserden yalnızca ---- veya zevk almaktır.

Bu cümlede boş bırakılan yerlere getirilmesi gereken <u>en uygun</u> sözler aşağıdakilerin hangisinde verilmiştir?

A) meydana getirildiğini – istifade etmek
B) sunulduğunu – fayda sağlamak
C) açığa çıkarıldığını – yararlanmak
D) anlamlandırıldığını – bilgi aktarmak
E) söze aktarıldığını – anlam devşirmek

2. Birkaç gündür evden dışarı adımını atmamıştı. Bu süre zarfında, duvardaki durmuş saat birkaç kez gözüne ilişmişti. Ona ne zaman baksa babasını hatırladı. İki gündür aralıksız yağan yağmur durunca yarın dışarı çıkarım diye düşündü. Uzandığı kanepeden kalkıp mutfağın yanındaki odaya gitti. Odada her şey dağınıktı, ayakta duracak yer bile yoktu. Hemen kapıyı kapattı. Kapıyı kapatırken gördüğü çantadan sonra geçen hafta gittiği baloyu hatırladı. Yakın arkadaşlarının ısrarı üzerine gittiği baloda çok durmamış, yarım saat sonra salondan ayrılmıştı.

Bu parçada "durmak" sözcüğü aşağıdaki anlamlarından hangisini karşılayacak biçimde <u>kullanılmamıştır</u>?

A) Yaşamak
B) Dinmek, kesilmek
C) Beklemek, dikilmek
D) İşlemez olmak
E) Kalmak

3.

I. Ay'a yeniden astronot göndermek için
II. uzaydaki araştırma sahalarını gitgide genişleten
III. Apollo 17'den yaklaşık yarım asır sonra
IV. NASA, 1972'de Ay'a yapılan son uçuş
V. Artemis programını başlattı

Yukarıdaki sözler anlamlı ve kurallı bir cümle oluşturacak biçimde sıralandığında hangisi <u>baştan dördüncü</u> olur?

A) I B) II C) III D) IV E) V

4. (I) Okuma becerisi, sözcükleri ayırt etme ve görülen yazılı ifadeleri bellekteki sözcükleri eşleştirmeyle yakından ilişkilidir. (II) Sözcük hazinesiyle doğrudan ilişkili olan bu beceriler birkaç farklı sürecin eş zamanlı olarak gerçekleşmesini gerektirir. (III) Başarılı okuyucular, yazılı bir metnin tutukluktan uzak okunabilmesi için sözcükleri görsel olarak kendiliğinden, oldukça hızlı bir şekilde ayırt eder ve eşleştirirler. (IV) Böylece giderek akıcı bir okuma profiline ulaşırlar. (V) Bu seviyeye ulaşıldığında sözcükler otomatik olarak göze çarpar ve tek tek seslere dönüştürülmesine gerek kalmadan okunabilir. (VI) Oldukça hızlı gerçekleşen bu süreçte kullanılan beceri, temelde ses bilgisi farkındalığıyla bağlantılıdır.

Bu parçada numaralanmış cümlelerle ilgili olarak aşağıdakilerden hangisi <u>yanlıştır</u>?

A) I. cümlede, okumanın fiziksel ve bilişsel unsurlarına atıfta bulunulmuştur.
B) II. cümlede, bireylerin sahip olduğu kelime varlığının okuma sürecine etkisi olduğu belirtilmiştir.
C) III. cümlede, akıcı okuma becerisini kazanan bireylerin söz varlığını daha kolay zenginleştirebileceğinden söz edilmiştir.
D) V. cümlede, akıcı okuma düzeyini yakalayan bireylerin bir metni ek çaba veya irade göstermeden de algılayıp tüketebileceğinden bahsedilmiştir.
E) VI. cümlede, akıcı okuma süreçlerinde dilin ses özellikleriyle ilgili sahip olunan altyapının etkililiğine değinilmiştir.

5.

I. Kütle çekimi etkisini evrenselleştirmeyi başaran Newton, onunla sadece gökyüzünde olup bitenleri değil denizlerdeki gelgit hareketlerini de açıkladı.

II. Böylece olgulardan edindiği verileri yine olguları açıklamada kullandı ve bu bakış açısıyla, düşünce tarihine geçen ünlü "Varsayım uydurmuyorum!" sözünü söyledi.

Yukarıda verilen II numaralı cümle için aşağıdakilerden hangisi söylenebilir?

A) I. cümlede açıklanan bir durumun gerekçesi hakkında bilgiler sunmaktadır.

B) I. cümlede belirtilen durumla ilgili örnekler sunularak düşünceler kanıtlama yoluna gidilmiştir.

C) I. cümlede ortaya atılan görüşe karşıt bir görüş geliştirecek önermeler öne sürülmüştür.

D) I. cümlede ifade edilen bilgiden hareket edilerek gerçekleştirilen keşif sürecinden bahsedilmektedir.

E) I. cümlede ifade edilen duruma bağlı olarak ortaya çıkmış farklı durumlardan söz edilerek düşünce geliştirilmektedir.

6. Etrafımızı kuşatan kurumuş lav ve ponza kayaçlarından (I) kopan parçacıklara (II) karşı dağa taşa ağ gerilmiş. Adanın temel ihracat kalemi olan ponza taşından tepelerin arasında bir yol zikzak çizerek, (III) bizi dünyaca ünlü Oia köyüne doğru çıkarıyor. (IV) Çok geçmeden yarım kubbeli Santorini evleri de başlıyor. (V)

Bu parçadaki numaralanmış sözcüklerle ilgili aşağıdakilerden hangisi yanlıştır?

A) I'inci, isimden isim yapım ekiyle türemiştir.

B) II'nci, isimden isim yapım ekiyle türemiştir.

C) III'üncü, fiilden fiil yapım ekiyle türemiştir.

D) IV'üncü, fiilden fiil yapım ekiyle türemiştir.

E) V'inci, isimden fiil yapım ekiyle türemiştir.

7.

I. Böyle bir kuvvetin neden var olduğunu olgulardan hareketle keşfedememiştim.

Yerinde olsam kınlacağını düşünür ve ona böyle davranmazdım.

II. Elinizde tuttuğunuz bu kitaptaki amacım, ışığın özelliklerini hipotezlerle açıklamak değil.

Her ne kadar önemsiz görünse de bu başka araştırmalara basamaklık edebilecek bir keşif.

III. Öğrencilerin okuma metinlerine karşı ilgi alaka beslemesi için bolca etkinlik yaptırırdı.

Masmavi denizin gözle görülür uzaklığında yer alan karşı kıyısında boy boy ağaçlar yeşile bürünmüştü.

IV. Sosyal çevrenizde sabit düşüncelere sahip insanlar oldukça sizi geliştirecek uyaranların sayısı da sınırlı olacaktır.

Yaşamdan beklentisi sabit gelir, sakin yaşam, huzurlu bir ev ortamı etrafında şekillenmişti.

V. Kökleri Türk töresine dayanan Ahiliğin mantığını kavramak için yalnız Selçukluya değil Osmanlıya da bakmak gerekir.

Doğruyu söylemek gerekirse önermelerinin temelleri sağlam değil hatta bilimsel hatalar da içeriyor.

Yukarıdaki numaralanmış cümlelerin hangisinde altı çizili sözcükler tür bakımından özdeştir?

A) I B) II C) III D) IV E) V

8. "Görevimiz Tehlike" filmlerinden fırlamış gibi görünen teknolojiyi geliştiren bilim insanları ----.

Bu cümle aşağıdakilerden hangisiyle tamamlanırsa cümlenin öge dizilişi "özne-belirtili nesne-yüklem" şeklinde olur?

A) şüphesiz eylem aşamasına geçmeden bu eşsiz teknolojiyi gerçekleştirdiklerini hayal etmişlerdi

B) gece gündüz durmadan çalıştıkları için uzun süre ailelerini ihmal etmişti

C) hemen herkesin gündelik hayatını kolaylaştırmasını bekledikleri bu aracı bütün insanlığa adadılar

D) bu teknolojinin evde bakıma muhtaç yaşlı insanların takip edilmesi ve yakınlarına bilgi verilmesi gibi amaçlarla kullanılabileceğini düşünüyorlar

E) başka bir icat yapmak için şimdiden çalışmalara başladı

9. **Aşağıdaki cümlelerin hangisinde bildirme eki ötekilerden farklı işlevde kullanılmıştır?**

A) Bilim insanı, doğada olup bitenlerin matematik aracılığıyla sağlam ve güvenilir bilgisinin edinileceğini savunan geleneğin en yetkin temsilcisidir.

B) İnsanın aklıyla benliğini sarıp sarmalar zaman ve her kâşif, şafağındadır ismini ölümsüzlüğe kazımanın.

C) İster metafiziksel ister fiziksel ister doğaüstü nitelikte olsun, hipotezlerin deneysel felsefede yeri yoktur.

D) İnce eleyip sık dokuduğumuz bu projeyi hiç yılmadan sürdürüyoruz tam on iki yıldır.

E) Eksiklerini ve hatalarını kabul etmek, gelişim göstermenin en önemli adımıdır.

10. Buzul zamanlarında, Doğu Karadeniz Bölgesi'nin (I) batısındaki Giresun Dağları'ndan başlayarak doğusundaki Kaçkarlar'a (II) dek uzanan alanda 300 km'lik (III) bir kuşak buzullar tarafından şekillendirilmişti. Batı ve Orta (IV) Toroslar da buzullaşmadan etkilenmiş olmasına rağmen buralarda buzul gölü (V) sayısı çok azdır.

Bu parçada numaralanmış yerlerin hangisinde yazım yanlışı yapılmıştır?

A) I B) II C) III D) IV E) V

11. Özellikle bir yazın türünde isim yapmış kişilerin başka türlerdeki ürünleri genellikle görmezden gelinir. Bir türde yol katetmiş, adını perçinlemiş kişiler için bu daha da rağbet gören bir yaklaşımdır. Okuyucu, görmek istediğinin ardına düşmeyi daha çok yeğlediğinden şairin şiirlerini ve öykücünün de öykülerini sahiplenip ondan başkasına gözünü ve kulağını kapatabiliyor. Söz gelimi "Otuz Beş Yaş" şiiri, adı şairinin önüne geçmiştir, edebiyatla uzaktan yakından ilgilenen herkesin aşinalığını kazanmış bir şiirdir. Ancak birçok akademisyen Cahit Sıtkı'nın öyküleri olduğu pek de bilinmez, der ve herkesçe bilinen bu şiirin yaratıcısının başka türde de eser verdiğine dikkat çeker.

Bu parçada virgülün aşağıdaki işlevlerinden hangisini örneklendiren kullanımı yoktur?

A) Sıralı cümleleri birbirinden ayırmak için konur.

B) Yüklemden uzak düşmüş olan özneyi belirtmek için konur.

C) Cümle içinde ara sözleri veya ara cümleleri ayırmak için konur.

D) Birbiri ardınca sıralanan eş görevli kelime ve kelime gruplarının arasına konur.

E) Tırnak içinde olmayan alıntı cümlelerinden sonra konur.

12. Antarktika sularında yaz aylarında çok sayıda alg bulunur. Bunlar üzerine sürdürülen araştırmalar yeni sonuçların alınmasına ve yeni türlerin keşfedilmesine imkân verir. Türk araştırmacılar önceki yıllarda bu bölgeyi tarıyordu ve yeni alg türleri bulmuştu.

Bu parçada aşağıdaki ses olaylarından hangisi yoktur?

A) Ünsüz benzeşmesi B) Ünsüz yumuşaması

C) Ünlü düşmesi D) Ünlü daralması

E) Ünsüz düşmesi

13. En sevdiği kitapçının kapısındaydı. Kapının kırık kolunu tutmuştu. Tek tük taş binalar, bitmeyen yollar, yarıda bırakılan romanlar, kitapçıya en yakın kafede fındıklı sıcak çikolata... Tüm bunlar aklından geçerken gökyüzünün ağlaması biraz olsun dinmişti. Papatyaların dağıldığı sisli yollara bakarken artık gökte uçamayan topal kuşları hatırladı bir bir. İyileşince, gökyüzü açınca sessiz sedasız uyanıp yuvalarından çıkacaklarını, gökyüzünü şen kahkahalarıyla nasıl da dolduracaklarını düşündü.

Bu parçanın anlatımıyla ilgili olarak aşağıdakilerden hangisi söylenemez?

A) Kişileştirmelere başvurulmuştur.
B) Betimleyici anlatımdan yararlanılmıştır.
C) Pekiştirmeli söyleyişlerden faydalanılmıştır.
D) Sayıp dökmeye yer verilmiştir.
E) Kahraman bakış açısı tercih edilmiştir.

14. (I) Bir bilgisayar programı yoluyla bir insanın sesinin yapay olarak kopyalanması olan ses klonlama, son yıllarda hem aktörlerin hem de siber haydutların tercih ettiği yöntemlerden biri. (II) Ses teknolojisindeki ilerleme o kadar büyük ki herkes artık kusursuz sesler kaydedebilme imkânına sahip. (III) Bu yöntemde, geliştirilmiş yazılıma bir kişinin konuşurken kaydedilmiş sesi yüklendiğinde klavye ile yazılan her şey o kişinin sesiyle söylenebiliyor. (IV) Üstelik yazılım, sadece aksanı taklit etmekle kalmıyor; sesin tınısını, tonlamasını, ritmini ve kelimelerin ve nefesin akışını dahi algılıyor. (V) Bunun üzerine bir de klonlanan sese öfke, korku, mutluluk, sevgi ya da bezginlik gibi farklı duygular da yansıtılabiliyor.

Bu parçada numaralanmış cümlelerden hangisi parçanın anlam bütünlüğünü bozmaktadır?

A) I B) II C) III D) IV E) V

15. (I) Açık artırmaların (müzayede) tarihi oldukça eskiye dayanır. (II) Yunan tarihçi Herodot'un belgelediği ilk müzayedeler iki bin beş yüz yıl önce Babil'de gerçekleşmiştir. (III) Antik Roma'da alacaklılar borçları ödeyemeyen insanların mallarını haczetmiş, satmak için müzayede yöntemini kullanmıştır. (IV) Geçmişte olduğu gibi günümüzde de açık artırmalar önemli bir yer tutmaktadır. (V) Yüzyıllardır olduğu gibi bugün de balık, taze çiçek ve işlenmemiş elmas gibi ürünlerin satışı açık artırma yoluyla yapılmaktadır. (VI) Açık artırma denince ilk akla gelen çiftlik hayvanlarının satışı veya yüksek fiyatlara satılan sanatsal objeler olsa da açık artırma formatı internet üzerinden müşterilere sunulan herhangi bir ürünün satışında da görülebilmektedir.

Bu parça iki paragrafa ayrılmak istense ikinci paragraf numaralanmış cümlelerden hangisiyle başlar?

A) II B) III C) IV D) V E) VI

16. Her sanatçının dilinde, hele büyük sanatçıların kullandığı dilde bir güzellik vardır. ---- Ancak bu sıradan sözcükler onların dilinde sanki değişir; yeni anlamlar, yeni bir tat bağlar.

Bu parçada boş bırakılan yere düşüncenin akışına göre aşağıdakilerden hangisi getirilmelidir?

A) Dile ait ürünlerdeki güzellik ise soyut boyuttan yani anlam boyutundan ziyade işitebildiğimiz yanındadır.
B) Bir dildeki sözcüklerin anlam değiştirmesi, bütün dillerde görülebilecek olağan bir durumdur.
C) Çoğu, hemen herkesin gündelik yaşamda kullandığı ya da işittiği kelimelerle yazar.
D) Edebiyatçıların sanatsal faaliyetlerdeki asıl başarısı, sözcüklere yükledikleri anlamlarda gizlidir.
E) Gerçek bir sanatçıyı çabucak anlamak, bu nedenle kolay değildir.

EGEMAKADEMİ

17. (I) İnsanlık ilkbaharın renkli habercisi çiçeklerin açmasının, gündüz süresine ve sıcaklık değişim eğilimine bağlı olduğunu uzun süre önce fark etmişti. (II) Ancak sürecin biyokimyasal yolak yapbozunun ana hatları güncel araştırmalar sayesinde tamamlanmaya başlamıştır. (III) Araştırmacılar, bitkilerin olağan çiçeklenme zamanlarını kontrol etmek için HDA9, PWR ve AGL 19 proteinlerini kullandıklarını düşünüyor. (IV) Çiçek açma sürecinin başlamasında gündüz süresine ek olarak ortam sıcaklığındaki düzenli değişimlerin de etkin olduğu bilinse de henüz bu süreçlerin moleküler mekanizması net bir biçimde anlaşılabilmiş değil. (V) Böylece daha verimli hasat dönemlerinin önünün açılabileceği varsayılıyor.

Bu parçadaki numaralanmış cümlelerin hangisinden sonra "Bilim insanları bu mekanizmanın daha iyi anlaşılıp kontrol edilebilmesi sayesinde, üreticiler için çiçeklenmeyi hızlandırıcı ya da erteleyici yöntemler geliştirilebileceğini düşünüyor." cümlesi getirilirse parçanın anlam bütünlüğü sağlanmış olur?

A) I B) II C) III D) IV E) V

18.

I. Bizde; divan, mecmua ve cönklerde yer alan metinlerin yanlış, eksik, anlaşılmaz veya atlanmış kısımlarının nasıl tamir edileceğiyle ilgili "metin tamiri" niteliğindeki ilk metin, Ali Nihat Tarlan tarafından kaleme alınmıştır.

II. Metin tamiri yöntemi, edebiyatımızda daha çok klasik edebiyat metinleri ile ilişkili bir kavram olmuştur.

III. Yazar, divanlarda, mecmualarda yer alan metinlerdeki kusurların ve gözden kaçmış, atlanmış yerlerin dizelerde nasıl tamir edileceği üzerine yazılmış yol gösterici, öğretici bir teorem ve uygulamalı metodolojik bir yazı kaleme almıştır.

IV. Bu yazı, akademik düzeyde metinlerin nasıl tamirinin yapılması konusunda bir öncü işlevi görmüştür.

V. Bir başka deyişle metin tenkidi ve metin bilgisi bağlamında ilk teori ve uygulamalı metodolojik işlev gören kapsamlı makale olmuştur.

Yukarıdaki cümlelerin anlamlı bir bütün oluşturabilmesi için hangilerinin birbiriyle yer değiştirmesi gerekir?

A) I ve II B) I ve III C) II ve IV
D) III ve V E) IV ve V

19. İzlenimcilik akımının temel resim anlayışı anlık duyumların tuvale ya da yüzeye aktarılmasıdır. Öncü ressamı Claude Monet'dir. İzlenimcilik akımının adı, Monet'nin yaptığı "İzlenim: Gün Doğumu" adlı tablosundan gelmektedir. Bu resim anlayışı, olguculuk akımının ortaya koyduğu düşüncede olduğu gibi, resimsel gerçekliği anlık duyumların tuvale aktarılması biçiminde bizlere duyumsatmaktadır.

Bu parçaya göre izlenimci resimle ilgili olarak aşağıdakilerden hangisi söylenebilir?

A) Doğal unsurları olduğu gibi tuvale yansıtma çabasından doğmuştur.

B) Hedef kitlenin duygularını etkileyerek onlara verilmek istenen iletiyi doğrudan açıklama amacı gütmektedir.

C) Farklı disiplinlerde benimsenen anlayışların görsel sanatlara yansıtılmasıyla ortaya çıkmıştır.

D) Olağanüstü varlık ve unsurların tuvale yansıtılmasını gerektirmektedir.

E) Var olanın yarattığı kişisel algı ve bakış açılarının resme dökülmesi şeklinde meydana gelmektedir.

20. İyi bir şiir okuru olduğumu iddia edemem, iyi şiir okurlarına da haksızlık etmek istemem. Ben sesle düşünmeyi, sesi duyarak anlama varmayı seviyorum. Şiirde sesle kurulan hikâyeyi örneğin. Öyküde de bunu seviyorum. Türler arasında net ayrımlar yapmak mümkün mü, emin değilim. Sevmenin ötesinde bu geçişken ve akışkan hâli özgürleştirici buluyorum okurken de yazarken de. Buralardan nerelere gider yazdığım, bilemem. Asıl sorunuza gelirsek bunun yakın gelecekte olacağını düşünmüyorum. Ama şiir ile öykü arası metinler belki olabilir.

Bu sözler aşağıdakilerden hangisine karşılık söylenmiş olabilir?

A) Genç sanatçıların edebî türler arasında etkileşim yaratmaya yönelik çabaları hakkında neler söylersiniz?

B) Şiirle başlayıp şiirle biten kitabınıza bakılırsa heybenizde okurla buluşacak şiirleriniz var, diyebilir miyiz?

C) Şiir okuru ile öykü okuru farklı niteliklere sahiptir şeklinde bir görüş var, buna katılır mısınız?

D) Öykü dilinizin şiire yakın olduğu yönündeki değerlendirmeler sizce ne kadar doğru?

E) Eserlerinizi yakından takip eden ve çıktıkları anda kitabevlerine akın eden insanlar var, bu başarınızı neye borçlusunuz?

21. Güney Afrika'nın özgürlük kahramanı Nelson Mandela'nın şu sözü dikkat çekicidir: "Hiçbir zaman kaybetmem. Ya kazanırım ya da öğrenirim."

Mandela'nın bu sözünden hareketle aşağıdakilerden hangisine ulaşılamaz?

A) Başarı yalnızca maddi bir karşılık elde etmek şeklinde görülmemelidir.

B) İnsanın gerçek kaybedişi ve başarısızlığı, ancak vazgeçişlerinin ardından gerçekleşir.

C) Hedeflenen sonuca ulaşılamasa da süreçten edinilen bilgi ve beceriler de başarı göstergesidir.

D) Bir sürecin sonunda karşılaşılan istenmeyen sonuçtan gerekli dersleri çıkarmak da bir kazanç göstergesidir.

E) Kaybedilmiş bir mücadelenin neden kaybedildiğini fark etmek en önemli kazançlardandır.

22. Vincent van Gogh, tutkulu anlatımıyla soyutlama ve doğayı tekrardan inşa anlayışını başarılı bir biçimde resimlerinde yansıtmıştır. Konularını manzaralar, tek tek insanlar, ev içleri gibi mekân ya da varlıklardan seçmiştir. Renkleri ve biçimsel özellikleri daha da belirginleştiren Gogh, konularını kişisel bir gözle değerlendirmiştir. Boya kullanımı kalın tabakalar hâlindedir. Çoğu zaman uzun çizgisel fırça darbelerinden yararlanmıştır. Sanatçının tutkulu ve deliliğe varan coşkuları yapıtlarına ayrı bir etki gücü kazandırmıştır.

Bu parçadan hareketle Vincent van Gogh ile ilgili olarak

I. Resimlerinin içeriğinde çevresel unsurlardan istifade etmiştir.

II. Resim anlayışını geliştirirken farklı sanat dallarından ve sanatçılardan esinlenmiştir.

III. Resimlerini yaparken fotoğrafik gerçeklikten sıyrılmaya çabalamıştır.

yargılarından hangileri söylenemez?

A) Yalnız I B) Yalnız II C) Yalnız III D) I ve II E) II ve III

23-24. soruları aşağıda verilen parçadan hareketle yanıtlayınız.

Geri bildirim gerek fen bilimlerinde gerek sosyal bilimlerde yaygın olarak kullanılan bir kavramdır. Deneysel psikoloji literatüründe ise geri bildirimden "sonuçların bilgisi" olarak bahsedilir. Bu anlamıyla geri bildirim üç özellik taşır: yönlendiricilik, güdüleyicilik, pekiştiricilik. Yunt'un bir araştırmasında bilişsel giriş davranışlarının ve başarı güdüsünün sabit tutulması hâlinde, geri bildirim ile iyiye yönlendirici değişiklik önerisini birlikte alan grubun sadece geri bildirim alan gruba oranla daha başarılı olduğu saptanmıştır.

23. Bu parçadan hareketle aşağıdakilerin hangisinde Yunt'un araştırma sonucunun dikkate alındığı söylenebilir?

A) Öğrencilerine sınav sonucunu bildirmenin yanında onlara hatalarını da gösteren öğretmenin

B) Vize sınavının sorumluluk ünitelerini öğrencilerine bildiren öğretim görevlisinin

C) Sürücü kursuna gelen kişiye park etme kurallarını anlatan eğitmenin

D) Bir matematik probleminin çözüm aşamalarını kâğıda yazıp arkadaşına veren öğrencinin

E) Müzik aletleriyle ilgili kursa gelen öğrencilerine kurs sonrasında neler kazanacaklarını belirten eğitmenin

24. Bu parçadan hareketle aşağıdakilerden hangisi söylenebilir?

A) Geri bildirimden fen bilimlerinde diğer alanlara göre daha etkili sonuçlar almak mümkündür.

B) Öğrenen bireylerin geri bildirim yollarına hâkim olması, onların etkili öğrenmeler gerçekleştirmesinde elzemdir.

C) Bir grubun güdülenmesinde başvurulacak en önemli yol o gruba dönütler vermektir.

D) Güdülemeye ve pekiştirmeye hizmet etmeyen geri bildirimler, bir başarısızlık göstergesidir.

E) Etkileşime dayalı öğrenme ortamlarında dönütlerle birlikte düzeltme yollarından faydalanmak daha olumlu sonuçlar ortaya çıkarır.

25-26. soruları aşağıda verilen parçadan hareketle yanıtlayınız.

Yetişkinler, sık sık çocukların "Yalan söylemek neden kötüdür?", "İnsanlar ölünce nereye giderler?" vb. sorularıyla muhatap olur. Hele hele biraz daha gelişip büyüyen çocuklar, "Eğer özgür bir ortamda yaşıyorsam yapmak istediğim her şeyi neden yapamıyorum?" gibi yanıtlanması zor sorular üretmeden yapamazlar. İşte felsefe etkinliklerinin temelinde bu türden soruları üretebilmek ve bunlara yanıt arayışı içinde olmak gerekir. Çünkü felsefeciler için, tıpkı çocuklarda olduğu gibi, dünya ve onun üzerinde olup bitenler yenidir, keşfetmeye değerdir. Fakat bu tür soruları sorabilen çocukların büyük kısmı yaşları ilerledikçe şaşırma ve keşif dürtülerini yitirirler, alışkanlıklara teslim olurlar. Yetişkinlikte yaşama o kadar farklı unsurlar üzerinden bağlanırlar ki yaşama ve dünyaya olan keşif dürtülerini bastırırlar. Yeryüzündeki her şey olağan görülmeye başladıkça da felsefi düşünme gücü zayıflar.

25. Bu parçadan hareketle aşağıdakilerden hangisine ulaşılabilir?

A) Eleştirel düşünmenin temelleri küçük yaşlarda atılsa da bu anlamdaki asıl gelişim yetişkinlik döneminde gerçekleşir.

B) Çocukluk döneminde üretilen sorular karşılıksız bırakıldığında çocuklar ilerleyen yaşlarında sorgulama becerilerinden uzaklaşır.

C) Sorgulama becerisinden uzaklaşma ve sıradanlığı kabul etme, felsefi düşünceye köstek olur.

D) Alışkanlıklarının esiri olan insanlar, yaratıcılık göstermede başarılı olamaz.

E) Felsefe alanında elde edilebilecek başarıların sürekliliği ve kalıcılığı, eleştirel düşünme ve yaratıcılık becerisinin beslenmesi ile mümkün olur.

26. Bu parçada anlatılanlar aşağıda verilen temel ilkelerden hangisini destekler niteliktedir?

A) Varoluşun temellerini sorgulamadan felsefe dünyasında yer edinmek olanaksızdır.

B) İnsanları doğruya yönlendirmeyen felsefenin gerçeklik ve geçerlilik kimliği yoktur.

C) Felsefeyle uğraşabilmek, felsefeci olabilmek için en çok ihtiyaç duyulan şey, merak ve hayret etme dürtüsüdür.

D) Felsefenin doğuşunu gerçekleştiren asıl unsur, keşfetme dürtüsü olmuştur.

E) Düşünce bakımından özgür bir ortam yaratılamayan toplumların felsefe ve felsefi düşünce üretebilmesi mümkün değildir.

27-30. soruları aşağıda verilen bilgilerden hareketle, birbirinden bağımsız olarak yanıtlayınız.

Bir üniversitenin bütünleme sınavı takvimi; pazartesi, salı, çarşamba günleri olarak belirlenmiştir. Türk dili dersi ile İngilizce dersinden sınava giren Ali, Burçin, Cihan, Didem, Elif, Fatih ve Gürsel adlı öğrencilerin girdikleri sınava ve sınav günlerine ilişkin şunlar bilinmektedir:

- Her öğrenci sadece bir sınava girmiştir.
- Türk dili dersinin sınavına dört öğrenci girmiştir.
- Pazartesi sınava giren öğrenci sayısı, çarşamba günü sınava giren öğrenci sayısından fazladır.
- Salı günü sınava bir öğrenci girmiştir.
- Ali ve Fatih, farklı derslerin sınavına aynı gün girmiştir.
- Çarşamba günü sınava giren Elif, İngilizce dersinden sınav olmuştur.
- Ali, Cihan ve Didem adlı kişiler sınavlarına aynı dersten farklı günlerde girmiştir.

27. Bu bilgilere göre aşağıdakilerden hangisi <u>kesinlikle</u> doğrudur?

A) Didem pazartesi günü İngilizce sınavına girmiştir.

B) Cihan salı günü İngilizce sınavına girmiştir.

C) Gürsel çarşamba günü Türk dili sınavına girmiştir.

D) Fatih pazartesi günü İngilizce sınavına girmiştir.

E) Burçin çarşamba günü Türk dili sınavına girmiştir.

28. Bu bilgilere göre

I. Cihan,

II. Burçin,

III. Ali

adlı kişilerden hangileri sınava pazartesi girmiştir?

A) Yalnız I B) Yalnız II C) Yalnız III

D) I ve II E) II ve III

29. **Bu bilgilere göre aşağıda verilenlerden hangileri sınava aynı gün girmiştir?**

A) Burçin ile Cihan B) Burçin ile Elif
C) Cihan ile Fatih D) Cihan ile Gürsel
E) Burçin ile Gürsel

30. **Cihan ile Gürsel adlı kişilerin aynı dersten sınava girdikleri biliniyorsa aşağıdakilerden hangisi doğrudur?**

A) Burçin ile Fatih aynı dersten sınava girmiştir.
B) Ali ile Gürsel farklı derslerden sınava girmiştir.
C) Burçin ile Gürsel aynı dersten sınava girmiştir.
D) Cihan ile Elif aynı dersten sınava girmiştir.
E) Elif ile Fatih farklı dersten sınava girmiştir.

31. Rakamları birbirinden farklı üç basamaklı bir doğal sayının en küçük rakamı ile en büyük rakamının toplamına o sayının toplamsal grubu denir.

Buna göre toplamsal grubu 14 olan kaç tane sayı vardır?

A) 16 B) 24 C) 32 D) 40 E) 48

32. x, y ve z pozitif tam sayıları için

$x \cdot (y - z)$

ifadesi bir tek sayıya eşittir.

Buna göre,

I. $x^y + x^z$
II. $x \cdot y \cdot z$
III. $x^y \cdot (y + z)$

ifadelerinden hangileri daima tek sayıya eşittir?

A) Yalnız II B) Yalnız III C) II ve III
D) I ve III E) I, II ve III

33.

$$\begin{array}{r|l} 10! + 9! & 9! + 8! \\ \hline - & m \\ \hline k & \end{array}$$

Yukarıdaki bölme işlemine göre kalan kaçtır?

A) 9 B) 8 C) 9! D) 8! E) 99

34. Mah
beş

38. a ve b gerçel sayıları için;

$2^a = 8^b$

$2^{a+2} + 8^{b+2} = 544$

olduğuna göre a · b çarpımı kaçtır?

A) –1 B) 1 C) 2 D) 3 E) 4

39. $\sqrt{3+\sqrt{5}} - \sqrt{3-\sqrt{5}}$

ifadesi aşağıdakilerden hangisine eşittir?

A) $\sqrt{2}$ B) 2 C) $\sqrt{6}$ D) $-\sqrt{2}$ E) –2

40. Aşağıda ayrıt uzunlukları x ve y olan iki küp verilmiştir.

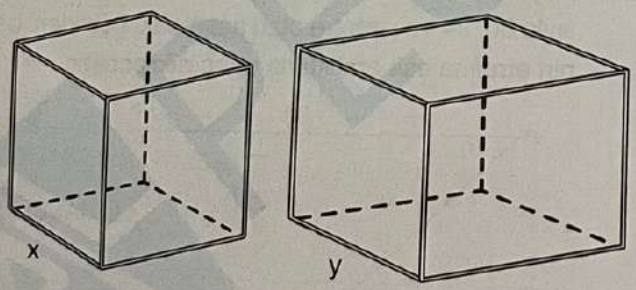

Bu küplerin;

- hacimleri toplamı 144 birim küp
- birer ayrıtlarının toplamı 6 birim

olduğuna göre yüzey alanları toplamı kaçtır?

A) 144 B) 150 C) 168 D) 186 E) 204

41. $\sqrt{\sqrt{\frac{1}{3}-\frac{1}{6}}\cdot\sqrt{\frac{1}{4}+\frac{1}{8}}}$

işleminin sonucu aşağıdakilerden hangisine eşittir?

A) $\frac{1}{2}$ B) $\frac{1}{\sqrt{2}}$ C) $\frac{\sqrt{3}}{2}$ D) $\frac{1}{4}$ E) $\frac{3}{4}$

42. Aynı boydaki üç farklı mum bir süre yandıktan sonra aşağıdaki durum oluşmuştur.

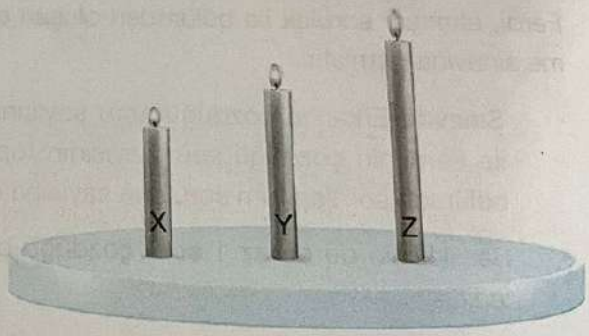

Buna göre,

- X, Y ve Z mumlarının boyları sırasıyla 3, 5, 6 ile doğru orantılıdır.
- X, Y ve Z mumlarının eriyen kısımlarının uzunlukları sırasıyla 40, 20 ve a cm'dir.

Buna göre; a kaçtır?

A) 40 B) 30 C) 20 D) 10 E) 5

BİLGEM AKADEMİ

43. Erkek ve dişi kedi sahibi olan Tolga'nın kedilere verdiği mamalarla ilgili aşağıdakiler bilinmektedir.

- Erkek kediye her 4 saatte, dişi kediye ise her 3 saatte bir 1 kutu yaş mama vermiştir.
- Erkek kedinin yediği mama 2,5 gram, dişi kediye verilen mama ise 1,5 gramdır.
- Bu kediler bir haftada toplamda 6720 gr mama, 3360 kutu yaş mama verilmiştir.

Buna göre,

I. Erkek kedi sayısı 40'tır.

II. Dişi kedi sayısı erkek kedi sayısından 10 fazladır.

III. Dişi kedi sayısı 30'dur.

yargılarından hangileri doğrudur?

A) Yalnız I B) Yalnız II C) Yalnız III D) I ve III E) I, II ve III

44. Belirli bir zaman aralığında bir matbaada bulunan iki baskı makinesi, siyah beyaz baskıyı 10 sayfa, renkli baskıyı 4 sayfa baskı yapmaktadır.

Aynı anda baskı vermeye başlayan bu iki matbaa makinesinden siyah beyaz baskı 160 sayfa alındığında, renkli baskı makinesinin 60 sayfa daha baskısı kalmıştır.

Baskı işlemi aynı anda biten bu iki makine toplam kaç sayfa baskı vermiştir?

A) 434 B) 404 C) 389 D) 350 E) 330

45. Portakalın kilogramını P TL'den elmanın kilogramını ise E TL'den satan bir manava gelen müşteri 4 kg portakal ve 4 kg elma alıp manava 180 TL veriyor. Sonrasında manav ile müşteri arasında şu konuşma geçiyor.

Manav: "Hiç bozuk param yok. Bunun yerine 1 kg portakal daha vereyim.

Müşteri: "Portakal istemiyorum bana 1 kg elma daha ver ben de sana 36 TL daha vereyim."

Buna göre P + E toplamı kaçtır?

A) 44 B) 40 C) 36 D) 32 E) 28

46. Aşağıdaki tabloda bir kitapçıda bulunan 4 farklı kitaptan başlangıçta kaçar adet olduğu ve bu kitapların günlük satış miktarı gösterilmiştir.

	Kitapçıda Bulunan Adet	Günlük Satılan Adet
TEST	240	6
ROMAN	320	8
ÇİZGİ ROMAN	220	4
BOYAMA	220	5

Kitapçıda kalan roman sayısının çizgi roman sayısının $\frac{8}{7}$ katına eşit olduğu gün, kaç tane boyama kitabı kalmıştır?

A) 100 B) 110 C) 120 D) 130 E) 140

47. X, Y, Z, T kutularında belirli sayıda şeker bulunmaktadır.

X kutusundaki şeker sayısı;

- Y kutusundaki şeker sayısının 2 katı
- Z kutusundaki şeker sayısının 3 katı
- T kutusundaki şeker sayısının 5 katıdır.

Kutuların birinde 12 şeker olduğuna göre bu kutularda toplam kaç şeker vardır?

A) 118 B) 120 C) 122 D) 124 E) 126

48. Bir kafede bulunan unlu gıda pişirme fırınında ürünlerin tek başına ya da birlikte pişirildiğinde pişme süreleri değişmekte ve ürünler piştiği anda fırından çıkarılmaktadır. Bu ürünlerin pişme süreleriyle ilgili bilgiler aşağıda verilmiştir.

180°C sıcaklıkta

ÜRÜN	Pişme Süresi
• Açma	30 dakika
• Poğaça	40 dakika
• Simit	20 dakika

180°C sıcaklıktaki fırına bu üç üründen; simit saat $10.^{50}$'de, açma saat $11.^{00}$'da konulmuştur. Bu pişirme işleminde üç ürünün birlikte fırında olduğu süre 10 dakika, bu ürünlerden yalnızca ikisinin fırında olduğu sürenin de 10 dakika olduğu görülmüştür.

Buna göre, ilk ürünün fırına koyulması ile son ürünün fırından alınması arasında geçen süre kaç dakikadır?

A) 30 B) 40 C) 50 D) 60 E) 70

49. Serasında 600 kg domates toplayan Mahir'in domatesleri satacağı Hamza ile olan konuşması aşağıdaki gibidir.

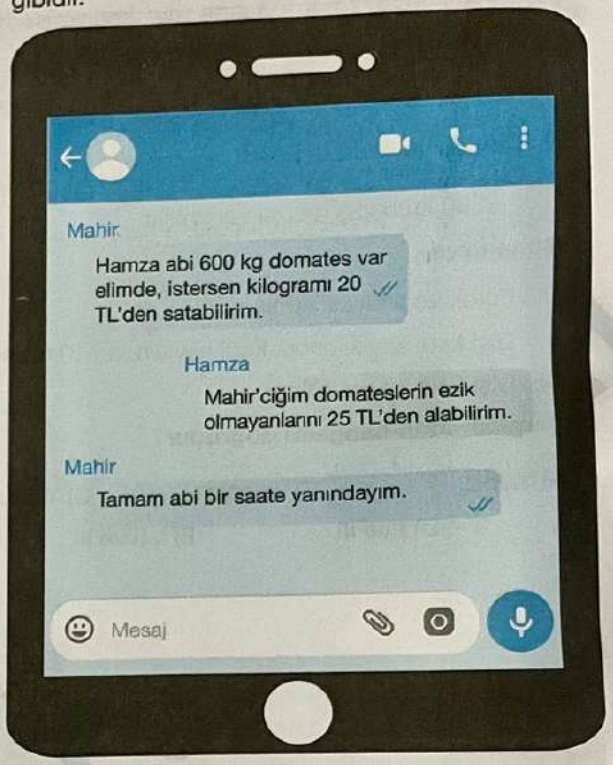

Domateslerin tamamını satan Mahir domatesleri Hamza'nın istediği şekilde satarak 20 TL'den satacağından 1000 TL daha fazla gelir elde etmiştir.

Buna göre Mahir'in topladığı domateslerin kaç kilogramı ezik olmayandır?

A) 100 B) 200 C) 300 D) 400 E) 500

50-52. soruları aşağıda verilen bilgilere göre çözünüz.

Aşağıdaki grafikte bir yardım kampanyasından A, B, C, D derneklerinin topladıkları yardım miktarlarının toplam miktar içindeki oranları gösterilmiştir.

B derneğinin topladığı yardım miktarı A derneğinin topladığının 3 katı, C derneğinin topladığı paranın 80.000 TL, D derneğinin topladığı paranın ise 60.000 TL fazlasıdır.

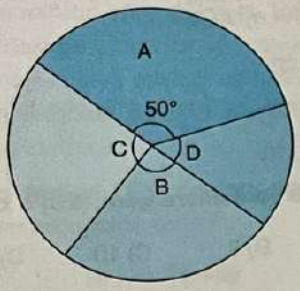

50. Toplam yardım miktarının % kaçını D derneği toplamıştır?

A) 15 B) 20 C) 25 D) 30 E) 35

51. C derneğinin topladığı yardım miktarı kaç bin TL'dir?

A) 40 B) 50 C) 60 D) 70 E) 80

52. B derneği kaç bin TL daha yardım toplasaydı A derneğinin topladığının 5 katı kadar toplamış olur?

A) 50 B) 80 C) 90 D) 100 E) 120

53. f fonksiyonu doğrusal bir fonksiyon olmak üzere

$2 \cdot f(x) + f(-x) = 4x + 5$

olduğuna göre f(–3) değeri kaça eşittir?

A) $\frac{37}{3}$ B) $-\frac{31}{3}$ C) $-\frac{11}{5}$ D) $\frac{12}{5}$ E) $\frac{29}{3}$

54.

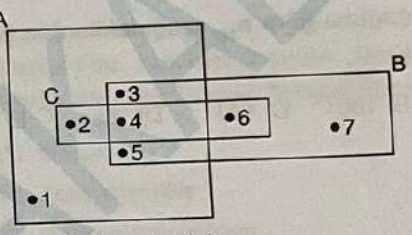

A, B, C kümeleri için

$[(A - C) \cap (B - C)] \cup [A - (B \cup C)]$

kümesi aşağıdakilerden hangisidir?

A) {2, 3, 4} B) {3, 4, 5} C) {4}
D) {3, 5} E) {1, 3, 5}

55. 6 kişilik bir öğrenci grubundan 2 kişi kimya dersinden geçmiştir.

Bu öğrencilerden arka arkaya 3 öğrenci çağrılırsa sadece üçüncü öğrencinin kimya dersinden geçmiş olma olasılığı kaçtır?

A) $\frac{1}{5}$ B) $\frac{3}{5}$ C) $\frac{2}{3}$ D) $\frac{3}{4}$ E) $\frac{4}{5}$

APEGEM AKADEMİ

56 - 58. numaralı soruları aşağıda verilen bilgiye göre çözünüz.

İlk terimi a, olan $\{a_n\}$ dizisi için $n \geq 1$ tam sayı için

$$a_{n+1} = a_n + n$$

şeklinde tanımlanıyor.

56. $a_1 = 30$ **olduğuna göre** a_{18} **aşağıdakilerden hangisidir?**

A) 178 B) 180 C) 183 D) 186 E) 189

57. $a_{25} = 465$ **olduğuna göre** a_1 **aşağıdakilerden hangisidir?**

A) 175 B) 170 C) 165 D) 160 E) 155

58. $a_{35} - a_{25}$ **farkının değeri kaçtır?**

A) 325 B) 315 C) 300 D) 295 E) 290

59.

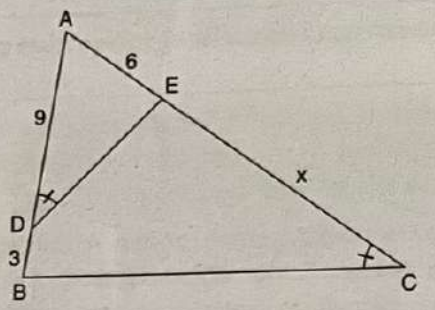

ABC üçgen

$m(\widehat{ADE}) = m(\widehat{ACB})$

$|AE| = 6$ cm

$|AD| = 9$ cm

$|DB| = 3$ cm

Yukarıda verilenlere göre, $|EC| = x$ **kaç cm dir?**

A) 6 B) 8 C) 10 D) 12 E) 15

60.

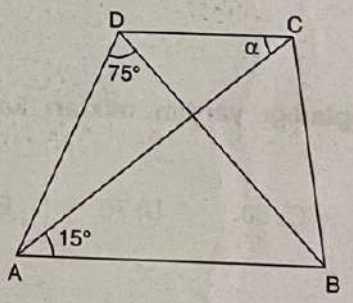

ABCD kirişler dörtgeni ve

$m(\widehat{ABD}) = 2m(\widehat{CBD})$, $m(\widehat{ADB}) = 75°$

$m(\widehat{CAB}) = 15°$, $m(\widehat{ACD}) = \alpha$

olmak üzere, α **aşağıdakilerden hangisine eşittir?**

A) 40 B) 50 C) 60 D) 80 E) 120

1. Bu testte 60 soru vardır.
2. Cevaplarınızı, cevap kağıdının Genel Kültür Testi için ayrılan kısmına işaretleyiniz.

1. Dokuz Oğuzlar çoğalıp kudretlendiler. Bögü Han Dönemi refah ve bolluk çağı oldu. Aradan uzun yıllar geçtikten sonra toy bir hakan Çinlilerle dost olmayı diledi ve Çinli bir prensesle evlendi. Hakan, Çinli prensese ağırlık olarak ülkenin mukaddes dağı olan Kutlu Dağı verdi. Çinliler o dağdaki kayalıkları söküp götürdüler. Bundan sonra milletin yüzü gülmedi. Bereket kaybolup gitti. Ülkedeki tüm insanlar ve hayvanlar "gööç", "gööç" diye haykırmaya başladı ve batıya göç edildi. En nihayetinde Beşbalık şehrinin bulunduğu yere gelip yeniden düzen kurdular.

Bazı alıntıları verilen Türk destanı aşağıdaki Türk devletlerinden hangisine aittir?

A) Hunlar B) Kök Türkler C) Uygurlar
D) Kırgızlar E) Oğuzlar

2. **Aşağıdakilerden hangisi Türkiye Selçuklu Devleti hükümdarlarından biri <u>değildir</u>?**

A) Kutalmışoğlu Süleyman Şah
B) Alaeddin Keykubad
C) Kılıç Arslan
D) Sencer
E) İzzettin Keykavus

3. **Aşağıdaki devletlerden hangisi Türklerin egemenlik anlayışı olan veraset sisteminin sonucunda <u>kurulmamıştır</u>?**

A) Kubilay B) Altın Orda C) İlhanlı
D) Çağatay E) Timur

4. **Kayseri'de bulunan Gevher Nesibe Darüşşifası aşağıdaki devletlerden hangisi dönemine aittir?**

A) Saltuklular
B) Danişmentliler
C) Türkiye Selçukluları
D) Eyyûbiler
E) Osmanlılar

5. **Osmanlı tarihinde "Feth-i Mübin" olarak geçen olay aşağıdaki şehirlerden hangisinin fethedilmesiyle ilgilidir?**

A) Edirne B) İstanbul C) Belgrad
D) Selanik E) Konya

PEGEM AKADEMİ

6. **Osmanlı Devleti'nde Anadolu Türk siyasi birliğinin sağlandığı savaş ve varlığına son verilen devlet eşleştirmelerinden hangisi doğrudur?**

A) Akçay Savaşı – Karamanoğulları
B) Çaldıran Savaşı – Safeviler
C) Turnadağ Savaşı – Dulkadiroğulları
D) Mercidabık Savaşı – Memlükler
E) Kırkdilim Savaşı – Eretnalılar

7. ***Osmanlı Devleti'nde bir tayin işlemini veya birine vazife verildiğini gösteren ve üzerinde padişah tuğrası bulunan belgelere verilen ad aşağıdakilerden hangisidir?***

A) Berat
B) Ferman
C) Amanname
D) Fetihname
E) Yasakname

8. Osmanlı Devleti'nde vakıflar tarafından yapımı gerçekleştirilen ve içinde cami, medrese, zaviye, imaret, darüşşifa, çeşme, hamam ve han gibi yapıların bir arada olduğu yapılar topluluğuna külliye denirdi.

Buna göre Osmanlı Devleti'nde külliyelerin aşağıdaki alanlardan hangisinde hizmet verdiği <u>söylenemez</u>?

A) Ticaret B) Sağlık C) İdari
D) Eğitim E) Sosyal

9. Osmanlı Devleti, ekonomide aşırı zenginleşmeyi önleyen bir sistem kurmuştu. Yapılan ticarette kâr oranları %5 ile %15 arasında olmak zorundaydı. Zenginleşmekten ve ihracattan ziyade ithalatı ve aza kanaat etmeyi ön plana çıkaran bir ekonomik anlayış hâkimdi.

Bu anlayış Osmanlı Devleti'nde;

I. Müslüman burjuvazinin oluşması,
II. kapitalist ekonomik anlayışın oluşması,
III. açık pazar hâline gelinmesi

durumlarından hangilerinde engelleyici bir rol oynamıştır?

A) Yalnız I B) I ve II C) I ve III
D) II ve III E) I, II ve III

10. **Aşağıdakilerden hangisi Lale Devri ile ilişkilendirilebilecek kişi veya mimari eserlerden biri <u>değildir</u>?**

A) Levnî
B) Nevşehirli Damat İbrahim Paşa
C) Sadabat Sarayı
D) Yirmisekiz Mehmet Çelebi
E) Selimiye ve Levent kışlaları

PEGEM AKADEMİ

11. **Osmanlı ile Rusya arasında gerçekleşen Kırım Harbi sonunda 30 Mart 1856'da imzalanan Paris Antlaşması'nın maddeleri arasında aşağıdakilerden hangisi yer almaz?**

A) Avrupa devletleri Osmanlı Devleti'nin Avrupa devletler hukukundan yararlanmasını kabul edecek.

B) Osmanlı Devleti ve Rusya, savaş sırasında birbirlerinden aldıkları yerleri ve esirleri geri verecek.

C) Karadeniz; tarafsız duruma getirilecek, bütün devletlerin ticaret gemilerine açık fakat savaş gemilerine sürekli olarak kapalı olacak, kıyılarında hiçbir tersane bulunmayacak.

D) Sırbistan, Eflak ve Boğdan; Osmanlı Devleti'ne bağlı kalacak, ancak bunların sahip bulundukları ayrıcalıklar genişletilecek ve bunlar antlaşmayı imzalayan devletlerin garantisi altında olacak.

E) Kırım bağımsız olacak ancak valisi Rusya tarafından atanacak.

13. Tanzimat Fermanı ile "Devlet herkesin canını, malını ve ırzını koruma altına alacaktır." maddesi kabul edilmiştir.

Bu maddeye bakılarak;

I. temel hak ve hürriyetlerin güvenceye alındığı,

II. müsadere uygulamasının kaldırıldığı,

III. padişahın yargı yetkisinin kısıtlandığı

yargılarından hangilerine ulaşılabilir?

A) Yalnız I B) I ve II C) I ve III

D) II ve III E) I, II ve III

12. **Sultan Abdülmecit Dönemi'nde üst düzey devlet memurlarının yetişmesi için açılan ve 1936'da Ankara'ya taşınarak Ankara Siyasal Bilgiler Okulu olan eğitim kurumu aşağıdakilerden hangisidir?**

A) Darülmuallimin

B) Darüşşafaka

C) Mekteb-i Mülkiye

D) Sanayiinefise Mektebi

E) Mekteb-i Harbiye

14. **Osmanlı Devleti'nin 1908'de meşrutiyeti ikinci kez ilan etmesindeki en önemli dış etken aşağıdakilerden hangisi olmuştur?**

A) Reval Görüşmelerinde İngiltere'nin Rusya'yı Balkan politikasında serbest bırakması

B) I. Balkan Savaşı yenilgisi sonrası Babıali Baskını'nın yaşanması

C) Kırım Harbi sonrası Balkanlarda yaşanan Balkan Bunalımı

D) Avrupalı devletlerin milliyetçilik isyanlarını görüşmek üzere İstanbul'da Tersane Konferansı'nı düzenlemesi

E) Dömeke Meydan Savaşı'nda Osmanlının Yunanistan'ı yenmesi

PEGEM AKADEMİ

15. I. Dünya Savaşı'nda Fahrettin Türkkan Paşa komutasında Hicaz Cephesi'nde kahramanca savaşılmasına rağmen Osmanlı kuvvetleri yenilgi almıştır.

Bu cephede yenilgi alınmasında aşağıdakilerden hangisinin doğrudan etkisi olmuştur?

A) Mekke Şerifi Emir Hüseyin'in Mac Mahon Antlaşması olumlu cevap vermesi
B) Yaşanan çöl sıcaklarının Osmanlı askerini olumsuz etkilemesi
C) Osmanlı askerinin Hicaz'ın kutsallığına dair inancının zayıf olması
D) Cephede komutanlar arasında siyasi çekişmeler yaşanması
E) Osmanlı komutanlarının İngilizler tarafından esir edilip Mısır'daki esir kamplarına götürülmesi

16. **Millî Mücadele sürecinde Kuvayımilliye birliklerinin kuruluş nedenleri arasında aşağıdakilerden hangisi yer almaz?**

A) Osmanlı ordusunun terhis edilmesi
B) Anadolu'nun yer yer işgal edilmesi
C) TBMM'nin açılmasına zemin hazırlanmak istenmesi
D) İstanbul Hükûmetinin işgallere sessiz kalması
E) Azınlık çetelerinin halkı katletmesi

17. Sivas Kongresi'nde manda konusunda Rauf Bey'in önerisiyle, Amerikan Senatosuna telgraf çekilerek durumun incelenmesi için hiçbir bağlayıcı yanı olmayan bir inceleme heyeti talep edilmiştir.

Bu doğrultuda Anadolu'ya gelip Doğu Anadolu'da inceleme yapan heyet aşağıdakilerden hangisidir?

A) Amiral Bristol Heyeti
B) General Harbord Heyeti
C) General Mac Arthur Heyeti
D) King-Crane Heyeti
E) Chester Heyeti

18. **Ali Fuat Cebesoy komutasındaki Kuvayımilliye birliklerinin Gediz Muharebesi'nde yenilgi alması sonrası Batı Cephesi'nde düzenli ordu kurmaları için görevlendirilenler aşağıdakilerden hangisinde doğru olarak verilmiştir?**

A) İsmet İnönü- Refet Bele
B) Fahrettin Altay- Refet Bele
C) Rauf Orbay- Kâzım Karabekir
D) Fevzi Çakmak- Mustafa Kemal Paşa
E) İsmet İnönü- Fevzi Çakmak

PEGEM AKADEMİ

19. **İlk TBMM'de kurulan İstiklal Mahkemeleri ile ilgili olarak**

I. Mahkeme üyeleri TBMM'nin kendi içinden seçtiği üç kişiden oluşur.

II. Aldığı kararların temyizi yoktur.

III. Duruşmalar halk önünde yapılıp alınan kararlar halka duyurulmuştur.

bilgilerinden hangileri doğrudur?

A) Yalnız I B) I ve II C) I ve III

D) II ve III E) I, II ve III

20. I. İnönü Muharebesi'nin kazanılması sonrası İtilaf Devletleri Londra'da yapılacak konferansa TBMM'yi doğrudan davet etmek yerine İstanbul Hükûmeti heyeti içinde davet etmişlerdir.

İtilaf Devletleri'nin bu tarz bir politika takip etmelerinde;

I. iki Türk hükûmeti arasında tartışma çıkarmak,

II. TBMM'nin varlığını kabul etmemek,

III. İtalya'nın Anadolu'dan çekilmesini engellemek

amaçlarından hangileri yer alır?

A) Yalnız I B) I ve II C) I ve III

D) II ve III E) I, II ve III

21. **İtilaf Devletleri'nin Mudanya Ateşkes Anlaşması'nda İstanbul'un TBMM Hükûmetine teslim edilmesini kabul etmeleri;**

I. Osmanlı Devleti hukuken yok sayılmıştır.

II. İstanbul'daki resmî işgal son bulmuştur.

III. Yeni Türk devletinin bağımsızlığı onaylanmıştır.

yargılarından hangilerini kanıtlar niteliktedir?

A) Yalnız I B) I ve II C) I ve III

D) II ve III E) I, II ve III

22. Mustafa Kemal 1930'da Ali Fethi Bey'den yeni bir parti kurmasını istemiştir.

Mustafa Kemal'in Ali Fethi Bey'den kurmasını istediği bu partinin programında;

I. cumhuriyetçilik,

II. laiklik,

III. devletçilik

ilkelerinden hangilerinin bulunmasını istemiştir?

A) Yalnız I B) I ve II C) I ve III

D) II ve III E) I, II ve III

DEGEM AKADEMİ

23. Yeni Türk devletinde 1928'de Millet Mekteplerinin açılmasının kararlaştırılması aşağıdakilerden hangisine yöneliktir?

A) Köylerde öğretmen açığını kapatmak
B) Türk dili üzerine çalışmalar yapmak
C) Yeni alfabeyi halka öğretmek
D) Türk milletinin el becerilerini artırmak
E) Türk Tarih Kurumunun belge temin etmesini kolaylaştırmak

24. 3 Mart 1924 tarihinde Tevhid-i Tedrisat Kanunu'nun kabulünden sonra yapılan düzenlemelerle ilköğretimin zorunlu, parasız ve karma olmasının kabul edilmesi doğrudan aşağıdaki ilkelerden hangisini geliştirici niteliktedir?

A) Cumhuriyetçilik
B) Laiklik
C) Halkçılık
D) Devletçilik
E) Milliyetçilik

25. Lozan Barış Anlaşması'nda çözülen Osmanlı borçlarının ödenmesi konusunun, daha sonra yeniden gündeme gelmesinde;

I. Türkiye'nin devletçi ekonomi politikasına geçmesi,
II. ABD'de başlayan Dünya Ekonomik Krizi,
III. Türkiye'nin Hoover Moratoryumu'ndan yararlanma isteği

durumlarından hangileri etkili olmuştur?

A) Yalnız I B) I ve II C) I ve III
D) II ve III E) I, II ve III

26. 1948-1949 yıllarında yaşanan I. Arap-İsrail Savaşı'nın nedenleri arasında aşağıdakilerden hangisi yer alır?

A) Tel Aviv merkezli İsrail Devleti'nin kurulması
B) Mısır Lideri Nasır'ın Süveyş Kanalı'nı millîleştirmesi
C) Mescid-i Aksa'nın Yahudiler tarafından yakılması
D) Yahudilerin, Arapları sürgüne zorlaması
E) Arapların Eisenhower Doktrini'ni kabul etmesi

PEGEM AKADEMİ

27. Küreselleşen dünya sürecinde demokrasi ve değişim amacıyla birçok ülkede devrimler yaşanmıştır.

Aşağıdakilerden hangisi bunlardan biri değildir?

A) Gül Devrimi
B) Turuncu Devrim
C) Kadife Devrim
D) Arap Baharı
E) Ak Devrim

28.

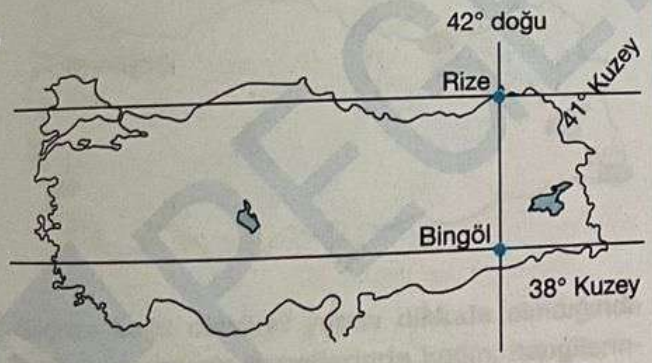

Yukarıda matematik konumları verilen şehirlerin,

I. yerel saat,
II. gölge boyu,
III. çizgisel hız,
IV. başlangıç meridyeni ile olan zaman farkı

özelliklerinden hangileri ortaktır?

A) I ve II B) I ve III C) II ve III
D) I ve IV E) II ve IV

29.

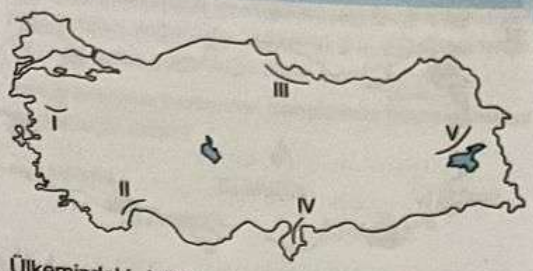

Ülkemizdeki dağların oluşumunda kıvrılma, kırılma ve volkanizma faaliyetleri etkili olmuştur.

Buna göre, yukarıdaki haritada numaralandırılarak gösterilen dağlık alanlardan hangisinin oluşumunda diğerlerinden farklı bir etken rol oynamıştır?

A) I B) II C) III D) IV E) V

30.

- Kanyon vadi
- Boğaz vadi
- Dev kazanı



Yukarıda verilen yüzey şekillerinden tümü haritada numaralandırılarak gösterilen alanların hangisinde görülür?

A) I B) II C) III D) IV E) V

Diğer sayfaya geçiniz.

31.

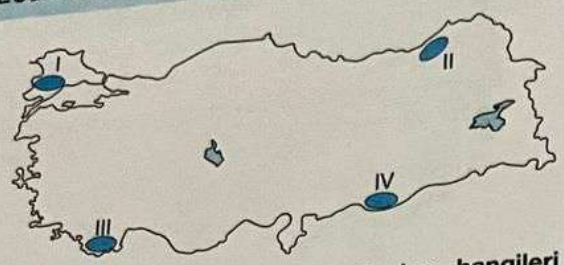

Haritada numaralandırılan alanlardan hangileri Türkiye'nin engebeli bölgeleri arasında yer almaz?

A) I ve II B) I ve III C) II ve III D) I ve IV E) II ve IV

32. **Sirk, hörgüç kaya ve moren gibi yüzey şekilleri üzerinde araştırma yapacak olan bir bilim insanının aşağıdaki dağlardan hangisine gitmesi yanlış olur?**

A) Cilo B) Kaçkar C) Bolkar D) Yunt E) Erciyes

33.

I. Yaz yağış oranı en çoktur.

II. Sıcaklığın en düşük olduğu dönemde yağışı en fazladır.

III. Yıllık sıcaklık farkı en azdır.

Bazı özellikleri verilen iklim tipleri aşağıdakilerden hangisinde doğru eşleştirilmiştir?

	I	II	III
A)	Erzurum Kars tipi karasal	Akdeniz	Karadeniz
B)	Karadeniz	Akdeniz	Erzurum Kars tipi karasal
C)	İç Anadolu karasal	Karadeniz	Akdeniz
D)	Erzurum Kars tipi karasal	İç Anadolu	Karadeniz
E)	Akdeniz	Erzurum Kars tipi karasal	Karadeniz

APEGEM AKADEMİ

34. Zengin kültürel ve doğal değerlere sahip kentlerimizin markalaştırılarak turistler için bir çekim noktası hâline getirilmesi, Türkiye'nin 2023 Turizm Stratejisi'nin amaçlarından biridir. Bu amaçla turizm gelişim bölgeleri oluşturulmuştur. Bunlardan biri de doğanın ve ekoturizmin gelişmesi amacıyla oluşturulan Göller Bölgesi Turizm Gelişim Bölgesi'dir.

Aşağıdaki kentlerimizden hangisi bu bölge kapsamında yer almaz?

A) Konya B) Isparta C) Burdur D) Afyon E) Muğla

35. Göç hareketlerine genellikle genç ve erkek nüfus katılmaktadır. Bunun sonucunda göç veren yerde kadın, göç olan yerlerde erkek nüfusu fazladır.

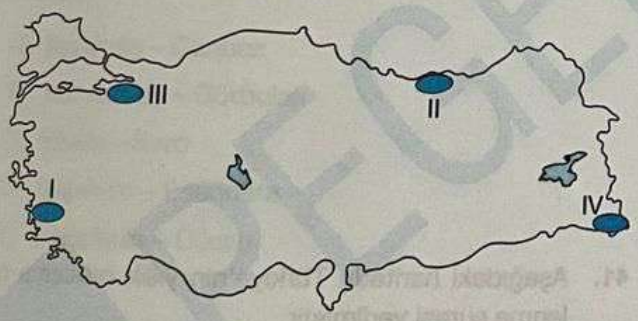

Göçlere bağlı cinsiyet yapısı dikkate alındığında yukarıdaki yerlerin hangilerinde kadın, hangilerinde erkek nüfusu daha fazladır?

	Kadın	Erkek
A)	I – II	III – IV
B)	II – IV	I – III
C)	I – III	II – IV
D)	III – IV	I ve II
E)	II – III	I – IV

36. Yer şekillerinin dağık ve engebeli olduğu alanlarda tarımsal nüfus yoğunluğu fazla iken düz olduğu yerlerde tarımsal nüfus yoğunluğu azdır.

Aşağıdaki merkezlerden hangisinde tarımsal nüfus yoğunluğu azdır?

A) Hakkâri B) Muğla C) Edirne D) Artvin E) Sinop

37. **Türkiye'de**

- İklim koşullarının elverişli olduğu,
- verimli tarım topraklarının bulunduğu,
- sanayi tesisinin fazla olduğu

bir yerleşim yeri için aşağıdakilerden hangisi söylenemez?

A) Tarım ürünü çeşitliliği fazladır.
B) Göç alma miktarı yüksektir.
C) Ekonomik faaliyet çeşitlidir.
D) Nüfus artış hızı yüksektir.
E) Nüfus yoğunluğu fazladır.

ÖFKE AKADEMİ

Diğer sayfaya geçiniz.

38.

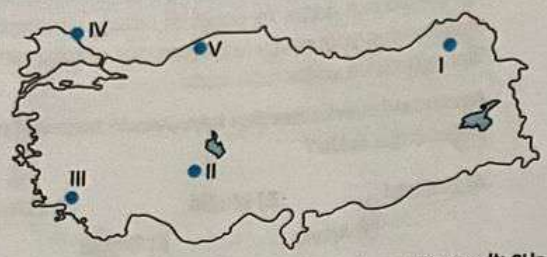

Sulu tarımın yaygınlaşması yüzey suları gibi yer altı sularının da kullanımını artırmıştır.

Yukarıdaki haritada numaralandırılmış yerlerden hangisinde yer altı sularının aşırı kullanımı daha fazla sorunlar ortaya çıkarmaktadır?

A) I B) II C) III D) IV E) V

39.



Yukarıdaki haritada ekim alanı olarak dağılışı gösterilen tarım ürünü aşağıdakilerden hangisidir?

A) Mısır B) Buğday C) Pirinç D) Şeker pancarı E) Zeytin

40. Genel olarak sanayi kuruluşlarının yeri belirlenirken ham maddeye yakınlık prensibine dikkat edilir.

Buna göre

I. Ereğli – Demir Çelik,
II. Rize – Çay,
III. İzmit – Petrol,
IV. Giresun – Kâğıt

eşleştirmelerinden hangilerinde ham maddeye yakınlığın etkili olduğu söylenemez?

A) I ve II B) I ve III C) II ve III D) II ve IV E) III ve IV

41. Aşağıdaki haritada Türkiye'nin yıllık ortalama güneşlenme süresi verilmiştir.

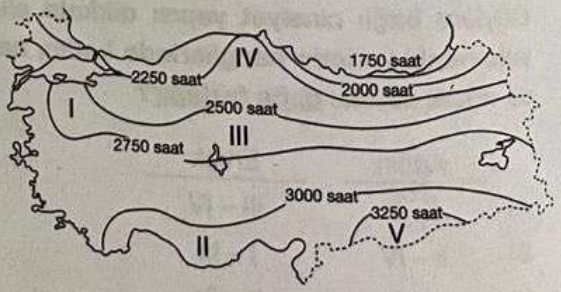

Buna göre, haritada numaralandırılan merkezlerden hangisi güneş enerjisi potansiyeli en yüksek olandır?

A) I B) II C) III D) IV E) V

42.

İl	Yıllık Sıklık	Riske Maruz Kalan Nüfus
İzmir	3,4	450 000
Rize	1,8	55 000
Kahramanmaraş	1,6	35 000
Denizli	0,6	20 000
Trabzon	0,5	32 000
Antalya	0,4	400 000

Yukarıdaki tabloda, Devlet Su İşleri (DSİ) Genel Müdürlüğünün 1955 – 2000 yılı verilerine göre hazırladığı Türkiye'de bir doğa olayının en fazla görüldüğü iller ile afete maruz kalan nüfus miktarları gösterilmiştir.

Buna göre, bu doğal afet aşağıdakilerden hangisidir?

A) Heyelan
B) Çığ
C) Sel – Su baskını
D) Deprem
E) Kuraklık

43. Tarihî İpek Yolu hattında Çin'den İngiltere'ye kadar demir yolu bağlantısı ile ulaşım sağlanmıştır.

Türkiye bu yük taşımacılığı hattının kavşak noktasıdır.

Ülkemizden geçen İpek Demir Yolu sınır kapılarımız aşağıdakilerden hangisinde doğru olarak verilmiştir?

A) Kapıkule – Canbaz
B) Hamzabey – Gürbulak
C) İpsala – Sarp
D) Kapıkule – Esendere
E) Pazarkule – Dilucu

44.

I. Tarım ürünü çeşitliliği
II. Nadasa bırakılan topraklar
III. Yıllara göre oluşan tarımsal üretim dalgalanması
IV. Birim alandan alınan verim

KOP Projesi kapsamında Konya Ovası'nda tarımda sulamanın yaygınlaşmasıyla yukarıda verilenlerden hangilerinde artış olması beklenemez?

A) Yalnız II
B) I ve II
C) II ve III
D) II ve IV
E) III ve IV

45. Aşağıdaki tablolarda bazı ülkelerin 2018 yılında ağırladığı turist sayılarıyla bu turistlerden elde ettiği gelirler gösterilmiştir (UNWTO).

Ülkelerin Aldığı Turist Sayısı

Ülke Adı	Turist Sayısı (Milyon Kişi)
1. Fransa	89,4
2. İspanya	82,4
3. ABD	79,7
4. Çin	62,9
5. İtalya	61,6
6. Türkiye	45,9
7. Meksika	41,3
8. Almanya	38,9
9. Birleşik Krallık	38,7
10. Tayland	38,2

Ülkelerin Elde Ettiği Turizm Geliri

Ülke Adı	Turizm Geliri (Milyar Dolar)
1. ABD	214,7
2. İspanya	81,7
3. Fransa	66
4. Tayland	56,4
5. Birleşik Krallık	50
6. İtalya	49,3
7. Avustralya	45
8. Almanya	43
9. Japonya	42,1
10. Çin	40,7

Tabloya göre aşağıdakilerden hangisi söylenemez?

A) Ülkelerin aldığı turist sayısında Avrupa ülkeleri çoğunluktadır.
B) Ülkelerin aldıkları turist sayıları ile turizm gelirleri paralel değildir.
C) Türkiye turist sayısında ilk on içerisinde iken gelirlerde ilk ona girememiştir.
D) Turist sayısına göre en çok gelir elde eden ABD'dir.
E) Turizm gelirlerinde en çok pay Asya ülkelerinindir.

Diğer sayfaya geçiniz.

46. Hâkimin takdir yetkisini kullanarak doldurduğu boşluk türü aşağıdakilerden hangisidir?

A) Kural içi boşluk
B) Kural dışı boşluk
C) Hukuk boşluğu
D) Gerçek kanun boşluğu
E) Gerçek olmayan kanun boşluğu

47. Aşağıdakilerden hangisi medeni hukuktaki kısıtlılık gerekçeleri arasında yer almaz?

A) Savurganlık
B) Yaş küçüklüğü
C) Alkol bağımlılığı
D) Kötü yaşam sürme
E) Ağır hastalık ve sakatlık

48. Aşağıdakilerden hangisi hukuk devleti ilkesinin gerekleri arasında yer almaz?

A) Kanuni hâkim güvencesi
B) Kanunların yargısal denetime tabi olması
C) Verginin adaletli şekilde dağıtılmış olması
D) Kuvvetler ayrılığı sisteminin benimsenmesi
E) İdarenin faaliyetlerinin belirliliği

49. Aşağıdakilerden hangisi TBMM başkanın görevleri ve yetkileri arasında yer almaz?

A) TBMM'yi doğrudan doğruya olağanüstü toplantıya çağırmak
B) Tutanak dergisi ile tutanak özetinin düzenlenmesini denetlemek
C) Türkiye Büyük Millet Meclisini Meclis dışında temsil etmek
D) Gerekli gördüğü hâllerde Mecliste açılış konuşmasını yapmak
E) TBMM'nin idari ve mali işleri ile kolluk işlerini yürütmek

50. Devlet Denetleme Kuruluna ilişkin olarak aşağıdaki ifadelerden hangisi doğrudur?

A) İlk kez 1961 Anayasası'yla hukuk düzenimize dâhil olmuştur.
B) Cumhurbaşkanı yardımcılığına bağlı olarak görev yapar.
C) Başkanlığını cumhurbaşkanı yapar.
D) Türk silahlı kuvvetleri görev alanı dışındadır.
E) İşleyişi, üyelerinin görev süresi ve diğer özlük işleri, Cumhurbaşkanlığı kararnamesiyle düzenlenir.

PEGEM AKADEMİ

51. **Hâkimler ve Savcılar Kuruluna ilişkin olarak aşağıdaki ifadelerden hangisi doğrudur?**

A) Anayasada yer alan yüksek mahkemelerden biridir.

B) Üyelerinin görev süresi dört yıldır, süresi biten üyeler bir kez daha seçilebilir.

C) Anayasada idare başlığı altında düzenlenmiştir.

D) Bir genel kurul iki bölüm olarak görev yapar.

E) Başkanı Adalet Bakanlığı müsteşarıdır.

52. **Aşağıdakilerden hangi kamu hizmetlerine hâkim olan ilkelerden biri <u>değildir?</u>**

A) Değişmezlik

B) Tarafsızlık

C) Süreklilik

D) Eşitlik

E) Bedelsizlik

53. **Vali ile kaymakam karşılaştırmasına ilişkin olarak aşağıdaki ifadelerden hangisi doğrudur?**

A) Valilik bir meslek kaymakamlık istisnai memurluktur.

B) Vali de kaymakam da atama ile göreve başlar.

C) Valiler cumhurbaşkanı onayı ile kaymakamlar cumhurbaşkanı kararıyla atanır.

D) Vali de kaymakam da hem cumhurbaşkanını hem de devleti temsil eder.

E) Yetki genişliğinden hem vali hem de kaymakam faydalanır.

54.

I. Uyarma

II. Kınama

III. Aylıktan kesme

Yukarıdaki disiplin cezalarından hangilerine karşı anayasaya göre yargı yolu açıktır?

A) Yalnız II B) Yalnız III C) I ve III

D) II ve III E) I, II ve III

55.

I. İnsan Hakları Mahkemesi

II. Avrupa Adalet Divanı

III. Uluslararası Lahey Adalet Divanı

Yukarıdakilerden hangileri Birleşmiş Milletlerin yargı organları arasında yer alır?

A) Yalnız II B) Yalnız III C) Yalnız III

D) I ve II E) II ve III

56. **Aşağıdakilerden hangisi Millî Edebiyat Dönemi'nin ilk tanınmış romancı ve hikayecisi olan Halide Edip Adıvar'a ait bir eser <u>değildir?</u>**

A) *Ateşten Gömlek*

B) *Vurun Kahpeye*

C) *Diriliş Çanakkale 1915*

D) *Kalp Ağrısı*

E) *Sinekli Bakkal*

DEGEM AKADEMİ

57. Eylül 2022'de 96 yaşında hayatını kaybeden İngiltere Kraliçesi II. Elizabeth'in yerine İngiltere Kralı olarak aşağıdakilerden hangisi geçmiştir?

A) Prens Harry
B) Prens Charles
C) Prens Louis
D) Prens George
E) Prens William

58. Eylül 2022'de Sırbistan'da yapılan Dünya Güreş Şampiyonası'nda kadınlar 76 kiloda ülkemizi temsil ederek altın madalya kazanan millî sporcumuz aşağıdakilerden hangisidir?

A) Yasemin Adar Yiğit
B) Nesrin Baş
C) Aslı Demir
D) Zehra Demirhan
E) Bedia Gün

59. Nisan 2023'te Türkiye'den Cittaslow (Sakin Şehir) listesine eklenen <u>en son</u> yerleşim yerimiz aşağıdakilerden hangisidir?

A) Kemaliye
B) Ilgaz
C) Finike
D) Ereğli
E) Eğil

60. 2023 yılı Birleşmiş Milletler Gıda ve Tarım Örgütü tarafından aşağıdakilerden hangisi olarak ilan edilmiştir?

A) Uluslararası Su Yılı
B) Uluslararası Darı Yılı
C) Uluslararası Sebze Yılı
D) Uluslararası Toprak Yılı
E) Uluslararası Hasat Yılı

PEGEM AKADEMİ