İsem Yayıncılık

KAMU PERSONEL SEÇME SINAVI (LİSANS)

GENEL YETENEK TESTİ
GENEL KÜLTÜR TESTİ

VIP EKİBİ
Telegram Kanallarımız
@vipyedek
@vip2022yedek



TG Deneme-7

Bu testlerin her hakkı saklıdır. Hangi amaçla olursa olsun, testlerin tamamının veya bir kısmının Merkezimizin yazılı izni olmadan kopya edilmesi, fotoğrafının çekilmesi, herhangi bir yolla çoğaltılması, yayımlanması ya da kullanılması yasaktır. Bu yasağa uymayanlar gerekli cezai sorumluluğu ve testlerin hazırlanmasındaki mali külfeti peşinen kabullenmiş sayılır.

VİP EKİBİ

AÇIKLAMA

1. Bu kitapçıkta Kamu Personel Seçme Sınavı (Lisans) **Genel Yetenek Testi** ve **Genel Kültür Testi** bulunmaktadır.
2. Bu testler için verilen toplam cevaplama süresi **130 dakikadır (2 saat, 10 dakika)**.
3. Genel Yetenek Testi ve Genel Kültür Testinin her birinde **60 soru** vardır.
4. Bu kitapçıktaki testlerde yer alan her sorunun sadece bir doğru cevabı vardır. Bir soru için birden çok cevap yeri işaretlenmişse o soru yanlış cevaplanmış sayılacaktır.
5. İşaretlediğiniz bir cevabı değiştirmek istediğinizde, silme işlemini çok iyi yapmanız gerektiğini unutmayınız.
6. **Bu testler puanlanırken her testteki doğru cevaplarınızın sayısından yanlış cevaplarınızın sayısının dörtte biri çıkarılacak ve kalan sayı o bölümle ilgili ham puanınız olacaktır.**
7. Cevaplamaya istediğiniz sorudan başlayabilirsiniz. Bir soru ile ilgili cevabınızı, cevap kâğıdında o soru için ayrılmış olan yere işaretlemeyi unutmayınız.

Telegram Kanallarımız
@vipyedek
@vip2022yedek

1. Bu testte 60 soru vardır.

2. Cevaplarınızı, cevap kâğıdının Genel Yetenek Testi için ayrılan kısmına işaretleyiniz.

1. Masal, insanın ruhuna kehaneti fısıldar. Herkes kendi yolunu bulmaya çalışırken başka şeyler öğrenir o kehanetin anlatısından. Okunan bir şifadır çoğu zaman, görülmeyenin görülmüş hâlidir anlatılan. Masallar, evreni anlamlandıran anlatılardır; kandırmaz, inandırır.

Bu parçadaki "insanın ruhuna kehaneti fısıldamak" **sözüyle anlatılmak istenen aşağıdakilerden hangisidir?**

A) Okuyucunun duygu dünyasına seslenmek

B) Sanatın elverdiği ölçüde bireyin ruhunu anlatmak

C) Önsezileri insanın iç dünyasına yansıtmak

D) Kurmaca dünyanın kapılarını aralamak

E) Kişilerin psikolojik yönlerini açığa çıkarmak

2. "The Man Booker" ödüllü ünlü İngiliz yazar Pat Barker, bir yayınevi tarafından aralık ayında Türkçe olarak ---- kitabı *Toby'nin Odası*'yla karşınızda olacak. I. Dünya Savaşı'na alışılmışın dışında bir ---- bakan roman, kadının savaştaki yerini ve sanatın savaş karşıtı işlevini ----.

Bu parçada boş bırakılan yerlere sırasıyla aşağıdakilerden hangileri getirilmelidir?

A) çevrilecek – açıdan – doğruluyor

B) sipariş edilecek – konumdan – belirtiyor

C) çıkarılacak – aşamadan – dile getiriyor

D) basılacak – görüşten – değerlendiriyor

E) yayımlanacak – perspektiften – sorguluyor

3. I. yüksek olduğu sisli ve yağmurlu havalarda

II. su miktarının fazla olması havanın elektriksel

III. elektriksel deşarjların yoğunluğu dolayısıyla

IV. oluşan seslerin şiddeti fazladır

V. iletkenliğini artırdığından özellikle nem oranının

Yukarıdaki sözler anlamlı ve kurallı bir cümle oluşturacak biçimde sıralandığında hangisi baştan üçüncü olur?

A) I B) II C) III D) IV E) V

4. Özellikle erken yaşlarda sıkça görülen bir davranış olan kendi kendine konuşmanın; çocuklarda gelişimin bir parçası olduğu, yeni kavramları öğrenmelerini kolaylaştırdığı ve çocuklara davranışlarını yönlendirme imkânı verdiği düşünülüyor.

Bu cümleden kesin olarak çıkarılabilecek yargı aşağıdakilerden hangisidir?

A) Çocukların yeni kavramları kolay öğrenmeleri erken yaşta gerçekleşir.

B) Erken yaşlarda kendi kendine konuşma, çocuklara bilişsel olarak yarar sağlar.

C) Erken yaşlarda kendi kendine konuşan çocukların yeni kavramları rahatça öğrendiği kanıtlanmıştır.

D) Erken yaşta kendi kendine konuşma, toplumsal kimliğin oluşmasında birincil faktördür.

E) Kendi kendine konuşma, yeni öğrenilen kavramların uzun süreli bellekte kalmasına yardımcı olur.

isem yayıncılık
VİP EKİBİ
Telegram Kanallarımız
@vipyedek
@vip2022yedek

5. (I) Interplay Uluslararası Genç Oyun Yazarları Festivali, bu yıl Avrupa çapında düzenlenecek ve Avusturya'nın Constane Gölü kıyısındaki Bregenz kentinde yapılacaktır. (II) 7-12 Temmuz'da gerçekleşecek olan festivale 18-26 yaş aralığında genç oyun yazarları katılabilecektir. (III) Genç yazarlar, söz konusu festivale yazmış oldukları ancak henüz oynanmaya hazır olmayan oyunlarıyla başvurabilecektir. (IV) Festivalde oyunların geliştirilmesi için katılacakları tartışma programlarının yanı sıra seminerler, yönetmenlerle buluşmalar da gerçekleştirilecek, tiyatro oyunları izlenecektir. (V) Katılımcı genç yazarların, yemek ve konaklama giderleri festival tarafından karşılanacaktır.

Bir festivalin anlatıldığı bu parçadaki numaralanmış cümlelerle ilgili olarak aşağıda verilenlerden hangisi yanlıştır?

A) I. cümlede, nerede düzenleneceğinden bahsedilmiştir.

B) II. cümlede, katılımcılar için yaş sınırlaması olduğu belirtilmiştir.

C) III. cümlede, katılımcıların sahnelenmemiş oyunlarıyla katılabileceğinden söz edilmiştir.

D) IV. cümlede, oyunların yönetmenlerin puanlamasından sonra temsil edileceği vurgulanmıştır.

E) V. cümlede, festivalin bazı maliyetleri karşılayacağının üzerinde durulmuştur.

6. Başkasının malına, yetkisine ve gücüne güvenerek iş yapan yarı yolda kalır. Çünkü kısa bir süre sonra bunları asıl sahibine iade etmek zorunda kalacaktır.

Bu parçada anlatılmak istenen düşünceye en yakın atasözü aşağıdakilerden hangisidir?

A) Eğreti ata binen, tez iner.

B) Mal, canın yongasıdır.

C) Ek tohumun hasını, çekme yiyecek yasını.

D) Ergen gözüyle kız alma, gece gözüyle bez alma.

E) Düğün olur iki kişiye, kaygısı düşer deli komşuya.

7. MÖ 5. yüzyılda kurulduğu söylenen Lmyra, Perikles Dönemi'nde Likya'ya başkent olmuş. Geçmişin görkemini yansıtan kalıntıların birçoğu bugün sularla iç içe. Bu yüzden kalıntıların bulunduğu alanı da kapsayan mahalleye yöre halkı "Saklısu" adını vermiş.

Bu parçayla ilgili olarak aşağıdaki yargıların hangisine ulaşılabilir?

A) Geçmişin izlerini taşıyan su altı kalıntıları Perikles Dönemi'nde açığa çıkarılmıştır.

B) Lmyra'daki kalıntıların birçoğunun su altında kalması nedeniyle yerel halk bu yere bir ad takmıştır.

C) Birçok uygarlık, Lymra'yı başkent olarak kullanmıştır.

D) Geçmişin ihtişamını yansıtan birçok eser, sular altında kalıp yok olmuştur.

E) Görkemli kalıntılar MÖ 5. yüzyılda ortaya çıkarılmıştır.

8. I. Fotosentez yapmayan bazı bitkiler, fotosentez ürünü olan karbonhidratları üzerinde yaşadığı bitkiden doğrudan alır.

II. Klorofil eksikliği ya da fotosentez sisteminde herhangi bir işlev bozukluğu olan bu tür bitkiler, besin ihtiyaçlarını başka bitkilerden karşılar.

III. Bu ihtiyaç karşılama süreci iki şekilde gerçekleşir.

IV. Bazı parazit bitkiler ise besinlerini fotosentez yapan bitkilerden arada köprü görevi gören mantarlar vasıtasıyla sağlar.

V. Botanik biliminde özel bir yeri olan ve fotosentez yapmayan bitkiler var.

Yukarıdaki numaralanmış cümleler anlamlı bir bütün oluşturacak biçimde sıralandığında hangisi baştan dördüncü olur?

A) I B) II C) III D) IV E) V

İsem yayıncılık

VIP EKİBİ Telegram Kanallarımız @vipyedek @vip2022yedek

9. (I) Stres günlük hayatımızın bir parçası. (II) Bazen uykusuzluk gibi fiziksel sebeplerden kaynaklansa da önemli bir toplantıya geç kalma ya da trafikte bekleme gibi psikolojik etkileri olan durumlarda da ortaya çıkabiliyor. (III) Vücudumuz stresle başa çıkmak için bazı biyolojik salgılar -örneğin kortizol, norepinefrin- salgılar. (IV) Ancak tehlikeli bir durumda kendimizi koruyacak şekilde tepki vermemizi sağlayan bu mekanizma, stresin devamlı olması durumunda sağlık için zararlı sonuçlara neden olabilir. (V) Uzun süreli stresten kaynaklanan yüksek seviyede kortizolun kan basıncında, kandaki kolesterol ve trigliserit seviyesinde artışa neden olduğu düşünülmektedir. (VI) Bu etkiler kalp hastalıklarının en yaygın sebeplerindendir.

Bu parça iki paragrafa ayrılmak istense ikinci paragraf numaralanmış cümlelerin hangisiyle başlar?

A) II B) III C) IV D) V E) VI

10. (I) Ses dalgaları soğuk havada daha yavaş hareket eder. (II) Çünkü ses havada basınç dalgaları oluşturarak ilerler ve hava soğukken, havayı oluşturan gaz moleküllerinin ortalama kinetik enerjisi daha düşük olduğu için, ses dalgaları daha yavaş hareket eder. (III) Gün içinde Güneş'ten gelen enerji, havanın ısınmasına neden olur ve hava sıcaklığı yükseklik arttıkça azalır. (IV) Ses dalgaları bir engele çarptığında yönünü değiştirir ve geldiği ortama geri döner. (V) Ses, sıcak havada hareket ederken atmosferin üst kısımlarındaki soğuk hava, ses dalgalarının yukarı doğru yön değiştirmesine neden olur.

Bu parçadaki numaralanmış cümlelerden hangisi düşüncenin akışını bozmaktadır?

A) I B) II C) III D) IV E) V

11. I. Ketçap dökmek aslında zor bir iştir.

II. Ya bir türlü akmaz ya da bir anda çok fazla dökülür.

III. Yiyeceklerimizin üzerine ketçap dökmek için şişesini çalkalamamız ya da bir miktar sıkmamız gerekir.

IV. Bu durumun nedeni ketçabın üzerine bir kuvvet etki edip etmemesine bağlı olarak akışkanlığının değişmesidir.

V. Çünkü şişeyi ters çevirdiğimizde genellikle akmaz.

Yukarıdaki numaralanmış cümlelerin anlamlı bir bütün oluşturabilmesi için hangileri yer değiştirmelidir?

A) I ile II B) II ile III C) II ile V D) III ile IV E) IV ile V

12. Saldırgan bir köpekle karşılaştığımızda sakin olmamız gerektiği çünkü köpeklerin korkunca salgıladığımız kokuyu algılayabildiği söylenir.

Bu cümlede aşağıdaki ses olaylarından hangisi yoktur?

A) Ünsüz yumuşaması
B) Ünlü düşmesi
C) Ünsüz benzeşmesi
D) Ünlü değişimi
E) Yardımcı ses

İSEM YAYINCILIK
VİP EKİBİ
Telegram Kanallarımız
@vipyedek
@tg2022yedek

Diğer sayfaya geçiniz.

13. Ahvaz kenti (I), köklü bir tarihe sahip olan İran'ın önemli bir yönetim merkezidir. Ahvaz Karun Nehri (II) kıyısında bulunmaktadır. Kentin, Basra Körfezi ile (III) coğrafi iletişimi demiryoluyla (IV) sağlanmaktadır. Kent, petrol üretimi konusunda önem arz etmektedir (V).

Bu parçadaki numaralanmış sözlerden hangisinde yazım yanlışı vardır?

A) I B) II C) III D) IV E) V

14. **Aşağıdaki cümlelerin hangisinde virgülün kullanımıyla ilgili bir yanlışlık vardır?**

A) Yeni aldığı romanı poşetten çıkardı, yüksek sesle okumaya başladı.

B) Kasabamıza bir defa geldiniz mi, buradan gitmeyi asla istemezsiniz.

C) Yanımıza yaklaşan uzun saçlı adam, her hâlinden belli olduğu üzere buraların yabancısıydı.

D) Böyle büyük bir başarıyı sizden başkası elde edemezdi, dedi.

E) Volkan'ın, otomobilini park yerinden hemen alması gerekiyormuş.

15. Çok yorgun olan babam yarım kalan işini bitirdi ve sessizce yeşil koltuğa oturdu.

Bu cümlede aşağıdaki ögelerden hangisi yoktur?

A) Özne

B) Zarf tümleci

C) Belirtisiz nesne

D) Belirtili nesne

E) Yer tamlayıcısı

16. Buzkıranlar; buzla kaplı denizlerde gemilerin geçeceği kanalları açık tutmak, buza saplanan gemileri kurtarmak, başka yollarla ulaşılamayan kutup bölgelerine malzeme taşımak için kullanılan gemilerdir.

Bu cümleyle ilgili olarak aşağıda verilenlerden hangisi yanlıştır?

A) Yapıca bağımlı sıralı bir cümledir.

B) Anlamca ve biçimce olumludur.

C) Yükleminde çatı özellikleri aranmaz.

D) Kurallı bir ad cümlesidir.

E) Birden fazla yan yargı vardır.

17. Yaklaşık (I) dört futbol sahası uzunluğunda (II) olan ve Tayvanlı Evergreen Marine şirketi tarafından işletilen (III) Ever Given adlı gemi Süveyş Kanalı'nın güney ucunda kanala (IV) çapraz bir şekilde karaya oturarak geçişlerin (V) durmasına neden oldu.

Altı çizili sözcüklerden hangisi yapı bakımından diğerlerinden farklıdır?

A) I B) II C) III D) IV E) V

İsem yayıncılık

VİP EKİBİ Telegram Kanallarımız @vipyedek @vip2022yedek

18. Yüzyıllardan beri insanoğlu gerek ilkel gerek modern enstrümanlarla üretilmiş olan müzikleri dinleyerek huzur bulur.

Bu cümlede aşağıdakilerden hangisi yoktur?

A) Çekimli fiil

B) İlgeç

C) Sıfat tamlaması

D) Üstünlük zarfı

E) Tekrarlı bağlaç

19. Kenger; Güneydoğu (I) Anadolu, Ege ve Akdeniz bölgelerinde (II), dağlık (III), taşlık ve kıraç arazilerde kendiliğinden (IV) yetişen, dikenli, otsu bir bitkidir (V).

Bu cümledeki numaralanmış sözcüklerle ilgili olarak aşağıda verilenlerden hangisi yanlıştır?

A) I. söz, birleşik yapılıdır.

B) II. söz, çoğul eki almıştır.

C) III. söz, isimden isim yapma eki almıştır.

D) IV. söz, ayrılma durumu eki almış dönüşlülük zamiridir.

E) V. söz, ek fiil almış basit bir addır.

20. - 21. soruları aşağıdaki parçaya göre cevaplayınız.

Şehrin ışıklarının uzaklardan ağararak içeriye yansıdığı loş otel odasında başını yastığına gömmüş, uykuyla sıkı bir pazarlığa tutuşmuştu. Otelin yanıp sönen neon tabelasından duvarına yansıyan kırmızı ışıkla beraber çoğu tek perdelik birer dram olan hayatların fonunda çalan şehrin müziği de sızıyordu aralık pencereden içeri: Caz. Önünden sıklıkla geçse de içeriden gelen müziği duyduğu o geceye kadar içine girmeyi hiç düşünmediği, köhne bir dükkândan devşirilmiş o küçük kulüpte keşfetmişti ilk kez büyülü notaların kendisine bir şeyler anlatmak istediğini. Kapalı kapıdan gelen armoninin çağrısına karşı koyamayıp gün, battıkça uzayan bir gölge misali sızmıştı bir gece büyük kapıdan içeri. Dörtlünün bir dakikalığına bile olsa ara vermesini istemediği, her biri ayrı bir ziyafet olan setlerin sonunda sonsuz bir müzik denizinde yüzme hissi kaplamıştı içini.

20. Bu parçanın anlatımıyla ilgili olarak aşağıdakilerden hangisi söylenemez?

A) Betimleyici ögeler kullanılmıştır.

B) Tanımlamadan yararlanılmıştır.

C) Kişileştirme yapılmıştır.

D) Tekdüzelikten kaçınılmıştır.

E) Benzetmeye başvurulmuştur.

21. Bu parçadaki altı çizili sözle anlatılmak istenen aşağıdakilerden hangisidir?

A) Müziğin evrensel bir dil olduğunu anımsatma

B) Belli müzik türlerinin dışına çıkmama

C) Ucu bucağı olmayan müzik dünyasında dalma

D) Müzik alanında kendini göstermeyi isteme

E) Müziği sanatçılarından bağımsız olarak düşünme

isem yayıncılık
VİP EKİBİ
Telegram Kanallarımız
@vipyedek
@vip2022yedek

Diğer sayfaya geçiniz.

22. - 23. soruları aşağıdaki parçaya göre cevaplayınız.

Dinî motiflerin ağırlıkta olduğu sözlü edebiyat döneminde edebiyatın temelini şiir oluşturur. Bu dönem eserleri kopuz adı verilen sazla birlikte söylenirdi. Şiirlerde millî ölçümüz olan hece ölçüsü kullanılmaktaydı. Dönemin şartlarına göre arı bir dilin kullanıldığı bu edebiyat döneminin nazım birimi ise dörtlüktü. Genelde aşk, doğa, ölüm temaları işlenmekte, şiirlerin kafiyeleri yarım uyaktan oluşmaktaydı. Sözlü edebiyat dönemine dair en güzel bilgileri ise Kâşgarlı Mahmut'un kaleme aldığı Divanu Lugati't-Türk'ten öğrenmekteyiz.

22. Bu parçaya göre, sözlü edebiyat döneminin;

I. dinî söylemlerin yoğunlukta olması,

II. ürünlerin bir çalgı eşliğinde söylenmesi,

III. ağır bir üslubun kullanılması

özelliklerinden hangilerine sahip olduğu söylenebilir?

A) Yalnız I B) Yalnız II C) I ve II

D) I ve III E) I, II ve III

23. Bu parçada aşağıdaki sorulardan hangisinin cevabı vardır?

A) Kopuz adı verilen sazla en çok hangi türde şiir söylenmiştir?

B) Sözlü edebiyat ürünlerinde temaların çeşitli olması neye bağlıdır?

C) Hece ölçüsünün ulusal ölçü olarak kabul edilmesinin gerekçesi nedir?

D) Sözlü edebiyat, ürünlerin dilden dile yayılmasıyla mı oluşmuştur?

E) Sözlü edebiyat dönemi ürünlerinden bahseden bir kaynak var mıdır?

24. - 26. soruları aşağıdaki parçaya göre cevaplayınız.

(I) Genel anlamda yabancı kültürde 13 sayısı uğursuz sayılıyor. (II) Bu o kadar yaygın bir inanıştır ki insanlar evlerinin kapısına 13 numarasını vermez, otobüste veya uçakta bilet alırken kesinlikle 13 numaralı koltuğu tercih etmez, ayın 13. gününde rezervasyonlar iptal edilir, otellerde veya binalarda 13. kata 13. kat adı verilmek yerine 12A adı verilir. (III) Uluslararası Uzay İstasyonu NASA, uzaya çıkmak üzere fırlattığı Apollo 13'ün başarısızlık yaşamasının nedenini, ismindeki 13 sayısına bağlıyor. (IV) Öyle ki ABD'de yapılan bir araştırmaya göre bu inanış insanlara ve yönetime binlerce dolar maliyete neden olmaktadır. (V) Aynı durum İbrani toplulluğunda da vardır ve bu sayı uğursuz sayılır çünkü İbranicenin 13. harfi m'dir. (VI) M harfi de "mavet" yani "ölüm" anlamına gelen sözcüğün ilk harfi olduğu için sevilen bir sayı değildir. (VII) İlginç olan bir diğer bilgi ise meşhur Hammurabi Kanunları'nda 13. madde bulunmamasıdır. (VIII) 13 sayısının uğursuz olduğuna dair yaygın inanışın aksine bazı topluluklarda da bu sayının uğur getirdiğine inanılır. (IX) Buna Meksika'yı örnek verebiliriz, birçok ülkenin aksine Meksika'da 13 sayısı uğur kaynağıdır.

24. Bu parçada 13 sayısıyla ilgili olarak aşağıdakilerden hangisine değinilmemiştir?

A) Kötülük getirdiğine inanılan 13 sayısı inancının dünyaya ABD'den yayıldığına

B) Bazı topluluklarda uğursuz olmadığının düşünüldüğüne

C) Uğursuzluk getirdiği inancından dolayı geçmişte toplumu düzenleyen kurallarda yer verilmediğine

D) Kimi ulusların mali yaşamında sıkıntılar doğurduğuna

E) Yabancı kültürlerde çoğunlukla tercih edilmeyen bir sayı olduğuna

25. Bu parçadaki numaralanmış cümlelerin hangilerinde neden - sonuç ilişkisine yer verilmiştir?

A) I ve II B) I ve IV C) V ve VI

D) VII ve VIII E) VIII ve IX

26. Bu parçanın anlatımında aşağıdakilerden hangisi yoktur?

A) Örnekleme B) Nitelendirme

C) Çoğullaştırma D) Alıntılama

E) Açıklama

İsem yayıncılık

VIP EKİBİ

Telegram Kanallarımız

@vipyedek

@vip2022yedek

27. - 30. soruları aşağıdaki bilgilere göre birbirinden bağımsız olarak cevaplayınız.

Merve ve Öykü haftanın beş günü spor merkezine gitmektedirler. Spor merkezinde jimnastik, fitness, pilates, yoga ve yüzme programlarına giden kişilerin gittikleri günler ve programlara ilişkin bazı bilgiler şu şekildedir:

- İki kişi de spor merkezindeki tüm programlara katılmıştır.
- Kişiler bir günde sadece bir programa gidebilmiştir.
- Merve'nin ikinci gün gittiği programa Öykü dördüncü gün gitmiştir.
- Merve, sırasıyla art arda günlerde jimnastik, pilates ve yogaya gitmiştir.
- Öykü, sırasıyla art arda günlerde jimnastik, pilates ve yogaya gitmiştir.
- Merve, yüzmeye pilatesten daha önceki bir gün gitmiştir.

27. Buna göre Öykü beşinci gün;

I. yoga,
II. yüzme,
III. fitness

programlarından hangilerine gitmiş olabilir?

A) Yalnız I B) Yalnız II C) I ve II
D) II ve III E) I, II ve III

28. Aşağıdaki spor programlarından hangilerine farklı kişiler tarafından aynı gün gidilmiş olamaz?

A) Jimnastik - yüzme
B) Pilates- fitness
C) Jimnastik - pilates
D) Fitness - yoga
E) Yoga – yüzme

29. Birinci, ikinci veya üçüncü günlerde aşağıdaki spor programlarından hangisine hem Merve hem de Öykü gitmiştir?

A) Jimnastik B) Fitness C) Pilates
D) Yoga E) Yüzme

30. Öykü'nün fitnessa, yüzmeden daha önceki bir günde gittiği biliniyorsa aşağıdakilerden hangisi doğrudur?

A) Merve, birinci gün yüzmeye gitmiştir.
B) Merve, ikinci gün pilatese gitmiştir.
C) Öykü, üçüncü gün pilatese gitmiştir.
D) Öykü, dördüncü gün yüzmeye gitmiştir.
E) Öykü, beşinci gün yogaya gitmiştir

İSEM YAYINCILIK
VİP EKİBİ
Telegram Kanallarımız
@vipyedek
@vip2022yedek

31. $6+\dfrac{24}{2+\dfrac{8}{1-\dfrac{1}{x}}}=12$

olduğuna göre, x kaçtır?

A) –1 B) $-\frac{1}{2}$ C) $-\frac{1}{3}$ D) 1 E) 3

32. $\dfrac{3^4\cdot4^2+3\cdot12^2}{3^4\cdot12+3^2\cdot4}$

işleminin sonucu kaçtır?

A) 3 B) 4 C) $\frac{18}{7}$ D) $\frac{12}{7}$ E) 5

33. $\sqrt[4]{\left(-\frac{1}{9}\right)^8\cdot3^8}$

işleminin sonucu kaçtır?

A) $\frac{1}{27}$ B) $\frac{1}{9}$ C) $\frac{1}{3}$ D) 3 E) 9

34. $A=2\cdot6+3\cdot7+4\cdot8+\ldots+12\cdot16$

toplamında 1. çarpanın değeri 1 artırılıp 2. çarpan 1 azaltılırsa toplam kaç artar?

A) 83 B) 82 C) 68 D) 51 E) 33

İSEM YAYINCILIK
VİP EKİBİ
Telegram Kanallarımız
@vipyedek
@vip2022yedek

Diğer sayfaya geçiniz.

35. **ab iki basamaklı bir sayı ve k bir tam sayı olmak üzere,**

$$\begin{array}{r|l} 87 & ab \\ \hline & 4 \\ \hline k & \end{array}$$

olduğuna göre, kaç farklı ab sayısı vardır?

A) 6 B) 5 C) 4 D) 3 E) 2

36. $\left(\frac{1}{11}\right)^{x^2-2x} \le \left(\frac{1}{11}\right)^{3x+14}$

olduğuna göre, x'in en küçük pozitif değeri kaçtır?

A) 8 B) 7 C) 5 D) 2 E) 1

37. $2^x = 14$

$3^y = 82$

$5^z = 118$

olduğuna göre, aşağıdaki sıralamalardan hangisi doğrudur?

A) x > y > z B) x > z > y C) y > x > z D) y > z > x E) z > y > x

38. $\frac{a^2b - 2a^2 - ab^2 + 5ab - 6a}{a - b + 3}$

ifadesinin en sade hâli aşağıdakilerden hangisidir?

A) a B) a – 2 C) b – 2 D) ab – 2a E) ab – 5a

İsem yayıncılık
VİP EKİBİ
Telegram Kanallarımız
@vipyedek
@vip2022yedek

Diğer sayfaya geçiniz.

39. x, y ve z gerçel sayıları için

$x \cdot y < 0$

$y \cdot z^2 > 0$

eşitsizlikleri veriliyor.

Buna göre,

I. $\frac{1}{x} < \frac{1}{y}$

II. $x + y < 0$

III. $z > 0$

ifadelerinden hangileri her zaman doğrudur?

A) Yalnız I B) Yalnız II C) Yalnız III

D) I ve III E) II ve III

40. $\frac{(x^2-1)(x-3)}{x^2+4} \geq 0$

eşitsizliğinin çözüm kümesi aşağıdakilerden hangisidir?

A) $(-\infty, 1) \cup (3, \infty)$ B) $[-1, 1] \cup [3, \infty)$

C) $(-\infty, 2) \cup (2, \infty)$ D) $(-\infty, -2] \cup [2, \infty)$

E) $(1, \infty)$

41. Pozitif tam sayılarda $\oplus$ işlemi

$$a \oplus b = \begin{cases} a \cdot b & , \ a = b \\ a \cdot b + a - b & , \ a \neq b \end{cases}$$

biçiminde tanımlanıyor.

Buna göre, $(2 \oplus 2) \oplus 5$ işleminin sonucu kaçtır?

A) 10 B) 12 C) 14

D) 17 E) 19

42. Reel sayılarda tanımlı f ve fog fonksiyonları

$f(x) = x + 4$

$(fog)(x) = x^2 + 7$

biçiminde tanımlanıyor.

Buna göre, $g(2) + (gof)(-1)$ işleminin sonucu kaçtır?

A) 21 B) 19 C) 12 D) 8 E) 3

İSEM YAYINCILIK
VİP EKİBİ
Telegram Kanallarımız
@vipyedek
@vip2022yedek

Diğer sayfaya geçiniz.

43. x, y ve z pozitif tam sayılar olmak üzere,

$x + 9y^2 + 2z^2 + 2y$

ifadesi bir tek sayıdır.

Buna göre,

I. $x \cdot y$

II. $x \cdot y + 4z$

III. $x + z$

ifadelerinden hangileri kesinlikle bir çift sayıdır?

A) Yalnız I B) Yalnız II C) Yalnız III

D) I ve II E) II ve III

44. Furkan, üç basamaklı bir sayıyı 0,25 ile çarparken 8 olan onlar basamağını 2 olarak görmüş ve sonucu 181 bulmuştur.

Buna göre, işlemin doğru sonucu kaçtır?

A) 166 B) 176 C) 196 D) 212 E) 216

45. Uzunlukları eşit üç farklı mumdan birincisi 4 saatte, ikincisi 6 saatte ve üçüncüsü 12 saatte tamamen yanmaktadır.

Mumlar yanmaya başladıktan kaç saat sonra birinin boyu, diğer ikisinin boyları toplamının 3 katı olur?

A) $\frac{30}{7}$ B) $\frac{34}{7}$ C) $\frac{48}{7}$

D) $\frac{50}{7}$ E) $\frac{72}{7}$

46. Boyları sırasıyla 200 metre ve 120 metre olan A ve B trenlerinin hızları 60 m/dk ve 80 m/dk'dır.

İki tren aynı anda aynı noktadan harekete başladığında hızlı olan tren, yavaş olan treni kaç dakika sonra geçmiş olur?

A) 2 B) 3 C) 4 D) 5 E) 6

İSEM YAYINCILIK
VİP EKİBİ
Telegram Kanallarımız
@vipyedek
@vip2022yedek

Diğer sayfaya geçiniz.

47. Maliyet fiyatı üzerinden %30 kârla satılan bir gömlek, satış fiyatı üzerinden %20 indirimle 416 TL'ye satılıyor.

Buna göre, bir gömleğin maliyeti kaç TL'dir?

A) 382 B) 394 C) 400 D) 402 E) 406

48. Bir markette 1 ve 5 litrelik sıvı yağ şişelerin fiyatları sırasıyla 5 ve 20 TL'dir. Aysun, marketten 25 litre sıvı yağ almış ve 110 TL ödemiştir.

Buna göre, Aysun 1 litrelik sıvı yağdan kaç tane almıştır?

A) 10 B) 8 C) 7 D) 5 E) 4

49. Bir telin bir ucundan $\frac{1}{8}$'i kesiliyor ve telin orta noktası 4 cm kayıyor.

Buna göre, bu telin uzunluğu kaç cm'dir?

A) 48 B) 56 C) 64 D) 72 E) 80

50. Üç çocuklu beş kişilik bir ailenin yaş ortalaması 18'dir.

6 yıl sonra bir çocuk daha doğduğunda ailenin yeni yaş ortalaması kaç olur?

A) 22 B) 20 C) 19 D) 18 E) 17

İSEM yayıncılık

VİP EKİBİ

Telegram Kanallarımız

@vipyedek

@vip2022yedek

51. Arapça ve Hint dillerinden en az birini bilenlerden oluşan 200 kişilik bir yolcu kafilesinin %75'i Arapça, %60'ı Hintçe bilmektedir.

Bu kafilede sadece Arapça bilen kaç kişi vardır?

A) 90 B) 80 C) 70 D) 60 E) 50

52.

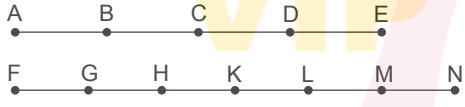

A, B, C, D ve E doğrusal F, G, H, K, L, M ve N doğrusal olmak üzere şekildeki 12 noktadan kaç farklı dörtgen çizilebilir?

A) 148 B) 176 C) 184 D) 210 E) 240

53. - 56. soruları aşağıdaki bilgilere göre birbirinden bağımsız olarak cevaplayınız.

I. Domates
II. Salatalık
III. Patlıcan
IV. Kabak
V. Biber

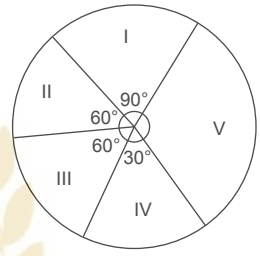

Yukarıdaki daire grafiği bir serada bulunan sebzelerin dağılımını göstermektedir.

53. **500 tane salatalığın bulunduğu bu serada kaç tane biber vardır?**

A) 1500 B) 1400 C) 1200 D) 1000 E) 900

54. **Serada 100 tane kabağın olduğu biliniyorsa seraya kaç tane daha biber fidanı dikilirse biberlerin sayısı tüm sebzelerin sayısının yarısı olur?**

A) 400 B) 350 C) 300 D) 250 E) 200

55. **Biber sayısı, salatalık sayısının yüzde kaçıdır?**

A) 25 B) 50 C) 75 D) 100 E) 200

56. **Her 4 m^2'ye bir fidan dikilmek şartıyla 720 m^2'ye kaç tane domates fidanı dikilebilir?**

A) 10 B) 20 C) 30 D) 45 E) 60

İSEM YAYINCILIK
VİP EKİBİ
Telegram Kanallarımız
@vipyedek
@vip2022yedek

Diğer sayfaya geçiniz.

57.

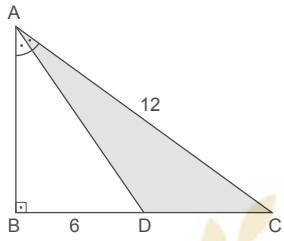

ABC bir üçgen

$[AB] \perp [BC]$

$m(\widehat{BAD}) = m(\widehat{DAC})$

$|BD| = 6\,cm$

$|AC| = 12\,cm$

Yukarıdaki verilere göre, ADC üçgeninin alanı kaç cm^2 dir?

A) 32 B) 36 C) 42

D) 48 E) 64

58.

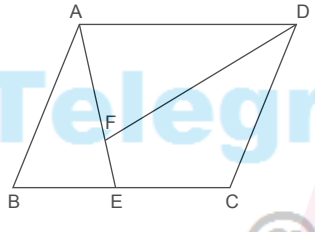

ABCD paralelkenar

$2|AF| = 5|EF|$

$A(\widehat{AFD}) = 10\,cm^2$

Yukarıdaki verilere göre, ABCD paralelkenarının alanı kaç cm^2 dir?

A) 50 B) 48 C) 42

D) 36 E) 28

59.

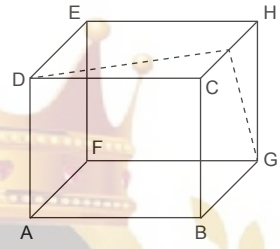

$|AB| = 8$ cm

Şekildeki küpün G köşesinde bulunan bir karınca, küpün yüzeyi boyunca hareket edip D noktasına varacaktır.

Buna göre, karıncanın aldığı yol en az kaç cm'dir?

A) $4\sqrt{5}$ B) $7\sqrt{5}$ C) $8\sqrt{5}$

D) 16 E) $16\sqrt{5}$

60. **Analitik düzlemde A(4, 3k + 2) ve B(2, 12 – 2k) noktalarından geçen doğru x-eksenine paralel olduğuna göre, k kaçtır?**

A) –2 B) –1 C) 0

D) 1 E) 2

İSEM YAYINCILIK

VİP EKİBİ

Telegram Kanallarımız

@vipyedek

@vip2022yedek

1. Bu testte 60 soru vardır.

2. Cevaplarınızı, cevap kâğıdının Genel Kültür Testi için ayrılan kısmına işaretleyiniz.

1. I. Devlet kuramayan Türk topluluklarından biridir.

II. Malazgirt Savaşı'nın kazanılmasında etkili olmuşlardır.

III. İslam ordularıyla savaşarak Orta Asya'nın Arapların eline geçmesini engellemişlerdir.

Peçeneklerle ilgili olarak yukarıda verilen bilgilerden hangileri doğrudur?

A) Yalnız I B) Yalnız II C) I ve II

D) I ve III E) I, II ve III

2. Aşağıdakilerden hangisi Karahanlılar ile ilgili doğru bir bilgi değildir?

A) İslamiyet öncesi Türk devletlerinde görülen ikili yönetim anlayışını devam ettirmişlerdir.

B) Satuk Buğra Han Dönemi'nde İslamiyet resmî din olarak kabul edilmiştir.

C) Orta Asya'da kurulan ilk Müslüman - Türk devletidir.

D) Bilime önem vererek Türk tarihinde ilk kütüphaneyi kurmuşlardır.

E) Gaznelilerle ittifak yaparak Samanoğulları Devleti'ne son vermişlerdir.

3. I. Malabadi Köprüsü

II. Hatuniye Medresesi

III. Leşkeribazar Sarayı

Yukarıdakilerden hangileri Artuklular Dönemi'ne aittir?

A) Yalnız I B) Yalnız II C) Yalnız III

D) I ve II E) I, II ve III

4. Osmanlı Devleti'nin Balkanlar'da halkı iskâna teşvik etmek amacıyla;

I. göç edenlerden belirli bir süre vergi alınmaması,

II. devşirilen çocukların Balkanlar'a yerleşen ailelerin yanına verilmesi,

III. yeni yerleşim yerlerine gerekli olan malzemenin sağlanması

uygulamalarından hangilerini gerçekleştirdiği söylenebilir?

A) Yalnız I B) Yalnız II C) I ve II

D) I ve III E) I, II ve III

İSEM YAYINCILIK
VİP EKİBİ
Telegram Kanallarımız
@vipyedek
@vip2022yedek

5.
- Revan ve Bağdat köşklerini inşa ettirmiştir.
- Koçi Bey'e raporlar hazırlatmıştır.
- Celali İsyanları'nı şiddet ve baskı yoluyla bastırmıştır.

Hakkında bazı bilgilerin verildiği Osmanlı padişahı aşağıdakilerden hangisidir?

A) IV. Mehmet B) I. Ahmet C) IV. Murat D) III. Mustafa E) II. Osman

6. 1683'te II. Viyana Kuşatması başarısızlıkla sonuçlanmış ve Osmanlı Devleti toprak kaybetmeye başlamıştır. Türklerin geri çekilmesi 1921 Sakarya Meydan Muharebesi'ne kadar devam etmiştir.

Bu bilgilere göre Osmanlı Devleti'nde aşağıdakilerden hangisinin yaşanması beklenemez?

A) Haraç ve cizye gelirlerinin artması
B) Devletin gelir ve gider dengesinin bozulması
C) Halkın üzerindeki vergi yükünün artması
D) Hazine gelirlerinin azalması
E) Anadolu'ya yoğun göçlerin yaşanması

7.
I. XVII. yüzyılda yaşanmaları
II. Taht değişikliğine neden olmaları
III. Rusların kışkırtmaları sonucunda çıkmaları

Yukarıdakilerden hangilerinin Edirne Olayı ve Patrona Halil İsyanı'nın ortak özellikleri arasında olduğu söylenebilir?

A) Yalnız I B) Yalnız II C) I ve II D) I ve III E) I, II ve III

8. **Osmanlı Devleti sınırları içinde yer alan;**

I. Mısır,
II. Girit,
III. Cezayir

bölgelerinden hangilerinin kaybedilmesinde Fransız İhtilali'nin etkisinden söz edilebilir?

A) Yalnız I B) Yalnız II C) Yalnız III D) I ve II E) I, II ve III

İSEM YAYINCILIK
VİP EKİBİ
Telegram Kanallarımız
@vipyedek
@vip2022yedek

9. **Aşağıdakilerin hangisinde Osmanlı Devleti'nde alınan vergilerin açıklaması yanlış olarak verilmiştir?**

A) Çiftbozan: Toprağını üst üste üç yıl boyunca işlemeyen kişilerden alınan vergidir.

B) Öşür: Müslüman halktan alınan ürün vergisidir.

C) Ağnam: Gayrimüslimlerden alınan ürün vergisidir.

D) Derbent resmi: Geçitlerden ve yollardan alınan vergidir.

E) Cizye: Gayrimüslim erkeklerden askere gitmeme karşılığında alınan vergidir.

10. **Osmanlı Devleti'nde tıp alanında çalışmalar yapan, Türkiye'de deneysel farmakolojinin öncüsü sayılan,** "Mücerrebname" **ve** "Kitab-ı Cerrahiye-i Haniye" **adlı eserleriyle tanınan bilim insanı aşağıdakilerden hangisidir?**

A) Takiyüddin Mehmet

B) Sabuncuoğlu Şerafeddin

C) Ali Kuşçu

D) Mukbilzade Mümin

E) İbni Sina

İSEM YAYINCILIK

11. Osmanlı Devleti'nde beylerbeyi, sancakbeyi ve vezirlere emekliye ayrıldıklarında kendilerine bir kazanın geliri tahsis edilirdi.

Osmanlı Devleti'nde uygulanan bu sisteme ne ad verilmiştir?

A) Muhassıl B) Müsadere

C) İltizam D) İspenç

E) Arpalık

12. I. 31 Mart Ayaklanması'nın bastırılması

II. Muş ve Bitlis'in Ruslardan geri alınması

III. İngilizlerin Halep'in kuzeyinde durdurulması

Yukarıdakilerden hangilerinin gerçekleştirilmesinde Mustafa Kemal'in etkisi vardır?

A) Yalnız I B) Yalnız II C) I ve II

D) II ve III E) I, II ve III

VİP EKİBİ
Telegram Kanallarımız
@vipyedek
@vip2022yedek

13. Aşağıdakilerden hangisi Yunanistan'ın Sevr Antlaşması'nı TBMM'ye kabul ettirmek amacıyla düzenlediği saldırı savaşlarından biri değildir?

A) Büyük Taarruz
B) Birinci İnönü
C) Kütahya-Eskişehir
D) Sakarya
E) İkinci İnönü

14. Mustafa Kemal, aşağıdaki gelişmelerden hangisinden sonra İstanbul'a çektiği telgraflarda, "Artık İstanbul, Anadolu'ya egemen değil, bağlı olmak zorundadır." **demiştir?**

A) Havza Genelgesi
B) Sivas Kongresi
C) Amasya Genelgesi
D) TBMM'nin açılması
E) Erzurum Kongresi

15. Millî Mücadele Dönemi'nde vatan kavramı, üstünde yaşanılan siyasi sınırlarla çevrili topraklar olarak tanımlanmıştır.

Bu durum, Birinci Dünya Savaşı'nda ideolojik amaç hâline dönüşen aşağıdaki fikirlerden hangisinin etkisini kaybetmesine neden olmuştur?

A) Turancılık
B) Batıcılık
C) Ulusçuluk
D) İslamcılık
E) Osmanlıcılık

16. 24 Nisan 1920 Önergesi'nde yer alan aşağıdaki maddelerden hangisi ile Birinci TBMM'nin bağımsız hareket edeceği vurgulanmıştır?

A) Hükûmet kurmak zorunludur.
B) TBMM'nin üstünde hiçbir güç yoktur.
C) TBMM yasama, yürütme ve yargı yetkilerini kendinde toplamıştır.
D) Geçici bir hükûmet başkanı ya da padişah vekili tanımak doğru değildir.
E) Padişahın konumunu meclis belirler.

İsem yayıncılık
VİP EKİBİ
Telegram Kanallarımız
@vipyedek
@vip2022yedek

17. I. Büyük Taarruz

II. Sakarya Meydan Muharebesi

III. Kütahya-Eskişehir Muharebesi

Kurtuluş Savaşı sırasında Mustafa Kemal, yukarıdaki muharebelerin hangilerinde ordunun başında "Başkomutan" **olarak bulunmuştur?**

A) Yalnız I B) Yalnız II C) I ve II

D) I ve III E) I, II ve III

18. "Dağa Çıkan Kurt" **ve** "Türk'ün Ateşle İmtihanı" **adlı eserlerinde Kurtuluş Savaşı'nı konu edinen yazar aşağıdakilerden hangisidir?**

A) Halide Edip Adıvar

B) Turgut Özakman

C) Tarık Buğra

D) Kemal Tahir

E) Yakup Kadri

19. **Aşağıdakilerden hangisinin Kütahya-Eskişehir Savaşları'nın sonuçları arasında yer aldığı söylenemez?**

A) Afyon, Kütahya ve Eskişehir'in kaybedilmesi

B) Meclisin taşınması tartışmalarının yaşanması

C) Mustafa Kemal'in askerlik mesleğine geri dönmesi

D) İsmet Paşa'nın Batı Cephesi komutanlığından alınması

E) Fransa'nın TBMM ile başlattığı barış görüşmelerini durdurması

20. **Kâzım Karabekir ile ilgili aşağıdaki bilgilerden hangisi yanlıştır?**

A) Kurtuluş Savaşı'nı başlatan komutanlar arasında ilk sırayı alır.

B) TBMM adına Gümrü ve Kars antlaşmalarını imzalayan devlet adamıdır.

C) Terakkiperver Cumhuriyet Fırkasının kurucu lideridir.

D) 1946'da TBMM'de meclis başkanı seçilmiştir.

E) TBMM adına Moskova Antlaşması'nı imzalamıştır.

İSEM YAYINCILIK
VİP EKİBİ
Telegram Kanallarımız
@vipyedek
@vip2022yedek

Diğer sayfaya geçiniz.

21. **Türkiye Cumhuriyeti'nde Patrikhanenin mahkeme kurmasının yasaklanması, evlendirme, boşanma gibi birtakım dünyevi yetkilerinin de elinden alınarak sadece dinî bir kurum olarak kalmasını sağlayan düzenleme aşağıdakilerden hangisidir?**

A) Türk Ceza Kanunu

B) 1924 Anayasası

C) Tevhid-i Tedrisat Kanunu

D) Türk Medeni Kanunu

E) Teşkilât-ı Esasiye Kanunu

22. Atatürk Dönemi Türk dış politikası iki dönem hâlinde incelenebilir. Bunlardan ilki 1923-1930 arası dönemdir. Bu dönemde daha çok Lozan Antlaşması'ndan kalan sorunlar çözümlenmeye çalışılmıştır.

Buna göre aşağıdakilerden hangisi bu dönemde yaşanan gelişmelerden birisidir?

A) Bozkurt-Lotus Davası'nın çözümlenmesi

B) Türkiye'nin öncülüğünde Sadabat Paktı'nın kurulması

C) Türkiye'nin Milletler Cemiyetine üye olması

D) Boğazlar Komisyonu'nun kaldırılması

E) Hatay'ın ana vatana katılması

23. I. Musul'un Irak'a bırakılması

II. Türkiye-Suriye sınırının çizilmesi

III. Musul petrollerinin %10'unun 25 yıl süreyle Türkiye'ye verilmesi

Yukarıda verilen gelişmelerden hangileri 1926 Ankara Antlaşması'nın sonuçları arasındadır?

A) Yalnız I B) Yalnız II C) I ve II

D) I ve III E) I, II ve III

24. **Demokrat Partinin iktidara karşı muhalefetini yetersiz gören bir grup milletvekilinin Demokrat Partiden ayrılarak 1948'de kurduğu siyasi parti aşağıdakilerden hangisidir?**

A) Millî Kalkınma Partisi

B) Hürriyet Partisi

C) Adalet Partisi

D) Millet Partisi

E) Türkiye Sosyalist Partisi

İSEM YAYINCILIK
VİP EKİBİ
Telegram Kanallarımız
@vipyedek
@vip2022yedek

Diğer sayfaya geçiniz.

25.
- Medreselerin kapatılması
- Kapitülasyonların kaldırılması
- Metrik sisteminin uygulanması
- Kılık kıyafet düzenlemesinin yapılması

Verilen inkılapların Atatürk'ün aşağıdaki ilkeleriyle eşleştirilmesi durumunda hangisi dışarıda kalır?

A) Devletçilik
B) İnkılapçılık
C) Halkçılık
D) Milliyetçilik
E) Laiklik

26.
I. NATO'ya üye olma
II. Bağdat Paktı'nı kurma
III. Balkan İttifakı'nda yer alma

Yukarıdakilerden hangileri Türkiye'nin Soğuk Savaş Dönemi'nde yapmış olduğu faaliyetler arasında yer alır?

A) Yalnız I B) Yalnız II C) I ve II
D) II ve III E) I, II ve III

27. Orta Doğu ülkelerine komünist ülkelerden bir saldırı gelmesi hâlinde ABD silahlı kuvvetlerinin kullanılmasını sağlamak, bu ülkelere ekonomik ve askerî yardım yapmak amacıyla, 5 Ocak 1957'de ilan edilen program aşağıdakilerden hangisidir?

A) Truman Doktrini
B) Monroe Doktrini
C) Schuman Planı
D) Eisenhower Doktrini
E) Marshall Planı

İSEM YAYINCILIK
VİP EKİBİ
Telegram Kanallarımız
@vipyedek
@vip2022yedek

28.

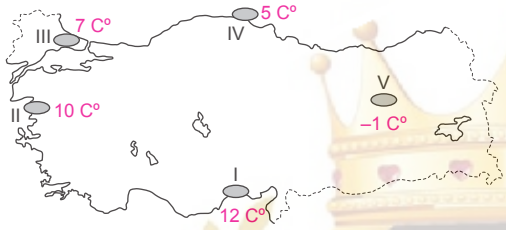

Yukarıdaki haritada verilen merkezlerden hangileri arasındaki sıcaklık farklı enlem etkisiyle açıklanamaz?

A) I ve II B) I ve III C) II ve III
D) II ve IV E) III ve V

29.
I. Ereğli
II. Korkuteli
III. Ergene
IV. Silifke
V. Tefenni

Yukarıda verilen ovalar oluşumları açısından ikili gruplara ayrılırsa hangisi bu gruplamanın dışında kalır?

A) I B) II C) III D) IV E) V

30. Karadeniz ve Akdeniz bölgelerindeki dağların denize uzanışlarından dolayı bu bölgelerde boyuna kıyılar şekillenmiştir.

Aşağıdakilerden hangisi boyuna kıyıların olduğu bölgeler için yanlış bir bilgidir?

A) Kıta sahanlığı geniş ve delta oluşumu fazladır.
B) Deniz etkisi iç kısımlara sokulamaz.
C) Liman hinterlandları dardır.
D) Girinti çıkıntı az, kıyıları sade yapıdadır.
E) Doğal liman oluşumu sınırlıdır.

31. Depremler oluşum açısından tektonik, çökme ve volkanik olarak üç kısımda incelenebilir. Bu deprem türlerinden volkanik depremler Türkiye'de gerçekleşmez. Çünkü Türkiye'de aktif bir yanardağ şu an için yoktur.

Türkiye'deki volkanik dağların aktif olduğu varsayılırsa aşağıdaki illerden hangisinde volkanik depremlerin yaşanması beklenmez?

A) Kayseri B) Bitlis
C) Siirt D) Ağrı
E) Niğde

İSEM YAYINCILIK
VİP EKİBİ
Telegram Kanalımız
@vipyedek
@vip2022yedek

32. Akarsuların denize ulaştığı bölgeler açık, ulaşamadığı bölgeler kapalı havza özelliği gösterir.

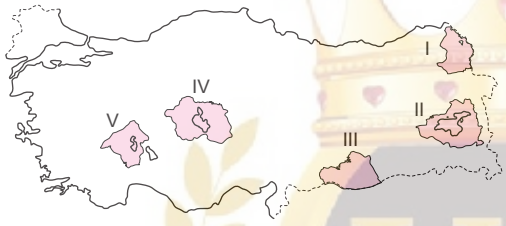

Buna göre haritada numaralanmış bölgelerden hangisi kapalı havza özelliği göstermez?

A) I B) II C) III D) IV E) V

33.



Verilen görsel Türkiye'de menderesli vadi oluşturan bir akarsuya aittir.

Türkiye'de menderesler oluşturarak ilerleyen akarsuların bulunduğu yöreler için,

I. Derine aşındırma artmıştır.

II. Irmak adası oluşumu gözlenir.

III. Akarsuların taşkın yapma riski artmıştır.

IV. Vadisinde taraçalanma fazladır.

yorumlarından hangileri yapılamaz?

A) I ve III B) I ve IV C) II ve III

D) II ve IV E) II, II ve IV

34.



Türkiye'de verilen görseldeki kaynak tipinin yer aldığı bölgeler için aşağıdakilerden hangisi söylenebilir?

A) Eriyebilen yapıdaki kayaçlar yoğunluktadır.

B) Çökme deprem riski yüksektir.

C) Yüzey suyu açısından fakir, yer altı suları açısından zengindir.

D) Yer altı su tablası yüzeye yakın ve suları kireçlidir.

E) Mineral değeri yüksek sıcak sulara sahiptir.

İSEM YAYINCILIK
VİP EKİBİ
Telegram Kanallarımız
@vipyedek
@vip2022yedek

35.



Deniz üzerinden gelen nem yüklü hava kütlesi kıyıya paralel sıralanmış dağ yamaçları boyunca yükselir, soğur, bağıl nemi artarak yağış bırakır. Bu tür yağışlara orografik (yamaç) yağış denir. Yağış miktarını ise dağların yükseltisi belirler.

Buna göre orografik yağışların gerçekleştiği aşağıdaki yörelerden hangisinde yağış miktarının daha az olması beklenir?

A) Rize B) Zonguldak

C) Antalya D) Samsun

E) Trabzon

36. Kütle hâlindeki granit blokları uğradıkları fiziksel ve kimyasal ayrışma süreçleriyle üst üste yığılmış bir görüntü ortaya koyarlar. Bu tür yapılara tor topoğrafyası denir. Dünya'da İskoçya'nın kuzey kesimlerinde sıklıkla rastlanan Tor yapıları Türkiye'de de görülebilmektedir.

Aşağıdakilerden hangisi Türkiye'deki tor topoğrafyası örneği oluşturan yörelerden biridir?

A) Aydın - Çine B) Bitlis - Adilcevaz

C) Şırnak - Silopi D) Manisa - Kula

E) Mardin - Mazıdağı

37. Türkiye'nin nüfus yapısıyla ilgili verilen,

I. Nüfus bölgelere dengeli bir dağılım göstermez.

II. Aktif nüfus içinde en büyük istihdam sektörü tarımdır.

III. Cumhuriyet tarihinin en düşük nüfus artış hızı ‰ 5,5'lik bir oranla 2020'de gerçekleşmiştir.

bilgilerinden hangilerine ulaşılabilir?

A) Yalnız I B) Yalnız II

C) Yalnız III D) I ve III

E) I, II ve III

38.

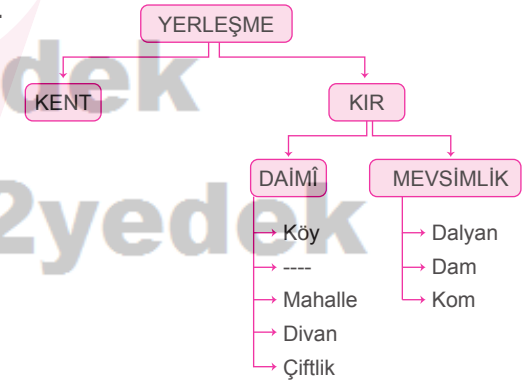

Yerleşmelerin sınıflandırıldığı kavram haritasında (----) ile boş bırakılan yere aşağıdakilerden hangisi getirilmelidir?

A) Ağıl B) Yayla C) Canik

D) Oba E) Mezra

İsem yayıncılık
VİP EKİBİ
Telegram Kanallarımız
@vipyedek
@vip2022yedek

Diğer sayfaya geçiniz.

39. I. Çayönü (Diyarbakır)
II. Yarımburgaz (İstanbul)
III. Hacılar (Burdur)
IV. Karain (Antalya)

Yukarıda verilen tarihî ören yerlerinden hangileri Neolitik Dönem'in Anadolu'da tarımsal faaliyetlerle dikkat çeken yerleşme örnekleri arasında gösterilebilir?

A) I ve II B) I ve III
C) II ve III D) II ve IV
E) III ve IV

41.

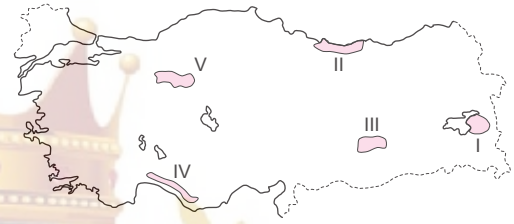

Haritada verilen numaralı yöreler ile bu yörelerde en fazla yapılan hayvancılık faaliyeti eşleştirmelerinden hangisi yanlıştır?

A) I - Koyun yetiştiriciliği
B) II - Arıcılık
C) III - Büyükbaş hayvancılık
D) IV - Kıl keçisi yetiştiriciliği
E) V - Tiftik keçisi yetiştiriciliği

İSEM YAYINCILIK
VİP EKİBİ
Telegram Kanallarımız
@vipyedek
@vip2022yedek

40. **Aşağıdaki tarım ürünlerinin hangisinin üretiminde İç Anadolu Bölgesi ilk sırayı almaz?**

A) Şeker pancarı B) Kırmızı mercimek
C) Patates D) Aspir
E) Arpa

42.
- Türkiye, Dünya üretiminde ilk sıradadır.
- Üretimi devlet kontrolünde gerçekleştirilir.
- Ülke ihtiyacının bir kısmı dış alım yoluyla karşılanır.
- Tamamı aynı coğrafi bölgede yetiştirilir.

Bazı özellikleri verilen tarım ürünleri arasında aşağıdakilerden hangisi yoktur?

A) Mısır B) Çay C) İncir D) Tütün E) Zeytin

43. **Aşağıda verilen yer altı kaynaklarından hangisinin çıkarım sahasında aynı zamanda işletmesi de bulunmaktadır?**

A) Boksit - Seydişehir
B) Bakır - Küre
C) Demir - Hekimhan
D) Krom - Köyceğiz
E) Bor - Bigadiç

44. **Türkiye'de hızla sanayileşen bir bölge için,**

I. Enerji üretimi artmıştır.
II. Ulaşım hizmetleri canlanmıştır.
III. Nüfus miktarı artmıştır.

yorumlarından hangilerinin kesin olarak gerçekleştiği söylenemez?

A) Yalnız I B) Yalnız II C) Yalnız III D) I ve III E) II ve III

45. **İstanbul, İzmir, Samsun ve Mersin illeri için aşağıdakilerden hangisi ortak bir özellik değildir?**

A) Nüfus yoğunlukları fazladır.
B) Hinterlandı geniş limanları bulunur.
C) Ulaşım bağlantıları güçlüdür.
D) Kruvaziyer turizm faaliyetleri gelişmiştir.
E) Limanlarına demir yolu ile ulaşılabilir.

İSEM YAYINCILIK
VİP EKİBİ
Telegram Kanallarımız
@vipyedek
@vip2022yedek

46. I. Kanun

II. Genelge

III. Anayasa

Kelsen tarafından hazırlanan normlar hiyerarşisine göre verilen normların yukarıdan aşağıya doğru sıralaması aşağıdakilerden hangisinde verilmiştir?

A) II - I - III B) I - II - III C) III - II - I

D) III - I - II E) I - III - II

47. Aşağıdakilerden hangisi karma hukuk dalları arasında yer alır?

A) Borçlar hukuku

B) Devletler genel hukuku

C) Vergi hukuku

D) Ticaret hukuku

E) Fikir ve sanat eserleri hukuku

48. Borcun yerine getirilmesi ve hakkın kullanılmasında geçerli olan ana ilke aşağıdakilerden hangisidir?

A) İyi niyet kuralı

B) Ahde vefa

C) Dürüstlük kuralı

D) İhkakıhak

E) Emprevizyon

49. I. Toplantı ve gösteri yürüyüşü düzenleme hakkı

II. Toplu sözleşme yapma hakkı

III. Kamu denetçisine başvurma hakkı

Yukarıdakilerden hangileri 1982 Anayasası'nda siyasi hak ve ödevler kapsamında düzenlenmiştir?

A) Yalnız I B) Yalnız III C) I ve II

D) II ve III E) I, II ve III

İSEM YAYINCILIK
VİP EKİBİ
Telegram Kanallarımız
@vipyedek
@vip2022yedek

50. **Dokunulmazlığı kaldırılan bir milletvekili bu kararın verilmesinden itibaren kaç gün içinde Anayasa Mahkemesinden iptal isteminde bulunabilir?**

A) 3 B) 7 C) 10 D) 15 E) 30

51. I. Cumhurbaşkanı

II. Hâkimler ve Savcılar Kurulu

III. TBMM

Yukarıdakilerden hangileri idari yargının temyiz mercisi olan Danıştay'a üye seçebilir?

A) Yalnız I B) I ve II C) I ve III

D) II ve III E) I, II ve III

52. **Emniyet Genel Müdürlüğü kolluk yetkileri ve idari açıdan aşağıdakilerden hangisine bağlıdır?**

A) Cumhurbaşkanlığı

B) Millî Güvenlik Kurulu

C) İçişleri Bakanlığı

D) Genelkurmay Başkanlığı

E) Millî Savunma Bakanlığı

53. **Hakkında açılmış soruşturma bulunan bir belediye başkanının görevine son verme yetkisi aşağıdakilerden hangisine aittir?**

A) Danıştay

B) Yargıtay

C) İçişleri Bakanı

D) Cumhurbaşkanı

E) Hâkimler ve Savcılar Kurulu

İSEM YAYINCILIK
VİP EKİBİ
Telegram Kanalarımız
@vipyedek
@vip2022yedek

Diğer sayfaya geçiniz.

54. **Devlet memurlarının 10 yılını tamamlayana kadar yıllık izin süresi kaç gündür?**

A) 10 B) 15 C) 20 D) 30 E) 45

55. **Türkiye, aşağıdaki uluslararası kuruluşlardan hangisine üye değildir?**

A) Avrupa Konseyi
B) Birleşmiş Milletler
C) Uluslararası Polis Teşkilatı
D) Şanghay İşbirliği Örgütü
E) Kuzey Atlantik Antlaşması Örgütü

56. **2020 itibarıyla Yüksek Seçim Kurulu Başkanlığını aşağıdakilerden hangisi yapmaktadır?**

A) Muharrem Akkaya
B) İsmail Rüştü Cirit
C) Zerrin Güngör
D) Sadi Güven
E) Mehmet Karaca

İSEM YAYINCILIK
VİP EKİBİ
Telegram Kanallarımız
@vipyedek
@vip2022yedek

Diğer sayfaya geçiniz.

57. **2022 itibarıyla Uyuşmazlık Mahkemesi Başkanlığına aşağıdakilerden hangisi seçilmiştir?**

A) Celal Mümtaz Akıncı
B) Zeki Yiğit
C) Mehmet Akarca
D) Bekir Şahin
E) Muammer Topal

58. **Nisan 2022'de UNESCO Dünya Belleği Kütüğü'ne alınan** "Karatepe Kitabeleri" **aşağıdaki kentlerden hangisinde yer alır?**

A) Çorum
B) Van
C) Osmaniye
D) Gaziantep
E) Şanlıurfa

59. **Resmî Gazete'yi çıkarma ve ülkemizde millî yas ilan etme görevi aşağıdakilerden hangisine aittir?**

A) İçişleri Bakanlığı
B) TBMM
C) Cumhurbaşkanı
D) Kamu Denetçiliği Kurumu
E) Aile ve Sosyal Politikalar Bakanlığı

60. **Vatan sevgisinden bahseden ilk Türk lider aşağıdakilerden hangisidir?**

A) Bilge Kağan
B) Mete Han
C) Tonyukuk
D) Kadir Han
E) Çiçi

İSEM YAYINCILIK
VİP EKİBİ
Telegram Kanallarımız
@vipyedek
@vip2022yedek

TEST BİTTİ.
CEVAPLARINIZI KONTROL EDİNİZ.

İsem Yayıncılık

KAMU PERSONEL SEÇME SINAVI

LİSANS

GENEL YETENEK TESTİ

GENEL KÜLTÜR TESTİ

VIP EKİBİ
Telegram Kanallarımız
@vip2022yedek
@vip2022yedek

TG Deneme-7

Çözüm Kitapçığı

Bu testlerin her hakkı saklıdır. Hangi amaçla olursa olsun, testlerin tamamının veya bir kısmının Merkezimizin yazılı izni olmadan kopya edilmesi, fotoğrafının çekilmesi, herhangi bir yolla çoğaltılması, yayımlanması ya da kullanılması yasaktır. Bu yasağa uymayanlar gerekli cezai sorumluluğu ve testlerin hazırlanmasındaki mali külfeti peşinen kabullenmiş sayılır.

1. Parçadaki "insanın ruhuna kehaneti fısıldamak" sözüyle masalın önceden tahmin yürütülen olayları yani önsezileri insanın iç dünyasına bildirdiği anlatılmak istenmiştir.

ABCDE

2. Cümlede boşluk tamamlama sorularında sözcükler ve söz grupları arasındaki anlamsal ve yapısal bağlantıya dikkat edilmelidir. Buna göre; birinci boşluğa "kitap, gazete, dergi vb. şeyleri basmak ve dağıtmak" anlamında "yayımlanacak" sözü, ikinci boşluğa "bir olay, konu veya düşünce incelenirken izlenen belirli yön" anlamında "perspektiften" sözü, üçüncü boşluğa da "kötü bir durum üzerine eğilmek, sorular sormak" anlamında "sorguluyor" sözü getirilmelidir.

ABCD

3. Cümle oluşturma sorularında ilk olarak yargıyı içinde barındıran söz yani yüklem bulunmalıdır. Ayrıca cümlenin sıralı veya bağlı olup olmadığına dikkat edilmelidir. Buna göre, öncüldeki sözler anlamlı ve kurallı bir şekilde dizildiğinde sıralama II - V - I - III - IV şeklinde olur. Baştan üçüncü, I. söz grubudur.

BCDE

4. Kesin yargı sorularında sayısal verilere, "en, daha, oysa, gibi vb." karşılaştırma ve benzetme bildiren sözlere dikkat edilmelidir. Buna göre, "kendi kendine konuşmanın… yeni kavramları öğrenmelerini kolaylaştırdığı" ifadesinden erken yaşlarda kendi kendine konuşmanın, çocuklara bilişsel olarak yarar sağladığı yargısına kesin olarak ulaşılır.

ABCDE

5. Cümle analizi sorularında öncüldeki numaralanmış ifadelerle seçenekler eş zamanlı olarak okunmalıdır. Buna göre, IV. cümlede oyunların yönetmenlerin puanlamasından sonra temsil edileceği değil, festivalde oyunların geliştirilmesi için yarışmacıların yönetmenlerle tanıştırılacağı, çeşitli seminerlere katılacağı ifade edilmiştir. Diğer seçeneklerdeki ifadeler öncüllerdeki cümlelerle uyuşmaktadır.

ABCDE

6. Parçada başkasının malına güvenerek iş yapanın, başarıya ulaşamayacağından söz edilmiştir. Bu düşünceyi en yakın "Eğreti ata binen, tez iner." atasözü karşılamaktadır.

BCDE

7. Parçada birçok kalıntının sular altında kaldığından bahsedilmiştir ve yöre halkının bu yere kalıntıların sular altından kalmasından ötürü "Saklısu" adını verdiği ifade edilmiştir. Dolayısıyla bu bilgilerden "Lmyra'daki kalıntıların birçoğunun su altında kalması nedeniyle yerel halk bu yere bir ad takmıştır." yargısına ulaşılır.

ABCDE

8. Parça oluşturma sorularında cümleler arasındaki anlamsal ve yapısal bağlantıya dikkat edilmelidir. Ayrıca hangi cümlenin giriş, gelişme ve sonuç niteliği taşıdığı belirlenmelidir. Buna göre, anlamsal ve yapısal bağlantıya dikkat edilerek cümleler dizildiğinde sıralama V - II - III - I - IV şeklinde olur. Baştan dördüncü, I. söz grubudur.

BCDE

9. Paragrafı ikiye bölme sorularında bir parçada aynı temanın farklı yönleri ele alınmaktadır, dolayısıyla konunun değiştiği bölüm ikinci paragrafın ilk cümlesidir. Buna göre, parçanın ilk iki cümlesinde stresin günlük hayatın bir parçası olduğundan fizyolojik ve psikolojik nedenlerle ortaya çıktığından bahsedilirken III. cümleden itibaren vücudun stresle başa çıkabilmek için birtakım salgılar ürettiğinden söz edilerek yeni bir konuya geçilmiştir.

ABCDE

İSEM YAYINCILIK
VIP EKİBİ
Telegram Kanalımız
@vip2022yedek
@vip2022yedek

10. Paragrafın akışını bozan cümleler genellikle soru düzenlenirken parçaya katılır. Bu cümlenin önceki ve sonraki cümleyle biçimsel bağlantısı da pek yoktur ya da zayıftır. Diğer cümlelerde kullanılan ortak öge, sözcük veya söz grupları bu cümlede yer almaz. O hâlde parçanın genelinde ses dalgalarının soğuk havada yavaş hareket ettiğinden bahsedilirken III. cümlede hava sıcaklığının yükseklik arttıkça azalacağından söz edilmiş ve parçanın anlam akışı bozulmuştur.

11. Paragrafta yer değiştirme sorularında genelden özele anlatıma ve yargılar arasındaki anlam bağlantısına dikkat edilmelidir. Buna göre, III. cümledeki "...ketçap dökmek için şişesini çalkalamamız ya da bir miktar sıkmamız gerekir." ifadesine kendisinden sonra çalkalama veya sıkma eylemlerinin gerekçesini bildiren V. cümlenin gelmesi gerekmektedir. Dolayısıyla IV ile V. cümleler yer değiştirdiğinde anlamsal bütünlük sağlanmış olur.

12. Cümle incelendiğinde "gerektiği, algılayabildiği" sözcüklerinde ünsüz yumuşaması (gerek-dik-i, al-gı-la-y-abil-dik-i), "köpekle" sözcüğünde ünlü düşmesi "köpek-ile), "gerektiği" sözcüğünde ünsüz benzeşmesi (gerek-tik-i) ve "kokuyu" sözcüğünde yardımcı ses (kok-u-y-u) vardır. Ancak cümlede ünlü değişimine örnek verilmemiştir.

13. Yol ve ulaşımla ilgili sözler ayrı yazılır. Buna göre "demiryoluyla" sözcüğünün doğru yazımı "demir yoluyla" şeklinde olacaktır.

14. Metin içinde -ınca / -ince anlamıyla zarf-fiil görevinde kullanılan mı / mi ekinden sonra virgül konmaz. Buna göre, B seçeneğindeki "mi" ekinden sonra kullanılan virgül yanlıştır.

15. Öncüldeki cümle, ögelerine aşağıdaki şekilde ayrılır:

Çok yorgun olan babam (özne) yarım kalan işini (belirtili nesne) bitirdi (yüklem) ve sessizce (zarf tümleci) yeşil koltuğa (dolaylı tümleç) oturdu. (yüklem)

16. Öncüldeki cümle olumsuzluk eki bulundurmadığı için anlamca ve biçimce olumludur, "…gemilerdir" yüklemi isim olduğu için çatı özellikleri aranmaz, "…gemilerdir" yüklemi isim olduğu için ad cümlesi ve yüklem sonda olduğu için kurallı cümledir, "tutmak, saplanan…" eylemsilerinin bulunduğu cümlede birden fazla yan yargı vardır. Ancak cümle yapıca bağımlı sıralı değil, eylemsi bulundurduğu için birleşik bir cümledir.

17. I, II, III ve V. sözcükler türemiş yapıdadır. I. sözcük (yak-la-ş-ık) hem fiilden isim hem de isimden isim yapma eki almıştır. II. sözcük (uz-un-luk-u-n-da) isimden isim yapma eki almıştır. III. sözcük (iş-le-t-il-en) hem isimden fiil hem de fiilden isim yapma eki almıştır. V. sözcük (geç-iş-ler-in) isimden isim yapma eki almıştır. Fakat IV. sözcük çekim eki almıştır ve basit yapılıdır.

18. Cümlede "bulur" geniş zaman kipiyle çekimlendiği için çekimli fiil, "-den beri" ve "enstrümanlarla" sözcüğündeki "-la" ilgeç, "modern enstrüman" sıfat tamlaması (modern sözcüğü enstrüman sözcüğünü nitelemiştir) ve "gerek… gerek" tekrarlı bağlaçtır. Ancak cümlede üstünlük zarfı kullanılmamıştır.

19. Öncüldeki altı çizili sözcükler incelendiğinde V. sözcükteki "bitkidir" sözcüğünün yapıca basit değil, "bitmek" eyleminden türeyen bir türemiş sözcük olduğu görülmektedir. Burada "bitmek" eylemi "bitki, tüy, saç vb. şeyler çıkıp yetişmek" anlamındadır.

İSEM YAYINCILIK
VİP EHBT
Telegram Kanallarımız
@vipyedek
@vip2022yedek

Diğer sayfaya geçiniz.

20. Parçanın genelinde sözcüklerle izlenim yaratıldığı ve resim yapıldığı için A seçeneğine, "… uykuyla sıkı bir pazarlığa tutuşmuştu." ifadesinden C seçeneğine, parçada kurallı ve devrik cümleler bir arada kullanıldığı için D seçeneğine ve "... gün, battıkça uzayan bir gölge misali..." ifadesinden E seçeneğine ulaşılır. Ancak parçada bir kavramın niteliklerini belirtmeye yani tanımlamaya yer verilmemiştir.



21. Parçadaki altı çizili sözle söz konusu kişinin müziğin uçsuz bucaksız dünyasında daldığı, anlatılmak istenmiştir.



22. Parçadaki "Dinî motiflerin ağırlıkta olduğu sözlü edebiyat döneminde…" ifadesinden I. öncüle ve "Bu dönem eserleri kopuz adı verilen sazla birlikte söylenirdi." ifadesinden de II. öncüle ulaşılır.



23. Parçadaki "Sözlü edebiyat dönemine dair en güzel bilgileri ise Kâşgarlı Mahmut'un kaleme aldığı *Divanu Lugati't-Türk*'ten öğrenmekteyiz." ifadesinden "Sözlü Edebiyat Dönemi ürünlerinden bahseden bir kaynak var mıdır?" sorusuna cevap bulunabilir.



24. Parçadaki "… birçok ülkenin aksine Meksika'da 13 sayısı uğur kaynağıdır." ifadesinden B seçeneğine, "İlginç olan bir diğer bilgi ise meşhur Hammurabi Kanunları'nda 13. madde bulunmamaktadır." ifadesinden C seçeneğine, "Öyle ki ABD'de yapılan bir araştırmaya göre bu inanış insanlara ve yönetime binlerce dolar maliyete neden olmaktadır." ifadesinden D seçeneğine ve "Genel anlamda yabancı kültürde 13 sayısı uğursuz sayılıyor. Bu o kadar yaygın bir inanıştır ki insanlar evlerinin kapısına 13 numarasını vermez, otobüste veya uçakta bilet alırken kesinlikle 13 numaralı koltuğu tercih etmez…" ifadesinden de E seçeneğine ulaşılır. Ancak parçada kötülük getirdiğine inanılan 13 sayısı inancının dünyaya ABD'den yayıldığına değinilmemiştir.



25. Parçadaki "Aynı durum İbrani topluluğunda da vardır ve bu sayı uğursuz sayılır çünkü İbranicenin 13. harfi m'dir." (V) ve "M harfi de 'mavet' yani 'ölüm' anlamına gelen sözcüğün ilk harfi olduğu için sevilen bir sayı değildir." (VI) ifadelerinde bir sonucun gerekçesi bildirildiği için neden-sonuç ilişkisine yer verilmiştir.



26. Parçadaki "… bazı topluluklarda da bu sayının uğur getirdiğine inanılır. Buna Meksika'yı örnek verebiliriz…" ifadesinden A seçeneğine, "yabancı kültürde, 13 numaralı koltuğu" sözlerinden B seçeneğine, "rezervasyonlar, oteller, binalar" sözlerinden C seçeneğine ve parçanın genelinde 13 sayısının uğursuz sayılması hakkında bilgi verildiği için E seçeneğine ulaşılır. Ancak parçada alanında uzman bir kişinin sözünden yararlanılmamıştır.



27. - 30. sorular aşağıdaki bilgilere göre çözülmüştür.

Verilen bilgilere göre aşağıdaki gibi bir tablo yapılabilir:

	1. Gün	2. Gün	3. Gün	4. Gün	5. Gün
Merve	yüzme/ fitness	fitness/ yüzme	jimnastik	pilates	yoga
Öykü	jimnastik	pilates	yoga	fitness/ yüzme	yüzme/ fitness

Öncüllerde verilen bilgilere göre Merve'nin ikinci gün gittiği programa Öykü dördüncü gün gitmiştir. Merve yüzmeye pilatesten daha önceki bir gün gitmiştir. Ayrıca Merve'nin sırasıyla ve art arda jimnastik, pilates ve yogaya gittiği biliniyorsa Merve üçüncü, dördüncü ve beşinci gün art arda jimnastik, pilates ve yogaya gitmiş olur. Öykü ise birinci, ikinci ve üçüncü günlerde sırasıyla ve art arda jimnastik, pilates ve yogaya gitmiştir. Merve birinci ve ikinci günlerde yüzme ya da fitnessa, Öykü dördüncü ve beşinci günlerde yüzme ya da fitnessa gitmiştir.

27. Verilen bilgiler doğrultusunda yapılan tabloya göre Öykü beşinci gün yüzme ya da fitnessa gitmiştir.



28. Jimnastik ve pilatese Merve ve Öykü'nün aynı gün gitmesi mümkün değildir. Merve jimnastiğe üçüncü gün, pilatese dördüncü gün gitmiştir. Öykü ise jimnastiğe ilk gün, pilatese ikinci gün gitmiştir.



29. Merve birinci ve ikinci gün yüzme ya da fitnessa, üçüncü gün ise jimnastiğe gitmiştir. Öykü ise birinci gün jimnastiğe, ikinci gün pilatese, üçüncü gün yogaya gitmiştir. O hâlde haftanın ilk üç gününden birinde hem Merve hem de Öykü'nün gittiği program jimnastiktir.



30.

	1. Gün	2. Gün	3. Gün	4. Gün	5. Gün
Merve	yüzme	fitness	jimnastik	pilates	yoga
Öykü	jimnastik	pilates	yoga	fitness	yüzme

Öykü'nün fitnessa, yüzmeden önceki bir günde gittiyse fitnessa dördüncü gün, yüzmeye beşinci gün gitmiştir. Bu durumda Merve'nin ikinci gün gittiği programa Öykü'nün dördüncü gün gittiği bilindiğinden Merve, ikinci gün fitnessa, birinci gün yüzmeye gitmiş olur.



İsem yayıncılık

VIP TEKNİK

Telegram Kanalımız

@vip2022yedek

31.

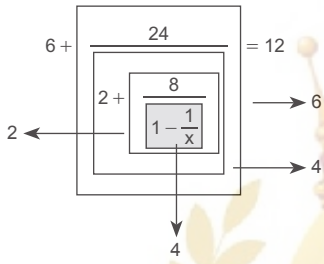

$1-\frac{1}{x}=4 \Rightarrow -3=\frac{1}{x} \Rightarrow x=-\frac{1}{3}$ bulunur.

ABCDE

32. $\frac{3^4\cdot 4^2+3\cdot 12^2}{3^4\cdot 12+3^2\cdot 4}=\frac{3^4\cdot 4^2+3\cdot 3^2\cdot 4^2}{3^5\cdot 4+3^2\cdot 4}$

$=\frac{3^3\cdot 4^2\cancel{(3+1)}}{3^2\cdot \cancel{4}(3^3+1)}=\frac{3\cdot 4^2}{28}=\frac{12}{7}$ bulunur.

ABCDE

33. $\sqrt[4]{\left(-\frac{1}{9}\right)^8\cdot 3^8}=\sqrt[4]{\left(-\frac{1}{3^2}\right)^8\cdot 3^8}$

$=\sqrt[4]{3^{-16}\cdot 3^8}=\sqrt[4]{3^{-8}}=3^{-2}=\frac{1}{9}$ bulunur.

ABCDE

34. $A=2\cdot 6+3\cdot 7+4\cdot 8+\ldots+12\cdot 16$

A toplamının ifadelerinde 2. çarpan 1. çarpanın 4 fazlasıdır.

$B=3\cdot 5+4\cdot 6+5\cdot 7+\ldots+13\cdot 15$

B toplamının ifadelerinde 2. çarpan 1. çarpanın 2 fazlasıdır.

$$\begin{array}{rl} & B=3\cdot 5+4\cdot 6+5\cdot 7+\ldots+13\cdot 15 \\ - & A=2\cdot 6+3\cdot 7+4\cdot 8+\ldots+12\cdot 16 \\ \hline B-A= & \underbrace{3\quad +3\quad +3\quad +\ldots+3}_{11 \text{ tane}} \end{array}$$

$B-A=33$

$B=A+33$ olup B sayısı A sayısından 33 fazladır.

ABCDE

35.

87	ab
k	4

ab = 21 için k = 3 olup işlemi sağlar.

ab = 20 çin k = 7 olup işlemi sağlar.

ab = 19 için k = 11 olup işlemi sağlar.

ab = 18 için k = 15 olup işlemi sağlar.

ab = 17 için k = 19 olup işlemi sağlamaz.

ABCDE

36. $\left(\frac{1}{11}\right)^{x^2-2x} \le \left(\frac{1}{11}\right)^{3x+14}$

Yukarıdaki gibi üslü eşitsizlikli ifadelerin çözümünde

$\left|\frac{1}{11}\right|<1$ olduğundan $x^2-2x \ge 3x+14$ olur.

$x^2-2x \ge 3x+14$

$x^2-5x-14 \ge 0$

$(x-7)\cdot(x+2) \ge 0$

	−2		7	
	+	−		+

$ÇK=(-\infty,-2]\cup[7,\infty)$ bulunur.

Buradan x'in en küçük pozitif değeri 7'dir.

ABCDE

37. $2^x=14 \Rightarrow 3<x<4$

$3^y=82 \Rightarrow 4<y<5$

$5^z=118 \Rightarrow 2<z<3$

x, y ve z sayılarının doğru sıralaması y > x > z'dir.

ABCDE

38. $\frac{a^2b-2a^2-ab^2+5ab-6a}{a-b+3}$

$=\frac{a(ab-2a-b^2+5b-6)}{a-b+3}$

$=\frac{a\cdot[a\cdot(b-2)-(b-2)\cdot(b-3)]}{a-b+3}$

$=\frac{a\cdot(b-2)\cdot\cancel{(a-b+3)}}{\cancel{a-b+3}}=ab-2a$ bulunur.

ABCDE

İSEM YAYINCILIK
VİP EKİBİ
Telegram Kanallarımız
@vipyedek
@vip2022yedek

Diğer sayfaya geçiniz.

39. $x \cdot y < 0$ ve $y \cdot z^2 > 0$ eşitsizlikleri yardımıyla $x < 0$, $y > 0$ bulunur.

z hakkında bir yorum yapılamaz.

Ayrıca x ve y'nin mutlak değerleri hakkında da bir yorum yapılamaz.

O hâlde $\frac{1}{x} < \frac{1}{y}$'dir.

Cevap: B

40. $\frac{(x^2-1)\cdot(x-3)}{x^2+4} \geq 0$

$x^2 - 1 = 0 \Rightarrow x = \mp 1$, $x - 3 = 0 \Rightarrow x = 3$

	–1		1		3	
	–	○	+	○	–	○	+

ÇK $= [-1, 1] \cup [3, \infty)$ bulunur.

Cevap: A

41. $a \oplus b = \begin{cases} a \cdot b, & a = b \\ a \cdot b + a - b, & a \neq b \end{cases}$

$(2 \oplus 2) \oplus 5 = (2 \cdot 2) \oplus 5 = 4 \oplus 5$

$4 \oplus 5 = 4 \cdot 5 + 4 - 5 = 19$ bulunur.

Cevap: A

42. $f(x) = x + 4$

$(fog)(x) = x^2 + 7$

$f^{-1}(x) = x - 4$

$f^{-1}o(fog)(x) = f^{-1}(x^2 + 7)$

$g(x) = x^2 + 3$ olur.

$g(2) + (gof)(-1) = 4 + 3 + 3^2 + 3 = 19$ bulunur.

Cevap: A

43. $x + 9y^2 + \underbrace{2z^2}_{Ç} + \underbrace{2y}_{Ç} = T$

x tek ise y çifttir.

x çift ise y tektir.

I. $x \cdot y$ çift sayıdır.

II. $x \cdot y + 4z = Ç + Ç = Çift$ sayıdır.

III. z'nin çift ya da tek olduğu bilinmediğinden x + z çift ya da tek olabilir.

Cevap: C

44. Sayı a8b olsun.

Furkan 8 yerine 2 ile işlem yaptığından

$a2b \cdot 0{,}25 = 181$

$a2b = 724$'tür.

Doğru sayı 784 olup $784 \cdot 0{,}25 = 196$ doğru sonuç olur.

Cevap: B

45. Mumların boyları EKOK (4, 6, 12) = 12 birim olsun.

1. mum saatte 3 birim,

2. mum saatte 2 birim,

3. mum saatte 1 birim yanar.

t saat sonra kalan boylara bakılırsa (12 – 3t), (12 – 2t), (12 – t).

(12– t) diğerlerinden daha uzun olacağından

$12 - t = 3 \cdot (12 - 3t + 12 - 2t)$

$12 - t = 72 - 15t$

$14t = 60$

$t = \frac{60}{14} = \frac{30}{7}$ saat bulunur.

Cevap: B

İSEM YAYINCILIK
VİP EKİBİ
Telegram Kanallarımız
@vipyedek
@vip2022yedek

Diğer sayfaya geçiniz.

46. $t \cdot (80 - 60) = 200 - 120$

$20t = 80$

$t = 4$ dakika bulunur.

ABCDE

47. Maliyet fiyatı: $100x$

Satış fiyatı: $100x + 30x = 130x$

%20 indirimli fiyatı: $130x \cdot \frac{20}{100} = 26x$

$130x - 26x = 104x = 416$

$x = 4$ olup gömleğin maliyeti 400 TL olur.

ABCDE

48. $\frac{1 \text{ litrelik}}{x}$ $\quad$ $\frac{5 \text{ litrelik}}{y}$

$-5 \,/\, x + 5y = 25$

$+ \quad 5x + 20y = 110$

$-5y = -15$

$y = 3, \quad x = 10$ olur.

O hâlde Aysun, 1 litrelik şişelerden 10 tane almıştır.

ABCDE

49. Telin başlangıç boyu $8x$ olsun.

$\frac{1}{8}$'i kesilirse geriye $8x - 8x \cdot \frac{1}{8} = 7x$ kalır.

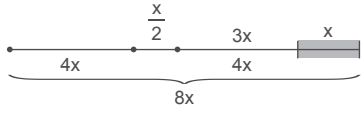

$\frac{x}{2} = 4 \Rightarrow x = 8$ cm olup telin boyunun uzunluğu 64 cm bulunur.

ABCDE

50. $\frac{\text{Ailenin yaşları toplamı}}{5} = 18$

Ailenin yaşları toplamı 90'dır.

6 yıl sonra

$\frac{90 + 5 \cdot 6}{6} = 20$ bulunur.

ABCDE

51. Kafilenin tamamı 200 kişi

$s(A \cup H) = s(A) + s(H) - s(A \cap H)$

$200 = 150 + 120 - s(A \cap H)$

$70 = s(A \cap H)$

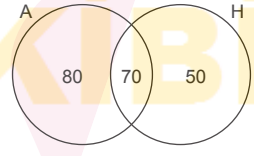

Sadece Arapça bilen 80 kişi vardır.

ABCDE

52. Dörtgen çizilebilmesi için 4 noktaya gerek vardır.

$\binom{5}{2} \cdot \binom{7}{2} = 10 \cdot 21 = 210$ bulunur.

ABCDE

İSEM YAYINCILIK
VİP EKİBİ
Telegram Kanallarımız
@vipyedek
@vip2022yedek

53 - 56. sorular aşağıdaki bilgilere göre çözülmüştür.

V numaralı bölge olan biberin açısı 120° dir.

53.

60	500
120	x

x = 1000 tane biber vardır.

ABCDE

54.

30	100
120	x

x = 400 tane biber vardır.

Toplam fidan sayısı ise 1200'dür.

$$\frac{800 + 400 + x}{2} = 400 + x$$

x = 400 bulunur.

ABCDE

55. Salatalık sayısı 60x, biber sayısı 120x olsun.

$$60x \cdot \frac{a}{100} = 120x \Rightarrow a = 200 \text{ bulunur.}$$

ABCDE

56. Her 4 m^2 ye bir fidan dikilirse 720 m^2 ye toplam 180 fidan dikilir.

360	90
180	x

x = 45 fidan dikilir.

ABCDE

57.

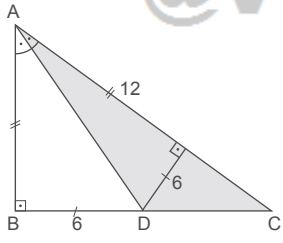

$$A(\widehat{ADC}) = \frac{12 \cdot 6}{2} = 36 \text{ cm}^2 \text{ bulunur.}$$

ABCDE

58.

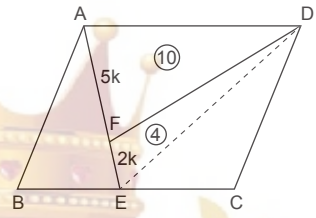

$2|AF| = 5|FE|$ ise

$|AF| = 5k$, $|FE| = 2k$'dir.

D ve E noktaları birleştirilirse $A(\widehat{AFD}) = 10\,cm^2$ olduğundan

$A(\widehat{DFE}) = 4\,cm^2$ olur.

ADE üçgeninin alanı ABCD paralelkenarının alanının yarısına eşit olduğundan

$A(ABCD) = A(\widehat{ADE}) \cdot 2$

$= 28\,cm^2$ bulunur.

ABCDE

59.

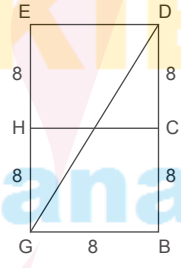

$|DG|^2 = |BD|^2 + |GB|^2$

$|DG|^2 = 8^2 + 16^2$

$|DG| = 8\sqrt{5}$ cm bulunur.

ABCDE

60. Doğru denklemi x-eksenine paralel ise doğrunun eğimi 0'dır.

$$\text{Eğim} = 0 = \frac{12 - 2k - 3k - 2}{2 - 4}$$

$$\Rightarrow \frac{10 - 5k}{-2} = 0$$

k = 2 bulunur.

ABCDE

İsem yayıncılık
VİP EKİBİ
Telegram Kanallarımız
@vipyedek
@vip2022yedek

1. Peçenekler, hem Orta Asya hem de Avrupa'da boy düzeyinde siyasi faaliyette bulunmuşlardır. Peçenekler hiçbir dönemde devlet kuramamıştır. Malazgirt Savaşı'nda Oğuzlar ile birlikte taraf değiştirerek Büyük Selçuklu ordusuna katılmışlardır. İslam ordularıyla savaşan Türk devletleri ise Hazarlar ve Türgişlerdir.

Cevap: A B C D E

2. Türklerde ilk kütüphane Uygurlar Dönemi'nde kurulmuştur.

Cevap: A B C D E

3. Malabadi Köprüsü - Artuklular Dönemi

Hatuniye Medresesi - Artuklular Dönemi

Leşkeribazar Sarayı - Gazneliler Dönemi

Cevap: A B C D E

4. Osmanlı Devleti'nde Balkanlar'da iskân siyaseti ilk olarak Orhan Bey zamanında gerçekleştirilmiştir. Osmanlı Devleti, Balkanlar'a Türklerin yerleşmesini teşvik etmek amacıyla, iskâna tabi olanlara toprak vermiş ve onlardan belirli bir süre vergi almamıştır (I). Ayrıca yeni yerleşim yerlerine gerekli olan malzeme devlet tarafından sağlanmıştır (III). Devşirme sistemi, kapıkulu ordusunun asker ihtiyacını karşılamak amacıyla uygulanmıştır. Devşirme sistemiyle alınan çocuklar Anadolu'daki ailelerin yanına verilmiştir.

Cevap: A B C D E

5. IV. Murat 1623-1640 yılları arasında Osmanlı tahtında bulunmuştur. Bu dönemde yaşanan gelişmelerden bazıları şunlardır:

- Yeniçerileri cezalandırarak İstanbul'da güvenliği sağlamaya çalışmıştır.
- Celali İsyanları'nı baskı ve şiddet yoluyla bastırmaya çalışmıştır.
- İstanbul'da içki ve tütün içmeyi yasaklamıştır.
- Koçi Bey'e duraklama ile ilgili raporlar hazırlatmıştır.
- 1635'te Revan, 1638'de Bağdat Seferleri'ni düzenlemiştir.
- 1639'da Kasr-ı Şirin Antlaşması imzalanmıştır.
- Revan ve Bağdat köşklerini inşa ettirmiştir.

Cevap: A B C D E

6. Osmanlı Devleti 1663'te, II. Viyana Kuşatması'nda başarısız olunca Avrupalı devletlerde Osmanlının Avrupa'dan atılabileceğine yönelik düşünceler güç kazanmıştır. Kutsal İttifak adı ile oluşturulan birlikle Rusya, Avusturya, Malta, Lehistan, Venedik Osmanlıya karşı saldırıya geçmiştir. Bu gelişmeden sonra toprak kaybetmeye başlayan Osmanlı Devleti'nde gerileme 1921 Sakarya Zaferi'ne kadar devam etmiştir.

Osmanlı Devleti'nde II. Viyana Kuşatması başarısızlığı ile başlayan bu geri çekiliş; toprak kayıpları, gelir-gider dengesinin bozulması, gayrimüslim nüfusun azalması, Anadolu'ya göçlerin yaşanması, Osmanlı sınırları içerisinde Müslüman nüfus oranının artması, halkın üzerindeki vergi yükünün fazlalaşması gibi sonuçlar doğurmuştur.

Haraç, gayrimüslimlerden alınan ürün vergisidir. Cizye, askere gitmeyen gayrimüslim erkeklerden alınan vergidir. Toprak kayıplarının haraç ve cizye gelirlerinde artışa neden olması beklenemez. Tam tersi gayrimüslim nüfusun azalması gayrimüslim halktan alınan bu vergilerde azalmaya ortam hazırlamıştır.

Cevap: B C D E

7. 1703'te yaşanan Edirne Olayı sonucunda II. Mustafa tahttan indirilmiş yerine III. Ahmet çıkarılmıştır. 1730'da yaşanan Patrona Halil İsyanı sonucunda ise III. Ahmet tahttan indirilmiş yerine I. Mahmut tahta çıkarılmıştır. Her iki olayda da taht değişikliği meydana gelmiştir. Ancak her iki olay da XVII. yüzyılda değil, XVIII. yüzyılda yaşanmıştır. Ayrıca iki olayda da Rusya'nın kışkırtması söz konusu değildir.

Cevap: A C D E

8. Fransız İhtilali 1789'da meydana gelmiştir. İhtilalden sonra yayılan milliyetçilik akımıyla imparatorluklar içerisindeki uluslar ayrılıkçı isyanlara başlamıştır. Osmanlıya isyan eden ve ilk imtiyaz kazanan millet Sırplardır. Osmanlıdan ayrılan ilk millet ise Rumlardır. Fransız İhtilali neticesinde Osmanlı Devleti'nden Sırbistan, Karadağ, Romanya, Yunanistan, Bulgaristan ve Arnavutluk devletleri bağımsız olmuştur. Girit bölgesindeki Rumlar da 1908'de ayaklanarak adayı Yunanistan'a ilhak etmişlerdir. Ancak Mısır ve Cezayir'in Osmanlıdan ayrılması Fransız İhtilali ile değil Batılı devletlerin sömürgecilik amacıyla işgalleri neticesinde meydana gelmiştir.

Cevap: A C D E

9. Osmanlı Devleti'nde öşür vergisi Müslüman halktan alınan ürün vergisidir. Çiftbozan vergisi, toprağını üst üste üç yıl işlemeyen kişilerden alınan vergidir. Cizye, gayrimüslim erkeklerden askere gitmemeleri karşılığında alınan vergidir. Derbent resmi, yol ve geçitlerden alınan vergidir. Ancak ağnam vergisi gayrimüslimlerden alınan ürün vergisi değildir. Ağnam vergisi hayvanlar üzerinden alınan vergidir. Gayrimüslimlerden alınan ürün vergisi ise haraçtır.

Cevap: A B D E

İSEM YAYINCILIK
VİP EKİBİ
Telegram Kanalımız
@vipyedek
@vip2022yedek

10. 1386-1470 yılları arasında yaşayan Sabuncuoğlu Şerafeddin tıp alanındaki çalışmalarıyla tanınan bir bilim insanıdır. Amasya Darüşşifasında hekimlik yapmış ve Türkiye'de deneysel farmakolojinin öncüsü sayılmıştır. Sabuncuoğlu Şerafeddin'in 1469'da yazdığı *Mücerrebname*, tedavide kullanılan malzemeleri anlatan pratik el kitabı niteliğindedir. Sabuncuoğlu Şerafeddin, ayrıca Endülüslü hekim Ebül Kasım Zehravi'nin *Et-tasrif* adlı cerrahi kitabını *Kitab-ı Cerrahiye-i Haniye* (Kitabü'l Cerrâhiyyetü'l - Haniyye) adıyla Türkçeye çevirmiş ve Fatih Sultan Mehmet'e ithaf etmiştir.

Cevap: A

11. Osmanlı Devleti'nde; beylerbeyi, sancakbeyi ve vezirlere emekliye ayrıldıklarında kendilerine bir kazanın gelirinin tahsis edilmesine arpalık uygulaması denilmiştir.

İltizam: Osmanlılarda devletin vergi gelirlerini toplama yetkisini belirli bir süre için ve açık artırma yoluyla devretmesi, bu yetkiyi alanların da vergiyi devlete ödeyerek karşılığını vergi yükümlüsü kişilerden alması usulüdür.

Müsadere: Haksız kazanç sağlayan devlet memurlarının mallarına el konulmasıdır.

Muhassıl: Taşrada vergi toplayan memurdur.

İspenç: Gayrimüslimlerin ödediği arazi vergisidir.

Cevap: A

12. Mustafa Kemal;

- Kolordu Komutanı olarak Kafkas Cephesi'nde Muş ve Bitlis'in Ruslardan geri alınmasında,
- Mahmut Şevket Paşa komutasındaki Hareket Ordusu'nun Kurmay Başkanı olarak 31 Mart Ayaklanması'nın bastırılmasında,
- Yıldırım Orduları bünyesindeki VII. Ordu'nun komutanı olarak Suriye - Filistin Cephesi'nde İngilizlerin Halep'in kuzeyinde durdurulmasında etkili olmuştur.

Cevap: A

13. Büyük Taarruz düzenli ordu tarafından yapılmıştır. Birinci İnönü, İkinci İnönü, Kütahya-Eskişehir ve Sakarya Savaşları ise savunma savaşlarıdır. Bu savaşlarla Yunanistan, TBMM'yi ortadan kaldırıp Sevr Antlaşması'nı kabul ettirmeye çalışmıştır.

Cevap: B

14. **Amasya Genelgesi (22 Haziran 1919):** Amasya'da Millî Mücadele çalışmalarını sürdüren Mustafa Kemal, Rauf Bey (Orbay), Refet Bey (Bele) ve Ali Fuat Paşa (Cebesoy) ile birlikte bir bildiri hazırladı. Hazırlanan bildiri 15. Kolordu Komutanı Kazım Karabekir'in de onayı alındıktan sonra 22 Haziran 1919'da yayımlandı. Genelgeden sonra Mustafa Kemal "Artık İstanbul, Anadolu'ya hâkim değil bağlı olmak zorundadır." demiştir. Amasya Genelgesi'nde millet iradesine dayanarak yeni bir devlet kurmaya doğru gidildiği ortaya konmuştur.

Cevap: A

15. Türkçülük, İttihat ve Terakkiciler tarafından turancılık şeklinde yorumlanarak bütün dünya Türklerinin bir çatı altında toplanması çalışmalarına dönüşmüştür. Enver Paşa'nın Birinci Dünya Savaşı sırasında düzenlediği Sarıkamış Harekâtı'nın başarısızlıkla sonuçlanması turancı düşüncenin olanaksızlığını göstermiştir. Türkçülük akımı ise Kurtuluş Savaşı ile daha gerçekçi temellere oturmuş ve bir tür "Anadolu milliyetçiliği"ne dönüşmüştür.

Cevap: B

16. "Geçici bir hükûmet başkanı veya padişah vekili atamak doğru değildir." kararı padişaha bağlı olunmayacağını, geçici değil kalıcı olunacağını ve bağımsız hareket edileceğini göstermektedir.

Cevap: C

17. Başkomutanlık Kanunu, Büyük Millet Meclisinin 5 Ağustos 1921 günü yapılan iki gizli oturumundan sonra Rıza Nur Bey ve arkadaşlarının teklifi, oturum başkanı Dr. Adnan Bey'in oylaması ve oylamaya katılan 184 üyenin kabul oyu vermesi ile kabul edilmiştir. 5 Ağustos 1921'de Mustafa Kemal yasama, yürütme ve yargı yetkilerine 3 ay süreyle tek başına sahip oldu. Amaç, çabuk kararlar almak ve bu kararları uygulamaktı. Sakarya Meydan Muharebesi ve Büyük Taarruz sırasında ordunun başında "Başkomutan" sıfatıyla Mustafa Kemal vardır.

Cevap: A

18. Halide Edip Adıvar, Millî Mücadele'ye katılmış ve bu dönem hatıralarını *Türk'ün Ateşle İmtihanı* adlı eserinde toplamıştır. Hatıratın en önemli özelliği günü gününe yazılması ve gerçek şahıs, yer ve olaylardan bahsetmesidir. Bu eserle *Dağa Çıkan Kurt,* Kurtuluş Savaşı'nı konu edinen romanlardır.

Cevap: B

İsem yayıncılık
VIP EKİBİ
Telegram Kanallarımız
@vipyedek
@vip2022yedek

Diğer sayfaya geçiniz.

19. A, B, C ve E seçenekleri Kütahya-Eskişehir Savaşları'nın sonuçları arasında yer alırken, bu savaşlardan sonra İsmet Paşa'nın Batı Cephesi Komutanlığından alınması söz konusu olmamıştır. Gediz Taarruzu'nda yaşanan başarısızlıkta payı olduğu düşünülen Ali Fuat Paşa, Moskova büyükelçiliğine atandı. Bunun üzerine Batı Cephesi Komutanlığına Albay İsmet Paşa getirildi.

ABCDE

20. Kâzım Karabekir ile ilgili A, B, C, D seçeneklerinde verilen bilgiler doğru iken E seçeneğinde verilen bilgi yanlıştır. Moskova Antlaşması'nı TBMM adına Yusuf Kemal Tengirşenk başkanlığında bir heyet imzalamıştır.

ABCD

21. "Türk Medeni Kanunu" 4 Ekim 1926'da yürürlüğe girdi. Türkiye'deki Müslüman olmayan topluluklar, Lozan Antlaşması'nın kendilerine tanıdıkları haktan vazgeçtiklerini ve Türk Medeni Kanunu'na uymak istediklerini bildirdiler. Hükûmetçe de bu isteğin kabulüyle Avrupa devletlerinin müdahaleleri ortadan kalkmıştır. Patrikhane ve konsoloslukların mahkeme kurma yetkileri de sona ermiştir.

ABCE

22. Türkiye, Milletler Cemiyeti'ne İspanya'nın önerisi, Yunanistan'ın desteğiyle 1932'de üye olmuştur. Bu karar ile Türkiye Cumhuriyeti davet üzerine cemiyete üye olan ilk devlet oldu.

Sadabat Paktı; Türkiye, Irak, İran ve Afganistan arasında 1937'de imzalanmıştır.

Lozan Antlaşması'yla kurulan Boğazlar Komisyonu, 1936'da imzalanan Montrö Boğazlar Sözleşmesi'yle kaldırılmıştır.

1938'de bağımsız bir devlet statüsüne kavuşan Hatay, 1939'da Türkiye'ye bağlanmıştır.

Türk bayrağı taşıyan Bozkurt adlı gemi ile Fransız bayrağı taşıyan Lotus adlı gemi Midilli açıklarında çarpışmıştır. Bozkurt-Lotus Davası 1927'de Milletler Cemiyetine taşınmış ve Türkiye lehine çözümlenmiştir. Bu gelişme 1923-1930 arası dönemde yaşanmıştır.

BCDE

23. 1926'da İngiltere ile imzalanan Ankara Antlaşması'nda;

- Musul'un Irak'a bırakılması,
- Musul petrol gelirlerinin %10'unun 25 yıl boyunca Türkiye'ye bırakılması hükümleri vardır.

Bu antlaşma ile Türkiye-Irak sınırı belirlenmiştir. Türkiye-Suriye sınırı, 1921 yılında Fransa ile imzalanan Ankara Antlaşması ile çizilmiştir.

ABCE

24. Millet Partisi, Demokrat Parti içerisinde muhalif bir grubun partiden ihraç edilmesiyle 20 Temmuz 1948'de Ankara'da kuruldu. Parti kurucuları arasında; Fevzi Çakmak, Osman Bölükbaşı, Enis Akaygen, Yusuf Hikmet Bayur, Kenan Öner, Osman Nuri Köni, Mustafa Kentli ve Sadık Aldoğan vardı. Mareşal Fevzi Çakmak'ın fahri başkanlığını yaptığı partinin ilk genel başkanı Hikmet Bayur'dur. Millet Partisi 27 Ocak 1954'te Ankara 3. Sulh Ceza Mahkemesi'nde açılan dava sonucunda "Dinî esasa dayanan ve gayesini saklayan bir cemiyet olduğu" gerekçesiyle kapatıldı.

ABCE

25.

- Metrik sistem, yani kilogram ve metre sistemine geçilmesi inkılapçılık,
- Kılık kıyafet düzenlemesinin yapılması halkçılık ve inkılapçılık,
- Medreselerin kapatılması laiklik,
- Kapitülasyonların kaldırılması ise milliyetçilik ilkesiyle doğrudan ilgilidir.

Bu durumda A seçeneğiyle ilgili herhangi bir inkılap verilmemiştir.

BCDE

26. Türkiye 19 Şubat 1952'de NATO'ya üye olmuştur. 1953'te Balkan İttifakı'nda yer alarak güvenliğini sağlamlaştırmıştır. 24 Şubat 1955'te de Bağdat Paktı'nı imzalamıştır.

ABCD

27. Bağımsızlığını korumak için ekonomik kalkınma çabası içine giren Orta Doğu ülkelerine ekonomik yardım yapmak, isteyen ülkelere askerî yardımda bulunmak, bu ülkelerin istemeleri şartıyla komünizmin kontrolü altında bulunan bir ülkeden gelecek açık silahlı saldırılar karşısında, Amerikan silahlı kuvvetlerinin kullanılmasını amaçlayan doktrin 9 Ocak 1957'de ABD kongresi tarafından yayımlanmış ve Eisenhower Doktrini olarak literatürdeki yerini almıştır.

ABCE

İSEM yayıncılık
EKİBİ
Telegram Kanallarımız
@vipyedek
@vip2022yedek

Diğer sayfaya geçiniz.

28.

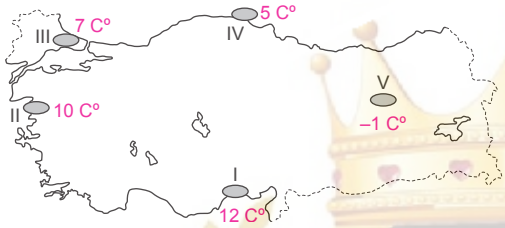

Haritada verilen merkezlerden Ekvator'a yakın olan alan, uzak alana göre daha sıcak ise bu enlem etkisine uygun bir dağılımdır.

Seçeneklerde verilen A, B, C, D buna uygundur. Ancak E seçeneğindeki V numaralı merkez daha güneyde olmasına rağmen III'e göre soğuktur. Bu durum enlem etkisine ters bir örnektir. Sıcaklık farkı karasallık ve yükselti ile açıklanabilir.

ABCDE

29. Verilen ovalardan;

Ereğli ve Ergene tektonik,

Korkuteli ve Tefenni karstiktir.

Silifke Ovası bir delta olup ikili gruplamanın dışında kalır.

ABCDE

30. Dağların denize paralel uzandığı Akdeniz ve Karadeniz, boyuna kıyı özelliği sergiler. Bu tip kıyılarda B, C, D ve E seçeneklerinde verilen durumlar gözlenir.

A'da verilen özellik ise dağların denize dik uzandığı Ege kıyıları (enine) için geçerlidir.

ABCDE

31. Kayseri'de Erciyes, Bitlis'te Nemrut, Ağrı'da Büyük ve Küçük Ağrı dağları ve Niğde'de Hasan ve Melendiz volkanik dağları bulunur. Siirt'te böyle bir örnek olmadığından yanardağların aktifleşmesi hâlinde volkanik deprem görülmesi beklenmez.

ABCDE

32.



Haritada numaralanmış yöreler sırasıyla,

I. Kura – Aras Kapalı Havzası

II. Van Gölü Kapalı Havzası

IV. Tuz Gölü Kapalı Havzası

V. Göller Yöresi Kapalı Havzası'dır.

III numaralı bölge Fırat Nehri'nin aktığı bir yer olup sularını Basra Körfezi'ne kadar ulaştırmakta ve açık havza özelliği göstermektedir.

ABCDE

33.



Menderesler çizerek ilerleyen akarsuyun akış hızı düşer ve buna bağlı olarak akarsuların yanlara aşındırması artar. Derine aşındırma etkisi azalır. Yine vadisi sığ olduğundan taraçalanma gözlenmez. I ve IV'te verilen durumlar bu tip akarsular için söylenemez.

II ve III'teki durumlar yaşanır. Eğimin azalmasıyla yavaş akan nehrin ortasında ırmak adası oluşumu gözlenir ve vadi yatakları derin olmadığından taşkın olasılığı artar.

ABCDE

İSEM YAYINCILIK
VİP EKİBİ
Telegram Kanallarımız
@vipyedek
@vip2022yedek

Diğer sayfaya geçiniz.

34.

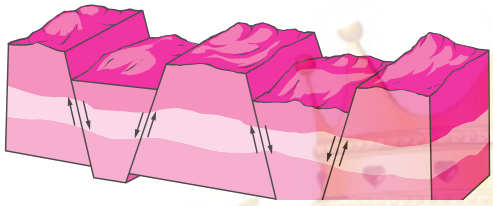

Verilen görseldeki kaynak, fay kaynağıdır. Fay kaynakları yerin derinliklerinde magma tarafından ısıtılan sıcak sulara sahiptir. Bu sıcak sular derinlerde kayaları erittiğinden suyun mineral oranı da yüksektir.

A, B, C'deki özellikler karstik kaynaklarda gözlemlenir. D'deki özellik yine karstik kaynakların yüzeye çok yakın olduğu arazilerde gözlemlenebilir.

ABCDE

35.

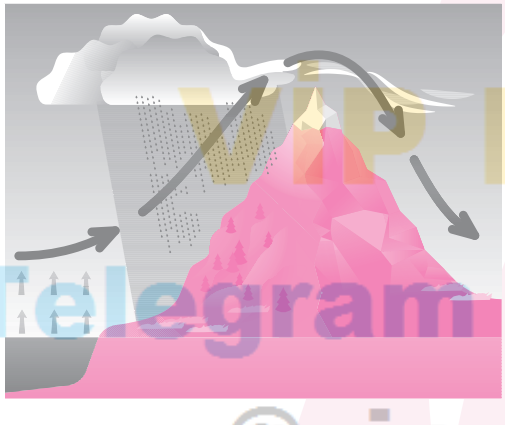

Orografik yağışlar kıyıya paralel dağ sıralarının denize dönük yamaçlarında gerçekleşir. Verilen merkezlerin tümünde yamaç yağışları görülür ancak Samsun'un gerisindeki Canik Dağları'nın yükseltisi az olduğundan yoğuşma daha düşük düzeyde olacak ve yağış miktarı azalacaktır.

ABCDE

36. Tor topoğrafyasına ülkemizde Bursa-Uludağ ve Aydın - Çine yörelerinde rastlanmaktadır.

ABCDE

37. Türkiye'nin nüfus yapısıyla ilgili verilen I ve III numaralı bilgiler doğrudur. Nüfus bölgelere dengeli bir dağılım göstermemektedir. Daha çok batı bölgelerimizde yoğunlaşan nüfusun doğuda seyrekleştiği gözlenir. Ayrıca nüfus artış hızının en düşük olduğu dönem 1923'ten bu yana 2020'de yaşanmıştır. Salgın süreci bu durumu belirleyen en önemli unsurdur.

II'de verilen bilgi ise hatalıdır. İstihdamda en büyük pay hizmet sektörüne aittir.

ABCDE

38.

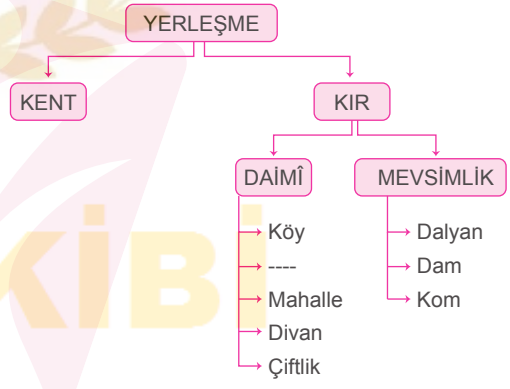

Verilen kavram haritasındaki boşluğa mezra getirilmelidir. Türkiye'deki kırlarda daimî yerleşmelerin görüldüğü köy dışı yerleşmeler mahalle, divan, mezra ve çiftliklerdir.

ABCDE

39. Neolitik Dönem'de tarım, insan hayatına girmiş ve köy tipi yerleşmeler ortaya çıkmıştır. Bu dönem yerleşmeleri arasında Çayönü, Hacılar, Çatalhöyük, Cafer Höyük, Aşıklı Höyük ön plana çıkar.

Yarımburgaz ve Karain, mağara tipi Paleolitik Dönem yerleşmelerindendir.

ACDE

İsem yayıncılık
VIP EKİBİ Telegram Kanallarımız @vip2022yedek @vip2022yedek

Diğer sayfaya geçiniz.

40. İç Anadolu Bölgesi şeker pancarı (Konya), patates (Niğde) ve Konya, aspir (Ankara) ve arpa (Konya) üretiminde Türkiye'de ilk sırayı alır.

Kırmızı mercimek üretiminde ise Güneydoğu Anadolu (Şanlıurfa) ilk sıradadır.

ABCDE

41.



Haritadaki numaralı yöreler;

I ➜ Van (Koyun yetiştiriciliği)

II ➜ Ordu - Giresun (Arıcılık)

III ➜ Diyarbakır (İpek böcekçiliği)

IV ➜ Antalya (Kıl keçisi)

V ➜ Ankara (Tiftik keçisi yetiştiriciliği)

III numaralı bölgede büyükbaş hayvancılık ön planda değildir.

Ülkemizde büyükbaş hayvancılıkta Konya ve Erzurum önemli yetiştiriciler arasındadır.

ABDE

42. Dünya üretiminde ilk sırayı incir alır.

Devlet kontrolünde tütün yetiştirilir.

İhtiyacın bir kısmı mısır ithalatıyla karşılanır.

Çayın tümü Karadeniz'in doğu kıyılarında yetiştirilir.

Verilen özellikler zeytin ile eşleşmez.

ABCD

43. Küre'de çıkarılan bakır Samsun'da işlenir.

Hekimhan'da çıkarılan demir İskenderun'da işlenir.

Köyceğiz'de çıkarılan krom Antalya'da işlenir.

Bigadiç'in boru Bandırma'da işlenir.

Ancak Seydişehir'de çıkarılan boksit yine Seydişehir'de işlenerek alüminyuma çevrilir.

BCDE

44. Hızla sanayileşen bir bölgede ulaşım canlanır ve çalışmak için gelen insanlar nedeniyle nüfus artar.

Ancak bu bölgede enerji üretiminin artma durumu hakkında kesin bir fikir yürütmek doğru olmaz.

Enerji tüketimi kesinlikle artacaktır ancak üretimin artma durumu ihtimal dâhilindedir.

BCDE

45. İstanbul, İzmir, Samsun ve Mersin için A, B, C ve E seçeneklerinde belirtilen bilgiler doğrudur. Bu merkezler, bölgeleri ve Türkiye için önemli birer hizmet kentleridir.

Ancak kruvaziyer turizm faaliyetleri seçenekler arasındaki İzmir ve İstanbul dışındaki limanlarda canlı değildir. Deniz turizm faaliyetlerinden olan kruvaziyer turizm gemilerle gerçekleştirilen bir faaliyet olup bu turizmde en canlı limanımız Kuşadası Limanı'dır.

ABCE

İsem yayıncılık

VİP EKİBİ

Telegram Kanallarımız

@vipyedek

@vip2022yedek

46. Normlar hiyerarşisinin sıralanışı şu şekildedir:

- Anayasa
- Kanunlar, OHÂL Cumhurbaşkanlığı Kararnamesi, Uluslararası antlaşmalar
- Cumhurbaşkanlığı Kararnamesi
- Yönetmelikler
- Genelge
- Adsız düzenleyici işlemler

ABCDE

47. Karma hukuk dalları şunlardır:

- Toprak hukuku
- Bankacılık hukuku
- İş hukuku
- Sosyal güvenlik hukuku
- Fikir ve sanat eserleri hukuku
- Çevre hukuku

ABCDE

48. TMK madde 2, "Herkes, haklarını kullanırken ve borçlarını yerine getirirken dürüstlük kurallarına uymak zorundadır. Bir hakkın açıkça kötüye kullanılmasını hukuk düzeni korumaz." demektedir. Bu maddeden de anlaşılacağı üzere dürüstlük kavramı hakkın kullanılması veya borcun yerine getirilmesi aşamasında dikkat edilecek olan bir durumdur.

ABCDE

49. Siyasi haklar ve ödevler şunlardır (aktif statü hakları):

- Türk vatandaşlığı
- Seçme, seçilme ve siyasi faaliyette bulunma hakkı
- Parti kurma, partilere girme ve partilerden ayrılma
- Siyasi partilerin uyacakları esaslar
- Kamu hizmetlerine girme hakkı
- Mal bildirimi
- Vatan hizmeti
- Vergi ödevi
- Dilekçe, bilgi edinme ve kamu denetçisine başvurma hakkı

ABCDE

50. Meclis iradesiyle (kendiliğinden değil) üyeliğinin düşürülmesi ve dokunulmazlığının kaldırılması kararlarına karşı 7 gün içinde Anayasa Mahkemesi'ne başvuru imkânı mevcuttur.

ABCDE

51. 12 yıl için seçilen Danıştay üyelerinin 3/4'ünü birinci sınıf idari yargı hâkim ve savcıları ile bu meslekten sayılanlar arasından Hâkimler ve Savcılar Kurulu; 1/4'ünü ise nitelikleri kanunda belirtilen görevliler arasından, Cumhurbaşkanı seçer. Danıştay Başkanı, başsavcı, başkan vekilleri ve daire başkanları kendi üyeleri arasından Danıştay Genel Kurulunca üye tam sayısının salt çoğunluğu ve gizli oyla 4 yıl için seçilir. Süresi bitenler yeniden seçilebilirler.

ABCDE

İSEM YAYINCILIK
VİP EKİBİ
Telegram Kanallarımız
@vipyedek
@vip2022yedek

Diğer sayfaya geçiniz.

52. Emniyet Genel Müdürlüğü ve Jandarma Genel Komutanlığı kolluk yetkileri ve idari açıdan İçişleri Bakanlığına bağlıdır.

53. Hakkında açılmış bir soruşturma bulunan bir belediye başkanının görevine son verme yetkisi Danıştay'a aittir.

54. Memurlarda yıllık izin süresi 10 yıla kadar 20 gün, 10 yılın tamamlanmasından sonra 30 gündür.

55. Türkiye; Avrupa Konseyi, Birleşmiş Milletler, Uluslararası Polis Teşkitalı ve Kuzey Atlantik Antlaşması Örgütüne üye iken Şanghay İşbirliği Örgütüne üye değil yalnızca diyalog ortağı durumundadır.

56. 2020 itibarıyla Yüksek Seçim Kurulu Başkanlığına Muharrem Akkaya seçilmiştir.

57. 2022 yılında Uyuşmazlık Mahkemesi Başkanlığına Celal Mümtaz Akıncı yerine Muammer Topal getirilmiştir.

58. 14 Nisan 2022'de UNESCO Dünya Belleği Kütüğü'ne alınan "Karatepe Kitabeleri" Osmaniye'nin Kadirli ilçesinde yer almaktadır.

59. Resmî Gazete'yi çıkarma ve ülkemizde millî yas ilan etme görevi Cumhurbaşkanı'na aittir.

60. Vatan sevgisinden bahseden ilk Türk lider Mete Han'dır.

İsem yayıncılık
VİP EKİBİ
Telegram Kanallarımız
@vipyedek
@vip2022yedek

Diğer sayfaya geçiniz.