AVALIAÇÃO DIAGNÓSTICA

INICIAL



MATEMÁTICA

1ª ano

ESCOLA: _____

_____

ESTUDANTE: _____

_____

TURMA: _____

Integra Educação PB

SECRETARIA DE ESTADO
DA EDUCAÇÃO E DA CIÊNCIA
E TECNOLOGIA

Somos todos PARAÍBA
Governo do Estado

Questão 1 - **(EI03ET01)**

Observe no quadro abaixo alguns tipos de brinquedos vendidos em uma tarde na loja de um shopping.



Segundo o quadro, de que material é feito o brinquedo que foi mais vendido?

A) ☐ Tecido

B) ☐ Madeira

C) ☐ Borracha

D) ☐ Ferro

Questão 2 - **(EI03ET01)**

Observe a imagem das figuras abaixo.

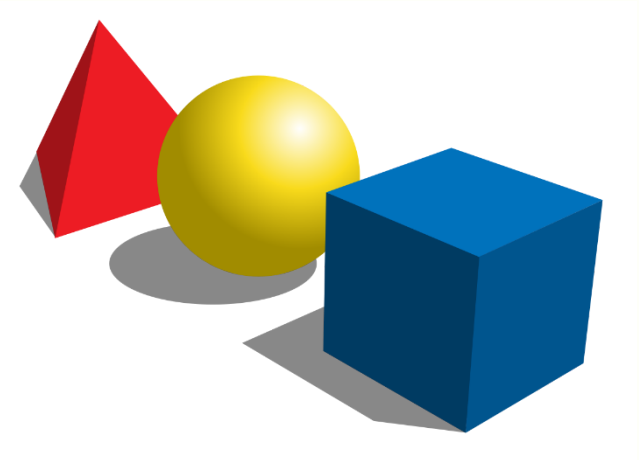

Qual delas tem a forma arredondada?

A) ☐ A figura de cor amarela

B) ☐ A figura de cor vermelha

C) ☐ A figura de cor azul

D) ☐ As três figuras têm a forma arredondada.

Questão 3 - **(EI03ET04)**

Observe a coleção de bolinhas de gude de Nelsinho e marque a resposta correta.



Qual a quantidade de bolinhas da coleção de Nelsinho?

A) ☐ 7 sete

B) ☐ 8 oito

C) ☐ 9 nove

D) ☐ 10 dez

Questão 4 - **(EI03ET04)**

Cada pino do jogo de boliche vale 2 pontos. Mariana conseguiu derrubar os cinco pinos mostrados na imagem abaixo. Qual o total de pontos feitos por ela?



A) ☐ 6

B) ☐ 7

C) ☐ 8

D) ☐ 10

Questão 5 - **(EI03ET05)**

Observe o formato da laranja e do lápis que a Tainá segura em suas mãos. Abaixo temos uma única alternativa correta. Qual das opções tem duas figuras parecidas com o que ela segura?

A) ☐ 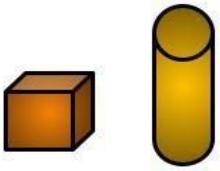

B) ☐ 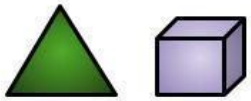

C) ☐ 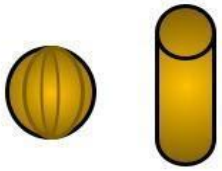

D) ☐ 



Questão 6 - **(EI03ET05)**

No quadro abaixo, temos os personagens do Integra e os estudantes na sala de atividades. Observe bem a imagem abaixo e escute atentamente o diálogo entre eles.



Agora, indique a quantidade de cubos que os estudantes têm para utilizar na sala de atividades.

A) ☐ 3

B) ☐ 5

C) ☐ 4

D) ☐ 6

Questão 7 - **(EI03ET07)**

Veja a imagem de um trenzinho que carrega números em sequência nos seus vagões.



PNG WING (adaptada).

Siga a sequência numérica e indique o número que faltou em um dos vagões.

A) ☐ 3

B) ☐ 5

C) ☐ 7

D) ☐ 4

Questão 8 - **(EI03ET07)**

Raquelzinha segura uma placa com um número.



Qual a opção abaixo que indica a quantidade de elementos referentes ao número que está na placa que Raquelzinha segura.

A) ☐ 

B) ☐ 

C) ☐ 

D) ☐ 

Questão 9 - **(EI03ET08)**

Raquelzinha e Nelsinho resolveram comparar suas alturas usando os palmos de suas mãos para medir.



Quantos palmos mediu Raquelzinha e Nelsinho, respectivamente?

A) ☐ Raquelzinha 5 palmos e Nelsinho 4 palmos.

B) ☐ Raquelzinha 3 palmos e Nelsinho 5 palmos

C) ☐ Raquelzinha 5 palmos e Nelsinho 6 palmos

D) ☐ Raquelzinha 4 palmos e Nelsinho 7 palmos

Questão 10 - **(EI03ET08)**

Observe a imagem abaixo. Quantos quadradinhos deveriam ser pintados para registrar a altura de Raquelzinha?



A) ☐ 5 quadradinhos

B) ☐ 8 quadradinhos

C) ☐ 6 quadradinhos

D) ☐ 10 quadradinhos