وزارة التربية	المجال الدراسي : فيزياء
التوجيه الفني العام للعلوم	امتحان الفترة الرابعة — الصف : العاشر
	العام الدراسي : 2013/2012 — الزمن : ساعتان

امتحان الصف العاشر- في الفيزياء
الفترة الرابعة
2013/2012

تأكد أن عدد صفحات الاختبار (6) ست صفحات مختلفة (عدا صفحة الغلاف هذه)

ملاحظات هامة :

- إجابتك إجابتان مختلفتان لسؤال واحد تلغي درجته .
- الإجابة المشطوبة لا تصحح و لا تعطى أي درجة .
- اقرأ السؤال جيداً قبل الشروع في الإجابة عنه .

يقع الامتحان في قسمين :

القسم الأول - الأسئلة الموضوعية (21 درجة):

و يشمل السؤالين الأول و الثاني و الإجابة عنهما إجبارية .

القسم الثاني – الأسئلة المقالية (33) درجة :

و يشمل السؤال الثالث و السؤال الرابع و السؤال الخامس و السؤال السادس و مطلوب الإجابة عن ثلاثة أسئلة فقط منها .

درجة الطالب = درجة الأسئلة الموضوعية (21 درجة) + درجة الأسئلة المقالية (44– 11= 33 درجة)

$= \frac{54}{2} = 27$ درجة

حيثما لزم الأمر أعتبر:

(ثابت كولوم) $k = 9 \times 10^9\ N.m^2/c^2$	(النسبة التقريبية) $\pi = 3.14$
(شحنة البروتون) $q_p = +1.6\times10^{-19}$ c	(شحنة الإلكترون) $q_e = -1.6\times10^{-19}$ c
(كتلة البروتون) $m_p = 1.7\times10^{-27}$ kg	(كتلة الإلكترون) $m_e = 9.1\times10^{-31}$ kg
(سرعة الصوت في الهواء) $v = 340$ m/s	(عجلة الجاذبية الأرضية) $g = 10$ m/s^2

مع تمنياتنا لكم بالتوفيق و النجاح

دولة الكويت	**العام الدراسي :** 2013/2012 **م**
وزارة التربية	**عدد الصفحات :** (6) **صفحات مختلفات**
التوجيه الفني العام للعلوم	**الزمن : ساعتان**

القسم الأول :

الأسئلة الموضوعية

• عدد أسئلة هذا القسم سؤالين والإجابة عليهما إجبارية.

السؤال الأول : (9 درجات)

(أ) ضع بين القوسين علامة (✓) أمام العبارة الصحيحة وعلامة (×) أمام العبارة غير الصحيحة فيما يلي :

1) ( ) الزمن الدوري لجسم يهتز بتردد Hz (50) يساوي s (0.02) .

2) ( ) إذا وصلت الموجات الصوتية المنعكسة إلي الأذن بعد زمن يزيد عن s (0.1) علي وصول الصوت الأصلي إليها فإنها تميز الصوت المنعكس بوضوح .

3) ( ) عندما تسري الالكترونات في سلك ما ، فإن عدد الالكترونات الذي يدخل من أحد طرفيه يكون أقل من عدد الالكترونات الذي يخرج من الطرف الأخر .

3

(ب) أكمل العبارات التالية بما تراه مناسباً علمياً :

1) الشكل المقابل يمثل موجة موقوفة (ساكنة) طولها الموجي بوحدة (cm) يساوي ..... .

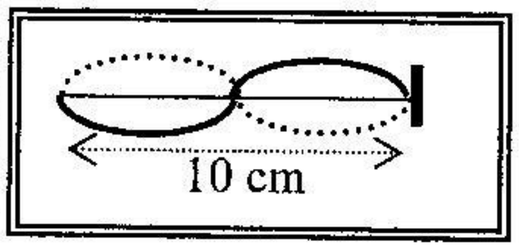

2) فقدان الكهرباء الساكنة الناتج عن انتقال الشحنات الكهربائية بعيدا عن الجسم يسمي ..... .

3) بطارية تبذل طاقة مقدارها (36) جول علي شحنة مقدارها (3) كولوم ، فإن فرق جهد هذه البطارية بوحدة (الفولت) يساوي ..... .

3

(ج) أكتب بين القوسين الاسم أو المصطلح العلمي الذي تدل عليه كل عبارة من العبارات التالية :

1) نصف المسافة التي تفصل بين أبعد نقطتين يصل إليهما الجسم المهتز . (.....)

2) التراكب بين مجموعة من الموجات من نوع واحد ولها التردد نفسه . (.....)

3) كمية الشحنات التي تمر خلال أي مقطع في الثانية الواحدة . (.....)

درجة السؤال الأول 9

السؤال الثاني :- (12 درجة)

ضع علامة (✓) في المربع الواقع أمام أنسب إجابة لكل من العبارات التالية :-

1. إذا كان تردد موجة تنتشر في الهواء Hz (20) وطولها الموجي m (0.5) ، فإن سرعة انتشارها بوحدة (m/s) تساوي :

❑ 0.025 ❑ 5 ❑ 10 ❑ 40

2. تختلف موجات الصوت الساقطة عن موجات الصوت المنعكسة في :

❑ التردد ❑ السرعة ❑ الطول الموجي ❑ اتجاه الانتشار

3. أفضل خط بياني يمثل العلاقة بين تردد وتر مهتز والجذر التربيعي لقوة شده عند ثبوت طوله وكتلة وحدة الأطوال منه هو :

❑ 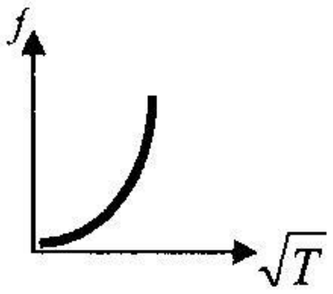

❑ 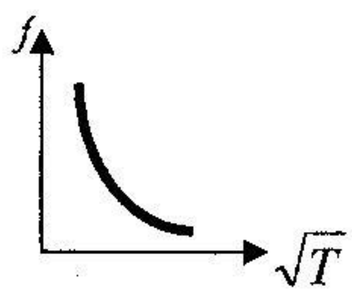

❑ 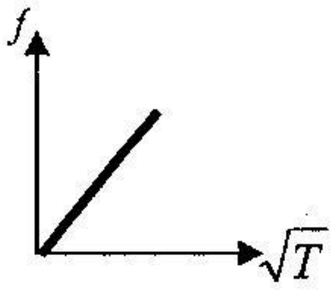

❑ 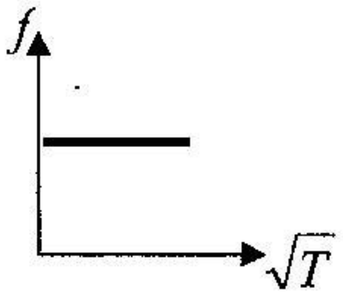

4. عند احتكاك (دلك) ساق من المطاط بقطعة فرو تتكون علي كل منهما شحنة كهربائية ساكنة وتكون :

	شحنة ساق المطاط	شحنة الفرو
❑	سالبة	موجبة
❑	سالبة	سالبة
❑	موجبة	موجبة
❑	موجبة	سالبة

5. واحدة فقط من المواد التالية تعتبر من الموصلات الجيدة لحركة الشحنات الكهربائية وهي :

❑ المطاط ❑ اللافلزات ❑ الفلزات ❑ الزجاج

6. موصل تجتاز مقطعه شحنة كهربائية مقدارها (300) كولوم كل دقيقة ، فإن شدة تيار الموصل بوحدة (الأمبير) تساوي :

❑ 0.2 ❑ 5 ❑ 300 ❑ 18000

7. الوحدة التي تستخدمها شركات الكهرباء في بيع الطاقة الكهربائية للمستهلكين هي :

❑ الكيلوواط- ساعة ❑ الجول ❑ الفولت ❑ الأمبير

8. الشكل المقابل يمثل أحد الرموز الشائعة المستخدمة في الدوائر الكهربائية وهو يرمز إلي :

❑ سلك ❑ مقاومة

❑ بطارية ❑ مفتاح مفتوح

درجة السؤال الثاني 12

القسم الثاني :

الأسئلة المقالية

*** عدد أسئلة هذا القسم أربعة أسئلة ومطلوب الإجابة علي ثلاثة أسئلة منها فقط .**

السؤال الثالث:- (11 درجة)

(أ) أولاً : الأشكال التوضيحية التالية تمثل ظاهرتان تحدثان للموجات الصوتية والمطلوب : – أكتب أسم كل منهما في الإطار الموجود أسفل كل شكل .

3

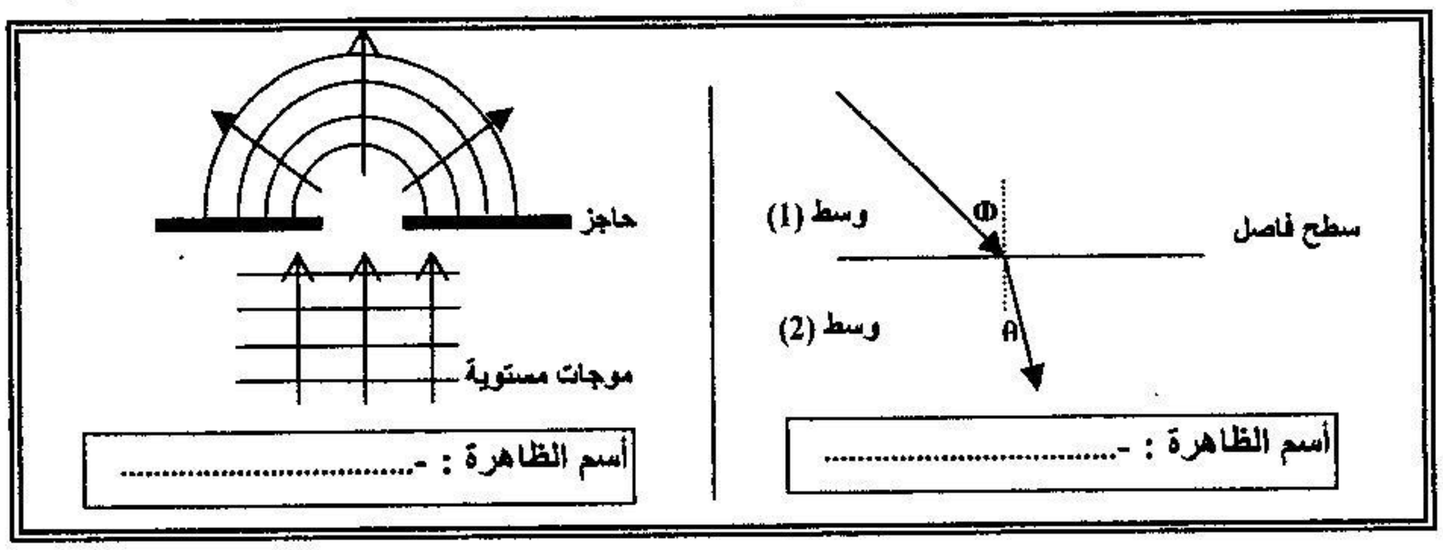

ثانياً : الشكل المقابل يمثل الكشاف الكهربائي (الإلكتروسكوب) والمطلوب :

أذكر (دون شرح) واحداً فقط من استخداماته .

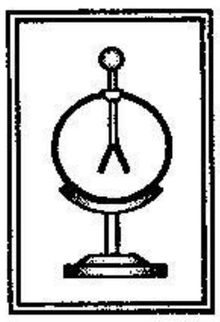

.....

(ب) علل لكل مما يلي تعليلاً علمياً دقيقاً .

3

1) يمكنك سماع الصوت الصادر من سيارة علي مسافة بعيدة في الليل ، ولا يمكنك سماعها في النهار.

.....

2) توصل المنصهرات Fuses علي التوالي مع خط إمداد الجهاز بالطاقة الكهربائية .

.....

5

(ج) حل المسألة التالية : –

ثلاثة مصابيح متشابهة ولها مقاومات متساوية قيمة كل منها Ω (6) متصلة معاً علي التوازي بمصدر جهده V (12) . احسب :

1 – المقاومة الكلية في الدائرة .

.....

2 – شدة التيار الكلي الناتج عن المصدر .

.....

3- الطاقة المصروفة في الدائرة خلال (5) ثوان .

.....

11 **درجة السؤال الثالث**

السؤال الرابع:- (11 درجة)

3

(أ) : قارن بين كل مما يلي :

وجه المقارنة	الموجات المستعرضة	الموجات الطولية
اتجاه حركة جزيئات الوسط بالنسبة لاتجاه انتشار الموجة	.....	.....
وجه المقارنة	نوع الشحنة المتكونة علي الطرف (a)	نوع الشحنة المتكونة علي الطرف (b)
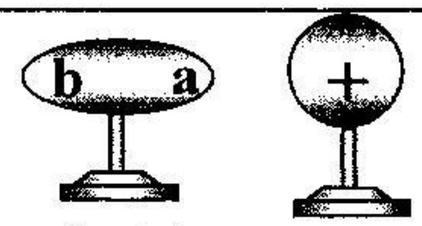 موصل غير مشحون	.....	.....

3

(ب) علي المحاور التالية ، أرسم المنحنيات أو الخطوط البيانية الدالة علي المطلوب أسفل كل منها

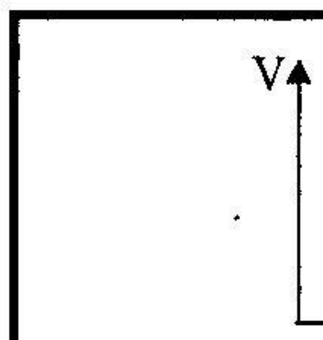	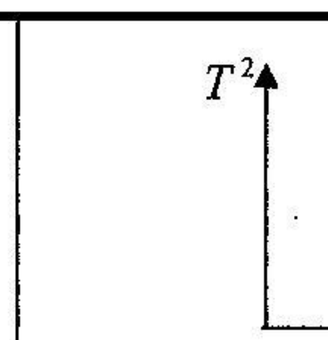
العلاقة بين شدة التيار المار في مقاومة أومية ثابتة وفرق الجهد بين طرفيها عند ثبات درجة الحرارة	العلاقة بين مربع الزمن الدوري لبندول بسيط (T^2) و طول خيطه (L) { بفرض ثبوت بقية العوامل }

5

(ج) حل المسألة التالية :-

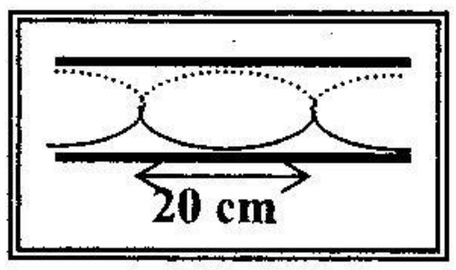

تكونت داخل عمود هوائي مفتوح عقدتان تبعدان عن بعضهما 20)cm(كما بالشكل المقابل والمطلوب حساب :

1- طول العمود الهوائي .

.....

.....

2- سرعة الصوت داخل العمود ، إذا علمت أن تردد الصوت الذي يصدره العمود 800) Hz) .

.....

.....

11

درجة السؤال الرابع

السؤال الخامس :- (11 درجة)

3

(أ) ما المقصود بكل مما يلي :

1 – الموجة :

.....

2– الموصلات الفائقة :

.....

.....

3

(ب) ماذا يحدث في كل من الحالات التالية مع ذكر السبب : –



1 – عند ملامسة الموصل (a) المعزول والمشحون بشحنة سالبة للموصل (b) غير المشحون والمعزول .

.....

.....

2 – إذا توقف أحد الأجهزة المتصلة معاً علي التوالي عن العمل .

.....

5

(ج) حل المسألة التالية : –

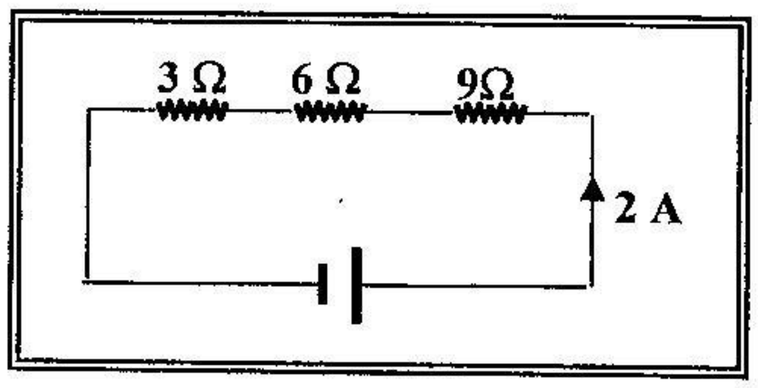

اتصلت ثلاثة مقاومات قيمها Ω (3 ، 6 ، 9) معاً علي التوالي كما بالشكل المقابل ، وكانت شدة التيار الذي يسري في المقاومات A (2) ، والمطلوب حساب :

1 – المقاومة الكلية للدائرة .

.....

.....

.....

2 – فرق الجهد الكلي بين طرفي الدائرة .

.....

.....

.....

3– القدرة الكهربائية المصروفة في الدائرة .

.....

.....

11

درجة السؤال الخامس

السؤال السادس :- (11 درجة)

3

(أ) اذكر العوامل التي يتوقف عليها كل مما يلي :

1 – الزمن الدوري لكتلة مهتزة معلقة في نابض مرن .

أ – ..... ب – .....

2– القوة الكهربائية المتبادلة بين جسمين مشحونين .

أ – ..... ب – .....

3

(ب) فسر كل مما يلي تفسيراً علمياً سليماً : –

1– تثبيت مانعة الصواعق أعلي المبني ووصلها معدنياً بالأرض .

.....

.....

2– عند انطفاء أحد المصباحين الموضحين بالشكل المقابل يظل المصباح الأخر مضيئاً .

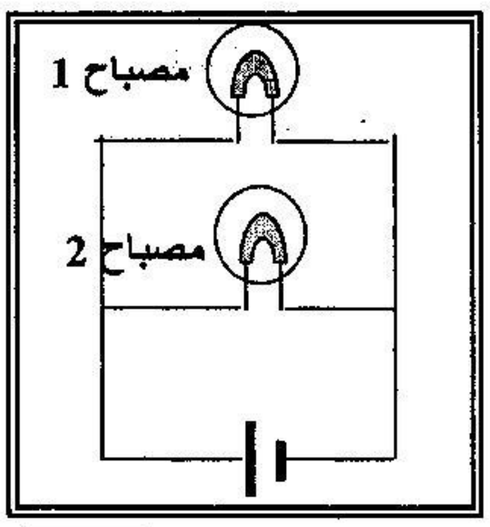

.....

.....

5

(ج) حل المسألة التالية : –

شُد وتراً طوله m (1) وكتلته g (20) بقوة مقدارها N (45) والمطلوب حساب :

1 – كتلة وحدة الأطوال من الوتر(μ) .

.....

.....

2 – تردد النغمة الأساسية التي يصدرها هذا الوتر .

.....

.....

3ـ تردد النغمة التوافقية الاولي للوتر .

.....

.....

11

درجة السؤال السادس

انتهت الأسئلة مع تمنياتنا للجميع بالتوفيق